السنة الأولى إبتدائي

الرياضيات
تلعيم اوقات في اليوم

الأستاذ أمين للإبتدائي

الوضعية 1

صل كل صورة بالتوقيت المناسب



وَجْبَةُ الغدَاء



قَهْوَةُ الصَّبَاح



قَهْوَةُ المَسَاء



وَجْبَةُ العَشَاء

7:00	20:00	12:00	16:00

الوضعية 2

اكتب التوقيت المساء



صَبَاحًا

... : ...



المَسَاء

... : ...



صَبَاحًا

... : ...



مُنْتصَف النَّهَار

... : ...

الوضعية 3

رتب الاحداث التالية من الصباح الى المساء



.....



.....



.....



.....



.....

www.dzexams.com

الوضعية 1

أجب بـ نعم أو لا

الأَبْقَارُ فِي إِسْتِقَامِية ؟ .....



الأَبْقَارُ فِي إِسْتِقَامِية ؟ .....



الوضعية 2

لون الحلزونات التي في إستقامية



الوضعية 3

لون كل مربعات في استقامية

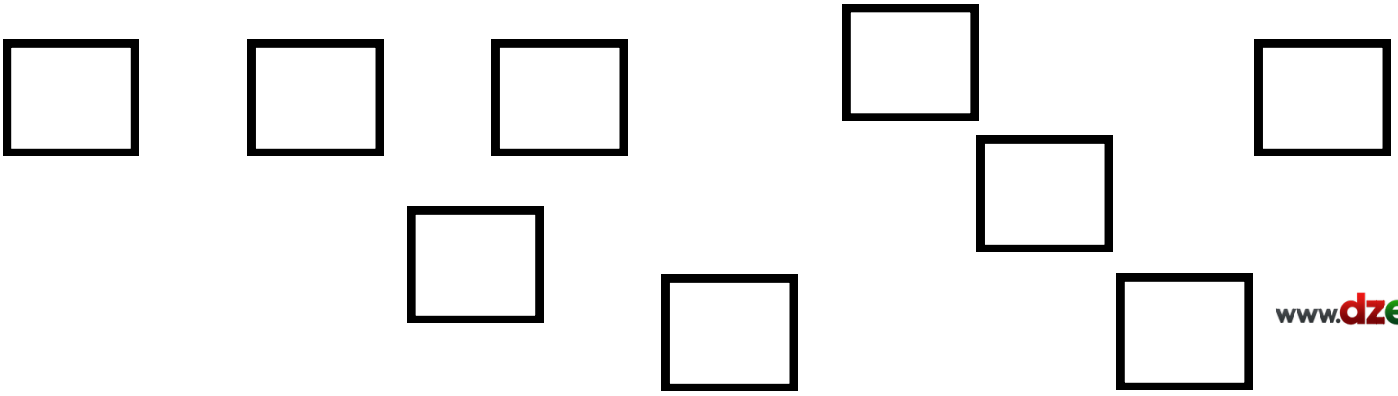

www.dzexams.com

السنة الأولى إبتدائي	الرياضيات الاعدد الى 39 (3)	الأستاذ أمين للإبتدائي

الوضعية 1

أكتب الأعداد بالحروف أو بالأرقام

سِتَّةٌ وَ ثَلَاثُونَ	33	خَمْسَةٌ وَ ثَلَاثُونَ	39	وَاحِدٌ وَ ثَلَاثُونَ	37
.....	.....	.....	.....	.....	.....

الوضعية 2

أكمل حسب المثال

32 = 10 + 10 +10 + 2

32 = 30 +2

25 = ... + ... + ... 25 = ... + ...	39 = ... + ... + ... + ... 39 = ... + ...	36 = ... + ... + ... + ... 36 = ... + ...

الوضعية 3

املأ الجدول في كل حالة

ع	و
.....	.....

الوضعية 4

أكمل الشريط العددي

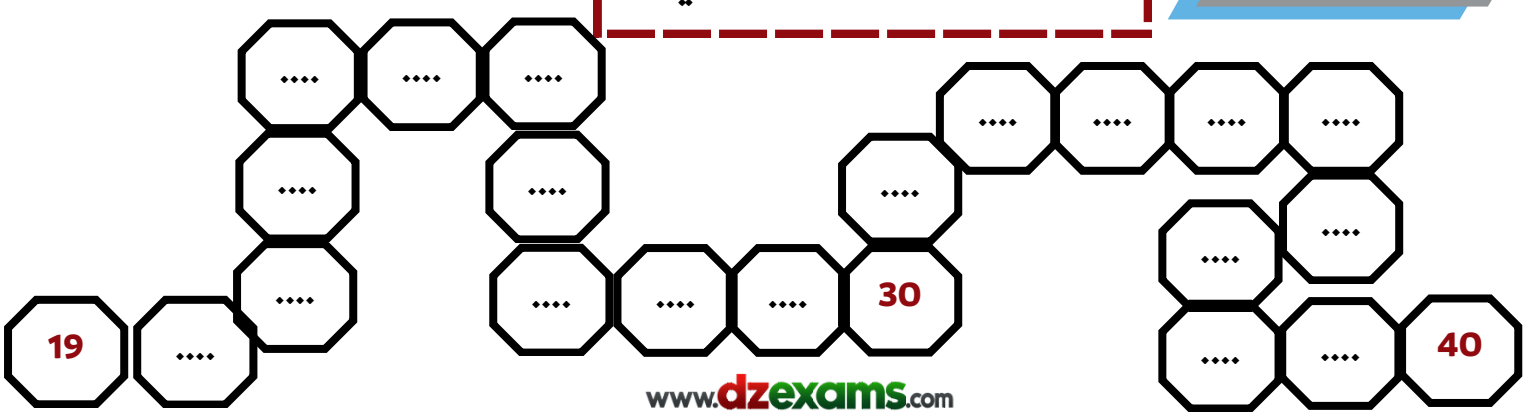

www.dzexams.com

السنة الأولى إبتدائي	الرياضيات كتابة معلومات في جدول	الأستاذ أمين للإبتدائي

الوضعية 1

أكمل بماينا سب

برنامج الاسبوعي لتلميذ السنة الأولى

الأحد : لُغَةُ عَرَبِيَة

الإثنين: رِيَاضِيَات

الثلاثاء: تَرْبِية إِسْلَامِية

الأربعاء : تَرْبِية عِلْمِيَة

الخميس : تَربِية مَدَنِية

اليوم	المادة
الأحد	.....
الاثنين	.....
الثلاثاء	.....
الأربعاء	.....
الخميس	.....

الوضعية 2

أكمل الجدول بوضع علامة x في الخانة المناسبة

	المَوْزُ	الفَرَاوِلَةُ	التُفَاحُ	الإجَاصُ	البُرْتُقَالُ
					
					
					
					
					

www.dzexams.com

السنة الأولى إبتدائي	الرياضيات وضعيات جمع أو طرح 2	الأستاذ أمين للإبتدائي

الوضعية 1



عِنْدَ آدَمْ 25 دينَارًا زَادَهُ أَبُوهُ 10 دَنَانِيرٍ .

كَمْ أَصْبَحَ عِنْدَ آدَم مِن دِينَار ؟

..... = ...

أَصْبَحَ عِنْدَ آدَم ..... دينَارًا

الوضعية 2



إِشْتَرَى الأَبُ 36 حَبَةَ بُرْتُقَالٍ أَكَلَتْ مِنْهَا العَائِلَةُ 23 حَبَةً.

كَمْ بَقِيَ مِنْ حَبَاتِ البُرْتُقَالِ ؟

..... = ...

بَقِيَ .....حَبَةَ بُرْتُقَالٍ

الوضعية 3



عَدَدُ إِنَاثِ السَنَةِ الأُولى 15 وَ عَدَدُ الذُكُورِ 14

مَاهُو عَدَدُ كُل تَلَامِيذِ السَنَةِ الأُولَى ؟

..... = ...

عَدَدُ تَلَامِيذِ السَنَةِ الأُولَى ..... تِلْمِيذًا

الوضعية 4



فِي سِباقِ الدَرَاجَات انْطَلَق 38 مُتَسَابِقًا اِنْسَحَبَ 15 مُتَسَابِقًا.

كَمْ مِنْ مُتَسَابِقٍ أَكْمَلَ السِبَاقَ ؟

..... = ...

أَكْمَلَ السِبَاقَ ..... مُتَسَابِقًا