السنة الأولى إبتدائي

الـرياضـيات
نموذج 1 لاختبار الفصل الثاني

الأستاذ أمين للإبتدائي

الوضعية 1

أحسب العمليات التالية بدقة

23 + 6 = ..	32 + 5 = ..	13 + 4 = ..	21 + 15 = ..	12 + 16 = ..	22 + 10 = ..
38 - 2 = ..	26 - 7 = ..	18 - 3 = ..	37 - 26 = ..	28 - 23 = ..	36 -16 = ..

الوضعية 2

أكتب أسعار الأدوات في الجدول

الأسعار	
..... دنَانِير	
..... دنَانِير	
..... دنَانِير	
..... دنَانِير	

30 ↓ 40 ↓ 60 ↓ 50 ↓

لون الموزات التي في استقامية واحدة بعد التحقق بمسطرتك



الوضعية 3

فكك الاعداد التالية

36 = ... + ... + ... + ...

22 = ... + ... + ...

36 = ...+ ....

22 = ...+ ....

أكتب العدد الممثل بقطع الوحدات و اعمدة العشرات

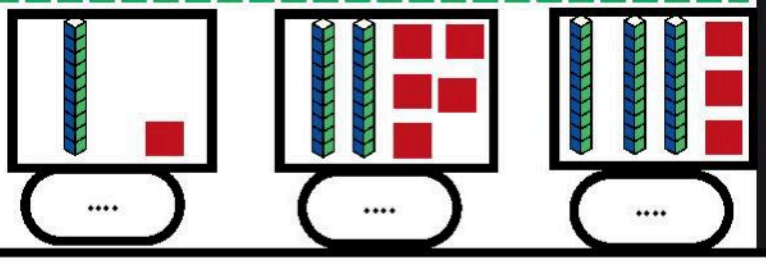

الوضعية 4

أكمل الشريط العددي

40 26

الوضعية الادماجية

فِي حَصَالةِ مَرْيَمْ 20 دينَارًا زَادَهَا أَبُوهَا 25 دِينَارًا .

كَم أَصْبَحَ عِندَ مَرْيَمْ ؟

العَمَلِية : ... = ... + ...

أَصْبَحَ عِنْدَ مَرْيَم ..... دِينَارًا





www.dzexams.com
www.dzexams.com

السنة الأولى إبتدائي 1

الـرياضـيات
اختبار الفصل الثاني

مدرسة :

الوضعية 1

أحسب العمليات التالية بدقة

21 + 15 = ..	12 + 16 = ..	22 + 10 = ..
37 - 26 = ..	28 - 23 = ..	36 -16 = ..

أكتب مواقيت الساعة

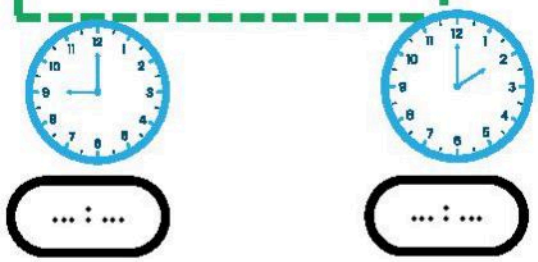

... : ...

... : ...

الوضعية 2

أكتب أسعار الأدوات في الجدول

الأسـعار	
..... دنَانِير	
..... دنَانِير	
..... دنَانِير	
..... دنَانِير	



لون الموزات التي في استقامية واحدة بعد التحقق بمسطرتك



الوضعية 3

فكك الاعداد التالية

... + ... +... + ... = 36

... +... + ... = 22

....+ .... = 36

....+ ...= 22

أكتب العدد الممثل بقطع الوحدات و اعمدة العشرات

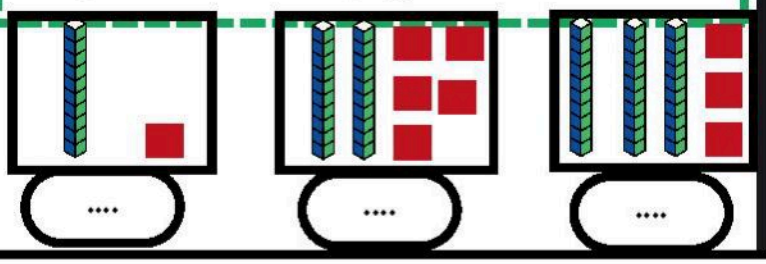

....

الوضعية 4

أكمل الشريط العددي



الوضعية الادماجية





فِي حَصَالةِ مَرْيَمْ 20 دينَارًا زَادَهَا أَبُوهَا 25 دِينَارًا .

كَم أَصْبَحَ عِندَ مَرْيَمْ ؟

العَمَلِية : ... = ... + ...

أَصْبَحَ عِنْدَ مَرْيَم ..... دِينَارًا

www.dzexams.com
www.dzexams.com

السنة الأولى إبتدائي 1

الـرياضيات
اختبار الفصل الثاني

مدرسة :

الوضعية 1

أحسب العمليات التالية بدقة

22 + 6 = ..	14 + 8 = ..	33 + 4 = ..
26 - 5 = ..	34 - 2 = ..	17 - 3 = ..

الوضعية 2

أكتب أسعار الأدوات في الجدول

الأسـعار	
..... دنَانِير	
..... دنَانِير	
..... دنَانِير	
..... دنَانِير	

30 ↓ 40 ↓ 60 ↓ 50 ↓

لون الموزات التي في استقامية واحدة بعد التحقق بمسطرتك

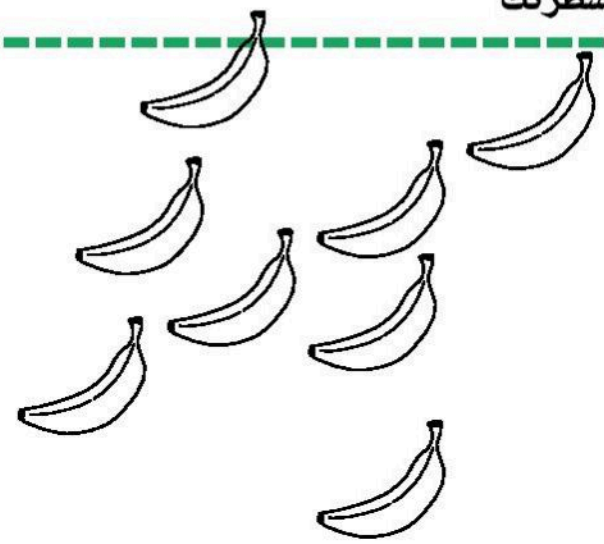

الوضعية 3

أكتب العدد الممثل بقطع الوحدات و اعمدة العشرات

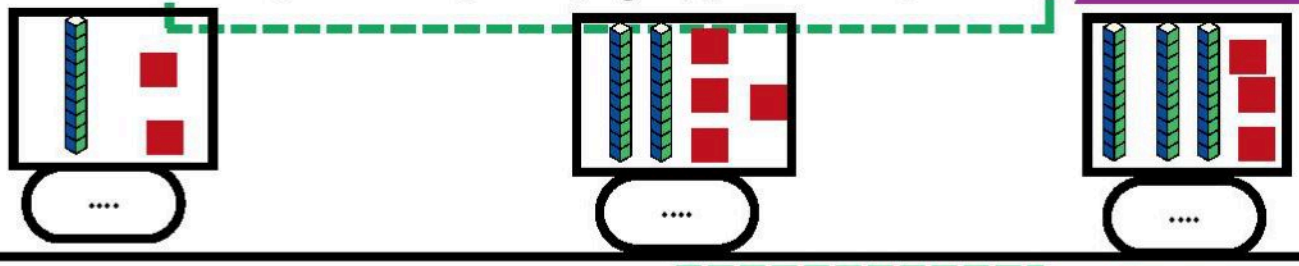

....

الوضعية 4

أكمل الشريط العددي

40 26



الوضعية الادماجية

غَرَسَ فَلَاحٌ 13 شَجَيرَةَ بُرْتُقَال و 6 شُجَيِرَات تُفَاح

مَا هُو عَدد كُل الشُجَيِرَات ؟

- العملية: ..... = ...

عَدد كُل الشُجَيِرَات .... شَجَيرَةُ



www.dzexams.com

السنة الأولى إبتدائي 1

الـرياضـيات
اختبار الفصل الثاني

الأستاذ أمين للإبتدائي

الاسم واللقب : .....

الوضعية 1

أكتب العدد الممثل بقطع الوحدات و اعمدة العشرات

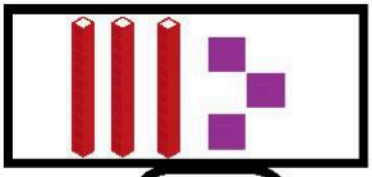

....



....



....

أُكتُب الأَعْدَادَ

بالحُرُوف: ....

الوضعية 2

لون حبات الفراولة التي في استقامية



الوضعية 3

1- أحسب العمليات التالية بدقة

23+13 = ..	34+21 = ..	39 - 22 = ..	28 - 13 = ..

2- فكك الاعداد التالية

35 = ... + ...	22 = ... + ...	14 = ... + ...	46 = ... + ...

أكتب مواقيت الساعة



صَبَاحًا

... : ...



مَسَاءً

... : ...

الوضعية 4

أكمل الشريط العددي



26	....	....	....	....	....	....	....	....	....	....	....	....	....	....	40

الوضعية الادماجية

رَكِبَ فِي حَافِلَةِ نَقْلِ المُسَافِرِينَ 36 مُسَافِراً نَزَلَ فِي المَحَطَةِ الأُولَى 11 مُسَافِرًا

- كَمْ بَقِي مِن مُسَافِرٍ فِي الحَافِلَةِ ؟

- العملية: ..... = ...

- بَقِي ..... مُسَافِرًا





www.dzexams.com

www.dzexams.com

السنة الأولى إبتدائي 1

الـرياضيات
اختبار الفصل الثاني

الاسم واللقب : .....

الوضعية 1

أكتب العدد الممثل بقطع الوحدات و اعمدة العشرات

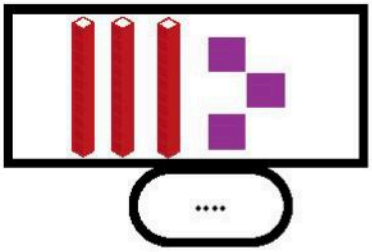

....



....



....

.....

.....

.....

الوضعية 2

لون حبات الفراولة التي في استقامية



الأسـعار	
..... دِينَارًا	
..... دِينَارًا	
..... دِينَارًا	
..... دِينَارًا	


30


40


60


50

الوضعية 3

1- أحسب العمليات التالية بدقة

23 + 10 = ..	11 + 21 = ..	39 - 22 = ..	28 - 13 = ..

2- فكك الاعداد التالية

35 = ... + ... 22 = ... + ... 14 = ... + ... 32 = ... + ...

الوضعية 4

أكمل الشريط العددي



40 26

الوضعية الادماجية

غَرَسَ فَلَاحُ 13 شَجَيرَةَ بُرْتُقَال و 22 شُجَيِرَات تُفَاح

مَا هُو عَدد كُل الشُجَيِرَات ؟

- العملية: ..... = ...

عَدد كُل الشُجَيِرَات .... شَجَيرَةُ



www.dzexams.com