الجمهورية الجزائرية الديمقراطية الشعبية

وزارة التربية الوطنية

المستوى: الأولى ابتدائي  الاسم واللقب: .....

مدرسة: الإخوة الثلاثة كويسي  الأستاذ : بونوالة عبد الرحمان

# اختبار الفصل الثاني في مادة الرياضيات

**التمرين الأول(2نقطة):** أُكْتُب الأَعدَادَ المتَمَثّلَة بِالأَعْمِدَةِ وَالوَحَداتِ فِي كُلّ خَانَةٍ

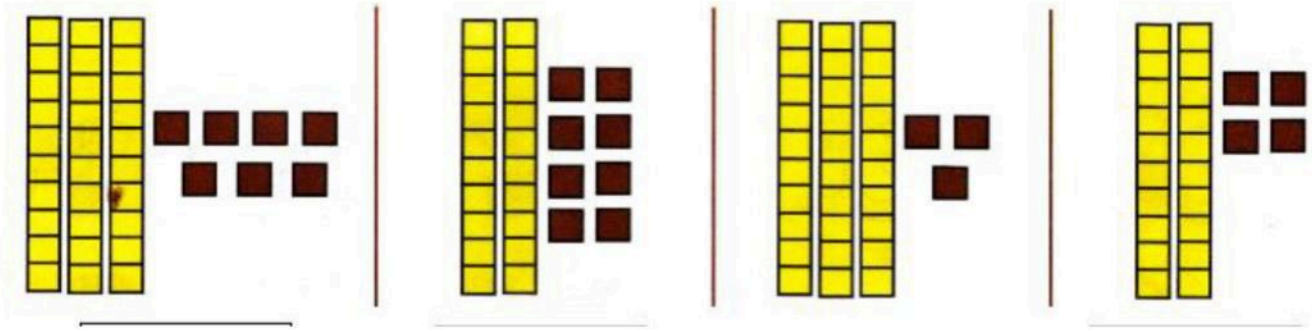

| ع | و |
|---|---|
| | |

العدد: .....  العدد: .....  العدد: .....  العدد: .....

**التمرين الثاني(1نقطة):** أُكْتُب أَسْعارَ الأَدَوَاتِ فِي الجَدْوَل




| الأَسْعَارُ | |
|---|---|
| | |
| | |
| | |
| | |

**التمرين الثالث (1.5نقطة):** صِلْ بِالْمِسْطَرَةِ لِلْحُصُولِ عَلَى أَشْكَالٍ



**التمرين الرابع (2نقطة):** أُحْسُبْ مَا يَلِي

| | |
|---|---|
| 10 + 6 = ..... | 9 - 4 = ..... |
| 21 + 7 = ..... | 5 - 3 = ..... |

www.dzexams.com

www.dzexams.com

التمرين الخامس (1.5نقطة): أُكْتُب الوَقْتَ الَّذِي تُشيرُ إِلَيْهِ السَّاعَةُ بالأَرقَامِ



.....



.....



.....

---

الوضعية الإدماجية (2 نقاط):



عِنْدَ نَبِيل 21 أَرْنَبًا ، وَإِشْتَرَى مِنَ السُوقِ 4 أَرَانِب.

❖ مَا هُوَ عَدَدُ كُلِ الأَرَانِبِ؟

عَدَدُ كُلِ الأَرَانِبِ هُوَ ..... أَرْنَبًا.

| العملية | ..... + ..... =..... |
|---|---|




بالتوفيق

www.dzexams.com
www.dzexams.com

# الإجابة النموذجية مع شبكة التنقيط لمادة الرياضيات.

| التمرين | الإجابة النموذجية | العلامة الجزئية | العلامة الكاملة |
|---|---|---|---|
| التمرين الأول | أُكْتُب الأَعدَادَ المُمَثَّلَة بِالأَعْمِدَةِ وَالوَحَداتِ فِي كُلّ خَانَةٍ<br>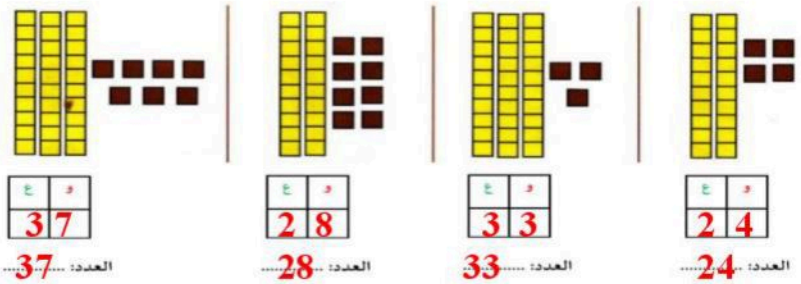<br>ع د 3 7 العدد: 37 ع د 2 8 العدد: 28 ع د 3 3 العدد: 33 ع د 2 4 العدد: 24 | 4×0.25<br>4×0.25 | 2ن |
| التمرين الثاني | أُكْتُب أَسْعارَ الأَدَوَاتِ فِي الجَدْوَل<br>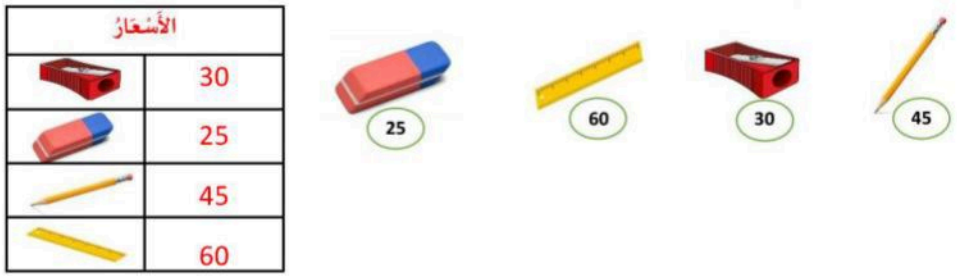<br>الأَسْعَارُ<br>30<br>25<br>45<br>60<br>25 60 30 45 | 4×0.25 | 1ن |
| التمرين الثالث | صِلْ بِالمِسْطَرَةِ لِلْحُصُولِ عَلَى أَشْكَالٍ<br>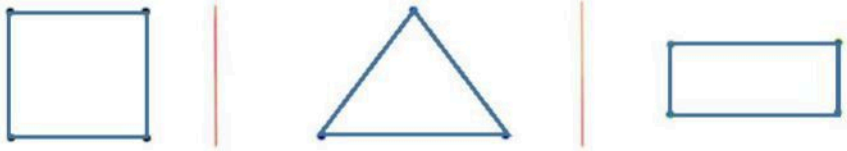 | 3×0.5 | 1,5ن |
| التمرين الرابع | العمليات:<br>10 + 6 = 16 ..... 9 - 4 = ..5..... 21 + 7 = 28..... 5 - 3 = ...2..... | 4×0.5 | 2ن |
| التمرين الخامس | التوقيت :<br><br>12:00 7:00 4:00 | 3×0.5 | 1.5ن |
| الوضعية الإدماجية | <br>عِنْدَ نَبِيل 21 أَرْنَبًا ، وَإِشْتَرَى مِنَ السُوقِ 4 أَرَانِب.<br>❖ مَا هُوَ عَدَدُ كُلِ الأَرَانِبِ؟<br>عَدَدُ كُلِ الأَرَانِبِ هُوَ 25 أَرْنَبًا.<br>العملية 21 + 4 =25 | 4×0.5 | 2ن |

www.dzexams.com

www.dzexams.com