المستوى: سنة أولى ابتدائي الاسم واللقب : .....

مدرسة : ..... السّنة الدراسية: 2025/2024

اختبار الفصل الثاني في مادة الرياضيات

الوضعية 1 : (2 ن)

أُكْتُبِ الأَعْدَادَ المُتَمَثِّلَة بِالأَعْمِدَةِ والوَحَدَاتِ فِي كُلِّ خَانَةٍ:

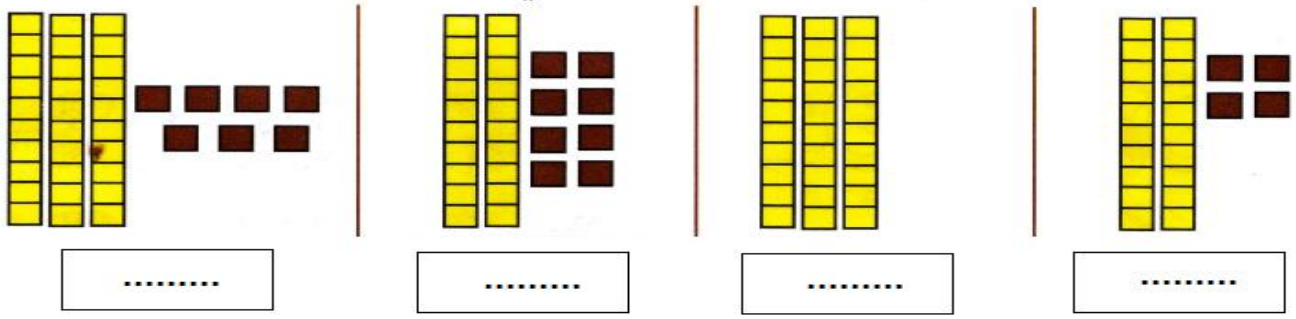

.....	.....	.....	.....

الوضعية 2 : (2.5 ن)

1أُقَارِنُ بَيْنَ كُلِّ عَدَدَيْنِ بِاسْتِعْمَالِ أَحَدِ الرُّمُوزِ (< ، > ، =)

25 . 25	31 . 29	12 . 21

2أُفَكِّكُ الْعَدَدَيْنِ كَمَا فِي الْمِثَالِ :

34 = 10 + 10 + 10 + 4
39 = . + . + . + .
26 = . + . + .

الوضعية 3 : (2 ن)

أَحْسُبُ الْعَمَلِيَّاتِ الآتِيَّةِ :

10 + 6 = ...	9 - 4 = ...
21 + 7 = ...	5 - 3 = ...

الوضعية 5 : (1 ن)

أُلَوِّنُ الْأَشْكَالَ الْمُتَشَابِهَةَ الّتِي هِيَ عَلَى اسْتِقَامِيَّةٍ:

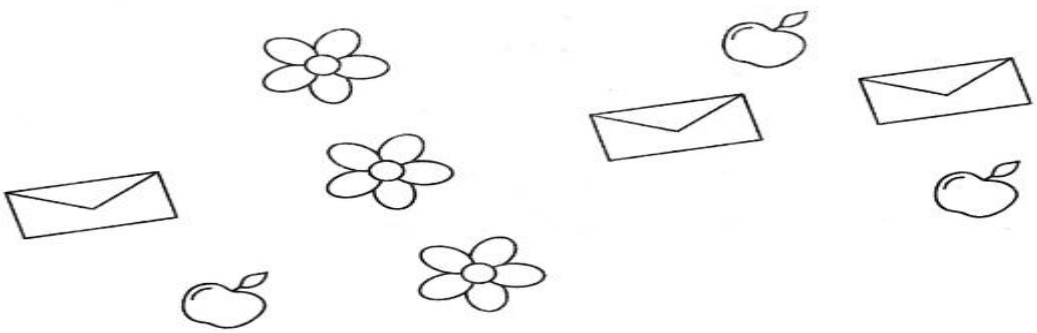

www.dzexams.com

الوضعية الادماجية :(2.5 ن)

عِنْدَ أَحْـمَدَ عُلْبَةُ أَقْلَامٍ مِنْ 36 قَلَمًا، بَعْدَ اسْتِعْمَالِهَا عِدَّةَ مَرَّاتٍ أَضَاعَ 8 قَلَمًا.



- أُشْطُبِ الْأَقْلَامَ الضَّائِعَةَ.
- مَا هُوَ عَدَدُ الْأَقْلَامِ الْبَاقِيَةِ؟
- الْأَقْلَامُ الْبَاقِيَةُ هِيَ ..... قَلَمًا.
- أَكْمِلِ الْعَمَلِيَّةَ . = . − .