مدرسة الحي التقدمي 2
السنة 1 ابتدائي
من إعداد الأستاذ حمزة قاقش

اختبار الفصل الثالث في الرياضيات (الموضوع الأول)

التمرين 1 أكْمِلْ الجَدْوَلَ:

العَدَدُ بِالأرْقَامِ	العَدَدُ بِالحُرُوفِ
37	.....
.....	أرْبَعَةٌ و خَمْسُون
88	.....

التمرين 2 : رَتِّبْ الأعْدَادَ التَّالِيَةَ تَرْتِيبًا تَصَاعُدِيًّا: 63 ، 36 ، 99 ، 12 ، 45

..... ، .... ، .... ، .... ، ....

التمرين 3: إمْلَأُ الجَدْوَلَ بِمَا يُنَاسِبُ:

السَّادِسَةُ مَسَاءً	.....
.....	02:00
التَّاسِعَةُ صَبَاحًا	.....

التمرين 4: أكْتُبْ إسْمَ كُلّ شَكْلٍ تَحْتَهُ:


.....


.....

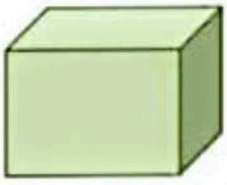
.....


.....

الوضعيّة الادماجيّة:

يَمْلِكُ عَبْدُ الله 40 دِينَارًا ، زَادَهُ أَبُوهُ 35 دِينَارًا .
كَمْ صَارَ يَمْلِكُ عَبْدُ الله ؟

صَارَ يَمْلِكُ عَبْدُ الله .....دِينَارًا. .....=.....

www.dzexams.com

Scanné avec CamScanner

مدرسة الحي التقدمي 2
السنة 1 ابتدائي
من إعداد الأستاذ حمزة قاقش

اختبار الفصل الثالث في الرياضيات (الموضوع الثاني)

التمرين 1: لاحظْ ثُمَّ أكْمِلْ الفَرَاغ:

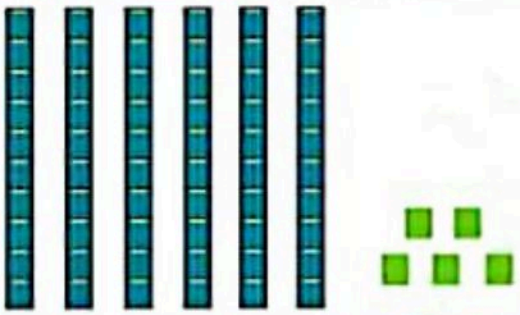

يُوجَدُ .....عَشَرَاتٍ وَ ..... وَحَدَاتٍ.

الْعَدَدُ الْمُمَثَّلُ هُوَ: .....

التمرين 2 : أكْمِلْ بِكِتَابَةِ (أكْبَرُ مِنْ، أصْغَرُ مِنْ، يُسَاوِي):

8+7.....15 27.....72

92.....52+40 34.....10+10+10+5

التمرين3: أكْتُبْ بِالأَرْقَامِ التَّوْقِيتَ الَّذِي تُشِيرُ إِلَيْهِ السَّاعَة:



.....	.....	.....	.....

التمرين4: لَوِّنْ أَوْجُه المُكَعَّبِ، وضَعْ إِشَارَةَ ✖ عَلى رُؤُوسِ الْبِلَاطِ القَائِمِ و مَرِّرْ بِخَطٍّ أَخْضَرَ عَلى أَحْرُفِهِ:



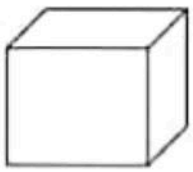

الوضعيّة الادماجيّة:

فِي الشَّجَرَةِ 65 تُفَاحَةً، سَقَطَتْ مِنْهَا 23 تُفَاحَةً.

- كَمْ بَقِيَتْ مِن تُفَاحَةٍ فِي الشَّجَرَةِ؟

بَقِيَتْ ..... تُفَاحَةً.

.....=.....

www.dzexams.com

Scanné avec CamScanner

مدرسة الحي التقدمي 2
السنة 1 ابتدائي
من إعداد الأستاذ حمزة قاقش

اختبار الفصل الثالث في الرياضيات (الموضوع الثالث)

التمرين 1 صِلْ بَيْنَ كُلّ بِطَاقَةٍ و الْعَدَدِ المُنَاسِبِ لَهَا:

5 عَشَرَاتٍ و 3 وَحَدَاتٍ	سَبْعَة و أَرْبَعون	53+35	عَشَرَةٌ

10	88	53	47

التمرين 2 : أُكْمِلْ حَسْبَ المِثَالِ: 39 + 1 = 30 + 9 + 1 = 30 + 10 = 40

68 + 2 = .. + .. + .. = .. + .. = ..

73 + 7= .. + .. + .. = .. + .. = ..

التمرين3: أَرْسُمْ عَقْرِبَيْ السَّاعَةِ لِتُشِيرَ إِلَى التَّوْقِيتِ المَكْتُوبِ:

			
21:35	15:45	10:10	00:20

التمرين4: صِلْ بِالمِسْطَرَةِ النُّقَطَ لِلْحُصُولِ عَلَى أَشْكَالٍ و سَمِّهَا:



....

الوضعيّة الادماجيّة:

يَمْلِكُ أَنَسُ 45 دِينَارًا ، إِشْتَرَى قَلَمًا بِـ 25 دِينَارًا.

- مَا هُوَ المَبْلَغُ الَّذِي بَقِيَ عِنْدَ أَنَس ؟

المَبْلَغُ الَّذِي بَقِيَ عِنْدَ أَنَس هُوَ ..... دِينَارًا. .....=.....

www.dzexams.com

Scanné avec CamScanner

مدرسة الحي التقدمي 2
السنة 1 ابتدائي
من إعداد الأستاذ حمزة قاقش

اختبار الفصل الثالث في الرياضيات (الموضوع الرابع)

التمرين 1: أحْسُبْ:

24 + 14 = ...	56 + 33 = ...	82 + 17 = ...

التمرين 2: أحْصُرْ كُلَّ عَدَدٍ بَيْنَ عَشَرَتَيْنِ مُتَتَالِيَتَيْنِ:

..... 65 .....

..... 31 .....

..... 83 .....

التمرين3: أكْمِلْ كِتَابَةَ التَّوْقِيتِ بِالأَرْقَامِ:



التمرين4: لاحِظْ رَسْمَ الحَافِلَةِ وَ أكْمِلْ بِالعَدَدِ المُنَاسِبِ:

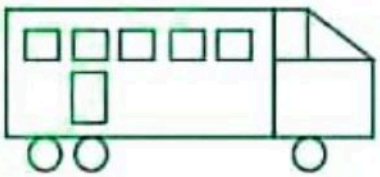

عَدَدُ المُرَبَّعَاتِ هُوَ .....

عَدَدُ المُسْتَطِيلَاتِ هُوَ .....

عَدَدُ المُثَلَّثَاتِ هُوَ .....

عَدَدُ الدَّوَائِرِ هُوَ .....

الوضعيّة الادماجيّة:

إشْتَرَى هِشَامٌ مِنْ مَحَلّ بَيْعِ الأَدَوَاتِ المَدْرَسِيَّةِ كُرَّاسًا بـ 40 دِينَارًا ، وَ قَلَمًا بِـ 25 دِينَارًا.

- مَاهُوَ ثَمَنُ الكُرَّاسِ وَ القَلَمِ مَعًا ؟

ثَمَنُ الكُرَّاسِ وَ القَلَمِ مَعًا هُوَ ..... دِينَارًا. .....=.....

www.dzexams.com

Scanné avec CamScanner