اخْتِـبار الثّلاثي الأول في مادة الرّياضيـات 2025/2026 الأستاذة رحاب-عباقرة الابتدائي

المدرسَـــةُ : اسمُ ولَقَبُ التّلميـــذ :

2

التّمرين 01 : أ - أكتُبُ بالأرقـام أو بالحـروفِ

82: ..... - **تِسْعـــةٌ وسَبْـعـــون :.....**

ب- أنجـزُ العمليـات الآتيـة عموديا

48+30	96-15	56+3=

التّمرين 02 : أ - قـارن باسْتعمال أحـد الرّمزيـن $<$ ، $>$

6+8 . 7	45 . 65	79 . 97	50 . 19

ب- أكمـلُ بالأعْدادِ المُناسِبَـةِ

- 20+10+30+5=....
- 46=.....+.....+.....+.....+6
- 80+9=.....

- 30 وحدَةَ =.....عَشَـرَةً
- 8 عَشَـرات =.....وحدةً

التّمرين 03: أُلاحِـــظُ الجَدْوَلَ ثُمّ أُكمِـلُ

المُشتـريات	الثّمـن
كـرّاس	38دج
مسْـطـرة	40دج
قـلم أزرق	31دج

مـاهو ثـمن المِسْطـرَةِ ؟.....

مـاهو ثـمن الكُـرّاس والقَلَمِ الأَزْرَقِ مـعاً ؟.....

التّمرين 04: أبْحَـثُ عـن 4 طُيـورٍ في اسْتِقامِيَّـةٍ وأَصِلُ بَيْنـها بِخـطٍ



الوضعية الإدماجيّـة

يَمْلِـكُ رامـي 85 ديناراً ، دَفَـعَ لِلْمَكْتَبِيِّ 61 ديناراً ثَمَـناً لِمُشْتَرَياتِـهِ.

- كم ديناراً يُعيدُ لـهُ المَكْتَبِيُّ ؟

العمليات	الحـــل	الأجوبـة
		.....
		.....

الحل المفصل - اختبار الثلاثي الأول في الرياضيات 2025/2026

التمرين 01

أ - الكتابة بالحروف :

82 : اثنان وثمانون

79 : تسعة وسبعون

82

79

ب - العمليات عموديا :

48	96	56
+ 30	- 15	+ 3
78	81	59

التمرين 02

أ - المقارنة (نحسب أولا ثم نقارن) :

14 أكبر من 7

45 أصغر من 65

79 أصغر من 97

50 أكبر من 19

6+8 = 14 ، 6+8 > 7

45 < 65

79 < 97

50 > 19

ب - إتمام بالأعداد المناسبة :

المجموع : 65

تفكيك العدد 46 :

المجموع : 89

30 وحدة = 3 عشرات ، 8 عشرات = 80 وحدة

20 + 10 + 30 + 5 = 65

46 = 10 + 10 + 10 + 10 + 6

80 + 9 = 89

التمرين 03

ثمن المسطرة : 40 دج

ثمن الكراس والقلم الأزرق معا : 69 دج

40 DA

38 + 31 = 69

التمرين 04

الطيور الأربعة الموجودة في استقامية (على نفس الخط المستقيم) محاطة بدوائر زرقاء، ونصل بينها بخط مستقيم بالمسطرة (الخط الأحمر).

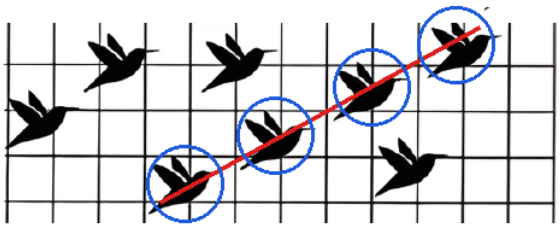

الوضعية الإدماجية

يملك رامي 85 دينارا، دفع للمكتبي 61 دينارا ثمنا لمشترياته. كم دينارا يعيد له المكتبي؟

الحل :

85
- 61
24

85 - 61 = 24

الجواب : يعيد له المكتبي 24 دينارا.

اخْتِـبار الثّلاثي الأول في مادة الرّياضيـات 2025/2026 الأستاذة رحاب-عباقرة الابتدائي

المدرسَـــةُ : اسمُ ولَقَبُ التّلميــذ :

2

التّمرين 01 : - إلَيْكَ العَـدد 64

كتابَـتُهُ بالحُـروف :.....

تَفكيكُهُ : ..... = 64

حَصرُهُ بَينَ عَشرَتَيْن مُتتالِيَتَيْن | . | 64 | . |

إتمامُـهُ إلى العَشَـرَةِ المُواليَـة

64+.....=70

كتابَـتُهُ في جَدْوَلِ المـراتِبِ

وحـدات	عَشـرات
.	.

تَمْثيـلُهُ بِقِطَـعٍ وأَعْمِدَةٍ

التّمرين 02 : هذا بـرْنامَجُ الإختبارات الفَصْلِ الأولِ لمـريـم وأحمـد

	الأحد	الاثنين	الثّلاثاء	الأربعاء	الخميس
مـريـم	لغة عربية	رياضيات	لغة فرنسية	تربية اسلامية	تاريـخ
أحمـد	تربية اسلامية	رياضيات			لغة عربية

- يَجتازُ أحمدُ اختبار اللغة العربية يوم .....
- تَجْتازُ مَرْيَـمُ اختبار اللغة العربية يوم .....
- يَجتازُ أحمدُ اختبار التربية الاسْلاميـة يوم .....
- ماهي المادةُ التّي يَجتازُها أحمـد ومَرْيَـمُ مَعا في نَفْسِ اليَوم ؟.....

التّمرين 03 : في هذا الشّكْـلِ وِحْدَةُ الطّـولِ هـيَ ضِلْعُ مُربّـعِ المَرْصـوفـة

أُكْمِلُ بالعَـدَدِ المُناسِبِ:

طـول الشّكْل (أ):.....

طـول الشّكْل (ب):.....

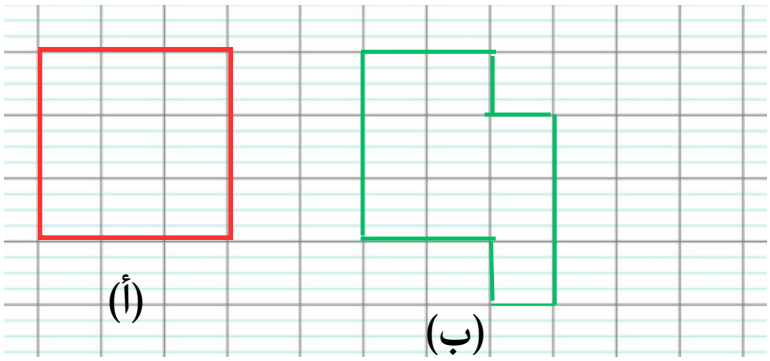

الوضعية الإدماجيّـة

يَمْلِكُ جَـوادُ 76 كُرَةً ، وعِنْدما لَعِبَ مـعَ أَصْدقائِـهِ رَبِحَ 20 كُرَةً.

- كم كـرَةً يَمْلِـكُ جـواد ؟

العمليات	الحـــل	الأجوبـة
		.....
		.....

الحل المفصل - اختبار الثلاثي الأول في الرياضيات 2025/2026

التمرين 01 : العدد 64

كتابته بالحروف : أربعة وستون

تفكيكه : $64 = 60 + 4$

جدول المراتب : عشرات = 6 ، وحدات = 4

حصره بين عشرتين متتاليتين : $60 < 64 < 70$

إتمامه إلى العشرة الموالية : $64 + 6 = 70$

تمثيله بقطع وأعمدة : 6 أعمدة (عشرات) و 4 قطع (وحدات)

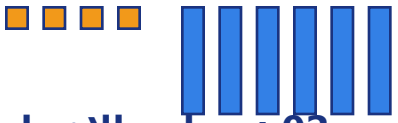

التمرين 02 : برنامج الاختبارات

يجتاز أحمد اختبار اللغة العربية يوم : الخميس

تجتاز مريم اختبار اللغة العربية يوم : الأحد

يجتاز أحمد اختبار التربية الإسلامية يوم : الأحد

المادة التي يجتازها أحمد ومريم معا في نفس اليوم : الرياضيات (الاثنين)

التمرين 03 : الأطوال

وحدة الطول هي ضلع مربع المرصوفة، وطول الشكل = مجموع أطوال أضلاعه.

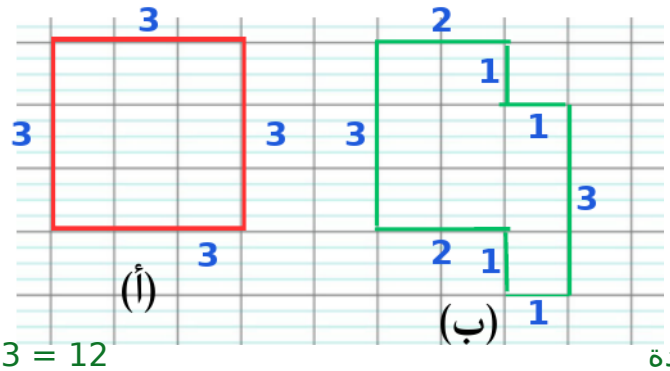

طول الشكل (أ) : 12 وحدة $3 + 3 + 3 + 3 = 12$

طول الشكل (ب) : 14 وحدة $3+2+1+1+3+1+1+2 = 14$

الوضعية الإدماجية

يملك جواد 76 كرة، وعندما لعب مع أصدقائه ربح 20 كرة. كم كرة يملك جواد؟

الحل :

$76 + 20 = 96$

$$\begin{array}{r} 76 \\ +\ 20 \\ \hline 96 \end{array}$$

الجواب : يملك جواد 96 كرة.

اخْتِـبار الثّلاثي الأول في مادة الرّياضيـات 2025/2026 الأستاذة رحاب-عباقرة الابتدائي

المدرسَـــةُ : اسمُ ولَقَبُ التّلميـــذ :

2

التّمرين 01 : أ/أُكمـلُ الجَدْوَل

حَصرُهُ بَيْن عَشَرَتَيْنِ متتاليَتَيْنِ	تَفكيـكُـهُ	الكتابـة بالحُروفِ	العـدد
.....	.....	.....	48
.....	.....	.....	59
.....	.....	.....	36

ب/رتِّب الأعداد الآتيـة ترتيباً تَصاعُديا

48 - 51 - 60 - 19 - 23

⇨ .....

التّمرين 02: لاحـظ الجدوَل واملأ الفـراغـات

	1	2	3	4	5	6
أ						
ب						
ج						
د						

(.....،.....) (.....،.....)

(.....،.....) (.....،.....)

التّمرين 03 : أنقـلِ النّموذج عـلى المَرْصـوفَـةِ الفارِغَـةِ

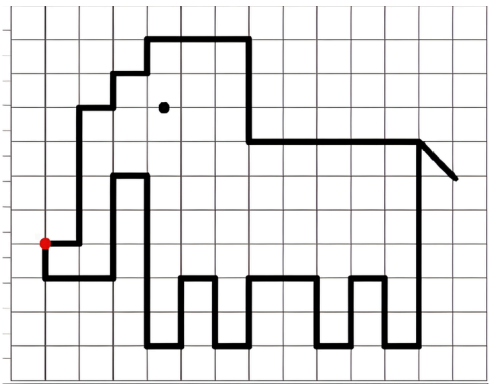



الوضعية الإدماجيـةُ

تَمْلِكُ مَـرْيَـمُ 65 ديناراً ، وعِنْدما زارَتْ عمّـتَها أضافـتْ لـها 30 ديناراً.

- كم ديناراً أَصْبَحَ مَـع مَرْيَـم ؟

العمليات	الحـــل	الأجوبـة
		.....
		.....

الحل المفصل - اختبار الثلاثي الأول في الرياضيات 2025/2026

التمرين 01

أ - إكمال الجدول :

حصره بين عشرتين	تفكيكه	الكتابة بالحروف	العدد
40 < 48 < 50	40 + 8	ثمانية وأربعون	48
50 < 59 < 60	50 + 9	تسعة وخمسون	59
30 < 36 < 40	30 + 6	ستة وثلاثون	36

ب - ترتيب الأعداد ترتيبا تصاعديا (من الأصغر إلى الأكبر) :

19 < 23 < 48 < 51 < 60

التمرين 02 : المرصوفة

نقرأ الموقع هكذا : (حرف السطر ، رقم العمود)

القط : السطر أ والعمود 4 (أ ، 4)

الكوكب : السطر أ والعمود 2 (أ ، 2)

الكلب : السطر ج والعمود 1 (ج ، 1)

الوردة : السطر ج والعمود 6 (ج ، 6)

التمرين 03 : نقل النموذج على المرصوفة

نقل النموذج: نبدأ من النقطة الحمراء ونتبع نفس الخطوات (عدد المربعات في كل اتجاه). الرسم المطلوب هو نفس شكل الفيل التالي:

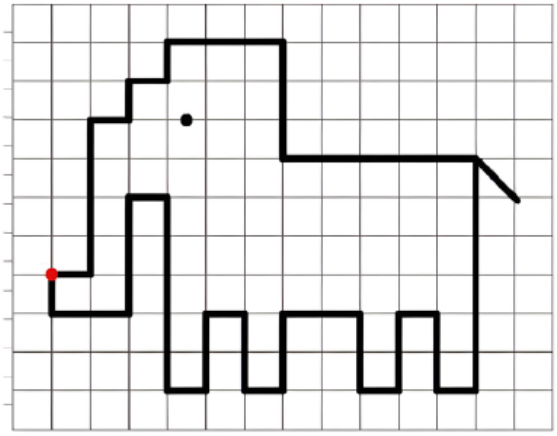

الوضعية الإدماجية

تملك مريم 65 دينارا، وعندما زارت عمتها أضافت لها 30 دينارا. كم دينارا أصبح مع مريم؟

الحل :

65 + 30 = 95

$$\begin{array}{r} 65 \\ +\ 30 \\ \hline 95 \end{array}$$

الجواب : أصبح مع مريم 95 دينارا.