مراجعة عامة في الرياضيات

السنة الثانية ابتدائي /الفصل الاول

① - أَكْمِلْ الْجَدْوَلَ التَّالِي

الْكِتَابَة بِالْأَرْقَام	الْكِتَابَة بِالْحُرُوفِ
48	.....
.....	تِسْعَة وَ سَبْعُونَ
82	.....
.....	سَبْعَة وَ تِسْعُونَ



② - أَكْمِلْ الْعدد الذِّي يَلِي وَ الْعَدَد الذِّي يَسْبِق

	27	
	55	
	42	

	98	
	35	
	31	

	58	
	67	
	24	

③ - ضَعْ الرَّمْزَ الْمُنَاسِب مكان النقط:< ، > ، =

37.....49	28 69	64.....79	85.....39
94.....73	33.....15+15	20+10+5.....10+35	10+10+10.....31-1
28.....18	99.....88	88..... 91	79.....97

③ - أُحْصُرْ الْعَدَدَ بَيْنَ عَشَرَتَيْنِ مُتَتَالِيَتَيْنِ

	49	
	74	
	22	

	37	
	28	
	56	

	15	
	68	
	88	

مدونة التعليم بوخشم مريم

④- رَتِبْ الْأَعْدَادَ التَّالِيَة تَصَاعُدِيًا

59 – 37 - 12 - 88 – 91 - 73 - 85	69 – 56 - 28 – 19 – 36 – 27 - 97
.....	.....

⑤ - رَتِبْ الْأَعْدَادَ التَالية تَنَازُلِيًا

64 - 77 – 26 - 38 – 19 – 99 - 29	79 – 22 – 16 – 34 – 82 – 37 – 49
.....	.....

⑥ - أَكْمِلْ بما يناسب

9 وَحَدَات وَ 5 عَشَرَات هو العدد	37 = ...وحدات وَ .....عشرات
6 وحدات و َ 7 عشرات هو العدد	91 = ... وحدات وَ .....عشرات
3 وحدات وَ 3 عشرات هو العدد	70 = ...وحدات وَ ..... عشرات
0 وحدات وَ 8 عشرات هو العدد	88 = ...وحدات وَ .....عشرات

⑦- أَكْمِلْ الى الْعَشَرَةِ الْمُوَالِيَةِ كَمَا فِي الْمِثَال

17 +.....=.....	82 + ...=.....	45 + 5 = 50
56 +.....=.....	73 +.....=.....	37 +.....=.....
99 +.....=.....	21 +.....=.....	68 + ...=.....

⑧ - أَحْسُبْ الْمَجَامِيعَ التَّالِيَةَ كَمَا فِي الْمِثَال

23 + 54 = 20 + 3 + 50 + 4 = 20 + 50 + 3 + 4 = 70 + 7 = 77

47 + 51 =.....

35 + 64 = ...

22 + 46 = ...

78 + 11 =.....

مدونة التعليم بوخشم مريم

⑨ - أُرْبُطْ كُلَ بِطَاقَةٍ بمَكَانِهَا عَلى الشَّرِيطِ

30+1	30+3	40+2	40+7

30					35				39					44					49

33 - 2	45-5	50-2	44 - 10

⑩ - اَنْجِزْ الْعَمَلِيَاتِ التَالِيَةَ عَمُودِيًا

66+32	29 + 50	18+51	57 + 32

59 - 35	38 - 22	78 – 54	99-65

⑪ - أَكْمِلْ الْجَدْوَلَ التَّالِي :

العدد	22	30	14	44	18
نصفه					
ضعفه					

⑫أَكْمِلْ الْجَدْوَلَ بِمَا يُنَاسِبُ

خَمْسَةٌ وَ سِتُونَ		تِسْعَةَ عَشَرْ		سَبْعَةٌ وَ تِسْعُونَ		أَرْبَعُونَ	
و	ع	و	ع	و	ع	و	ع
.....		.....		.....		.....	

مدونة التعليم بوخشم مريم

⑬- أَكْمِلْ الشَّرِيطَ الْعَدَدِي

.....	54	.....	.....	.....	.....	42	.....	.....	33	

.....	.....	62	.....	.....	47	.....	.....	32	27

⑭- أُكْتُبْ الْعَدَدَ الْمُنَاسِبَ فِي الْفَرَاغِ الْمُنَاسِبِ

-59- 91 - 25 - 47 - 76 – 69- 53-

98	.....	88	.....	.....	62	.....	56	.....	.....	38	.....

⑮ - أَكْمِلْ الْجَدْوَلَ

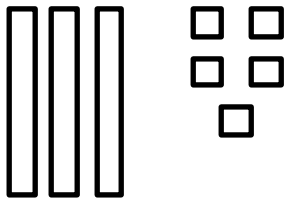			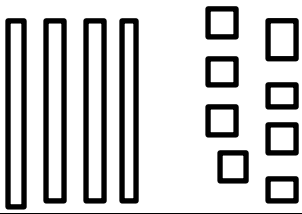
العدد بالحروف	العدد بالحروف	العدد بالحروف	العدد بالحروف .....
العدد بالارقام.....	العدد بالارقام.....	العدد بالارقام.....	العدد بالارقام.....

⑯- وَضْعِيات ادماجية

يَمْلِكُ عَلَاء الدِّين 85 دِينَارًا. اِشْتَرَى قِصَةً ثَمَنُهَا 45 دِينَار. 1 - كَمْ دِينَارًا يَبْقَى مَعَهُ؟ 2- هَلْ يَسْتَطِيعُ شِرَاءَ عُلْبَة أَلْوَان ثَمَنُهَا 55 دينار ؟ لماذا؟	يَهْوَى بَهَاء الدِّين جَمْعَ الطَّوَابِعِ البَرِيدِيَةِ ،فَقَدْ تَمَكَّنَ مِنْ جَمْعِ 43 طَابِعًا. وَأَهْدَتْهُ أُمُّهُ 26 طَابِعًا نَادِرًا 1- أَحْسُبُ عَدَدَ الطَّوَابِعِ الْبَرِيدِيَةِ عِنْدَ بَهَاء الدِّين. - اَهْدَى بَهَاء 12 طَابِعًا لِصَدِيقِهِ . 2- أُحْسُبُ عَدَدَ الطَّوَابِعِ الْبَرِيدِيَةِ التِّي بَقِيَتْ عِنْدَهُ.

مدونة التعليم بوخشم مريم

الاجابة

① - أَكْمِلْ الْجَدْوَلَ التَّالِي

الْكِتَابَة بِالْأَرْقَام	الْكِتَابَة بِالْحُرُوفِ
48	ثمانية و أربعون
79	تِسْعَة وَ سَبْعُونَ
82	إثنان و ثمانون
97	سَبْعَة وَ تِسْعُونَ

② - أَكْمِلْ الْعدد الذِّي يَلِي وَ الْعَدَد الذِّي يَسْبِق

57	58	59		97	98	99		26	27	28
66	67	68		34	35	36		54	55	56
23	24	25		30	31	32		41	42	43

③ - ضَعْ الرَّمْزَ الْمُنَاسِب مكان النقط:< ، > ، =

85 > 39	64 < 79	28 < 69	37 < 49
10+10+10 = 31-1	20+10+5 < 10+35	33 > 15 +15	94 > 73
79 < 97	88 < 91	99 > 88	28 > 18

③ - أُحْصُرْ الْعَدَدَ بَيْنَ عَشَرَتَيْنِ مُتَتَالِيَتَيْنِ

10	15	20		30	37	40		40	49	50
60	68	70		20	28	30		70	74	80
80	88	90		50	56	60		20	22	30

مدونة التعليم بوخشم مريم

④- رَتِبْ الْأَعْدَادَ التَّالِيَة تَصَاعُدِيًا

59 – 37 - 12 - 88 – 91 - 73 - 85	69 – 56 - 28 – 19 – 36 – 27 - 97
12 – 37 – 59 – 73- 85 -88-97	19 -27 -28 -36 – 56 – 69 – 97

⑤ - رَتِبْ الْأَعْدَادَ التَالية تَنَازُلِيًا

64 – 77 – 26 - 38 – 19 – 99 - 29	79 – 22 – 16 – 34 – 82 – 37 – 49
99 – 77- 64 – 38 – 29 – 26 - 19	82 -79 -49 – 37 – 34 – 22 -16

⑥ - أَكْمِلْ بما يناسب

9 وَحَدَات وَ 5 عَشَرَات هو العدد 59	37 = 7 وحدات وَ 3 عشرات
6 وحدات و َ 7 عشرات هو العدد 76	91 = 1 وحدات وَ 9 عشرات
3 وحدات وَ 3 عشرات هو العدد 33	70 = 0 وحدات وَ 7 عشرات
0 وحدات وَ 8 عشرات هو العدد 80	88 = 8 وحدات وَ 8 عشرات

⑦- أَكْمِلْ الى الْعَشَرَةِ الْمُوَالِيَةِ كَمَا فِي الْمِثَال

17 + 3 = 20	82 + 8 = 90	45 + 5 = 50
56 + 4 = 60	73 + 7 = 80	37 +3 =40
99 + 1 = 100	21 + 9 = 30	68 + 2 = 70

⑧ - أَحْسُبْ الْمَجَامِيعَ التَّالِيَةَ كَمَا فِي الْمِثَال

23 + 54 = 20 + 3 + 50 + 4 = 20 + 50 + 3 + 4 = 70 + 7 = 77

47 + 51 = 40 + 7 + 50 + 1 = 40 + 50 + 7 + 1 = 90 + 8 = 98

35 + 64 = 30 + 5 + 60+ 4 = 30 + 60 + 5 + 4 = 90 + 9 = 99

22 + 46 = 20 + 2 + 40 + 6 = 20 + 40 + 2 + 6 = 20+40+2+6= 60 + 8 = 68

78 + 11 = 70 + 8 + 1 + 10 = 70 + 10 + 8 + 1 = 80 + 9 = 89

مدونة التعليم بوخشم مريم

⑨ - أُرْبُطْ كُلَ بِطَاقَةٍ بمَكَانِهَا عَلى الشَّرِيطِ

40+7 | 40+2 | 30+3 | 30+1

30					35				39				44				49

44 - 10 | 50-2 | 45-5 | 33 - 2

⑩ - اَنْجِزْ الْعَمَلِيَاتِ التَالِيَةَ عَمُودِيًا

57 + 32	18+51	29 + 50	66+32
57 +32 =89	18 +51 =69	29 +50 =79	66 +32 =98

99-65	78 – 54	38 - 22	59 - 35
99 -65 =34	78 -54 =24	38 -22 =16	59 -35 =24

⑪ - أَكْمِلْ الْجَدْوَلَ التَّالِي :

العدد	22	30	14	44	18
نصفه	11	15	7	22	9
ضعفه	44	60	28	88	36

⑫أَكْمِلْ الْجَدْوَلَ بِمَا يُنَاسِبُ

خَمْسَةٌ وَ سِتُّونَ		تِسْعَةَ عَشَرْ		سَبْعَةٌ وَ تِسْعُونَ		أَرْبَعُونَ	
و	ع	و	ع	و	ع	و	ع
5	6	9	1	7	9	0	4
65		19		97		40	

مدونة التعليم بوخشم مريم

⑬- أَكْمِلْ الشَّرِيطَ الْعَدَدِي

30	33	36	39	42	45	48	51	54	57

27	32	37	42	47	52	57	62	67	72

⑭- أُكْتُبْ الْعَدَدَ الْمُنَاسِبَ فِي الْفَرَاغِ الْمُنَاسِبِ

-59- 91 - 25 - 47 - 76 – 69- 53-

25	38	47	53	56	59	62	69	76	88	91	98

⑮ - أَكْمِلْ الْجَدْوَلَ

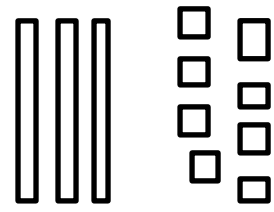			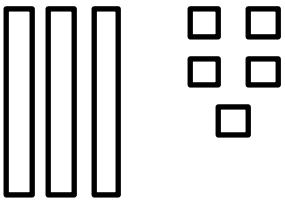
العدد بالحروف ثمانية و أربعون	العدد بالحروف ستون	العدد بالحروف أربعة و خمسون	العدد بالحروف خمسة و ثلاثون
العدد بالارقام 48	العدد بالارقام 60	العدد بالارقام 54	العدد بالارقام 35

⑯- وَضْعِيات ادماجية

85 – 45 = 40 يبقى مع علاء الدين 40 دينارا لا يستطيع شراء علبة الالوان لان 50 > 40	26 + 43 = 69 عدد الطوابع البريدية عند بهاء 69 طابعا 69 – 12 = 57 عدد الطوابع البريدية التي بقيت عنده 47 طابعا

العمليات العمودية اجبارية

مدونة التعليم بوخشم مريم