الجمهورية الجزائرية الديموقراطية الشعبية
وزارة التربية والتعليم

السنة الدراسية: 25-26م

السنة 2 ابتدائي

المدرسة: الإخوة نزار

الإسم واللقب: .....

العلامة: ___/10

اختبار الفصل الثاني في مادة الرياضيات

التمرين الأول : أُكْمِلُ مَلأَ الجَدول :

الْعَدَدُ بِالأَرقَام	الْعَدَدُ بِالْحُرُوفِ	تَفْكِيكُ الْعدد
382	.....	382 = ... + ... + ...
.....	خَمْسُ مَائةٍ وأَرْبَعَةٌ وعِشْرُون	..... = ... + ... + ...

التمرين الثاني : أَنْجِزْ الْعَمَلِيَّاتَ التَّالِيَّةَ عمُودِيًّا :

175 – 53	89 – 42	457 + 327	238 + 149
. . . – . . = . . .	. . – . . = . .	. . . + . . . = . . .	. . . + . . . = . . .

التمرين الثالث :

❖ - أَكْتُبْ التَّوْقِيتَ الَّذِي تُشِيرُ إِلَيْهِ السَّاعَة :

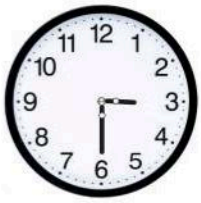

صَبَاحًا

. . : . .

❖ - أَرْسُمْ عَقْرَبِي السَّاعَةَ :

مَسَاءً

20 : 00



التمرين الرابع : املأ الْجدوَلَ الْآتِي.

الشَّكْلُ	اسْمهُ	عَدَد الأَضْلَاع	عَدَدُ الزَّوَايَا الْقَائِمَةِ	عددُ الرُّؤُوس
	.....	.....	.....	.....
	.....	.....	.....	.....
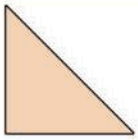	.....	.....	.....	.....

www.dzexams.com

الوضعية الإدماجية

ذَهَبَ عَلِيٌّ إِلَى الْمَكْتَبَةِ فَاشْتَرَى قِصَّةً ثَمَنُهَا 350 دِينَارًا،

وَعُلْبَةَ أَلْوَانٍ ثَمَنُهَا 60 دِينَارًا.



1 – كَمْ دَفَعَ عَلِيٌّ؟

كَانَ يَمْلِكُ 450 دِينَار .

2 – كَمْ بَقِيَ مَعَهُ؟

العمليات	الحل	الأجوبة
1– / . =		.... = ...
		1– / .....
2– / . =		.... = ...
		2– / .....