موضوع تقييم كفاءة الرياضيات الطور الأول

المطلَبُ الأوَّلُ:

١- اكتُبِ العَدَدَيْنِ بالأرقامِ:

- مِئَتَانِ وَخَمْسَةٌ .....
- سَبْعُمِئَةٍ وَثَمَانِيَةٌ وَأَرْبَعُونَ .....



أُكْتُبِ العَدَدَيْنِ بِالحُرُوفِ:

349 .....

682 .....

ب) ضع الأعداد في مكانها المناسب على خط الأعداد: 226 –709 – 230 –714



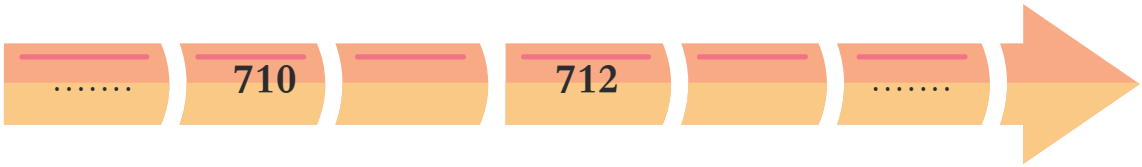

ج) رتب الأعداد تصاعديًا من الأصغر للأكبر

275 – 430 – 189 – 512 – 348	....<.....<.....<.....<.....
426 – 72 – 8 – 315 – 99	.....<.....<.....<.....<.....

- **رتّب الأعداد تنازليًا من الأكبر إلى الأصغر:**

180– 307 – 9 – 214 – 56	.....>.....>.....>.....>.....
275 – 430 – 189 – 512 – 348	....>.....>.....>.....>.....

www.dzexams.com

يسمينة ياسمين
أستاذة التعليم الابتدائي
Baouia

المطلب الثاني:

أحسب ما يلي عموديًا:

325 + 274 =.....	528 + 157 =.....	452 – 136 =.....	835 – 614 =.....

المطلب الثّالِثُ (وَضْعِيَّةٌ إدْمَاجِيَّةٌ):

اِشْتَرَى يَاسِينُ عُلْبَتَيْنِ مِنَ الْحَلْوَى لِيُشَارِكَهُمَا مَعَ أَصْدِقَائِهِ:
تَحْتَوِي الْعُلْبَةُ الْأُولَى عَلَى 3 صُفُوفٍ، فِي كُلِّ صَفٍّ 6 قِطَعِ شُوكُولَاتَةٍ.
تَحْتَوِي الْعُلْبَةُ الثَّانِيَةُ عَلَى 2 صَفَّيْنِ، فِي كُلِّ صَفٍّ 5 قِطَعِ بِسْكُوِيتٍ.


علبة بسكويت


علبة شكولاطا

1- أُرْسُمْ تَمْثِيلًا لِصُفُوفِ الشُّوكُولَاتَةِ وَصُفُوفِ الْبِسْكُوِيتِ

صفوف شكولاطا	
صفوف البسكويت	

1. احسِبْ عَدَدَ قِطَعِ الشّوكولَاتَةِ وَقطَعِ الْبِسْكوِيت في كُلِّ عُلْبَةٍ.
2. قارِنْ بَيْنَ عَدَدِ القِطَعِ فِي عُلْبَة الشّكولاطا وعُلْبة البسكويت.
3. إِذَا كَانَ يَاسِينَ يَأْكُلُ 3 قِطَعٍ يَوْمِيًّا مِنَ الشكولاطة ، وَقِطْعَتَيْنِ مِنَ البسكويت، فَكَمْ يَوْمًا يَحْتَاجُ لِإِنْهَاءِ العُلْبَتَيْنِ؟

www.dzexams.com

موضوع تقييم كفاءة الرياضيات الطور الأول

المطلَبُ الأوَّلُ:

١- اكتُبِ العَدَدَيْنِ بالأرقامِ:

- مِئَتَانِ وَخَمْسَةٌ ..... 205 .....
- سَبْعُمِئَةٍ وَثَمَانِيَةٌ وَأَرْبَعُونَ ..... 748 .....



أُكْتُبِ العَدَدَيْنِ بِالحُرُوفِ:

349 ... ثَلاثُمِئَةٍ وَتِسْعَةٌ وَأَرْبَعُون .....

682 ... سِتُّمِئَةٍ وَاثْنَانِ وَثَمَانُون .....

ب) ضع الأعداد في مكانها المناسب على خط الأعداد: 226 –709 – 230 –714



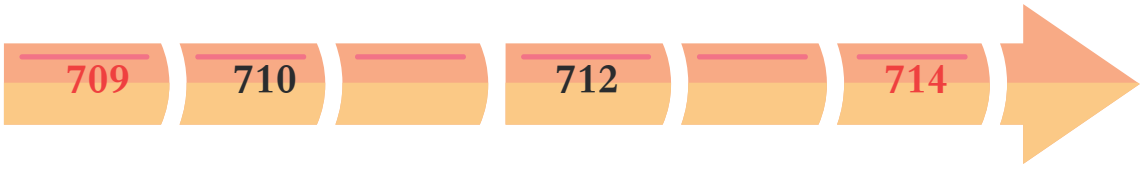

ج) رتب الأعداد تصاعديًا من الأصغر للأكبر

275 – 430 – 189 – 512 – 348	➡	189 < 275 < 348 < 430 < 512
426 – 72 – 8 – 315 – 99	➡	8 < 72 < 99 < 315 < 426

- **رتّب الأعداد تنازليًا من الأكبر إلى الأصغر:**

180– 307 – 9 – 214 – 56	➡	307 > 214 > 180 > 56 > 9
275 – 430 – 189 – 512 – 348	➡	512 > 430 > 348 > 275 > 189

www.dzexams.com

يسمينة ياسمين
أستاذة التعليم الابتدائي
Baouia

المطلب الثاني:

أحسب ما يلي عموديًا:

325 + 274 =.....	528 + 157 =.....	452 – 136 =.....	835 – 614 =.....
325 + 274 = 599	528 + 157 = 785	452 – 136 = 316	835 – 614 = 221

المطلب الثّالِثُ (وَضْعِيَّةٌ إدْمَاجِيَّةٌ):

اِشْتَرَى يَاسِينُ عُلْبَتَيْنِ مِنَ الْحَلْوَى لِيُشَارِكَهُمَا مَعَ أَصْدِقَائِهِ:
تَحْتَوِي الْعُلْبَةُ الْأُولَى عَلَى 3 صُفُوفٍ، فِي كُلِّ صَفٍّ 6 قِطَعِ شُوكُولَاتَةٍ.
تَحْتَوِي الْعُلْبَةُ الثَّانِيَةُ عَلَى 2 صَفَّيْنِ، فِي كُلِّ صَفٍّ 5 قِطَعِ بِسْكُوِيتٍ.



1- أُرْسُمْ تَمْثِيلًا لِصُفُوفِ الشُّوكُولَاتَةِ وَصُفُوفِ الْبِسْكُوِيتِ

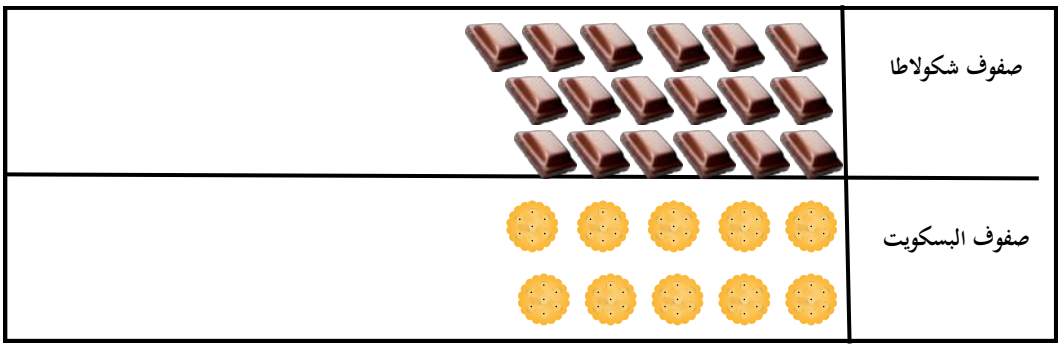

1. احسِبْ عَدَدَ قِطَعِ الشّوكولَاتَةِ وَقطَعِ الْبِسْكوِيت في كُلِّ عُلْبَةٍ.
2. عدد **قطع الشكولاطة** 6+6+6=18أو 6x3=18 **عدد قطع البسكويت** 5+5=10 أو 5x2=10
3. قارِنْ بَيْنَ عَدَدِ القِطَعِ فِي عُلْبَةِ الشّكولاطا وعُلْبَة البسكويت.

18>10 أو 10<18

1. إِذَا كَانَ يَاسِينَ يَأْكُلُ 3 قِطَعٍ يَوْمِيًّا مِنَ الشكولاطة ، وَقِطْعَتَيْنِ مِنَ البسكويت، فَكَمْ يَوْمًا يَحْتَاجُ لِإِنْهَاءِ العُلْبَتَيْنِ؟



يحتاج إلى خمس أيام لإنهاء البسكويت
و ستة أيام لإنهاء شكولاطا

www.dzexams.com