

سنة ثالثة ثانوي

الشعب:

رياضيات | علوم تجريبية | تقني رياضي

مسائل 24 مسألة

في الدوال الأسية

مرفقة بحلول مفصلة

+

ملخص بسيط حول الدوال الأسية

إعداد الأستاذ:

قويسم إبراهيم الخليل

ملخص حول الدوال الأسية:

❶ فرضية:

نقبل أنه توجد دالة معرفة وقابلة للاشتقاق على $\mathbb{R}$ وتحقق الشرطين: $\begin{cases} f' = f \\ f(0) = 1 \end{cases}$

❷ مبرهنة:

توجد دالة وحيدة f قابلة للاشتقاق على $\mathbb{R}$ بحيث: $f' = f$ و $f(0) = 1$، نرمز إلى هاته الدالة بالرمز "exp" ونسميها الدالة الأسية .

❸ العدد e والترميز e^x:

◆ العدد e هو صورة العدد 1 بالدالة الأسية أي $e = \exp(1)$، و ... $e \approx 2.718$.

◆ اصطلاحا نرمز، من أجل كل عدد حقيقي x: $\exp x = e^x$

❹ خواص جبرية:

من أجل كل عددين حقيقين x و y ومن أجل كل عدد طبيعي n لدينا:

$e^0 = 1$ | $e^{x+y} = e^x \times e^y$ | $e^{nx} = (e^x)^n$

$e^x > 0$ | $e^{x-y} = \frac{e^x}{e^y}$ | $e^{-x} = \frac{1}{e^x}$

❺ اتجاه تغير الدالة الأسية:

◆ من أجل كل عدد حقيقي x ، $e^x > 0$.

◆ الدالة الأسية متزايدة تماما على $\mathbb{R}$.

❻ النهايات:

$\lim\limits_{x \to +\infty} (e^x) = +\infty$ | $\lim\limits_{x \to -\infty} (e^x) = 0$ | $\lim\limits_{x \to -\infty} (x^n e^x) = 0$

$\lim\limits_{x \to 0} \left(\frac{e^x - 1}{x}\right) = 1$ | $\lim\limits_{x \to +\infty} \left(\frac{x^n}{e^x}\right) = 0$ | $\lim\limits_{x \to +\infty} \left(\frac{e^x}{x^n}\right) = +\infty$

❼ المشتقة:

إذا كانت u دالة قابلة للاشتقاق على مجال I فإن الدالة $f \circ u$ (حيث: $f(x) = e^x$) قابلة للاشتقاق على المجال I ولدينا من أجل كل x من المجال I :

$$\boxed{(f \circ u)'(x) = u'(x)e^{u(x)}}$$

❽ التمثيل البياني:

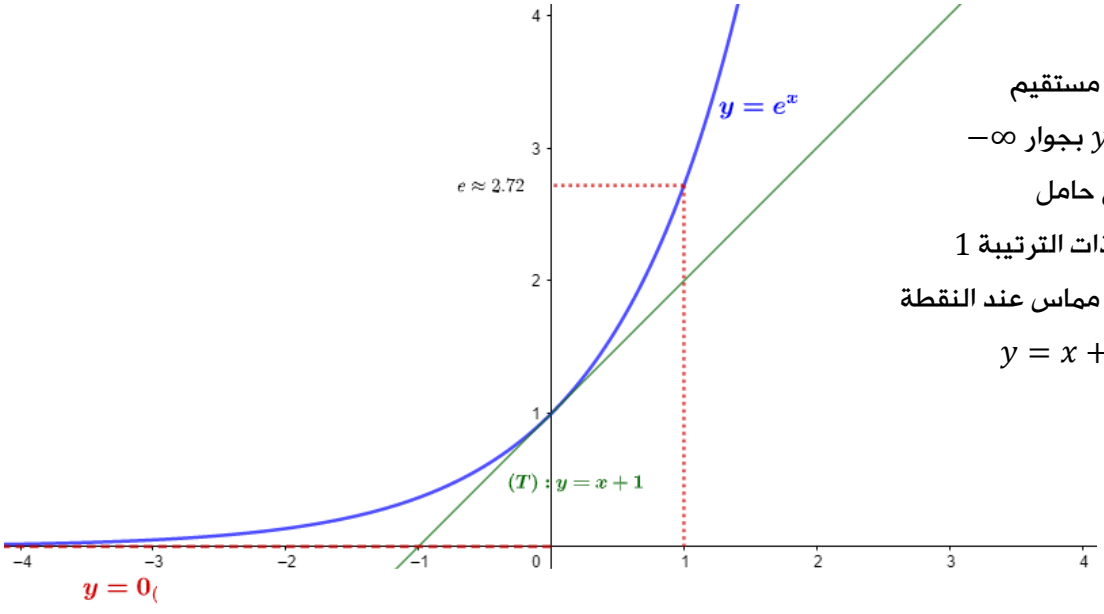

◆ منحنى الدالة exp يقبل مستقيم مقارب أفقي معادلته $y = 0$ بجوار $-\infty$

◆ منحنى الدالة exp يقطع حامل محور التراتيب في النقطة ذات الترتيبة 1

◆ منحنى الدالة exp يقبل مماس عند النقطة ذات الفاصلة 0 معادلته: $y = x + 1$

المسائل:

فهرس المحتويات:

المسألة رقم 01 : المسألة الحل

المسألة رقم 02 : المسألة الحل

المسألة رقم 03 : المسألة الحل

المسألة رقم 04 : المسألة الحل

المسألة رقم 05 : المسألة الحل

المسألة رقم 06 : المسألة الحل

المسألة رقم 07 : المسألة الحل

المسألة رقم 08 : المسألة الحل

المسألة رقم 09 : المسألة الحل

المسألة رقم 10 : المسألة الحل

المسألة رقم 11 : المسألة الحل

المسألة رقم 12 : المسألة الحل

المسألة رقم 13 : المسألة الحل

المسألة رقم 14 : المسألة الحل

المسألة رقم 15 : المسألة الحل

المسألة رقم 16 : المسألة الحل

المسألة رقم 17 : المسألة الحل

المسألة رقم 18 : المسألة الحل

المسألة رقم 19 : المسألة الحل

المسألة رقم 20 : المسألة الحل

المسألة رقم 21 : المسألة الحل

المسألة رقم 22 : المسألة الحل

المسألة رقم 23 : المسألة الحل

المسألة رقم 24 : المسألة الحل

♥ بالتوفيق والنجاح في شهادة البكالوريا ♥

01 المسـألة رقم:

مشاهـــدة الحـــل

I) نعتبر الدالة g المعرفة على $\mathbb{R}$ كما يلي:

$$g(x) = x - e^{-x}$$

1. ادرس تغيرات الدالة g
2.
   أ/ بيّن أن المعادلة $g(x) = 0$ تقبلا حلا وحيدا α حيث: $0.5 < \alpha < 0.6$
   ب/ استنتج إشارة $g(x)$ على $\mathbb{R}$

II) نعتبر الدالة f المعرفة على $\mathbb{R}$ بـ:

$$f(x) = \frac{x+1}{e^x+1}$$

ونسمي (C_f) تمثيلها البياني في مستوٍ منسوب إلى المعلم المتعامد والمتجانس $(o;\vec{i};\vec{j})$.

1. احسب $\lim\limits_{x\to+\infty}[f(x)]$ و $\lim\limits_{x\to-\infty}[f(x)]$
2.
   أ/ بيّن أنه من أجل كل x من $\mathbb{R}$:

$$f'(x) = \frac{-e^x g(x)}{(e^x+1)^2}$$

   ب/ عيّن دون حساب: $\lim\limits_{x\to\alpha}\left[\frac{f(x)-f(\alpha)}{x-\alpha}\right]$ فسر النتيجة هندسيا
3. شكل جدول تغيرات الدالة f
4. بين أن $f(x) = x$ إذا وفقط إذا كان $g(x) = 0$ ، ثم استنتج قيمة $f(\alpha)$
5. مثل بيانيا (C_f) .

III) نعتبر الدالة h المعرفة على المجال $\mathbb{R}$ كما يلي:

$$h(x) = |f(x)|$$

ونسمي (C_h) تمثيلها البياني في المعلم السابق

1. اكتب $h(x)$ دون رمز القيمة المطلقة
2. انطلاقا من (C_f) ، مثل بيانيا (C_h)



المسألة رقم: 02

مشاهدة الحل

I) نعتبر f الدالة المعرفة على $\mathbb{R}$ كما يلي:

$$f(x) = x + 2 - \frac{4e^x}{e^x + 3}$$

ونسمي (C_f) تمثيلها البياني في مستوٍ منسوب إلى المعلم المتعامد والمتجانس $(o;\vec{i};\vec{j})$.

❶ احسب $\lim\limits_{x\to+\infty} f(x)$ و $\lim\limits_{x\to-\infty} f(x)$.

❷ بيّن أنّه من أجل كل x من $\mathbb{R}$ فإن:

$$f'(x) = \left(\frac{e^x - 3}{e^x + 3}\right)^2$$

❸

أ/ ادرس اتجاه تغير الدالة f ثم شكل جدول تغيراتها.

ب/ عيّن $f''(\ln 3)$ دون حساب عبارة $f''(x)$ ، مبرر اجابتك.

❹

أ/ بيّن أنّ المستقيم (Δ_1) ذو المعادلة $y = x + 2$ مقارب مائل لـ (C_f) في جوار $-\infty$.

ب/ بيّن أنّ المستقيم (Δ_2) ذو المعادلة $y = x - 2$ مقارب مائل لـ (C_f) في جوار $+\infty$.

ج/ ادرس الوضع النسبي بين المنحني (C_f) والمستقيمين (Δ_1) و (Δ_2) .

❺ اكتب معادلة المماس (T) للمنحني (C_f) عند النقطة ذات الفاصلة 0 .

❻ بيّن أن النقطة $A(\ln 3\,;\ln 3)$ مركز تناظر للمنحني (C_f) .

❼ بيّن أن المعادلة $f(x) = 0$ تقبل حلا وحيدا α في المجال $]-2;-1[$ ، ثم عين حصرا للعدد α سعته 10^{-2} .

❽ مثّل بيانيا كلا من: (Δ_1) ، (Δ_1) ،

❾ ناقش بيانيا حسب القيم الوسيط الحقيقي غير المعدوم m المعادلة ذات المجهول الحقيقي x التالية:

$$f(-|x|) = \ln(|m|)x + 2$$

II) نعتبر الدالة g المعرفة على $\mathbb{R}$ بـ: $g(x) = f(3x - 2)$ (عبارة $g(x)$ غير مطلوبة).

❶ ادرس تغيرات الدالة g .

❷ تحقق من أنّ: $g\left(\frac{\alpha+2}{3}\right) = 0$ ، ثم بيّن أنّ: $g'\left(\frac{\alpha+2}{3}\right) = 3f'(\alpha)$

❸ استنتج معادلة المماس (d) لمنحني الدالة g عند النقطة ذات الفاصلة $\frac{\alpha+2}{3}$.

❹ تحقق من أن معادلة المستقيم (d) تعطى بـ:

$$y = \frac{3\alpha^2}{4}x - \frac{\alpha^2(\alpha + 2)}{4}$$

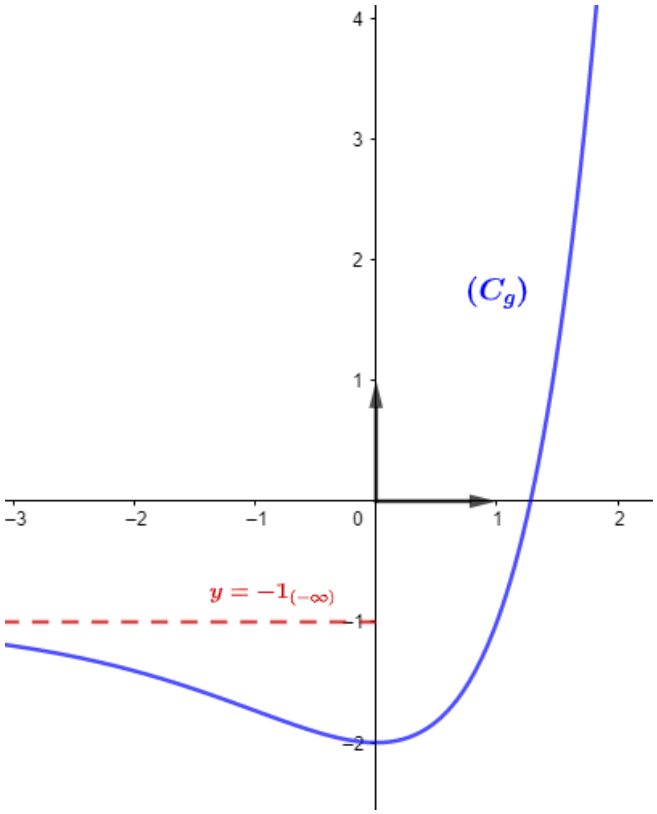

I) a ، b و c أعداد حقيقة، نعتبر الدالة g المعرفة على $\mathbb{R}$ بـ:

$$g(x)=(ax+b)e^x+c$$

ونسمي (C_g) تمثيلها البياني في مستوٍ منسوب إلى المعلم المتعامد والمتجانس $(o;\vec{i};\vec{j})$. كما في الشكل أدناه:

1. بقراءة بيانية، أوجد ما يلي:
   - أ/ $\lim\limits_{x\to-\infty} g(x)$ و $\lim\limits_{x\to+\infty} g(x)$.
   - ب/ $g(0)$ و $g'(0)$.
2. مما سبق أوجد الأعداد الحقيقية a ، b و c.
3. نضع: $g(x)=(x-1)e^x-1$.
   - أ/ بيّن أنّ المعادلة $g(x)=0$ تقبل حلا وحيدا α على $\mathbb{R}$ ، ثم تحقق من أن: $1.2<\alpha<1.3$.
   - ب/ استنتج إشارة $g(x)$ على $\mathbb{R}$.

II) نعتبر الدالة f المعرفة على $\mathbb{R}$ كما يلي:

$$f(x)=\frac{x}{e^x+1}$$

ونسمي (C_f) تمثيلها البياني في المستو السابق.

1.
   - أ/ احسب $\lim\limits_{x\to+\infty} f(x)$ ثم فسّر النتيجة هندسيا.
   - ب/ احسب $\lim\limits_{x\to-\infty} f(x)$.
2.
   - أ/ بيّن أنّه من اجل كل x حقيقي:

$$f'(x)=-\frac{g(x)}{(e^x+1)^2}$$

   - ب/ ادرس اتجاه تغير الدالة f ، ثم شكل جدول تغيراتها .
3. عيّن دون حساب، $\lim\limits_{x\to\alpha}\left(\frac{f(x)-f(\alpha)}{x-\alpha}\right)$ ، ثم فسّر النتيجة هندسيا.
4. بيّن أنّ المنحني (C_f) يقبل مماسا وحيدا (T) يمر من المبدأ، يُطلب كتابة معادلة له.
5. بيّن أنّ $f(\alpha)=\alpha-1$ ، ثم اوجد حصرا لـ $f(\alpha)$ بتقريب 10^{-2} .
6.
   - أ/ بيّن أنّ المستقيم (Δ) ذو المعادلة $y=x$ مقارب مائل لـ (C_f) بجوار $-\infty$.
   - ب/ ادرس وضعية (C_f) بالنسبة للمستقيم (Δ) .
7. مثّل بيانيا المماس (T) والمستقيم (Δ) ثم المنحني (C_f) .
8. m وسيط حقيقي. ناقش بيانيا حسب قيم m عدد وإشارة حلول المعادلة $f(x)=m$.

04 المسـألة رقم:

مشاهـــدة الحـــل

I) نعتبر الدالة f المعرفة على $\mathbb{R}$ كما يلي:

$$f(x) = x - 1 + \frac{4}{e^x + 1}$$

ونسمي (C_f) تمثيلها البياني في مستوٍ منسوب إلى المعلم المتعامد المتجانس $(O; \vec{i}, \vec{j})$.

1

أ/ بيّن أنّه من أجل كل x من $\mathbb{R}$:

$$f'(x) = \left(\frac{e^x - 1}{e^x + 1}\right)^2$$

ب/ ادرس إشارة $f'(x)$ على $\mathbb{R}$ ، ماذا تستنتج بالنسبة للمنحني (C_f) ؟

ج/ شكل جدول تغيرات الدالة f .

2 برهن أنّ النقطة $A(0; 1)$ مركز تناظر المنحني (C_f) .

3

أ/ بيّن أنّ $\lim_{x \to +\infty} [f(x) - (x - 1)] = 0$ ثم فسر النتيجة هندسيا.

ب/ أحسب $\lim_{x \to +\infty} (f(x) - x)$ ماذا تستنتج بالنسبة للمنحني (C_f) ؟

4 بيّن أنّ المنحني (C_f) يقطع حامل محور الفواصل في نقطة وحيدة فاصلتها α حيث: $-2.77 < \alpha < -2.76$.

5 مثّل بيانيا (C_f) .

II) نعتبر الدالة g المعرفة على $\mathbb{R}$ بـ: $g(x) = f(4x + 1)$ (عبارة g غير مطلوبة).

1 عيّن اتجاه تغير الدالة g .

2 تحقق من أنّ: $g\left(\frac{\alpha-1}{4}\right) = 0$ ، ثم بيّن أن: $g'\left(\frac{\alpha-1}{4}\right) = 4f'(\alpha)$

3 استنتج معادلة المماس (T) لمنحني الدالة g في النقطة ذات الفاصلة $\frac{\alpha-1}{4}$.

4 تحقق من أن معادلة المماس (T) تعطى بـ:

$$y = (1 + \alpha)^2 x - \frac{(1 + \alpha)(\alpha^2 - 1)}{4}$$

III) نعتبر الدالة k المعرفة على $\mathbb{R}$ بـ: $k(x) = f(|x|)$ ، ونسمي (C_k) تمثيلها البياني في المستوي السابق

1 بيّن أن الدالة k زوجية .

2 بيّن كيف تمثيل (C_k) انطلاقا من (C_f) ، ثم أنشئه في المعلم السابق

IV) نعتبر الدالة h المعرفة على $\mathbb{R}$ كما يلي:

$$h(x) = x + \frac{4}{e^x + 1}$$

ونسمي (C_h) تمثيلها البياني في المستوي السابق

1 تحقق من أنه كل x من $\mathbb{R}$: $h(x) = f(x) + 1$.

2 استنتج أن (C_h) هو صورة (C_f) بتحويل نقطي بسيط يُطلب تعيينه. ثم أنشئ (C_h)

I) g الدالة العددية المعرفة على $\mathbb{R}$ كما يلي: $g(x) = 2 + (x-1)e^{-x}$

1. احسب $\lim\limits_{x\to-\infty} g(x)$ و $\lim\limits_{x\to+\infty} g(x)$.
2. ادرس اتجاه تغير الدالة g، ثم شكل جدول تغيراتها.
3. بين أن المعادلة $g(x) = 0$ تقبل حلا وحيدا α حيث: $-0.37 < \alpha < -0.38$
4. استنتج إشارة $g(x)$ على $\mathbb{R}$.

II) لتكن الدالة f المعرفة على $\mathbb{R}$ بـ:

$$f(x) = 2x + 1 - xe^{-x}$$

و ليكن (C_f) تمثيلها البياني في المستوي المنسوب إلى المعلم المتعامد المتجانس $(O;\vec{i},\vec{j})$.

1.
أ/ احسب $\lim\limits_{x\to+\infty} f(x)$ و $\lim\limits_{x\to-\infty} f(x)$.

ب/ احسب $\lim\limits_{x\to+\infty} \big(f(x) - (2x+1)\big)$، ثم فسر النتيجة هندسيا.

ج/ ادرس الوضع النسبي للمنحنى (C_f) والمستقيم (Δ) حيث: $(\Delta): y = 2x + 1$.

2. بين أنه من أجل كل عدد حقيقي x يكون $f'(x) = g(x)$، ثم استنتج اتجاه تغير الدالة f وشكل جدول تغيراتها.
3. اكتب معادلة المماس (T) للمنحني (C_f) عند النقطة ذات الفاصلة 1.
4. ارسم (Δ)، (T) والمنحنى (C_f) (نأخذ $f(\alpha) = 0.8$).
5. ناقش بيانيا وحسب قيم الوسيط الحقيقي m عدد وإشارة حلول المعادلة ات المجهول x:

$$x = (1-m)e^{x}$$

المسـألة رقم: 06

مشاهـــدة الحـــل

نعتبر الدالة f المعرفة على $\mathbb{R}$ كما يلي:

$$f(x) = 2x + 1 - xe^{x-1}$$

ونسمي (C_f) تمثيلها البياني في مستوٍ منسوب إلى المعلم المتعامد المتجانس $(o;\vec{\imath},\vec{\jmath})$

1. ادرس تغيرات الدالة f' .
1. احسب $f'(1)$ ثم استنتج إشارة $f(x)$ على $\mathbb{R}$.
2. ادرس تغيرات الدالة f .
3.
   أ/ بيّن أن المستقيم (Δ) ذو المعادلة $y = 2x + 1$ مقارب مائل لـ (C_f) بجوار $-\infty$.
   ب/ ادرس وضعية (C_f) بالنسبة للمستقيم (Δ) .
4.
   أ/ بيّن أن المنحني (C_f) يقبل مماسا (T) يوازي المستقيم (Δ) في نقطة يُطلب تعيين إحداثييها.
   ب/ بيّن أن المنحني (C_f) يقطع حامل محور الفواصل في نقطتين فاصلتيهما α و β حيث:
   $1.9 < \alpha < 2$ و $-0.5 > \beta > -0.6$.
5. مثل بيانيا: (Δ) ، (T) و المنحني (C_f) .
6. نعتبر المعادلة ذات المجهول الحقيقي x والوسيط الحقيقي الموجب تماما m التالية:
   $$f(x) = 2x + \ln m \ldots (E)$$
   • ناقش بيانيا حسب قيم m عدد وإشارة حلول المعادلة (E) .

07 المسـألة رقم:

مشاهـــدة الحـــل

I) نعتبر الدالة g المعرفة على $\mathbb{R}$ كما يلي:

$$g(x) = (2x+1)e^x - 1$$

1. ادرس تغيرات الدالة g'
2. احسب $g(0)$ ، ثم استنتج إشارة $g(x)$ على $\mathbb{R}$.

II) f الدالة المعرفة على $\mathbb{R}$ بـ:

$$f(x) = x(e^x - 1)^2$$

ونسمي (C_f) تمثيلها البياني في مستوٍ منسوب إلى المعلم المتعامد المتجانس $(o;\vec{i},\vec{j})$.

1. احسب نهايات الدالة f عند أطراف مجموعة تعريفها.
2.
   أ/ بيّن أن المستقيم (Δ) ذو المعادلة $y = x$ مقارب مائل للمنحي (C_f) عند $-\infty$.
   ب/ ادرس الوضع النسبي بين المنحني (C_f) والمستقيم (Δ) .
3.
   أ/ بيّن أنّه من أجل كل عدد حقيقي x لدينا: $f'(x) = (e^x - 1)g(x)$
   ب/ استنتج اتجاه تغير الدالة f وشكل جدول تغيراتها .
4. اكتب معادلة ديكارتية للمماس (T) للمنحني (C_f) عند المبدأ.
5. مثّل بيانيا كلا من (T) ، (Δ) و (C_f) .
6. ناقش بيانيا وحسب قيم الوسيط الحقيقي m عدد واشارة حلول المعادلة (E) ذات المجهول الحقيقي x :

$$(E): f(x) = mx$$

نعرف الدالة f على $\mathbb{R}$ بـ:

$$f(x)=1-\frac{1}{2}x-\frac{2}{e^x+1}$$

ونسمي (C_f) تمثيلها البياني في مستوٍ منسوب إلى المعلم المتعامد المتجانس $(o;\vec{\imath},\vec{\jmath})$.

1

أ/ بين أنه من اجل كل x من $\mathbb{R}$:

$$\frac{1}{e^{-x}+1}=1-\frac{1}{e^x+1}$$

ب/ استنتج أن الدالة f فردية.

2 احسب نهايات الدالة f عند أطرف مجموعة تعريفها.

3

أ/ بين أنه من أجل كل x من $\mathbb{R}$:

$$f'(x)=-\frac{1}{2}\left(\frac{e^x-1}{e^x+1}\right)^2$$

ثم ادرس إشارة $f'(x)$.

ب/ ماذا تستنتج بالنسبة لـ (C_f) ؟

ج/ شكل جدول تغيرات الدالة f .

4

أ/ بيّن أن : $\lim\limits_{x\to+\infty}\left(f(x)+\frac{1}{2}x-1\right)=0$ ، ثم فسر النتيجة هندسيا.

ب/ احسب $\lim\limits_{x\to-\infty}\left(f(x)+\frac{1}{2}x+1\right)$ ، ثم فسر النتيجة هندسيا .

ج/ ادرس الوضع النسبي بين المنحني (C_f) والمستقيم (d) ذو المعادلة: $y=-\frac{1}{2}x+1$.

5 مثّل بيانيا (C_f) .

09 المسـألة رقم:

مشاهـــدة الحـــل

نعتبر الدالة f المعرفة $\mathbb{R}$ بـ:

$$f(x) = -x + \frac{5}{2} - \frac{1}{2}e^{x-2}(e^{x-2} - 4)$$

ونسمي (C_f) تمثيلها البياني في مستوٍ منسوب إلى المعلم المتعامد المتجانس $(o; \vec{i}, \vec{j})$.

1. بيّن أنّ $\lim\limits_{x \to -\infty} f(x) = +\infty$ و $\lim\limits_{x \to +\infty} f(x) = -\infty$.

2.

أ/ بيّن أنّ المستقيم المستقيم (Δ) ذو المعادلة $y = -x + \frac{5}{2}$ مقارب مائل للمنحني (C_f) .

ب/ حل المعادلة : $e^{x-2} - 4 = 0$ ، ثم بيّن أنّ المنحني (C_f) يقع فوق المستقيم (Δ) على المجال $]-\infty; 2 + \ln 4]$ وتحته على المجال $[2 + \ln 4 ; +\infty[$

3.

أ/ بيّن أنّه من أجل كل x من $\mathbb{R}$:

$$f'(x) = -(e^{x-2} - 1)^2$$

ب/ شكل جدول تغيرات الدالة f .

4. احسب $f''(x)$ ، ثم بين أن $A(2; 2)$ نقطة انعطاف للمنحني (C_f) .

5. اثبت أنّ المعادلة $f(x) = 0$ تقبل حلا وحيدا α حيث: $2 + \ln 3 < \alpha < 2 + \ln 4$.

6. مثّل بيانيا (Δ) والمنحني (C_f) .

I) نعتبر الدالة g المعرفة على $\mathbb{R}$ بـ:

$$g(x) = e^x + x + 2$$

1. ادرس تغيرات الدالة g على $\mathbb{R}$.
2.
أ/ بيّن أنّ المعادلة $g(x) = 0$ تقبلا حلا وحيدا α في $\mathbb{R}$ ـ ثم تحقق أن $-2.2 < \alpha < -2.1$
ب/ استنتج إشارة $g(x)$ على $\mathbb{R}$.

II) نعتبر الدالة f المعرفة على $\mathbb{R}$ بـ:

$$f(x) = \frac{1 - xe^x}{e^x + 1}$$

ونسمي (C_f) تمثيلها البياني في مستوٍ منسوب إلى المعلم المتعامد المتجانس $(o; \vec{i}, \vec{j})$.

1.
أ/ احسب $\lim\limits_{x \to -\infty} [f(x)]$ ثم فسر النتيجة هندسيا.
ب/ بيّن أنه من أجل كل x من $\mathbb{R}$:

$$f(x) = \frac{e^{-x} - x}{e^{-x} + 1}$$

ثم احسب $\lim\limits_{x \to +\infty} [f(x)]$.

2. تحقق أنه من أجل كل x من $\mathbb{R}$:

$$f'(x) = \frac{-g(x)e^x}{(e^x + 1)^2}$$

3. ادرس تغيرات الدالة f ثم شكل جدول تغيراتها .
4.
أ/ بيّن أنّ المستقيم (Δ) ذو المعادلة $y = -x$ مقارب مائل لـ (C_f) .
ب/ ادرس الوضع النسبي بين (Δ) و (C_f) .
5.
أ/ بيّن أن: $f(\alpha) = -(\alpha + 1)$ ، ثم استنتج حصرا لـ $f(\alpha)$.
ب/ بيّن أنّ المنحني (C_f) يقطع محور الفواصل في نقطة وحيدة فاصلتها β حيث: $0.5 < \beta < 0.6$.
6. مثّل بيانيا المستقيم (Δ) والمنحني (C_f) .
7. ليكن m عدد حقيقي موجب تماما، ناقش بيانيا حسب قيم الوسيط m عدد واشارة حلول المعادلة:

$$1 - (x + \ln x)e^x - \ln m = 0$$

المسألة رقم: 11

مشاهدة الحل



I) لتكن g دالة عددية معرفة على $\mathbb{R}$ وتحقق العلاقة:

$$g(x) - 2g(1-x) = e^x - 2e^{1-x} - 3x + 3$$

❶ أوجد عبارة $g(x)$ بدلالة x .

(ارشاد: ضع $t = x$ تارة و $t = 1 - x$ تارة أخرى)

❷ نضع: $g(x) = e^x - x - 1$

أ/ احسب نهايات الدالة g عند أطراف مجموعة تعريفها.

ب/ ادرس اتجاه تغير الدالة g ثم شكل جدول تغيراتها.

❸ استنتج اتجاه تغير الدالة h المعرفة على $\mathbb{R}$ بـ :

$$h(x) = 1 - g(-x)$$

❹ اثبت أن المعادلة $h(x) = 0$ تقبل حلين α و β حيث: $-1.15 < \alpha < -1.14$ وَ $1.84 < \beta < 1.85$

❺ استنتج إشارة كل من $g(x)$ و $h(x)$ تبعا لقيم العدد الحقيقي x .

II) لتكن f دالة عددية معرفة على $\mathbb{R}$ بـ:

$$f(x) = \frac{x + g(x)}{1 + g(x)}$$

ونسمي (C_f) تمثيلها البياني في مستوٍ منسوب إلى المعلم المتعامد المتجانس $(o; \vec{i}, \vec{j})$.

❶ احسب نهايات الدالة f عند أطراف مجموعة تعريفها.

❷

أ/ اثبت أن الدالة f قابلة للاشتقاق على $\mathbb{R}$ وأن:

$$f'(x) = \frac{e^x h(x)}{\left(1 + g(x)\right)^2}$$

ب/ استنتج اتجاه تغير الدالة f ثم شكل جدول تغيراتها.

❸ مثل بيانيا (C_f) .

المسألة رقم: 12

مشاهدة الحل



لتكن الدالة f بـ:

$$f(x)=\frac{e^x}{e^x+1}$$

ونسمي (C_f) تمثيلها البياني في مستوٍ منسوب إلى المعلم المتعامد المتجانس $(o;\vec{i},\vec{j})$.

❶ عين مجوعة تعريف الدالة f .

❷

أ/ احسب $\lim\limits_{x\to-\infty} f(x)$. ثم فسر النتيجة هندسيا .

ب/ بين أنه من أجل كل عدد حقيقي x :

$$f(x)=\frac{1}{e^{-x}+1}$$

ج/ احسب $\lim\limits_{x\to+\infty} f(x)$. ثم فسر النتيجة هندسيا .

❸ اثبت أن الدالة f متزايدة تماما على مجال تعريفها .

❹ بين أن النقطة $A\left(0;\frac{1}{2}\right)$ مركز تناظر المنحني (C_f)

❺ عين معادلة المماس (T) للمنحني (C_f) عند النقطة A .

❻ نعتبر الدالة g المعرفة على D_f كما يلي:

$$g(x)=\frac{1}{4}x+\frac{1}{2}-f(x)$$

أ/ حلل العبارة: $e^{2x}-2e^x+1$.

ب/ احسب $g'(x)$ و $g(0)$ ثم ادرس تغيرات الدالة g

ج/ استنتج الوضع النسبي للمنحني (C_f) والمماس (T) .

❼ مثل بيانيا (T) و (C_f) .



المسـألة رقم:

مشاهـــدة الحـــل

I) نعتبر الدالة العددية g المعرفة على $\mathbb{R}$ بـ:

$$g(x) = 2x + 1 + 2e^{2x}$$

1. ادرس تغيرات الدالة g على $\mathbb{R}$
2. بيّن أنّ المعادلة $g(x) = 0$ تقبلا حلا وحيدا α في المجال $[-0.8; -0.7]$
3. استنتج حسب قيم x إشارة $g(x)$ على $\mathbb{R}$.

II) f دالة عددية معرفة على $\mathbb{R}$ بـ:

$$f(x) = 1 - x + (x + 1)e^{-2x}$$

ونسمي (C_f) تمثيلها البياني في مستوٍ منسوب إلى المعلم المتعامد المتجانس $(o; \vec{i}, \vec{j})$.

1.
   - أ/ احسب نهايات الدالة f عند أطراف مجموعة تعريفها.
   - ب/ استنتج أنّ المنحنى (C_f) يقبل مستقيم مقارب مائل (Δ) بجوار $+\infty$ معادلته $y = -x + 1$
   - ج/ ادرس وضعية (C_f) بالنسبة إلى (Δ).
2.
   - أ/ بيّن أنه من أجل كل عدد حقيقي x:

$$f'(x) = -g(x)e^{-2x}$$

   - ب/ شكل جدول تغيرات الدالة f
   - ج/ بيّن أنّ المعادلة $f(x) = 0$ تقبل حلين x_1 و x_2 حيث: $-1.2 < x_1 < -1.1$ وَ $1.1 < x_2 < 1.2$
3. بيّن أنّ $f(\alpha) = -\frac{2\alpha^2}{2\alpha+1}$
4. مثل بيانيا (C_f) ، نأخذ $\|\vec{i}\| = 2cm$ و $f(\alpha) \approx 2.9$
5. ناقش بيانيا حسب قيم الوسيط الحقيقي m عدد وإشارة حلول المعادلة:

$$(1 - m - x)e^{2x} + x + 1 = 0$$

I) نعتبر الدالة g المعرفة على $\mathbb{R}$ بـ:

$$g(x) = (3-2x)e^x + 2$$

1. علما أنّ $\lim\limits_{x\to-\infty}(xe^x) = 0$ ، احسب نهايات الدالة g عند $+\infty$ و $-\infty$
2. ادرس اتجاه تغير الدالة g، ثم شكل جدول تغيراتها.
3. بيّن أنّ المعادلة $g(x) = 0$ تقبل حلا وحيدا α في المجال $[1.6; 1.7]$
4. استنتج حسب قيم x إشارة $g(x)$.

II) نعتبر الدالة f المعرفة على $\mathbb{R}$ بـ

$$f(x) = \frac{e^x + 4x - 1}{e^x + 1}$$

و (C_f) تمثيلها البياني في مستوٍ منسوب إلى المعلم المتعامد المتجانس $(o; \vec{i}, \vec{j})$.

1.
أ/ احسب $\lim\limits_{x\to-\infty} f(x)$

ب/ علما أنّ $\lim\limits_{x\to+\infty}(xe^{-x}) = 0$ ، بيّن أنّ $\lim\limits_{x\to+\infty} f(x) = 1$ ، ثم فسر النتيجة بيانيا

2. اثبت أنه من أجل كل عدد حقيقي x أنّ

$$f'(x) = \frac{2g(x)}{(e^x+1)^2}$$

3. ادرس اتجاه تغير الدالة f ثم شكل جدول تغيراتها

4.
أ/ بيّن أنّ المستقيم (Δ) ذو المعادلة $y = 4x - 1$ مقارب مائل لـ (C_f) بجوار $-\infty$

ب/ ادرس الوضع النسبي بين (C_f) و (Δ)

5. اكتب معادلة المماس (T) للمنحنى (C_f) عند النقطة ذات الفاصلة 0.
6. بيّن أنّ $f(\alpha) = 4\alpha - 5$، ثم أعط حصرا للعدد $f(\alpha)$
7. أرسم كل من (T)، (Δ) و (C_f)

15 المسـألة رقم:

مشاهـــدة الحـــل

I) نعتبر الدالة g المعرفة على $\mathbb{R}$ كما يلي:

$$g(x) = x^2e^x - e$$

و (C_g) تمثيلها البياني في مستو منسوب إلى المعلم المتعامد المتجانس $(O;\vec{i},\vec{j})$ (كما في الشكل المقابل)

- احسب $g(1)$

- بقراءة بيانية عين إشارة $g(x)$ ثم استنتج إشارة $g(-x)$ حسب قيم العدد الحقيقي x.

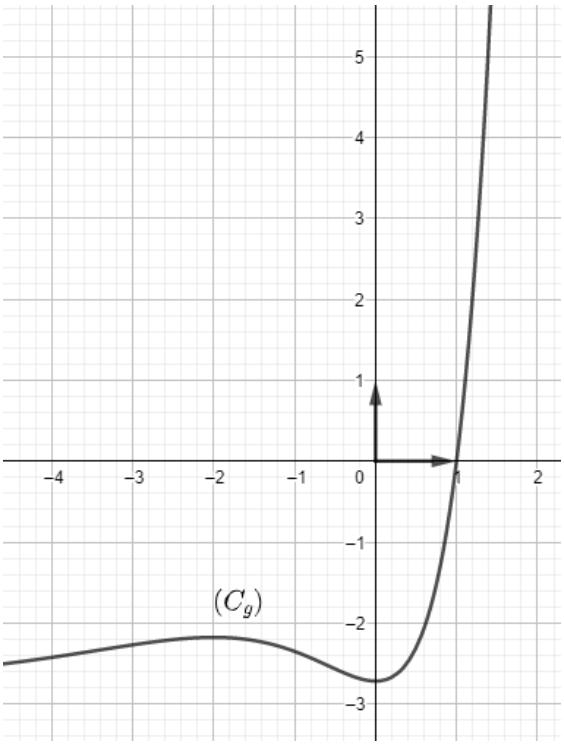

II) نعتبر الدالة f المعرفة على $\mathbb{R}^*$ كما يلي:

$$f(x) = e^{-x} - 2 - \frac{e}{x}$$

و (C_f) تمثيلها البياني في مستو منسوب إلى المعلم المتعامد المتجانس $(O;\vec{i},\vec{j})$.

1. احسب النهايات الآتية: $\lim\limits_{x\to-\infty} f(x)$ ، $\lim\limits_{\substack{x\to 0\\ x<0}} f(x)$ ، $\lim\limits_{\substack{x\to 0\\ x>0}} f(x)$ وَ $\lim\limits_{x\to+\infty} f(x)$.
2. بين أن المنحنى (γ) الذي معادلته: $y = e^{-x} - 2$ والمنحنى (C_f) متقاربان بجوار $-\infty$، ثم ادرس وضعية المنحنى (C_f) بالنسبة إلى (γ).
3. بين أنّ: من أجل كل عدد حقيقي x غير معدوم لدينا:

$$f'(x) = \frac{-g(-x)}{x^2}$$

4. استنتج أن الدالة f متزايدة تماما على كل من المجالين $]-1;0[$ و $]0;+\infty[$ ومتناقصة تماما على المجال $]-\infty;-1]$، ثم شكل جدول تغيرات الدالة f.
5. بين كيف يمكن إنشاء المنحنى (γ) انطلاقا من منحنى الدالة $x \mapsto e^x$، ثم ارسم بعناية كلا من المنحنيين (γ) و (C_f) في نفس المعلم السابق.

المسـألة رقم: 16

مشاهـــدة الحـــل

I) نعتبر الدالة g المعرفة على $\mathbb{R}$ بـ:

$$f(x) = e^x + x + 1$$

1. ادرس تغيرات الدالة g، ثم شكل جدول تغيراتها
2. بيّن أنّ المعادلة $g(x) = 0$ تقبل حلا وحيدا α في المجال $]-1.28; -1.27[$
3. استنتج حسب قيم العدد الحقيقي x إشارة $g(x)$

II) نعتبر الدالة f المعرفة على $\mathbb{R}$ بـ:

$$f(x) = (x+2)(1-e^{-x})$$

و (C_f) تمثيلها البياني في مستوٍ منسوب إلى المعلم المتعامد المتجانس $(o;\vec{i},\vec{j})$.

1. احسب نهايات الدالة f عند $+\infty$ و $-\infty$
2.
   أ/ بيّن أنه من أجل كل عدد حقيقي x:
   $$f'(x) = g(x)e^{-x}$$
   ب/ استنتج اتجاه تغيرات الدالة f، ثم شكل جدول تغيراتها
3. عيّن دون حساب $\lim\limits_{x\to\alpha}\left(\frac{f(x)-f(\alpha)}{x-\alpha}\right)$ ، ثم فسّر النتيجة هندسيا.
4.
   أ/ بيّن أن المستقيم (Δ) ذو المعادلة $y = x + 2$ مقارب مائل لـ (C_f) بجوار $+\infty$
   ب/ ادرس الوضع النسبي بين (C_f) و (Δ).
5.
   أ/ أثبت أنه يوجد مماس (T) وحيد لـ (C_f) يوازي (Δ)
   ب/ تحقق أن معادلة المماس (T) هي:
   $$y_{(T)} = x + 2 - e$$
6.
   أ/ بيّن أنّ $f(\alpha) = \frac{(\alpha+2)^2}{\alpha+1}$ ، ثم جد حصرا للعدد $f(\alpha)$.
   ب/ جد نقط تقاطع (C_f) مع محوري الاحداثيات.
   ج/ مثل بيانيا كل من (Δ)، (T) و (C_f)
7. ناقش بيانيا حسب قيم الوسيط الحقيقي عدد حلول المعادلة:
   $$\frac{m-2}{x+2} = -e^{-x}$$

III) نعتبر الدالة h المعرفة على $\mathbb{R}$ بـ:

$$h(x) = f(|x|)$$

1. بيّن أنّ الدالة h زوجية
2. إشرح كيف يمكن إنشاء (C_h) منحنى الدالة h إنطلاقا من (C_f). (لا يطلب إنشاء (C_h))

المسـألة رقم: 17

مشاهـــدة الحـــل

I) لتكن g الدالة العددية المعرفة على $\mathbb{R}$ بـ:

$$g(x) = 2e^x - x^2 - x$$

1

أ/ احسب $g'(x)$ من أجل كل $x \in \mathbb{R}$ ، ثم ادرس اتجاه تغير الدالة g' (حيث g' خي مشتقة الدالة g)

ب/ بين أنه، من أجل كل $x \in \mathbb{R}$، $g'(x) > 0$.

ج/ احسب نهايتي الدالة g عند كل من $-\infty$ و $+\infty$ ، ثم شكل جدول تغيراتها.

2 بين أن المعادلة $g(x) = 0$ تقبل حلا وحيدا α حيث: $-1.37 < \alpha < -1.38$.

3 استنتج إشارة $g(x)$ حسب قيم العدد الحقيقي x.

II) لتكن f الدالة المعرفة على $\mathbb{R}$ بـ:

$$f(x) = \frac{x^2 e^x}{e^x - x}$$

وليكن (C_f) تمثيلها البياني في المستوي المنسوب إلى المعلم المتعامد المتجانس $(O;\vec{i},\vec{j})$

1

أ/ احسب $\lim\limits_{x\to+\infty} f(x)$ و $\lim\limits_{x\to-\infty} f(x)$.

ب/ بين أنه من أجل كل $x \in \mathbb{R}$:

$$f'(x) = \frac{x^2 e^x g(x)}{(e^x - x)^2}$$

ج/ ادرس اتجاه تغير الدالة f على $\mathbb{R}$ ، ثم شكل جدول تغيراتها.

2

أ/ بين أنّ $f(\alpha) = \alpha^2 + 2\alpha + 2 + \frac{2}{\alpha - 1}$، ثم استنتج حصرا للعدد $f(\alpha)$.

ب/ احسب $\lim\limits_{x\to+\infty} [f(x) - x^2]$ ، ثم فسر النتيجة بيانيا.

ج/ أنشئ المنحنى (C_f) (نُعطى $f(\alpha) \approx 0.29$).

المسألة رقم: 18

مشاهدة الحل

I) نعتبر الدالة g المعرفة على $\mathbb{R}$ بـ:

$$g(x) = (a - bx^2)e^{-x}$$

و (C_g) تمثيلها البياني في مستوي منسوب إلى معلم متعامد متجانس في الشكل المقابل:

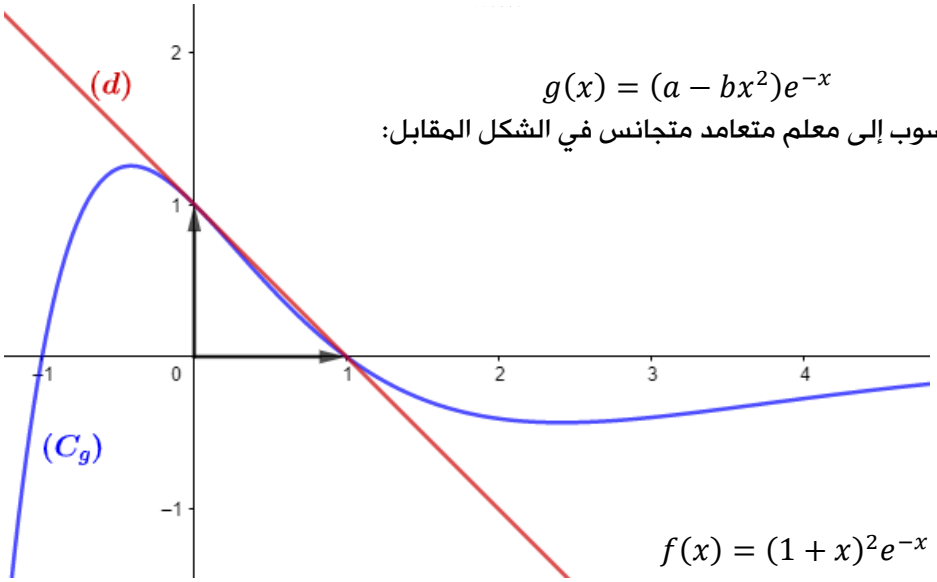

- بقراءة بيانية

❶

أ/ اكتب معادلة للمستقيم (d)

ب/ عيّن $g(-1)$ ، $g(0)$ و $g'(0)$

ج/ باستعمال ما سبق، بيّن أنّ

$$g(x) = (1 - x^2)e^{-x}$$

❷ عين إشارة $g(x)$ حسب قيم x

II) نعتبر الدالة f المعرفة على $\mathbb{R}$ بـ: $f(x) = (1 + x)^2e^{-x}$

و(C_f) تمثيلها البياني في المستوي السابق.

❶

أ/ احسب $\lim\limits_{x\to-\infty} f(x)$

ب/ علما أنّ $\lim\limits_{x\to+\infty} xe^{-x} = 0$ ، بيّن أنّ $\lim\limits_{x\to+\infty} f(x) = 0$ ، ثم فسر النتيجة هندسيا

❷

أ/ بيّن أنّه من أجل كل x حقيقي: $f'(x) = g(x)$

ب/ استنتج تغيرات الدالة f، ثم شكل جدول تغيراتها.

ج/ استنتج أنّ الدالة f موجبة على $\mathbb{R}$

❸

أ/ عيّن دون حساب $\lim\limits_{x\to0}\left(\frac{f(x)-1}{x}\right)$ ، ثمّ فسّر النتيجة هندسيا

ب/ اكتب معادلة المماس (T) عند النقطة ذات الفاصلة 0

❹ مثل بيانيا كل من (T) و (C_f)

❺ ناقش بيانيا حسب قيم الوسيط الحقيقي m عدد وإشارة حلول المعادلة: $(1 + x)^2 = me^x$

III) نعتبر الدالة h المعرفة على $\mathbb{R}$ بـ: $h(x) = f(|x|)$

❶ بيّن أنّ الدالة h زوجية

❷ إشرح كيف يمكن إنشاء (C_h) منحنى الدالة h إنطلاقا من (C_f) ، ثم أنشئه

المسـألة رقم: 19

مشاهـــدة الحـــل

I) g الدالة العددية المعرفة على $\mathbb{R}$ بـ:

$$g(x) = 1 + (x^2 + x - 1)e^{-x}$$

1

أ/ احسب $\lim\limits_{x\to+\infty} g(x)$ و $\lim\limits_{x\to-\infty} g(x)$.

ب/ ادرس اتجاه تغير الدالة g، ثم شكل جدول تغيراتها.

2

أ/ بين أن المعادلة $g(x) = 0$ تقبل حلين في $\mathbb{R}$ ، أحدهما معدوم والآخر α حيث: $-1.52 < \alpha < -1.51$.

ب/ استنتج إشارة $g(x)$ على $\mathbb{R}$.

II) f الدالة العددية المعرفة على $\mathbb{R}$ بـ:

$$f(x) = -x + (x^2 + 3x + 2)e^{-x}$$

و (C_f) تمثيلها البياني في المعلم المتعامد المتجانس $(O;\vec{\imath},\vec{\jmath})$.

1

أ/ احسب $\lim\limits_{x\to+\infty} f(x)$ و $\lim\limits_{x\to-\infty} f(x)$.

ب/ بين أنه من أجل عدد حقيقي x، $f'(x) = -g(x)$.

ج/ شكل جدول تغيرات الدالة f على $\mathbb{R}$ ، (نأخذ $f(\alpha) \approx 0.38$).

د/ عين دون حساب

$$\lim_{h\to 0}\left(\frac{f(a+h)-f(\alpha)}{h}\right)$$

ثم فسر النتيجة هندسيا.

2

أ/ بين أن المستقيم (Δ) ذا المعادلة $y = -x$ مستقيم مقارب مائل للمنحنى (C_f) عند $+\infty$.

ب/ ادرس وضعية المنحنى (C_f) بالنسبة للمستقيم (Δ).

ج/ بين أن المنحنى (C_f) يقبل نقطتي انعطاف يطلب تعيين احداثييهما.

د/ ارسم (Δ) و (C_f) على المجال $]-2;+\infty[$.

ه/ ناقش بيانيا وحسب قيم الوسيط الحقيقي m عد وإشارة حلول المعادلة:

$$(m - x)e^x + (x^2 + 3x + 2) = 0$$

I) نعتبر الدالة f المعرفة على $\mathbb{R}^*$ بـ

$$f(x) = x + 1 - \frac{e^x}{e^x - 1}$$

و (C_f) تمثيلها البياني في مستوٍ منسوب إلى المعلم المتعامد المتجانس $(o;\vec{i},\vec{j})$.

1

أ/ احسب $\lim\limits_{\substack{x\to 0\\ <}} f(x)$ و $\lim\limits_{\substack{x\to 0\\ >}} f(x)$، وفسر النتائج هندسيا

ب/ بيّن أنّ $\lim\limits_{x\to+\infty} f(x) = +\infty$

ج/ احسب $\lim\limits_{x\to-\infty} f(x)$ ، ثم استنتج أنّ المستقيم (Δ_1) ذو المعادلة $y = x + 1$ مقارب مائل لـ (C_f) بجوار $-\infty$

2

أ/ بيّن أنه من أجل كل $x \neq 0$ لدينا:

$$f(x) = x - \frac{1}{e^x - 1}$$

ب/ استنتج أن (C_f) يقبل مستقيم مقارب مائل (Δ_2) بجوار $+\infty$، محددا معادلته.

ج/ ادرس الوضع النسبي بين (C_f) وكل من المستقيمين (Δ_1) و (Δ_2)

3

أ/ ادرس تغيرات الدالة f ، ثم شكل جدول تغيراتها

ب/ بين أنّ المعادلة $f(x) = 0$ تقبل حلين α و β حيث: $0.8 < \alpha < 0.9$ وَ $-1.3 < \beta < -1.4$

4 من أجل كل $(-x) \in D_f$، بيّن أنّ $f(-x) = 1 - f(x)$، ثم فسّر النتيجة هندسيا.

5 مثل بيانيا كل من (Δ_1) ، (Δ_2) و (C_f)

6 ناقش بيانيا حسب قيم الوسيط الحقيقي m، عدد وإشارة حلول المعادلة

$$(m-1)(e^x - 1)e^{-x} + 1 = 0$$

II) نعتبر الدالة h المعرفة على $\mathbb{R}^*$ بـ:

$$h(x) = f(|x|)$$

1 بيّن أنّ الدالة h زوجية

2 إشرح كيف يمكن إنشاء (C_h) منحنى الدالة h إنطلاقا من (C_f). (لا يطلب إنشاء (C_h))

I) لتكن g الدالة المعرفة على $\mathbb{R}$ كما يلي:

$$g(x) = 1 - xe^x$$

1. احسب $\lim\limits_{x\to+\infty} g(x)$ و $\lim\limits_{x\to-\infty} g(x)$.
2. ادرس اتجاه تغير الدالة g، ثم شكل جدول تغيراتها.
3.
   أ/ بين أنّ المعادلة $g(x) = 0$ تقبل حلا وحيدا α في المجال $]-1; +\infty[$.
   ب/ تحقق أنّ $0.5 < \alpha < 0.6$، ثم استنتج إشارة $g(x)$ على $\mathbb{R}$.

II) نعتبر الدالة f المعرفة على المجال $]-\infty; 2]$ كما يلي:

$$f(x) = (x-1)e^x - x - 1$$

(C_f) تمثيلها البياني في المستوي المنسوب إلى المعلم المتعامد المتجانس $(O; \vec{i}, \vec{j})$.

1. احسب $\lim\limits_{x\to-\infty} f(x)$.
2. لتكن f' مشتقة الدالة f:
   أ/ بين أنه من أجل كل عدد حقيقي x من $]-\infty; 2]$ فإنّ: $f'(x) = -g(x)$
   ب/ استنتج إشارة $f'(x)$ على المجال $]-\infty; 2]$ ، ثم شكل جدول تغيرات الدالة f.
3. بيّن أنّ: $f(\alpha) = -\left(\frac{\alpha^2+1}{\alpha}\right)$، ثم استنتج حصرا للعدد $f(\alpha)$، (تدور النتائج إلى 10^{-2}).
4.
   أ/ بين أن المستقيم (Δ) ذا المعادلة $y = -x - 1$ مستقيم مقارب مائل للمنحنى (C_f) بجوار $-\infty$.
   ب/ ادرس وضعية المنحنى (C_f) بالنسبة إلى (Δ).
5.
   أ/ بين أن المعادلة $f(x) = 0$ تقبل حلين x_1 و x_2 حيث: $-1.6 < x_1 < -1.5$ و $1.5 < x_2 < 1.6$.
   ب/ أنشئ (Δ) و (C_f).

المسـألة رقم: 22

مشاهـــدة الحـــل

I) نعتبر الدالة g المعرفة على $\mathbb{R}$ بـ: $g(x) = x + 2 - e^x$

1. ادرس تغيرات الدالة g .
2. بيّن أنّ المعادلة $g(x) = 0$ تقبل حلان α و β حيث: $1.14 < \alpha < 1.15$ و $-1.9 < \beta < -1.8$
3. استنتج إشارة $g(x)$ على $\mathbb{R}$.

II) نعتبر الدالة f المعرفة على $\mathbb{R}$ كما يلي:

$$f(x) = \frac{e^x - 1}{xe^x + 1}$$

ونسمي (C_f) تمثيلها البياني في مستوٍ منسوب إلى المعلم المتعامد المتجانس $(o; \vec{\imath}, \vec{\jmath})$.

1. احسب $\lim\limits_{x\to-\infty} f(x)$ و $\lim\limits_{x\to+\infty} f(x)$. ثم فسر ذلك هندسيا.
2. بيّن أنه من أجل كل x من $\mathbb{R}$:

$$f'(x) = \frac{e^x g(x)}{(xe^x + 1)^2}$$

3. ادرس اتجاه تغير الدالة f ، ثم شكل جدول تغيراتها.
4. عيّن دون حساب كل من : $\lim\limits_{x\to\alpha} \left(\frac{f(x)-f(\alpha)}{x-\alpha}\right)$ وَ $\lim\limits_{x\to\beta} \left(\frac{f(x)-f(\beta)}{x-\beta}\right)$ ، ثم فسّر النتيجتين هندسيا.
5. بيّن أن: $f(\alpha) = \frac{1}{\alpha+1}$ ، ثم أوجد حصرا لـ $f(\alpha)$ سعته 10^{-1} .
6. نعتبر الدالة h المعرفة على $\mathbb{R}$ بـ: $h(x) = e^x - xe^x - 1$
   - بيّن أنه من أجل كل x من $\mathbb{R}$: $h(x) \leq 0$.
7. نضع من أجل كل x من $\mathbb{R}$: $p(x) = (x^2 + 1)e^{2x} + xe^x - 2e^x + 1$
   - تحقق من أنّ: $p(0) = 0$.
8.
   أ/ بيّن أن (C_f) يقبل مماسا (T) عمودي على المستقيم ذو المعادلة $y = -x + 5$.
   ب/ اكتب معادلة للمماس (T) .
   ج/ ادرس وضعية (C_f) بالنسبة لـ (T)
9. نأخذ: $f(\beta) \approx -1.195$ ، مثّل بيانيا (T) و (C_f) .
10. m وسيط حقيقي، ناقش بيانيا حسب قيم m عدد حلول المعادلة ذات المجهول الحقيقي x التالية:

$$e^x(1 - mx^2) + mx - 1 = 0$$

I) g دالة عددية معرفة على $\mathbb{R}$ بـ: $g(x) = e^{-x} + x - 1$

1 علما أنّ $\lim\limits_{x\to-\infty}(xe^x) = 0$:

عين نهايات الدالة g عند $+\infty$ و $-\infty$

2 ادرس اتجاه تغير الدالة g على $\mathbb{R}$، ثم شكل جدول تغيراتها.

3 بيّن أنه من أجل كل عدد حقيقي x من $\mathbb{R}$: $g(x) \geq 0$

ثم استنتج أنّ $e^{-x} + x \geq 1$

II) نعتبر الدالة f المعرفة بـ:

$$f(x) = \frac{x}{e^{-x} + x}$$

و (C_f) تمثيلها البياني في مستوي منسوب إلى المعلم المتعامد المتجانس $(O;\vec{i},\vec{j})$

1 بيّن أن مجموعة تعريف الدالة f هي $\mathbb{R}$

2

أ/ تحقق أنه من أجل كل $x \in \mathbb{R}$:

$$f(x) = \frac{1}{1 + \frac{1}{xe^x}}$$

ب/ احسب $\lim\limits_{x\to-\infty} f(x)$ و $\lim\limits_{x\to+\infty} f(x)$ ، فسر النتيجتين هندسيا.

3

أ/ بيّن أنه من أجل $x \in \mathbb{R}$:

$$f'(x) = \frac{(1+x)e^{-x}}{(e^{-x}+x)^2}$$

ب/ ادرس تغيرات الدالة f، ثم شكل جدول تغيراتها.

4

أ/ اكتب معادلة المماس لـ (C_f) عند النقطة ذات الفاصلة 0

ب/ تحقق أنه من أجل كل $x \in \mathbb{R}$:

$$x - f(x) = \frac{xg(x)}{g(x)+1}$$

ثم استنتج إشارة $x - f(x)$

ج/ استنتج الوضع النسبي بين (C_f) والمستقيم (T) ذو المعادلة $y = x$

5 أنشئ (T) و (C_f)

6 ناقش بيانيا حسب قيم الوسيط الحقيقي عدد وإشارة حلول المعادلة:

$$\frac{xe^x}{xe^x + 1} - 1 = m$$



المسـألة رقم:

مشاهـــدة الحـــل

الحلول (مقترحة) :

فهرس المحتويات:

المسألة رقم 01 : المسألة الحل
المسألة رقم 02 : المسألة الحل
المسألة رقم 03 : المسألة الحل
المسألة رقم 04 : المسألة الحل
المسألة رقم 05 : المسألة الحل
المسألة رقم 06 : المسألة الحل
المسألة رقم 07 : المسألة الحل
المسألة رقم 08 : المسألة الحل
المسألة رقم 09 : المسألة الحل
المسألة رقم 10 : المسألة الحل
المسألة رقم 11 : المسألة الحل
المسألة رقم 12 : المسألة الحل
المسألة رقم 13 : المسألة الحل
المسألة رقم 14 : المسألة الحل
المسألة رقم 15 : المسألة الحل
المسألة رقم 16 : المسألة الحل
المسألة رقم 17 : المسألة الحل
المسألة رقم 18 : المسألة الحل
المسألة رقم 19 : المسألة الحل
المسألة رقم 20 : المسألة الحل
المسألة رقم 21 : المسألة الحل
المسألة رقم 22 : المسألة الحل
المسألة رقم 23 : المسألة الحل
المسألة رقم 24 : المسألة الحل

♥ بالتوفيق والنجاح في شهادة البكالوريا ♥

(I

❶ دراسة تغيرات الدالة g :

- حساب النهايات:

• $\lim\limits_{x\to-\infty}[g(x)] = \lim\limits_{x\to-\infty}[x-e^{-x}]$
$= \lim\limits_{x\to-\infty}\left[e^{-x}\left(\frac{x}{e^{-x}}-1\right)\right]$
$= -\infty$

• $\lim\limits_{x\to+\infty}[g(x)] = \lim\limits_{x\to+\infty}[x-e^{-x}] = +\infty$

- حساب $g'(x)$:

$g'(x) = 1+e^{-x}$

لدينا $g'(x) > 0$ ومنه:

- جدول التغيرات :

x	$-\infty$		$+\infty$
$g'(x)$		$+$	
$g(x)$	$-\infty$	↗	$+\infty$

❷

أ/ تبيين أن المعادلة $g(x)=0$ تقبلا حلا وحيدا α حيث: $0.5 < \alpha < 0.6$:

لدينا الدالة g مستمرة ومتزايدة على $\mathbb{R}$

ولدينا $g(0.6) = 0.05$ و $g(0.5) = -0.1$

ولدينا $g(0.6)\times g(0.5) < 0$

ومنه حسب مبرهنة القيم المتوسطة المعادلة $g(x)=0$ تقبلا حلا وحيدا α

ب/ استنتاج إشارة $g(x)$ على $\mathbb{R}$:

x	$-\infty$	α	$+\infty$
$g(x)$	$-$	0	$+$

(II

❶ حساب النهايات:

• $\lim\limits_{x\to-\infty}[f(x)] = \lim\limits_{x\to-\infty}\left[\frac{x+1}{e^x+1}\right] = -\infty$

• $\lim\limits_{x\to+\infty}[f(x)] = \lim\limits_{x\to+\infty}\left[\frac{x+1}{e^x+1}\right]$
$= \lim\limits_{x\to+\infty}\left[\frac{\frac{x}{e^x}+\frac{1}{e^x}}{1+\frac{1}{e^x}}\right] = 0$

لأن: $\lim\limits_{x\to+\infty}\left[\frac{x}{e^x}\right] = 0$

- التفسير الهندسي:

• (C_f) يقبل مستقيم مقارب أفقي معادلته $y=0$

❷

أ/ حساب $f'(x)$:

$$f'(x) = \frac{e^x+1-e^x(x+1)}{(e^x+1)^2} = \frac{e^x+1-xe^x-e^x}{(e^x+1)^2} = \frac{1-xe^x}{(e^x+1)^2} = \frac{-e^x(-e^{-x}+x)}{(e^x+1)^2} = \frac{-e^x\,g(x)}{(e^x+1)^2}$$

ب/ تعيين دون حساب قيمة $\lim\limits_{x\to\alpha}\left[\frac{f(x)-f(\alpha)}{x-\alpha}\right]$:

لدينا مما سبق $g(\alpha)=0$ ومنه :

$$\lim_{x\to\alpha}\left[\frac{f(x)-f(\alpha)}{x-\alpha}\right] = f'(\alpha) = \frac{-e^\alpha g(\alpha)}{(e^\alpha+1)^2} = 0$$

- تفسير الهندسي:

منحني الدالة f يقبل مماس في النقطة ذات الفاصلة α مواز لحامل محور الفواصل معادلته هي:

$y = f(\alpha)$

❸ جدول تغيرات الدالة f :

لدينا:

$$f'(x) = \frac{-e^x g(x)}{(e^x+1)^2}$$

لدينا المقام موجب تماما ومنه الإشارة من إشارة البسط

- جدول التغيرات:

x	$-\infty$		-1		α		$+\infty$
$-e^x$	$-$		$-$		$-$		
$g(x)$	$-$		$-$	0		$+$	
$f'(x)$	$+$		$+$	0		$-$	
$f(x)$	$-\infty$	$\nearrow$	0	$\nearrow$	$f(\alpha)$	$\searrow$	0

❹ تبيين أن المعادلة $f(x) = x$

لتبيين أن: $f(x) = x$

يكفي أن نثبت أن: $f(x) - x = 0$

$$f(x) - x = \frac{x+1}{e^x+1} - x$$
$$= \frac{x+1-x(e^x+1)}{e^x+1}$$
$$= \frac{1-xe^x}{e^x+1}$$
$$= \frac{-e^x(x-e^{-x})}{e^x+1}$$
$$= \frac{-e^x g(x)}{e^x+1}$$
$$= \frac{-e^x(0)}{e^x+1}$$
$$= 0$$

- استنتاج قيمة $f(\alpha)$:

لدينا: $f(x) = x$

ومنه $f(\alpha) = \alpha$

❺ التمثيل البياني:

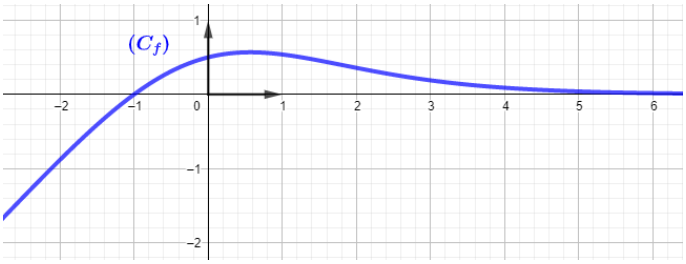

III)

❶ كتابة $h(x)$ دون رمز القيمة المطلقة:

$$h(x) = |f(x)|$$
$$= \begin{cases} f(x) & ; \ y \geq -1 \\ -f(x) & ; \ y \leq -1 \end{cases}$$

❷ تمثيل (C_h) :

(C_h) ينطبق على (C_f) لما $f(x) \geq 0$

ويناظر (C_f) بالنسبة إلى محور الفواصل (xx') إذا كان $f(x) \leq 0$

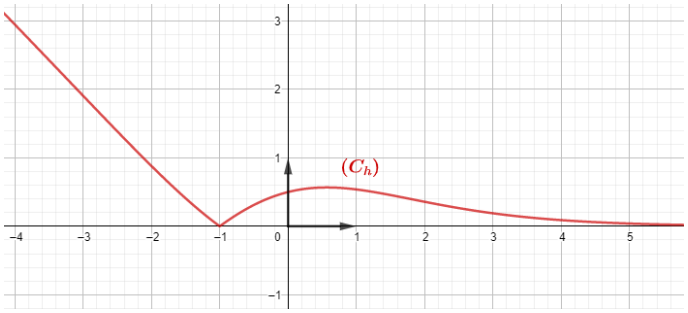

I)

❶ حساب النهايات :

- $\lim\limits_{x\to-\infty}[f(x)] = \lim\limits_{x\to-\infty}\left[x+2-\dfrac{4e^x}{e^x+3}\right] = -\infty$
- $\lim\limits_{x\to+\infty}[f(x)] = \lim\limits_{x\to+\infty}\left[x+2-\dfrac{4e^x}{e^x+3}\right]$
$= \lim\limits_{x\to+\infty}\left[x+2-\dfrac{4}{1+3e^{-x}}\right]$
$= +\infty$

❷ تبيين أنه : $f'(x) = \left(\frac{e^x-3}{e^x+3}\right)^2$:

$$f'(x) = 1-\frac{4e^x(e^x+3)-e^x(4e^x)}{(e^x+3)^2}$$
$$= \frac{(e^x+3)^2+12e^x}{(e^x+3)^2}$$
$$= \frac{e^{2x}-6e^x+9}{(e^x+3)^2}$$
$$= \frac{e^{2x}-6e^x+9}{(e^x+3)^2}$$
$$= \frac{(e^x-3)^2}{(e^x+3)^2}$$
$$= \left(\frac{e^x-3}{e^x+3}\right)^2$$

❸

أ/ دراسة اتجاه تغير الدالة f ثم تشكيل جدول تغيراتها:

لدينا $f'(x) \geq 0$ ومنه الدالة f متزايدة تماما

ولدينا

$$e^x-3=0 \Rightarrow e^x=3$$
$$\Rightarrow x=\ln 3$$

ومنه $f'(x)$ تنعدم عند $\ln 3$ ولا تغير اشارتها

ومنه

x	$-\infty$	$\ln 3$	$+\infty$
$f'(x)$	$+$	0	$+$
$f(x)$	$-\infty$ ↗	0	↗ $+\infty$

ب/ تعيين $f''(\ln 3)$ دون حساب عبارة $f''(x)$:

عندما تنعدم المشتقة الاولى ولا تغير من اشارتها فإنه توجد نقطة انعطاف وعندها تنعدم المشتقة الثانية

ومنه $f''(\ln 3) = 0$

❹

أ/ تبين أن المستقيم (Δ_1) ذو المعادلة $y_1 = x+2$ مقارب مائل لـ (C_f) في جوار $-\infty$:

$$\lim_{x\to-\infty}[f(x)-y_1]$$
$$= \lim_{x\to-\infty}\left[x-2-\frac{4e^x}{e^x+3}-x+2\right]$$
$$= \lim_{x\to-\infty}\left[-\frac{4e^x}{e^x+3}\right]$$
$$= 0$$

ومنه المستقيم (Δ_1) مقارب مائل لـ (C_f) في جوار $-\infty$

ب/ تبين أن المستقيم (Δ_2) ذو المعادلة $y_2 = x-2$ مقارب مائل لـ (C_f) في جوار $+\infty$:

$$\lim_{x\to+\infty}[f(x)-y_2]$$
$$= \lim_{x\to+\infty}\left[x+2-\frac{4e^x}{e^x+3}-x+2\right]$$
$$= \lim_{x\to+\infty}\left[4-\frac{4e^x}{e^x+3}\right]$$
$$= \lim_{x\to+\infty}\left[\frac{12}{e^x+3}\right]$$
$$= 0$$

ومنه المستقيم (Δ_2) مقارب مائل لـ (C_f) في جوار $+\infty$

ج/ دراسة الوضع النسبي بين (C_f) و (Δ_1) و (Δ_2) :

- الوضع النسبي بين المنحنى (C_f) والمستقيم (Δ_1) :

ندرس إشارة الفرق $[f(x)-y_1]$: لدينا:

$$f(x)-y_1 = \frac{-4e^x}{e^x+3}$$

لدينا المقام موجب ومنه الإشارة من إشارة $(-4e^x)$

x	$-\infty$ $\quad$ $+\infty$
$f(x)-y_1$	$-$
الوضعية	(C_f) تحت (Δ)

- الوضع النسبي بين المنحنى (C_f) والمستقيم (Δ_2) :

ندرس إشارة الفرق $[f(x)-y_2]$: لدينا:

$$f(x)-y_2=4-\frac{4e^x}{e^x+3}=\frac{12}{e^x+3}>0$$

ومنه

x	$-\infty$ $\quad\quad$ $+\infty$
$f(x)-y$	$+$
الوضعية	(C_f) فوق (Δ)

❺ كتابة معادلة (T) عند النقطة ذات الفاصلة 0 :

$$(T): y=f'(0)(x-0)+f(0)$$
$$=\left(\frac{e^0-3}{e^0+3}\right)^2(x)+0+2-\frac{4e^0}{e^0+3}$$
$$=\frac{1}{4}x+1$$

❻ تبيين أن النقطة $A(\ln 3\,;\ln 3)$ مركز تناظر لـ (C_f) :

- نبين أن $(\ln 3+x)\in D_f$ و $(\ln 3-x)\in D_f$:

لدينا: $x\in D_f$ معناه $x\in\,]-\infty;+\infty[$

ومنه $(\ln 3+x)\in\,]-\infty;+\infty[$

و $(\ln 3-x)\in\,]-\infty;+\infty[$

- نبين أن $f(\ln 3+x)+f(\ln 3-x)=2\ln 3$

$$f(\ln 3+x)+f(\ln 3-x)$$
$$=\left(\ln 3+x+2-\frac{4e^{\ln 3+x}}{e^{\ln 3+x}+3}\right)$$
$$+\left(\ln 3-x+2-\frac{4e^{\ln 3-x}}{e^{\ln 3-x}+3}\right)$$
$$=2\ln 3+4-\left(\frac{4e^{\ln 3+x}}{e^{\ln 3+x}+3}+\frac{4e^{\ln 3-x}}{e^{\ln 3-x}+3}\right)$$
$$=2\ln 3+4-\left(\frac{12e^x}{3e^x+3}+\frac{12e^{-x}}{3e^{-x}+3}\right)$$
$$=2\ln 3+4-\left(\frac{4e^x}{e^x+1}+\frac{4e^{-x}}{e^{-x}+1}\right)$$
$$=2\ln 3+4-\left(\frac{4+4e^x+4+4e^{-x}}{1+e^x+e^{-x}+1}\right)$$
$$=2\ln 3+4-\left(\frac{8}{2}\right)$$
$$=2\ln 3$$

❼ تبين أن المعادلة $f(x)=0$ تقبل حلا وحيدا α :

لدينا الدالة f مستمرة ورتيبة على $\mathbb{R}$

ولدينا $f(-1)=0.56$ و $f(-2)=-0.17$

ولدينا $f(-1)\times f(-2)<0$

ومنه حسب مبرهنة القيم المتوسطة المعادلة $f(x)=0$ تقبلا حلا وحيدا α في المجال $]-2;-1[$

- حصر

α	-2	-1.9	-1.8	-1.7	...	-1
$f(\alpha)$	-0.17	-0.09	-0.09	0.07	...	0.56

❽ التمثيل البياني:

خطوات التمثيل على معلم متعامد ومتجانس:

- نرسم المستقيمات المقاربة المائلة
- نعين نقطة مركز تناظر المنحني (C_f)
- نرسم المماس (T)
- ثم باستعمال جدول التغيرات نرسم (C_f)

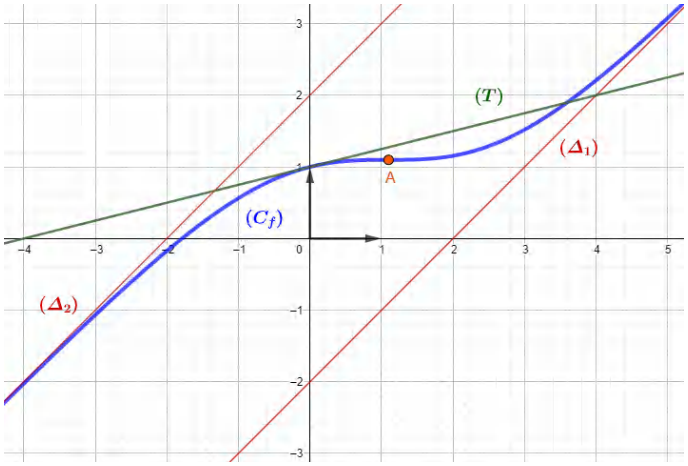

❾ المناقشة البيانية:

نضع $h(x)=f(-|x|)$

ومنه:

$$h(x)=\begin{cases}f(-(x));x\geq 0\\ f(-(-x));x\leq 0\end{cases}$$
$$=\begin{cases}f(-x);x\geq 0\\ f(x);x\leq 0\end{cases}$$

لما $x\leq 0$ المنحني (C_h) ينطبق على (C_f) .

لما $x\geq 0$ المنحني (C_h) يناظر المنحنى العكسي لـ (C_f) بالنسبة لمحور التراتيب.

ومنه تمثيل (C_h) كالآتي:

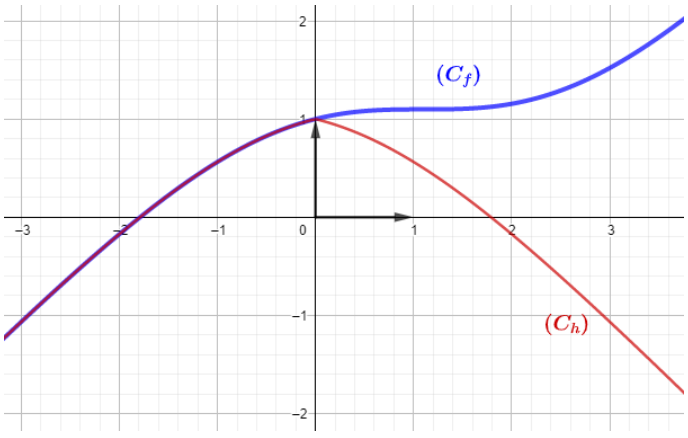

ومنه المناقشة كالآتي:

لما: $\ln|m| \leq 1$

أي: $|m| \leq e$

أي: $-e \leq m \leq e$

أي لما: $m \in [-e; e]$

المعادلة لا تقبل حلول

لما: $\ln|m| > 1$

أي: $|m| > e$

أي: $m \in]-\infty; e[\cup]e; +\infty[$

المعادلة تقبل حل وحيدا

(II

❶ دراسة تغيرات الدالة g .

نلاحظ أن

$$g(x) = (f \circ k)(x)$$

حيث: $k(x) = 3x - 2$

❷ التحقق من أن $g\left(\frac{\alpha+2}{3}\right) = 0$:

$$g\left(\frac{\alpha+2}{3}\right) = f\left[3\left(\frac{\alpha+2}{3}\right) - 2\right]$$
$$= f(\alpha)$$
$$= 0$$

- تبيين أن $g'\left(\frac{\alpha+2}{3}\right) = 3f'(\alpha)$:

لدينا: $g'(x) = 3f'(3x-2)$ ومنه:

$$g'\left(\frac{\alpha+2}{3}\right) = 3f'\left(3\left(\frac{\alpha+2}{3}\right) - 2\right)$$
$$= 3f'(\alpha)$$

❸ استنتاج معادلة المماس (d) لمنحني الدالة g عند النقطة ذات الفاصلة $\frac{\alpha+2}{3}$:

$$(d): y = g'\left(\frac{\alpha+2}{3}\right)\left(x - \frac{\alpha+2}{3}\right) + g\left(\frac{\alpha+2}{3}\right)$$
$$= 3f'(\alpha)\left(x - \frac{\alpha+2}{3}\right) + 0$$
$$= 3f'(\alpha)x - f'(\alpha)(\alpha+2)$$

❹ التحقق من معادلة المماس (d) :

لدينا:

$$f(\alpha) = 0 \Rightarrow \alpha + 2 - \frac{4e^{\alpha}}{e^{\alpha}+3} = 0$$
$$\Rightarrow \alpha + 2 = \frac{4e^{\alpha}}{e^{\alpha}+3}$$
$$\Rightarrow (\alpha+2)(e^{\alpha}+3) - 4e^{\alpha} = 0$$
$$\Rightarrow ae^{\alpha} + 3a + 2e^{\alpha} + 6 - 4e^{\alpha} = 0$$
$$\Rightarrow e^{\alpha}(a-2) = -(3a+6)$$
$$\Rightarrow e^{\alpha} = \frac{3\alpha+6}{2-\alpha}$$

ولدينا:

$$(d): y = 3f'(\alpha)\left(x - \frac{\alpha+2}{3}\right)$$
$$= 3\left(\frac{e^{\alpha}-3}{e^{\alpha}+3}\right)^2\left(x - \frac{\alpha+2}{3}\right)$$
$$= 3\left(\frac{\frac{3\alpha+6}{2-\alpha} - 3}{\frac{3\alpha+6}{2-\alpha} + 3}\right)^2\left(x - \frac{\alpha+2}{3}\right)$$
$$= 3\left(\frac{\alpha}{2}\right)^2\left(x - \frac{\alpha+2}{3}\right)$$
$$= \frac{3\alpha^2}{4}x - \frac{\alpha^2(\alpha+2)}{4}$$

(I

❶ من البيان نجد

أ/

$$\lim_{x\to+\infty}[g(x)] = +\infty \quad | \quad \lim_{x\to-\infty}[g(x)] = -1$$

ب/

$$g(0) = -2 \quad | \quad g'(0) = 0$$

❷ ايجاد a ، b و c :

لدينا:

$$\begin{cases} g(0) = -2 \\ g'(0) = 0 \\ \lim\limits_{x\to-\infty}[g(x)] = -1 \end{cases}$$

$$\Rightarrow \begin{cases} (a(0)+b)e^0 + c = -2 \\ (a(0)+a+b)e^0 = 0 \\ \lim\limits_{x\to-\infty}[(ax+b)e^x + c] = -1 \end{cases}$$

$$\Rightarrow \begin{cases} b + c = -2 \\ a + b = 0 \\ c = -1 \end{cases} \Rightarrow \begin{cases} a = 1 \\ b = -1 \\ c = -1 \end{cases}$$

❸

أ/ تبيين أن المعادلة $g(x) = 0$ تقبل حلا وحيدا α :

لدينا الدالة g مستمرة ورتيبة على $\mathbb{R}$

ولدينا $\lim\limits_{x\to+\infty}[g(x)] \times \lim\limits_{x\to-\infty}[g(x)] < 0$

ومنه حسب مبرهنة القيم المتوسطة المعادلة $g(x) = 0$

تقبل حلا وحيدا α .

- التحقق من أن $1.2 < \alpha < 1.3$:

لدينا: $g(1.3) = 0.1$ و $g(1.2) = -0.3$

ولدينا: $g(1.3) \times g(1.2) < 0$

ومنه: $1.2 < \alpha < 1.3$.

ب/ استنتاج إشارة $g(x)$:

x	$-\infty$	α	$+\infty$
$g(x)$	$-$	0	$+$

(II

❶

أ/ حساب $\lim\limits_{x\to+\infty}[f(x)]$:

$$= \lim_{x\to+\infty}\left[\frac{\frac{x}{e^x}}{1+\frac{1}{e^x}}\right] = 0$$

لأن: $\lim\limits_{x\to+\infty}\left[\frac{x}{e^x}\right] = 0$ (نهاية شهيرة)

التفسير الهندسي: المنحنى (C_f) يقبل مستقيم مقارب أفقي

بجوار $+\infty$ معادلته $y = 0$

ب/ حساب $\lim\limits_{x\to-\infty}\left[\frac{x}{e^x+1}\right]$:

$$\lim_{x\to-\infty}\left[\frac{x}{e^x+1}\right] = -\infty$$

❷

أ/ تبيين أنه: $f'(x) = -\frac{g(x)}{(e^x+1)^2}$:

$$f'(x) = \frac{e^x + 1 - xe^x}{(e^x+1)^2}$$
$$= \frac{(1-x)e^x + 1}{(e^x+1)^2}$$
$$= \frac{-\big((x-1)e^x - 1\big)}{(e^x+1)^2}$$
$$= \frac{-g(x)}{(e^x+1)^2}$$

ب/ دراسة اتجاه تغير الدالة f :

لدينا $f(0) = 0$ ، ولدينا: $f'(x) = \frac{-g(x)}{(e^x+1)^2} < 0$

ومنه إشارة المشتقة عكس إشارة $g(x)$.

x	$-\infty$		0		α		$+\infty$
$f'(x)$	$+$		$+$		0	$-$	
$f(x)$	$-\infty$	↗	0	↗	$f(\alpha)$	↘	0

❸ تعيين $\lim\limits_{x\to\alpha}\left[\frac{f(x)-f(\alpha)}{x-\alpha}\right]$ دون حساب:

$$\lim_{x\to\alpha}\left[\frac{f(x)-f(\alpha)}{x-\alpha}\right] = f'(\alpha)$$
$$= \frac{-g(\alpha)}{(e^\alpha+1)^2}$$
$$= 0$$

تفسير الهندسي: المنحنى (C_f) يقبل مماس عند النقطة ذات

❹ تبيين أن (C_f) يقبل مماسا وحيدا (T) يمر من المبدأ:

لدينا معادلة المماس تكتب من الشكل:

$$y = f'(a)(x-a) + f(a)$$

يوجد مماس يمر من $O(0;0)$ معناه:

$$f'(a)(0-a) + f(a) = 0$$
$$\Rightarrow -af'(a)x + f(a) = 0$$
$$\Rightarrow a\frac{(a-1)e^a - 1}{(e^a+1)^2} + \frac{a}{e^a+1} = 0$$
$$\Rightarrow a(a-1)e^a - a + a(e^a+1) = 0$$
$$\Rightarrow a^2e^a = 0$$
$$\Rightarrow a = 0$$

ومنه معادلة المماس هي:

$$(T): y = f'(0)(x-0) + f(0)$$
$$y = \frac{-g(0)}{(e^0+1)^2}x + \frac{0}{e^0+1}$$
$$y = \frac{1}{2}x$$

❺ تبيين أن $f(\alpha) = \alpha - 1$:

مما سبق لدينا

$$g(\alpha) = 0 \Rightarrow (\alpha-1)e^\alpha - 1 = 0$$
$$\Rightarrow (\alpha-1)e^\alpha = 1$$
$$\Rightarrow e^\alpha = \frac{1}{\alpha-1}$$

ومنه:

$$f(\alpha) = \frac{\alpha}{e^\alpha+1}$$
$$= \frac{\alpha}{\frac{1}{\alpha-1}+1}$$
$$= \frac{\alpha(\alpha-1)}{\alpha}$$
$$= \alpha - 1$$

- حصر $f(\alpha)$:

لدينا:

$$1.2 < \alpha < 1.3$$
$$0.2 < a - 1 < 0.3$$
$$0.2 < f(\alpha) < 0.3$$

❻

أ/ تبيين أن المستقيم (Δ) ذو المعادلة $y = x$ مقارب مائل لـ (C_f) بجوار $-\infty$:

لدينا:

$$= \lim_{x\to-\infty}\left[\frac{x - xe^x - x}{e^x+1}\right]$$
$$= \lim_{x\to-\infty}\left[\frac{-xe^x}{e^x+1}\right]$$
$$= 0$$

لأن: $\lim_{x\to-\infty}[xe^x] = 0$ (نهاية شهيرة)

ب/ دراسة وضعية (C_f) بالنسبة للمستقيم (Δ) :

دراسة إشارة الفرق: $[f(x) - y]$:

$$f(x) - y = \frac{x}{e^x+1} - x$$
$$= \frac{x - xe^x - x}{e^x+1}$$
$$= \frac{-xe^x}{e^x+1}$$

لدينا $(e^x+1) > 0$ و $e^x > 0$

ومنه الإشارة من إشارة $(-x)$

x	$-\infty$	0	$+\infty$
$f(x)-y$	$+$	0	$-$

الوضعية:

- (C_f) فوق (Δ) في المجال: $]-\infty;0[$
- (C_f) يقطع (Δ) في النقطة ذات الفاصلة 0
- (C_f) تحت (Δ) في المجال: $]0;+\infty[$

❼ التمثيل البياني:

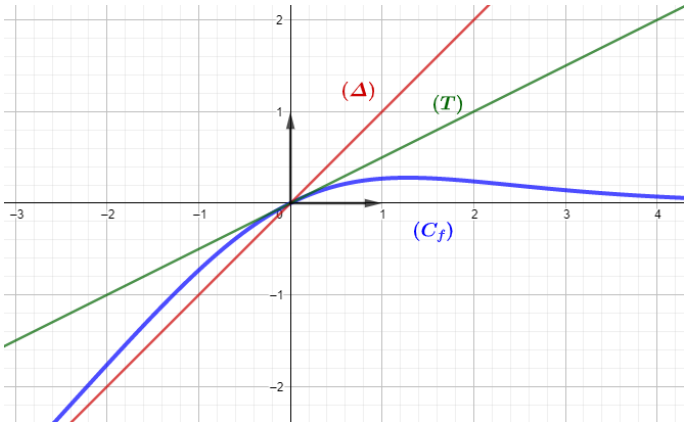

❽ المناقشة البيانية:

لما	$m < 0$	المعادلة تقبل حل وحيد سالب
لما	$m = 0$	المعادلة تقبل حل وحيد معدوم
لما	$0 < m < \alpha$	المعادلة تقبل حلين موجبين
لما	$m = \alpha$	المعادلة تقبل حل مضاعف موجب
لما	$m > \alpha$	المعادلة لا تقبل حلولا

(I

❶

أ/ تبيين أنه من أجل كل x من $\mathbb{R}$: $f'(x)=\left(\frac{e^x-1}{e^x+1}\right)^2$

$$f'(x)=1-\frac{4e^x}{(e^x+1)^2}$$
$$=\frac{e^{2x}+1+2e^x-4e^x}{(e^x+1)^2}$$
$$=\frac{e^{2x}+1-2e^x}{(e^x+1)^2}$$
$$=\frac{(e^x-1)^2}{(e^x+1)^2}$$
$$=\left(\frac{e^x-1}{e^x+1}\right)^2$$

ب/ دراسة إشارة $f'(x)$ على $\mathbb{R}$:

لدينا $f'(x)>0$ ومنه الدالة f متزايدة تماما.

لدينا $f'(0)=0$ أي المشتقة تنعدم ولا تغير اشارتها

ومنه نستنتج أن المنحني (C_f) يقبل نقطة انعطاف.

ج/ جدول تغيرات الدالة f :

- حساب النهايات:

- $\lim\limits_{x\to-\infty}[f(x)]=-\infty$
- $\lim\limits_{x\to+\infty}[f(x)]=\lim\limits_{x\to+\infty}\left[x-1+\frac{4e^{-x}}{1+e^{-x}}\right]=+\infty$

- جدول التغيرات:

x	$-\infty$		0		$+\infty$
$f'(x)$		$+$	0	$+$	
$f(x)$	$-\infty$	↗	1	↗	$+\infty$

❷ برهان أن النقطة $A(0;1)$ مركز تناظر لـ (C_f) :

- نثبت أن: $(2(0)-x)\in D_f$:

لدينا $x\in\mathbb{R}$ ومنه $(-x)\in\mathbb{R}$

- نثبت أن : $f(2(0)-x)+f(x)=2(1)$:

لدينا:

$f(2(0)-x)+f(x)$

$$=-x-1+\frac{4}{e^{-x}+1}+x-1+\frac{4}{e^x+1}$$
$$=-2+\frac{4}{e^{-x}+1}+\frac{4}{e^x+1}$$
$$=\frac{-2(e^{-x}+1)(e^x+1)+4(e^x+1)+4(e^{-x}+1)}{(e^{-x}+1)(e^x+1)}$$
$$=\frac{2[2(e^x+1)+2(e^{-x}+1)-(e^{-x}+1)(e^x+1)]}{(e^{-x}+1)(e^x+1)}$$
$$=\frac{2[2(e^x+e^{-x}+2)-(e^x+e^{-x}+2)]}{(e^{-x}+1)(e^x+1)}$$
$$=\frac{2[2(e^x+e^{-x}+2)-(e^x+e^{-x}+2)]}{(e^{-x}+1)(e^x+1)}$$
$$=\frac{2[e^x+e^{-x}+2]}{(e^{-x}+1)(e^x+1)}$$
$$=\frac{2[e^x+e^{-x}+2]}{e^x+e^{-x}+2}$$
$$=2$$

ومنه النقطة $A(0;1)$ مركز تناظر المنحني (C_f) .

❸

أ/ تبيين أن $\lim\limits_{x\to+\infty}[f(x)-(x-1)]=0$:

$$\lim_{x\to+\infty}[f(x)-(x-1)]$$
$$=\lim_{x\to+\infty}\left[x-1+\frac{4}{e^x+1}-x+1\right]$$
$$=\lim_{x\to+\infty}\left[\frac{4}{e^x+1}\right]$$
$$=\lim_{x\to+\infty}\left[\frac{\frac{4}{e^x}}{\frac{1}{e^x}+1}\right]=0$$

التفسير الهندسي: (C_f) يقبل مستقيم مقارب مائل بجوار $+\infty$ معادلته: $y=x-1$.

ب/ حساب $\lim\limits_{x\to-\infty}[f(x)-x]$:

$$\lim_{x\to-\infty}[f(x)-x]=\lim_{x\to-\infty}\left[x-1+\frac{4}{e^x+1}-x\right]$$
$$=\lim_{x\to-\infty}\left[-1+\frac{4}{e^x+1}\right]$$
$$=3$$

الاستنتاج:

لدينا:

$\lim\limits_{x\to-\infty}[f(x)-x]=3\Rightarrow\lim[f(x)-x]-3=0$

$$\Rightarrow \lim_{x\to-\infty}[f(x)-x-3]=0$$
$$\Rightarrow \lim_{x\to-\infty}[f(x)-(x+3)]=0$$

ومنه المستقيم ذو المعادلة $y=x+3$ مقارب مائل بجوار $-\infty$

❹ تبيين أن المنحني (C_f) يقطع حامل محور الفواصل في نقطة وحيدة فاصلتها α :

لدينا الدالة f مستمرة ورتيبة على $\mathbb{R}$

ولدينا: $f(-2.76)=0.001$

و $f(-2.77)=-0.3$

ولدينا: $f(-2.77)\times f(-2.76)<0$

ومنه حسب مبرهنة القيم المتوسطة المعادلة $f(x)=0$ تقبل حلا وحيدا α .

❺ التمثيل البياني:

خطوات التمثيل على معلم متعامد ومتجانس:

- نرسم المستقيمات المقاربة المائلة : $(y=x-1)$ و $(y=x+3)$
- نعين A نقطة مركز تناظر المنحني (C_f)
- ثم باستعمال جدول التغيرات نرسم (C_f)

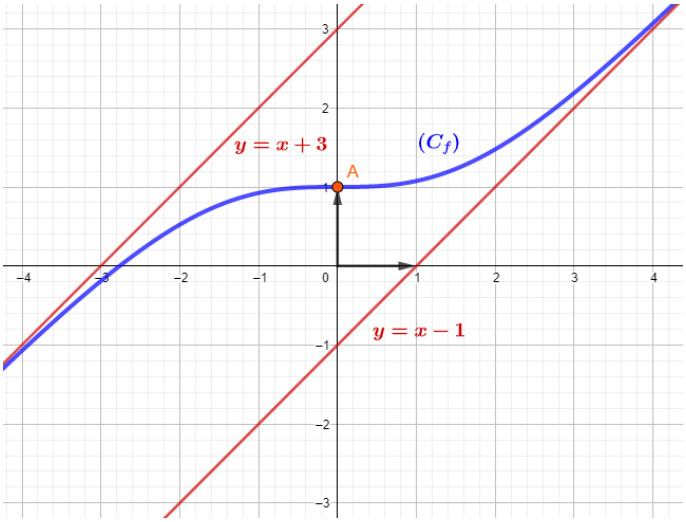

(II

❶ اتجاه تغير الدالة g :

نلاحظ أن $g(x)=(f\circ\varphi)(x)$ حيث: $\varphi(x)=4x+1$

لدينا الدالة φ متزايدة تماما على $\mathbb{R}$

والدالة f متزايدة تماما أيضا على $\mathbb{R}$ (لهما نفس اتجاه التغير)

ومنه الدالة g متزادية تماما على $\mathbb{R}$

❷ التحقق من أن: $g\left(\frac{\alpha-1}{4}\right)=0$

$$=f(\alpha)$$
$$=0$$

- تبيين أن: $g'\left(\frac{\alpha-1}{4}\right)=4f'(\alpha)$:

لدينا: $g'(x)=4f'(4x+1)$ ومنه :

$$g'\left(\frac{\alpha-1}{4}\right)=4f'\left(4\frac{\alpha-1}{4}+1\right)$$
$$=4f'(\alpha)$$

❸ استنتاج معادلة المماس (T) لمنحني الدالة g في النقطة ذات الفاصلة $\frac{\alpha-1}{4}$:

$$(T):y=g'\left(\frac{\alpha-1}{4}\right)\left(x-\frac{\alpha-1}{4}\right)+g\left(\frac{\alpha-1}{4}\right)$$
$$=4f'(\alpha)\left(x-\frac{\alpha-1}{4}\right)+0$$
$$=4f'(\alpha)x-f'(\alpha)(\alpha-1)$$

❹ التحقق من أن معادلة المماس (T) تعطى بـ: $y=$ $(\alpha+1)^2x-\frac{(\alpha+1)(\alpha^2-1)}{4}$:

لدينا:

$$f(\alpha)=0\Rightarrow\alpha-1+\frac{4}{e^\alpha+1}=0$$
$$\Rightarrow\frac{4}{e^\alpha+1}=1-\alpha$$
$$\Rightarrow e^\alpha=\frac{3+\alpha}{1-\alpha}$$

ومنه:

$$(T):y=4\left(\frac{\frac{3+\alpha}{1-\alpha}-1}{\frac{3+\alpha}{1-\alpha}+1}\right)^2\left(x-\frac{\alpha-1}{4}\right)$$
$$=4\left(\frac{\alpha+1}{2}\right)^2\left(x-\frac{\alpha-1}{4}\right)$$
$$=(\alpha+1)^2x-\frac{(\alpha+1)^2(\alpha-1)}{4}$$
$$=(\alpha+1)^2x-\frac{(\alpha+1)(\alpha+1)(\alpha-1)}{4}$$
$$=(\alpha+1)^2x-\frac{(\alpha+1)(\alpha^2-1)}{4}$$

(III

❶ تبيين أن الدالة k زوجية :

لدينا $(-x)\in\mathbb{R}$

ولدينا:

$$k(-x)=f(|-x|)=f(|x|)=h(x)$$

ومنه الدالة k زوجية.

أ/ تبيين كيفية تمثيل (C_k) انطلاقا من (C_f) :

لمّا $x \geq 0$: (C_k) ينطبق على (C_f)

ولما $x \leq$: (C_k) يناظر (C_f) بالنسبة لحامل محور التراتيب

❸ التمثيل البياني لـ (C_k) :

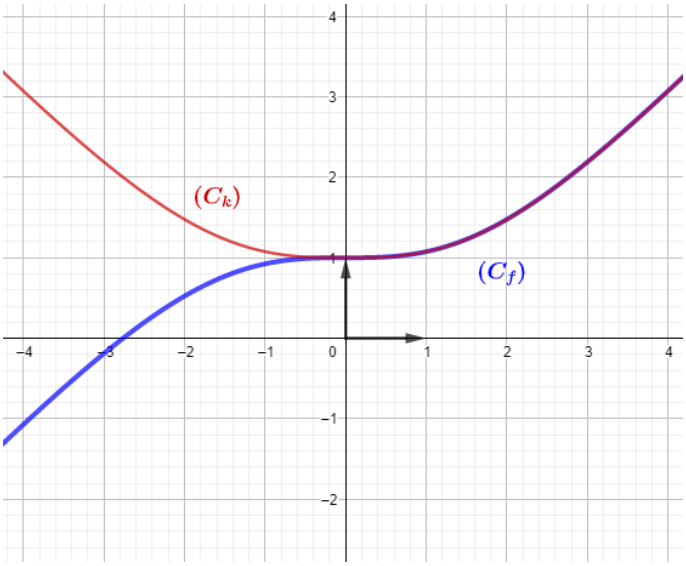

(IV

❶ التحقق من أنه كل x من $\mathbb{R}$: $h(x) = f(x) + 1$:

$$f(x) + 1 = x - 1 + \frac{4}{e^x + 1} + 1$$
$$= x + \frac{4}{e^x + 1} = h(x)$$

❷

أ/ استنتاج أن (C_h) هو صورة (C_f) :

لدينا: $h(x) = f(x) + 1$

ومنه (C_h) هو صورة (C_f) بواسطة انسحاب $\vec{w}(0;1)$

ب/ التمثيل البياني لـ (C_h) :

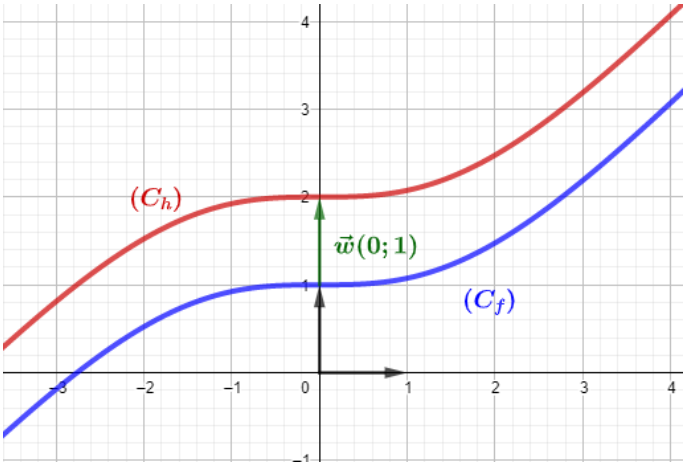

(I

❶ حساب $\lim\limits_{x\to-\infty} g(x)$ و $\lim\limits_{x\to+\infty} g(x)$:

$\lim\limits_{x\to-\infty} g(x) = -\infty$

• $\lim\limits_{x\to+\infty} f(x) = 2$

لأن: $\lim\limits_{x\to+\infty} \left((x-1)e^{-x}\right) = 0$

❷ دراسة اتجاه تغير الدالة g:

$$g'(x) = e^{-x} - e^{-x}(x-1)$$
$$= e^{-x} - xe^{-x} + e^{-x}$$
$$= (2-x)e^{-x}$$

لدينا: $e^{-x} > 0$ ومنه الإشارة من $(2-x)$

$2 - x = 0 \Rightarrow x = 2$

- تشكيل جدول تغيرات الدالة g:

x	$-\infty$		2		$+\infty$
$g'(x)$		$+$	0	$-$	
$g(x)$	$-\infty$	↗	$2+e^{-2}$	↘	2

❸ تبيين أن المعادلة $g(x) = 0$ تقبل حلا وحيدا α :

لدينا الدالة g مستمرة ومتزايدة على المجال

$]-0.38; -0.37[$

ولدينا: $g(-0.38) \times g(-0.37) < 0$

لأن $g(-0.38) = -0.02$ و $g(-0.37) = 0.02$

ومنه حسب مبرهنة القيم المتوسطة المعادلة $g(x) = 0$

تقبل حلا وحيدا α حيث: $-0.38 < \alpha < -0.37$

❹ استنتاج إشارة $g(x)$ على $\mathbb{R}$:

x	$-\infty$		α		$+\infty$
$g(x)$		$-$	0	$+$	

(II

❶

أ/ حساب $\lim\limits_{x\to+\infty} f(x)$ و $\lim\limits_{x\to-\infty} f(x)$:

• $\lim\limits_{x\to+\infty} f(x) = \lim\limits_{t\to-\infty} (-2t + 1 + te^t) = +\infty$

لأنّ: $\lim\limits_{t\to-\infty} (te^t) = 0$

• $\lim\limits_{x\to-\infty} f(x) = \lim\limits_{x\to-\infty} \left(x\left(2 + \frac{1}{x} - e^{-x}\right)\right) = +\infty$

ب/ حساب

$$\lim_{x\to+\infty} \left(f(x) - (2x+1)\right)$$
$$= \lim_{x\to+\infty} (2x + 1 - xe^{-x} - 2x - 1)$$
$$= \lim_{x\to+\infty} (-xe^{-x}) = 0$$

- تفسير النتيجة هندسيا:

(C_f) يقبل المستقيم ذو المعادلة $y = 2x + 1$ مقارب مائل له بجوار $+\infty$

ج/ دراسة الوضع النسبي للمنحنى (C_f) والمستقيم (Δ):

$$f(x) - y_{(\Delta)} = 0 \Rightarrow -xe^{-x} = 0$$
$$\Rightarrow x = 0$$

لأنّ: $e^{-x} > 0$

ومنه:

x	$-\infty$		0		$+\infty$
$f(x) - y_{(\Delta)}$		$+$	0	$-$	

- الوضعية:

• (C_f) فوق (Δ) لما $x \in]-\infty; 0[$

• (C_f) فوق (Δ) لما $x = 0$ أي في النقطة ذات الاحداثيات $(0; 1)$.

• (C_f) تحت (Δ) لما $x \in]0; +\infty[$

❷ تبيين أنه $f'(x) = g(x)$:

$$f'(x) = 2 - e^{-x} + xe^{-x}$$
$$= 2 + (x-1)e^{-x}$$
$$= g(x)$$

- استنتاج اتجاه تغير الدالة f وتشكيل جدول تغيراتها:

لدينا: $f'(x) = g(x)$

ومنه إشارة $f'(x)$ من إشارة $g(x)$

وعليه:

x	$-\infty$		α		$+\infty$
$f'(x)$		$-$	0	$+$	
$f(x)$	$+\infty$	↘	$f(\alpha)$	↗	$+\infty$

❸ كتابة معادلة المماس (T) لـ (C_f) عند النقطة ذات الفاصلة 1:

$$y_{(T)} = f'(1)(x-1) + f(1)$$
$$= 2(x-1) + 3 - e^{-1}$$

❹ التمثيل البياني:

- نعين النقطة $(0;1)$ نقطة تقاطع (C_f) مع (Δ)
- نرسم المستقيم المقارب المائل (Δ) ذو المعادلة $y = 2x + 1$ باستعمال جدول القيم المساعدة.
- نعين النقطة $(1; f(1))$ نقطة تقاطع (C_f) مع المماس (T)
- نرسم المماس (T) ذو المعادلة $2x + 1 - e^{-1}$ باستعمال جدول القيم المساعدة.
- باستعمال جدول التغيرات نكمل رسم (C_f) .

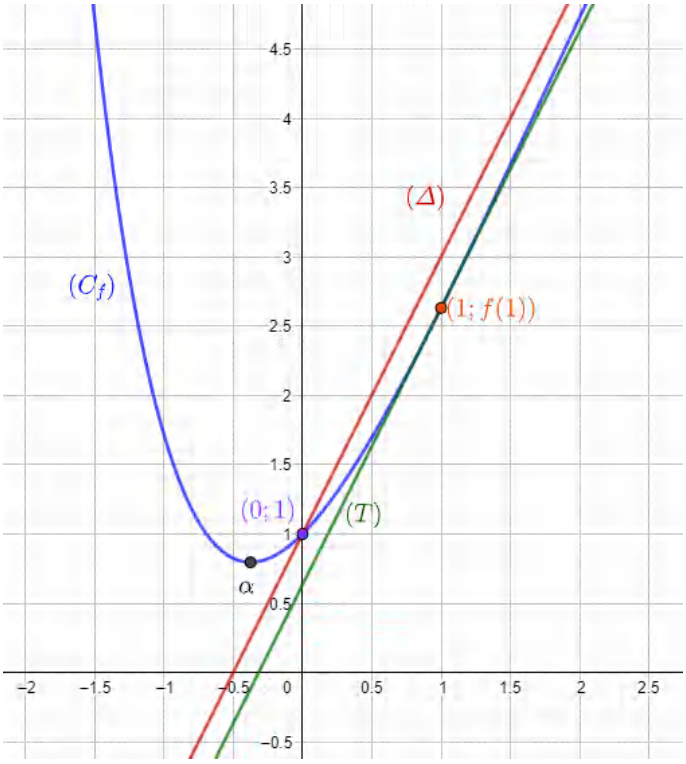

❺ المناقشة البيانية:

$x = (1-m)e^x \Rightarrow xe^{-x} = 1 - m$

$\Rightarrow -xe^{-x} = m - 1$

$\Rightarrow -xe^{-x} + 2x + 1 = m - 1 + 2x + 1$

$\Rightarrow -xe^{-x} + 2x + 1 = m + 2x$

$\Rightarrow f(x) = 2x - m$

ومنه المناقشة وسيطية مائلة موازية لـ (T) و (Δ).

ومنه حلول المعادلة هي فواصل نقط تقاطع حامل محور الفواصل مع المستقيمات ذات المعادلة $y_m = 2x - m$ وهي:

- لما $-m < 1 - e^{-1}$ أي لما $m > e^{-1} - 1$

المعادلة لا تقبل حلول

- لما $-m = 1 - e^{-1}$ أي لما $m = e^{-1} - 1$

المعادلة تقبل جذر مضاعف

- لما $1 - e^{-1} < -m < 1$ أي لما $-1 < m < e^{-1} - 1$

المعادلة تقبل حلين موجبين تماما

- لما $-m = 1$ أي لما $m = -1$

المعادلة تقبل حل مضاعف

- لما $-m > 1$ أي لما $m < -1$

المعادلة تقبل حل وحيد سالب تماما

❶ دراسة تغيرات الدالة f' :

لدينا:

$$f'(x) = 2 - e^{x-1} - xe^{x-1}$$
$$= 2 - (1+x)e^{x-1}$$

ومنه ندرس تغيرات الدالة f' :

- النهايات:

- $\lim\limits_{x\to-\infty}[f'(x)] = \lim\limits_{x\to-\infty}[f'(x)]$
$= 2$
- $\lim\limits_{x\to+\infty}[f'(x)] = \lim\limits_{x\to-\infty}[f'(x)]$
$= -\infty$

- حساب $f''(x)$:

$$f''(x) = -e^{x-1} - (1+x)e^{x-1}$$
$$= -(2+x)e^{x-1}$$

لدينا $e^{x-1} > 0$ ومنه الإشارة من $-(2+x)$:

$$-(2+x) = 0 \Rightarrow x = -2$$

ومنه:

- جدول تغيرات $f'(x)$:

x	$-\infty$	-2	$+\infty$
$f''(x)$	$+$	0	$-$
$f'(x)$	2	$f'(-2)$	$-\infty$

❷ حساب $f'(1)$:

$$f'(1) = 2 - (1+1) = 0$$

- إشارة $f'(x)$ على $\mathbb{R}$:

x	$-\infty$	1	$+\infty$
$f'(x)$	$+$	0	$-$

❸ دراسة تغيرات الدالة f :

- النهايات:

- $\lim\limits_{x\to-\infty}[f(x)] = -\infty$

لأن: $\lim\limits_{x\to-\infty}[xe^{x-1}] = 0$

- $\lim\limits_{x\to+\infty}[f(x)] = \lim\limits_{x\to+\infty}\left[e^{x-1}\left(\frac{2x}{e^{x-1}} + \frac{1}{e^{x-1}} - x\right)\right]$
$= -\infty$

لأن: $\lim\limits_{x\to+\infty}\left[\frac{2x}{e^{x-1}}\right] = 0$

- جدول تغيرات $f(x)$:

x	$-\infty$	1	$+\infty$
$f'(x)$	$+$	0	$-$
$f(x)$	$-\infty$	2	$-\infty$

❹

أ/ تبيين أن (Δ) ذو المعادلة $y = 2x + 1$ مقارب مائل لـ (C_f) بجوار $-\infty$:

لدينا:

$$\lim_{x\to-\infty}[f(x) - y]$$
$$= \lim_{x\to-\infty}[2x + 1 - xe^{x-1} - 2x - 1]$$
$$= \lim_{x\to-\infty}[-xe^{x-1}]$$
$$= 0$$

ومنه (Δ) مستقيم مقارب مائل بجوار $-\infty$

ب/ دراسة وضعية (C_f) بالنسبة للمستقيم (Δ) :

ندرس إشارة الفرق: $f(x) - y$:

$$f(x) - y = -xe^{x-1}$$

لدينا $e^{x-1} > 0$ ومنه الإشارة من $(-x)$:

x	$-\infty$	0	$+\infty$
$f(x) - y$	$+$	0	$-$

- الوضعية:

- (C_f) فوق (Δ) لما: $x < 0$.
- (C_f) يقطع (Δ) في النقطة ذات الاحداثيات: $(0; 1)$
- (C_f) تحت (Δ) لما: $x > 0$.

❺

أ/ تبيين أن (C_f) يقبل مماسا (T) يوازي (Δ):

المستقيم (T) يوازي المستقيم (Δ) معناه:

$$f'(a) = 2 \Rightarrow 2 - (1+a)e^{a-1} = 2$$
$$\Rightarrow -(1+a)e^{a-1} = 0$$
$$\Rightarrow -(1+a) = 0$$

ومنه:

$$(T): y = f'(-1)\big(x-(-1)\big) + f(-1)$$
$$= 2x + 2 + 2(-1) + 1 - (-1)e^{-1-1}$$
$$= 2x + 1 + e^{-2}$$

إذن معادلة المماس (T) هي :

$$y = 2x + 1 + e^{-2}$$

ب/ تبيين أن (C_f) يقطع حامل محور الفواصل في نقطتين فاصلتيهما α و β :

لدينا الدالة f مستمرة ورتيبة على مجال تعريفها

ولدينا: $f(1.9) \times f(2) < 0$

ومنه حسب مبرهنة القيم المتوسطة ، المعادلة $f(x) = 0$

تقبل حلا وحيدا α في المجال $]1.9; 2[$

ولدينا: $f(-0.6) \times f(-0.5) <$

ومنه حسب مبرهنة القيم المتوسطة ، المعادلة $f(x) = 0$

تقبل حلا وحيدا β في المجال $]-0.6; -0.5[$

❻ التمثيل البياني:

خطوات التمثيل على معلم متعامد ومتجانس:

- نعين α و β نقط تقاطع المنحني (C_f) مع حامل محور الفواصل.
- نرسم المستقيم المقارب المائل : $(y = 2x + 1)$.
- نرسم المماس (T) .
- ثم باستعمال جدول التغيرات نرسم (C_f)

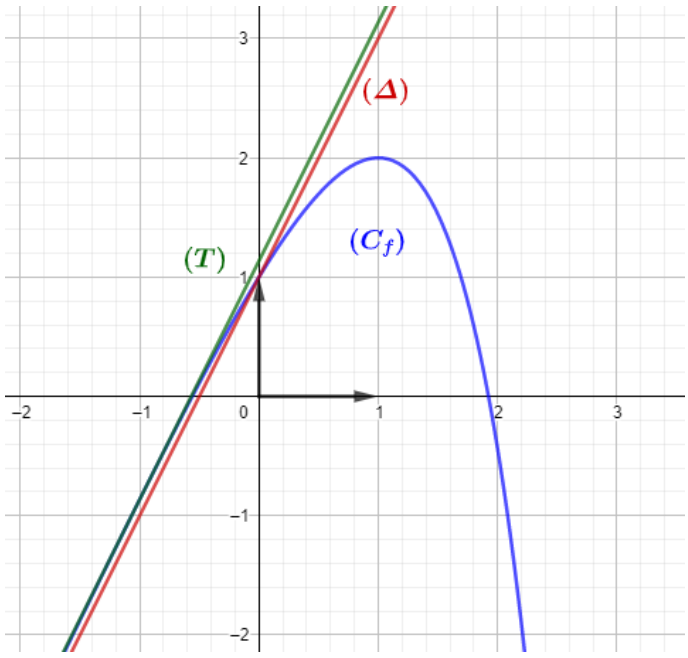

❼ المناقشة البيانية:

لدينا: من المعادلة (E) : $m \in \mathbb{R}_+^*$

حلول المعادلة (E) هي فواصل نقط تقاطع (C_f) مع المستقيمات ذات المعادلة:

$$y = 2x + \ln m$$

ومنه:

لما $\ln m < 1$ أي $m < e$ أي لما $m \in]0; e[$

المعادلة تقبل حل وحيد موجب تماما

- لما $\ln m = 1$ أي $m = e$

المعادلة تقبل حل وحيد معدوم

- لما $1 < \ln m < 1 + e^{-2}$ أي $e < m < e^{1+e^{-2}}$

أي لما $m \in]e; e^{1+e^{-2}}[$

المعادلة تقبل حلين سالبين تماما

- لما $\ln m = 1 + e^{-2}$ أي لما $m = e^{1+e^{-2}}$

المعادلة تقبل حل مضاعف

- لما $\ln m > 1 + e^{-2}$ أي $m > e^{1+e^{-2}}$

أي لما $m \in]e^{1+e^{-2}}; +\infty[$

المعادلة لا تقبل حلول

(I

❶ دراسة تغيرات الدالة g' :

- النهايات:
  - $\lim\limits_{x\to-\infty}[g(x)]=-1$
  - $\lim\limits_{x\to+\infty}[g(x)]=+\infty$
- التفسير الهندسي للنهايات:

منحنى الدالة g يقبل مستقيم مقارب أفقي بجوار $-\infty$

- حساب $g'(x)$:

$$g'(x)=2e^x+(2x+1)e^x$$
$$=(2x+3)e^x$$

لدينا $e^x>0$ ومنه إشارة $g'(x)$ من إشارة $(2x+3)$:

$$2x+3=0\Rightarrow x=-\frac{3}{2}$$

- جدول تغيرات $g(x)$:

x	$-\infty$		$\frac{-3}{2}$		$+\infty$
$g'(x)$		$-$	0	$+$	
$g(x)$	-1	↘	$f\left(\frac{-3}{2}\right)$	↗	$+\infty$

❷ حساب $g(0)$:

$$g(0)=(2(0)+1)e^0-1=0$$

- استنتج إشارة $g(x)$ على $\mathbb{R}$:

x	$-\infty$		0		$+\infty$
$g(x)$		$-$	0	$+$	

(II

❶ حساب نهايات الدالة f عند أطراف مجموعة تعريفها:

- $\lim\limits_{x\to-\infty}[f(x)]=-\infty$
- $\lim\limits_{x\to+\infty}[f(x)]=+\infty$

❷

أ/ تبيين أنّ (Δ) ذو المعادلة $y=x$ مقارب مائل لـ (C_f) عند $-\infty$:

$$\lim_{x\to-\infty}[f(x)-y]=\lim_{x\to-\infty}[x(e^x-1)^2-x]$$
$$=\lim_{x\to-\infty}[xe^{2x}+x-2xe^x-x]$$
$$=\lim_{x\to-\infty}[xe^x(e^x-2)]$$

لأن $\lim\limits_{x\to-\infty}[xe^x]=0$

ب/ دراسة الوضع النسبي بين (C_f) و (Δ) :

دراسة إشارة الفرق $(f(x)-y)$:

$$f(x)-y=xe^x(e^x-2)$$
$$\Rightarrow\begin{cases}xe^x=0\\e^x-2=0\end{cases}$$
$$\Rightarrow\begin{cases}x=0\\e^x=2\end{cases}$$
$$\Rightarrow\begin{cases}x=0\\x=\ln 2\end{cases}$$

ومنه:

x	$-\infty$		0		$\ln 2$		$+\infty$
xe^x	$-$		0	$+$			$+$
e^x-2	$-$			$-$	0	$+$	
$f(x)-y$	$+$		0	$-$	0	$+$	

- الوضعية:
  - (C_f) فوق (Δ) لما: $x\in]-\infty;0[\cup]\ln 2;+\infty[$.
  - (C_f) يقطع (Δ) في النقطتين $A(0;0)$ و $B(\ln 2;\ln 2)$.
  - (C_f) تحت (Δ) لما: $x\in]0;\ln 2[$.

❸

أ/ تبيين أنه: $f'(x)=(e^x-1)g(x)$:

$$f'(x)=(e^x-1)^2+2xe^x(e^x-1)$$
$$=(e^x-1)(e^x-1+2xe^x)$$
$$=(e^x-1)(e^x(2x+1)-1)$$
$$=(e^x-1)g(x)$$

ب/ استنتاج اتجاه تغير الدالة f :

إشارة $f'(x)$ من إشارة $g(x)$ في إشارة (e^x-1)

$$e^x-1=0\Rightarrow e^x=1$$
$$\Rightarrow x=\ln 1$$
$$\Rightarrow x=0$$

جدول التغيرات:

x	$-\infty$		0		$+\infty$
$g(x)$		$-$	0	$+$	
e^x-1		$-$	0	$+$	
$f'(x)$	$+$		0	$+$	
$f(x)$	$-\infty$	↗	0	↗	$+\infty$

❹ كتابة معادلة ديكارتية للمماس (T) عند المبدأ:

لدينا معادلة المماس تكتب من الشكل:

$$(T): y = f'(a)(x-a) + f(a)$$

المماس يمر من المبدأ معناه:

$$f'(a)(0-a) + f(a) = 0$$
$$\Rightarrow -a(e^a - 1)g(a) + a(e^a - 1) = 0$$
$$\Rightarrow a(e^a - 1)[-g(a) + (e^a - 1)] = 0$$
$$\Rightarrow a(e^a - 1)[-(2a+1)e^a + 1 + e^a - 1] = 0$$
$$\Rightarrow a(e^a - 1)[-2ae^a - e^a + 1 + e^a - 1] = 0$$
$$\Rightarrow -2a^2(e^a - 1)e^a = 0$$
$$\Rightarrow \begin{cases} -2a^2 = 0 \\ e^a - 1 = 0 \end{cases}$$
$$\Rightarrow \begin{cases} a = 0 \\ e^a = 1 \end{cases}$$
$$\Rightarrow \begin{cases} a = 0 \\ a = \ln 1 \end{cases}$$
$$\Rightarrow a = 0$$

ومنه:

$$(T): y = f'(0)x + f(0)$$
$$y = 0x + 0$$
$$y = 0$$

ومنه المستقيم ذو المعادلة $y = 0$ مماس للمنحنى (C_f) .

❺ التمثيل البياني:

خطوات التمثيل على معلم متعامد ومتجانس:

- نرسم المستقيم المقارب المائل $(\Delta) : (y = x)$.
- نعين A و B نقط تقاطع المنحنى (C_f) مع (Δ).
- نرسم المماس (T) .
- ثم باستعمال جدول التغيرات نرسم (C_f)

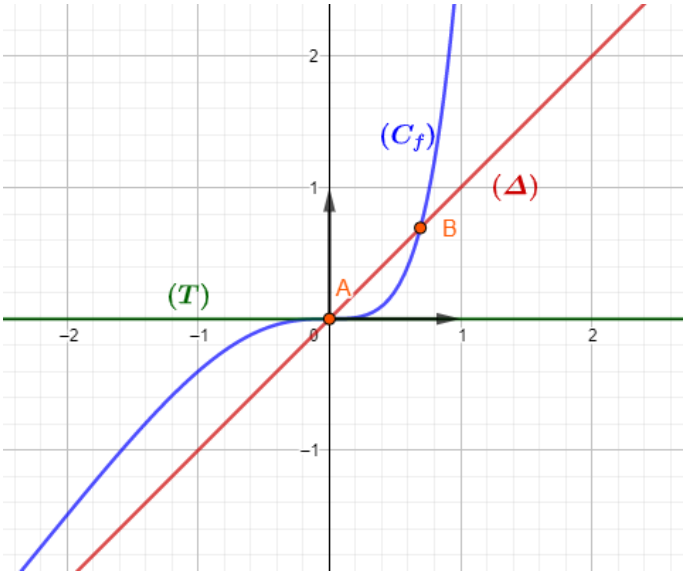

❻ المناقشة البيانية:

حلول المعادلة $f(x) = mx$ هل فواصل نقط تقاطع (C_f) مع المستقيمات ذات المعادلة: $y_m = mx$

لما $m = 0$ المعادلة تقبل حلا مضاعفا هو $x = 0$

لما $0 < m < 1$ المعادلة تقبل ثلاث حلول

لما $m \geq 0$ المعادلة تقبل حلان: حل موجب تماما وحل معدوم

لما $m < 0$ المعادلة تقبل حلا معدوما

❶

أ/ تبيين أنه من اجل كل x من $\mathbb{R}$: $1-\frac{1}{e^x+1}=\frac{1}{e^{-x}+1}$:

$$\begin{aligned}1-\frac{1}{e^x+1}&=\frac{e^x+1-1}{e^x+1}\\&=\frac{e^x}{e^x+1}\times\frac{e^{-x}}{e^{-x}}\\&=\frac{1}{1+e^{-x}}\end{aligned}$$

ب/ استنتاج أن الدالة f فردية:

$$\begin{aligned}f(-x)&=1+\frac{1}{2}x-\frac{2}{e^{-x}+1}\\&=1+\frac{1}{2}x-\frac{1}{e^{-x}+1}-\frac{1}{e^{-x}+1}\\&=1+\frac{1}{2}x-1+\frac{1}{e^x+1}-1\\&\quad+\frac{1}{e^x+1}\\&=-1+\frac{1}{2}x+\frac{2}{e^x+1}\\&=-\left(1-\frac{1}{2}x-\frac{2}{e^x+1}\right)\\&=-f(x)\end{aligned}$$

إذن الدالة f فردية

❷ حساب نهايات الدالة f عند أطراف مجموعة تعريفها:

- $\lim\limits_{x\to-\infty}[f(x)]=\lim\limits_{x\to-\infty}[f(x)]=+\infty$
- $\lim\limits_{x\to+\infty}[f(x)]=-\infty$

❸

أ/ تبيين أنه : $f'(x)=-\frac{1}{2}\left(\frac{e^x-1}{e^x+1}\right)^2$:

$$\begin{aligned}f'(x)&=-\frac{1}{2}+\frac{2e^x}{(e^x+1)^2}\\&=\frac{-(e^x+1)^2+4e^x}{2(e^x+1)^2}\\&=\frac{-e^{2x}-1-2e^x+4e^x}{2(e^x+1)^2}\\&=\frac{-e^{2x}-1+2e^x}{2(e^x+1)^2}\\&=\frac{-(e^{2x}+1-2e^x)}{2(e^x+1)^2}\\&=\frac{-(e^x-1)^2}{x\quad 2}\end{aligned}$$

$$=-\frac{1}{2}\left(\frac{e^x-1}{e^x+1}\right)^2$$

دراسة إشارة $f'(x)$:

لدينا $-\frac{1}{2}\left(\frac{e^x-1}{e^x+1}\right)^2\leq 0$ ولدينا: $f'(0)=0$ ومنه:

x	$-\infty$	0	$+\infty$
$f'(x)$	$-$	0	$-$

ب/ الاستنتاج:

المشتقة الأولى انعدمت ولم تغير اشارتها إذن المنحني (C_f) يقبل نقطة انعطاف احداثياتها $O(0;0)$

ج/ جدول تغيرات الدالة f :

لدينا: $f(0)=0$ ومنه:

x	$-\infty$	0	$+\infty$
$f'(x)$	$-$	0	$-$
$f(x)$	$+\infty$ ↘	0	↘ $-\infty$

❹

أ/ تبيين أن : $\lim\limits_{x\to+\infty}\left[f(x)-\left(-\frac{1}{2}x+1\right)\right]=0$:

$$\begin{aligned}&\lim_{x\to+\infty}\left[f(x)-\left(-\frac{1}{2}x+1\right)\right]\\&=\lim_{x\to+\infty}\left[1-\frac{1}{2}x-\frac{2}{e^x+1}+\frac{1}{2}x-1\right]\\&=\lim_{x\to+\infty}\left[-\frac{2}{e^x+1}\right]\\&=0\end{aligned}$$

- التفسير الهندسي:

(C_f) يقبل مستقيم مقارب مائل بجوار $+\infty$ معادلته:

$$y=-\frac{1}{2}x+1$$

ب/ حساب $\lim\limits_{x\to-\infty}\left[f(x)+\frac{1}{2}x+1\right]$:

$$\begin{aligned}&\lim_{x\to-\infty}\left[f(x)+\frac{1}{2}x+1\right]\\&=\lim_{x\to-\infty}\left[1-\frac{1}{2}x-\frac{2}{e^x+1}+\frac{1}{2}x+1\right]\\&=\lim_{x\to-\infty}\left[2-\frac{2}{e^x+1}\right]\\&=2-2\\&=0\end{aligned}$$

- التفسير الهندسي:

(C_f) يقبل مستقيم مقارب مائل بجوار $-\infty$ معادلته:

$$y = -\frac{1}{2}x - 1$$

ج/ درسة الوضع النسبي بين (C_f) و (d):

ندرس إشارة الفرق $f(x) - y$

$$f(x) - y = 1 - \frac{1}{2}x - \frac{2}{e^x + 1} + \frac{1}{2}x - 1$$
$$= \frac{-2}{e^x + 1}$$

لدينا: $(e^x + 1) > 0$ ومنه :

x	$-\infty$ $\quad +\infty$
$f(x) - y$	$-$
الوضعية	(C_f) تحت (d)

❺ التمثيل البياني:

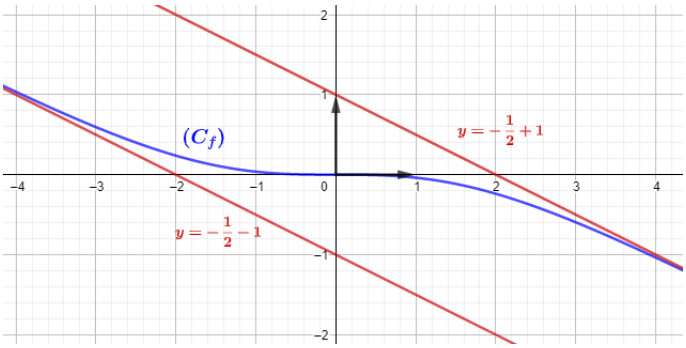

❶ تبيين أن $\lim\limits_{x\to-\infty}[f(x)]=+\infty$ و $\lim\limits_{x\to+\infty}[f(x)]=-\infty$:

- $\lim\limits_{x\to-\infty}[f(x)]=+\infty$

لأن:

$$\begin{cases}\lim\limits_{x\to-\infty}[x-2]=-\infty\\ \lim\limits_{x\to-\infty}[e^x]=0\\ \lim\limits_{x\to-\infty}\left[-x+\frac{5}{2}\right]=+\infty\end{cases}$$

- $\lim\limits_{x\to+\infty}[f(x)]=-\infty$

لأن:

$$\begin{cases}\lim\limits_{x\to+\infty}\left[-x+\frac{5}{2}\right]=-\infty\\ \lim\limits_{x\to+\infty}[x-2]=+\infty\\ \lim\limits_{x\to+\infty}\left[-\frac{1}{2}e^{x-2}\right]=-\infty\end{cases}$$

❷

أ/ تبيين أن (Δ) مقارب مائل لـ (C_f) :

$$\lim_{x\to-\infty}[f(x)-y]$$
$$=\lim_{x\to-\infty}\left[-x+\frac{5}{2}-\frac{1}{2}e^{x-2}(e^{x-2}-4)+x-\frac{5}{2}\right]$$
$$=\lim_{x\to-\infty}\left[-\frac{1}{2}e^{x-2}(e^{x-2}-4)\right]=0$$

ومنه المستقيم (Δ) مقارب مائل بجوار $-\infty$.

ب/ حل المعادلة : $e^{x-2}-4=0$:

$$e^{x-2}-4=0\Rightarrow e^{x-2}=4$$
$$\Rightarrow x-2=\ln 4$$
$$\Rightarrow x=\ln 4+2$$

- تبيين أن (C_f) يقع فوق (Δ) على المجال $]-\infty;2+\ln 4[$ وتحته على المجال $]2+\ln 4;+\infty[$:

دراسة إشارة الفرق $(f(x)-y)$:

$$f(x)-y=-x+\frac{5}{2}-\frac{1}{2}e^{x-2}(e^{x-2}-4)+x-\frac{5}{2}$$
$$=-\frac{1}{2}e^{x-2}(e^{x-2}-4)$$

لدينا $-\frac{1}{2}e^{x-2}<0$ ولدينا:

$$e^{x-2}-4=0\Rightarrow x=\ln 4+2$$

ومنه:

x	$-\infty$	$\ln 4+2$	$+\infty$
$-\frac{1}{2}e^{x-2}$	$-$	$-$	
$e^{x-2}-4$	$-$	0	$+$
$f(x)-y$	$+$	0	$-$

- الوضعية:

- (C_f) فوق (Δ) لما: $x\in]-\infty;2+\ln 4[$
- (C_f) يقطع (Δ) في النقطة ذات الفاصلة $2+\ln 4$
- (C_f) تحت (Δ) لما: $x\in]2+\ln 4;+\infty[$

❸

أ/ تبيين أنه: $f'(x)=-(e^{x-2}-1)^2$:

$$f'(x)=-1-\frac{1}{2}e^{x-2}(e^{x-2}-4)-\frac{1}{2}e^{2(x-2)}$$
$$=-\left(1+\frac{1}{2}e^{2(x-2)}-2e^{x-2}+\frac{1}{2}e^{2(x-2)}\right)$$
$$=-\left(1+e^{2(x-2)}-2e^{x-2}\right)$$
$$=-(e^{x-2}-1)^2$$

ب/ جدول تغيرات الدالة f :

لدينا $f'(x)\le 0$

ولدينا:

$$f'(x)=0\Rightarrow-(e^{x-2}-1)^2=0$$
$$\Rightarrow(e^{x-2}-1)^2=0$$
$$\Rightarrow e^{x-2}-1=0$$
$$\Rightarrow e^{x-2}=1$$
$$\Rightarrow x-2=0$$
$$\Rightarrow x=2$$

x	$-\infty$	2	$+\infty$
$f'(x)$	$-$	0	$-$
$f(x)$	$+\infty$ ↘		$-\infty$

❹ حساب $f''(x)$:

$$f''(x)=-2e^{x-2}(e^{x-2}-1)$$

دراسة $f''(x)$:

لدينا $-2e^{x-2}<0$

ولدينا:

$$e^{x-2}-1=0\Rightarrow x=2$$

x	$-\infty$	2	$+\infty$
$-2e^{x-2}$	$-$	0	$-$
$e^{x-2}-1$	$-$	0	$+$
$f''(x)$	$+$	0	$-$

المشتقة الثانية انعدمت وغيرت اشارتها معناه أن المنحنى (C_f) يقبل نقطة انعطاف فاصلتها 2

❺ اثبات أن المعادلة $f(x)=0$ تقبل حلا وحيدا α حيث: $2+\ln 3<\alpha<2+\ln 4$:

لدينا الدالة f رتيبة ومستمرة على مجال تعريفها

ولدينا: $f(2+\ln 4)=-0.83$

و $f(2+\ln 3)=0.93$

ولدينا: $f(2+\ln 4)\times f(2+\ln 3<0)$

ومنه حسب مبرهنة القيم المتوسطة، المعادلة $f(x)=0$ تقبل حلا وحيدا α في المجال $]2+\ln 3\,;2+\ln 4[$

❻ التمثيل البياني:

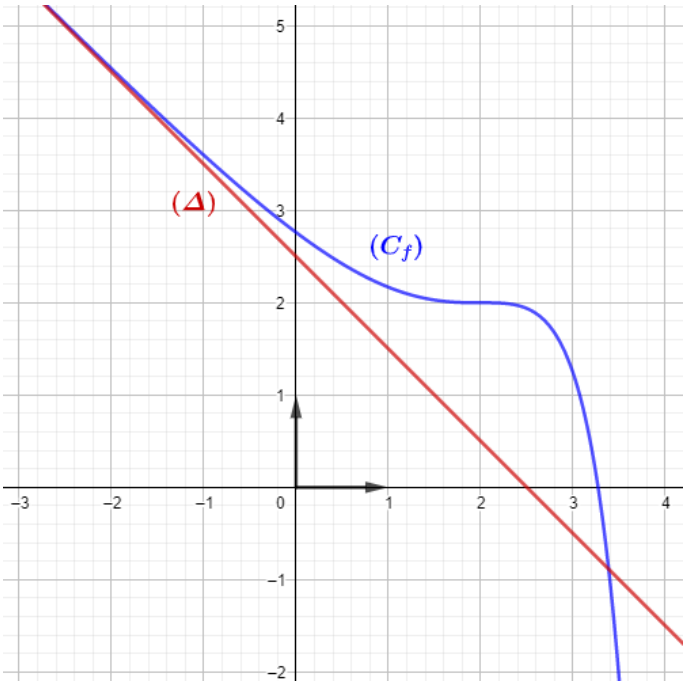

10 حل المسـألة رقم:

مشاهـــدة المسألة

(I

❶ دراسة تغيرات الدالة g على $\mathbb{R}$:

- النهايات:

- $\lim\limits_{x\to-\infty}[f(x)]=-\infty$
- $\lim\limits_{x\to+\infty}[f(x)]=\lim\limits_{x\to+\infty}\left[e^x\left(1+\frac{x}{e^x}+\frac{2}{e^x}\right)\right]=+\infty$

- حساب $g'(x)$:

$$g'(x)=e^x+1$$

لدينا: $g'(x)>0$:

ومنه:

- جدول تغيرات $g'(x)$:

x	$-\infty$		$+\infty$
$g'(x)$		$+$	
$g(x)$	$-\infty$	↗	$+\infty$

❷

أ/ تبيين أن المعادلة $g(x)=0$ تقبل حلا وحيدا α:

لدينا الدالة g مستمرة ورتيبة على $\mathbb{R}$

ولدينا $g(-2.2)=-0.08$

و $g(-2.1)=0.02$

ومنه: $g(-2.2)\times g(-2.1)<0$

ومنه حسب مبرهنة القيم المتوسطة المعادلة $g(x)=0$

تقبل حلا وحيدا α حيث $-2.2<\alpha<-2.1$

ب/ استنتاج إشارة $g(x)$ على $\mathbb{R}$:

x	$-\infty$		α		$+\infty$
$g(x)$		$-$	0	$+$	

(II

❶

أ/ حساب $\lim\limits_{x\to-\infty}[f(x)]$:

$$\lim_{x\to-\infty}[f(x)]=\frac{1}{1}=1$$

لأن: $\lim\limits_{x\to-\infty}[xe^x]=0$

- التفسير الهندسي:

(C_f) يقبل م

ب/ تبيين أنه من أجل كل x من $\mathbb{R}$: $f(x)=\frac{e^{-x}-x}{e^{-x}+1}$:

$$f(x)=\frac{1-xe^x}{e^x+1}$$
$$=\frac{e^x\left(\frac{1}{e^x}-x\right)}{e^x\left(1+\frac{1}{e^x}\right)}$$
$$=\frac{\frac{1}{e^x}-x}{\frac{1}{e^x}+1}$$
$$=\frac{e^{-x}-x}{e^{-x}+1}$$

- حساب $\lim\limits_{x\to+\infty}[f(x)]$:

$$\lim_{x\to+\infty}[f(x)]=\lim_{x\to+\infty}\left[\frac{e^{-x}-x}{e^{-x}+1}\right]=-\infty$$

لأن: $\lim\limits_{x\to+\infty}\left[\frac{1}{e^x}\right]=0$

❷ التحقق أنه من أجل كل x من $\mathbb{R}$: $f'(x)=\frac{-g(x)e^x}{(e^x+1)^2}$:

$$f'(x)=\frac{(-e^x-xe^x)(e^x+1)-e^x(1-xe^x)}{(e^x+1)^2}$$
$$=\frac{-e^x(1+x)(e^x+1)-e^x(1-xe^x)}{(e^x+1)^2}$$
$$=\frac{e^x[-(1+x)(e^x+1)-(1-xe^x)]}{(e^x+1)^2}$$
$$=\frac{e^x[-e^x-1-xe^x-x-1+xe^x]}{(e^x+1)^2}$$
$$=\frac{-e^x[e^x+x+2]}{(e^x+1)^2}$$
$$=\frac{-g(x)e^x}{(e^x+1)^2}$$

❸ دراسة تغيرات الدالة f :

لدينا $e^x>0$ و $(e^x+1)^2>0$ ومنه إشارة $f'(x)$ من إشارة $-g(x)$

- جدول تغيرات $f(x)$:

x	$-\infty$		α		$+\infty$
$f'(x)$		$+$	0	$-$	
$f(x)$	1	↗	$f(\alpha)$	↘	$-\infty$

❺

أ/ تبيين أنّ المستقيم (Δ) ذو المعادلة $y=-x$ مقارب مائل لـ (C_f) :

$$\lim_{x\to+\infty}[f(x)-x]=\lim_{x\to+\infty}\left[\frac{1-xe^x}{e^x+1}-x\right]$$
$$=\lim_{x\to+\infty}\left[\frac{1-xe^x+xe^x+x}{e^x+1}\right]$$
$$=\lim_{x\to+\infty}\left[\frac{1+x}{e^x+1}\right]$$
$$=0$$

لأن: $\lim_{x\to+\infty}\left[\frac{x}{e^x}\right]=0$

ومنه المستقيم (Δ) ذو المعادلة $y=-x$ مقارب مائل لـ (C_f)

ب/ ادرس الوضع النسبي بين (Δ) و (C_f) :

- دراسة إشارة الفرق $(f(x)-y)$

$$f(x)-y=\frac{1+x}{e^x+1}$$

لدينا: $(e^x+1)>0$ ومنه إشارة الفرق من إشارة البسط:

$$1+x=0\Rightarrow x=-1$$

x	$-\infty$	-1	$+\infty$
$f(x)-y$	$-$	0	$+$

- الوضعية:

- (C_f) تحت (Δ) لما $x\in]-\infty;-1[$.
- (C_f) يقطع (Δ) في النقطة $A(-1;-1)$
- (C_f) فوق (Δ) لما $x\in]-1;+\infty[$.

❻

أ/ تبيين أن: $f(\alpha)=-(\alpha+1)$:

لدينا:

$$g(\alpha)=0\Rightarrow e^\alpha+\alpha+2=0$$
$$\Rightarrow e^\alpha=-(\alpha+2)$$

ولدينا:

$$f(\alpha)=\frac{1-\alpha e^\alpha}{e^\alpha+1}$$
$$=\frac{1-\alpha(\alpha+2)}{-(\alpha+2)+1}$$
$$=\frac{\alpha^2+2\alpha+1}{-(\alpha+1)}$$
$$=\frac{(\alpha+1)^2}{-(\alpha+1)}$$
$$=-(\alpha+1)$$

- حصر $f(\alpha)$:

لدينا:

$$-1.2<\alpha+1<-1.1$$
$$1.1<-(\alpha+1)<1.2$$

اذن:

$$1.1<f(\alpha)<1.2$$

ب/ تبيين أن المنحني (C_f) يقطع محور الفواصل في نقطة وحيدة فاصلتها β حيث: $0.5<\beta<0.6$:

لدينا الدالة f مستمرة ورتيبة على $\mathbb{R}$

ولدينا $f(0.6)=-0.03$

و $f(0.5)=0.06$

ومنه: $f(0.4)\times f(0.6)<0$

ومنه حسب مبرهنة القيم المتوسطة المعادلة $f(x)=0$ تقبلا حلا وحيدا β في المجال $]0.5;0.6[$

ومنه (C_f) يقطع محور الفواصل في نقطة وحيدة β .

❼ التمثيل البياني:

خطوات التمثيل على معلم متعامد و(C_f) متجانس:

- نرسم المستقيم المقارب: $(y=-1)$
- نرسم المستقيم المقارب المائل (Δ): $(y=-x)$
- نعين A نقطة تقاطع المنحنى (C_f) مع المقارب (Δ)
- ثم باستعمال جدول التغيرات نرسم (C_f)

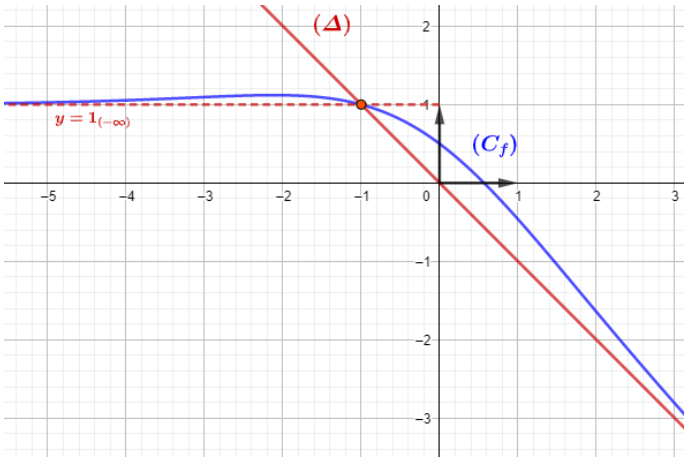

❽ المناقشة البيانية:

لدينا:

$$\ln m+(x+\ln x)e^x-1=0$$
$$\Rightarrow \ln m+xe^x+e^x\ln m-1=0$$
$$\Rightarrow \ln m\,(1+e^x)=1-xe^x$$
$$\Rightarrow \ln m=\frac{1-xe^x}{1+e^x}$$
$$\Rightarrow f(x)=\ln m$$

ومنه مجموعة الحلول هي فواصل نقط تقاطع المنحني (C_f)

لما $\ln m < \frac{1}{2}$ أي $m < \sqrt{e}$

المعادلة تقبل حل وحيد موجب تماما

لما $\ln m = \frac{1}{2}$ أي $m = \sqrt{e}$ المعادلة

تقبل حل وحيد معدوم

لما $\frac{1}{2} < \ln m < 1$ أي $\sqrt{e} < m < e$ المعادلة

تقبل حل وحيد سالب تماما

لما $1 < \ln m < f(\alpha)$ أي $e < m < e^{f(\alpha)}$

المعادلة تقبل حلان سالبان تماما

لما $\ln m = f(\alpha)$ أي $m = e^{f(\alpha)}$ المعادلة

تقبل حل مضاعف سالب

لما $\ln m > f(\alpha)$ أي $m > e^{f(\alpha)}$ المعادلة

لا تقبل حلول

11 حل المسـألة رقم:

مشاهـــدة المسألة

I)

❶ ايجاد عبارة $g(x)$ بدلالة x :

نضع: $x = t$ نجد:

$$g(t) - 2g(1-t) = e^t - 2e^{1-t} - 3t + 3$$
$$\Rightarrow -2g(1-t) = -g(t) + e^t - 2e^{1-t} - 3t + 3$$
$$\Rightarrow \boxed{2g(1-t) = g(t) - e^t + 2e^{1-t} + 3t - 3} \dots (1)$$

نضع : $x = 1 - t$ معناه: $t = 1 - x$ ، نجد:

$$g(1-t) - 2g(1-1+t)$$
$$= e^{1-t} - 2e^{1-1+t} - 3(1-t) + 3$$
$$\Rightarrow g(1-t) - 2g(t) = e^{1-t} - 2e^t + 3t$$
$$\Rightarrow \boxed{2g(1-t) - 4g(t) = 2e^{1-t} - 4e^t + 6t} \dots (2)$$

نعوض المعادلة (1) في المعادلة (2) نجد:

$$g(t) - e^t + 2e^{1-t} + 3t - 3 - 4g(t)$$
$$= 2e^{1-t} - 4e^t + 6t$$
$$\Rightarrow -3g(t) = -3e^t + 3t + 3$$
$$\Rightarrow g(t) = e^t - t - 1$$

إذن : $g(x) = e^x - x - 1$

❷

أ/ حساب نهايات الدالة g عند أطراف مجموعة تعريفها:

- $\lim\limits_{x\to-\infty}[g(x)] = \lim\limits_{x\to-\infty}[e^x - x - 1] = +\infty$
- $\lim\limits_{x\to+\infty}[g(x)] = \lim\limits_{x\to+\infty}\left[e^x\left(1 - \frac{x}{e^x} - \frac{1}{e^x}\right)\right] = +\infty$

ب/ دراسة اتجاه تغير الدالة g :

لدينا: $g'(x) = e^x - 1$

ولدينا:

$$g'(x) = 0 \Rightarrow e^x - 1 = 0$$
$$\Rightarrow e^x = 1$$
$$\Rightarrow x = 0$$

ومنه جدول التغيرات:

x	$-\infty$		0		$+\infty$
$g'(x)$		$-$	0	$+$	
$g(x)$	$+\infty$	↘	0	↗	$+\infty$

❸ استنتج اتجاه تغير الدالة h:

من أجل كل x من $\mathbb{R}$:

نضع: $-x$

و $v(x) = g(u(x)) = g(-x)$

أي $v(x) = (g \circ u)(x)$

لدينا الدالة g متناقصة على المجال $\underbrace{]-\infty;0]}_{I}$ والدالة u

متناقصة على المجال $\underbrace{[0;+\infty[}_{g(I)}$

كيف وجدنا المجال $g(I)$:

لدينا: $I =]-\infty;0]$ و $u(x) \in I$

معناه $u(x) \leq 0$ أي $-x \leq 0$

ومنه $x \geq 0$ أي $x \in [0;+\infty[$

ومنه: $g(I) = [0;+\infty[$.

وبما أنّ الدالة g متناقصة على $]-\infty;0]$

والدالة u متناقصة على $[0;+\infty[$

إذن الدالة k متزايدة على المجال $[0;+\infty[$

بنفس الفكرة نجد: الدالة k متناقصة على المجال $]-\infty;0]$

واضح أن: $g(-x) = k(x)$

أي: $-g(-x) = -k(x)$

وعليه: $-k(x)$ متزايدة على المجال $]-\infty;0]$

ومتناقصة على المجال $[0;+\infty[$

ولدينا: $h(x)$ و $-k(x)$ لهما نفس اتجاه التغير

لأن: $h(x) = 1 - k(x)$

اذن:

x	$-\infty$		α		0		β		$+\infty$
$h(x)$	0	↗	0	↗	1	↘	0	↘	$-\infty$

❹ اثبات أن المعادلة $h(x) = 0$ تقبل حلين α و β:

لدينا الدالة h مستمرة ورتيبة على مجال تعريفها

ولدينا: $h(-1.14) \times h(-1.15) < 0$

لأنّ: $h(-1.14) = 0.01$

و $h(-1.15) = -0.08$

ومنه حسب مبرهنة القيم المتوسطة المعادلة $h(x)=0$ تقبل حلا وحيدا α في المجال $]-1.15;-1.14[$

ولدينا: $h(1.84)\times h(1.85)<0$

لأنّ: $h(1.85)=-0.007$

و $h(1.84)=0.001$

ومنه حسب مبرهنة القيم المتوسطة المعادلة $h(x)=0$ تقبل حلا وحيدا β في المجال $]1.84;1.85[$

اذن المعادلة $h(x)=0$ تقبل حلين α و β

❺ استنتاج إشارة كل من $g(x)$ و $h(x)$ تبعا لقيم العدد الحقيقي x :

إشارة $g(x)$:

من جدول تغيرات $g(x)$ لدينا:

x	$-\infty$		0		$+\infty$
$g(x)$	$+$	0	$+$		

إشارة $h(x)$:

من جدول تغيرات $h(x)$ لدينا:

x	$-\infty$		α		β		$+\infty$
$h(x)$	$-$	0	$+$	0	$-$		

(II

❶ حساب نهايات الدالة f عند أطراف مجموعة تعريفها:

- $\lim\limits_{x\to-\infty}[f(x)]=\lim\limits_{x\to-\infty}\left[\dfrac{x+e^x-x-1}{1+e^x-x-1}\right]$
$=\lim\limits_{x\to-\infty}\left[\dfrac{e^x-1}{e^x-x}\right]$
$=\dfrac{-1}{+\infty}=0$
- $\lim\limits_{x\to+\infty}[f(x)]=\lim\limits_{x\to+\infty}\left[\dfrac{e^x-1}{e^x-x}\right]$
$=\lim\limits_{x\to+\infty}\left[\dfrac{1-\frac{1}{e^x}}{1-\frac{x}{e^x}}\right]$
$=1$

لأن: $\lim\limits_{x\to+\infty}\left[\dfrac{x}{e^x}\right]=0$

- التفسير الهندسي:

(C_f) يقبل مستقيم مقارب مائل بجوار $-\infty$ معادلته $y=0$.

(C_f) يقبل مستقيم مقارب مائل بجوار $+\infty$ معادلته $y=1$.

❷

أ/ اثبات أن الدالة f قابلة للاشتقاق على $\mathbb{R}$:

$$f(x)=\frac{x+g(x)}{1+g(x)}$$

لدينا البسط عبارة عن مجموعة دالتين قابلتين للاشتقاق على $\mathbb{R}$ والمقام كذلك.

ومنه البسط على المقام قابل للاشتقاق على $\mathbb{R}$.

اذن الدالة f قابلة للاشتقاق على $\mathbb{R}$.

- اثبات أن: $f'(x)=\dfrac{e^x h(x)}{(1+g(x))^2}$:

لدينا:

$$\begin{aligned}h(x)&=1-g(-x)\\&=1-e^{-x}-x+1\\&=2-x-e^{-x}\end{aligned}$$

ومنه:

$$\begin{aligned}f'(x)&=\frac{e^x(e^x-x)-(e^x-1)(e^x-1)}{(e^x-x)^2}\\&=\frac{e^x[e^x-x-(1-e^{-x})(e^x-1)]}{(e^x-x+1-1)^2}\\&=\frac{e^x(e^x-x-e^x+1+1-e^{-x})}{(1+g(x))^2}\\&=\frac{e^x(2-x-e^{-x})}{(1+g(x))^2}\\&=\frac{e^x h(x)}{(1+g(x))^2}\end{aligned}$$

ب/ استنتاج اتجاه تغير الدالة f :

لدينا: $(1+g(x))^2>0$ و $e^x>0$

ومنه إشارة $f'(x)$ من إشارة $h(x)$.

ولدينا $f(0)=0$

- جدول التغيرات:

x	$-\infty$		α		0		β		$+\infty$
$f'(x)$	$-$	0	$+$	0	$+$	0	$-$		
$f(x)$	0	↘	$f(\alpha)$	↗	0	↗	$f(\beta)$	↘	1

❸ التمثيل البياني:

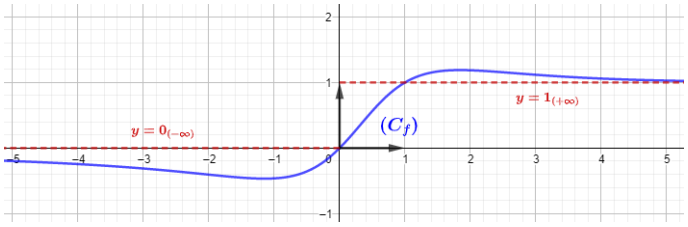

حل المسـألة رقم: 12

مشاهـــدة المسألة

❶ تعيين مجوعة تعريف الدالة f :

الدالة f معرفة لما : $e^x+1\neq 0$

ولدينا $e^x+1>0$

ومنه الدالة f معرفة على $\mathbb{R}$

❷

أ/ حساب $\lim\limits_{x\to-\infty}[f(x)]$:

- $\lim\limits_{x\to-\infty}[f(x)]=0$

التفسير الهندسي:

(C_f) يقبل مستقيم مقارب أفقي بجوار $-\infty$ معادلته $y=0$

ب/ تبيين أنه من أجل كل عدد حقيقي x $f(x)=\frac{1}{e^{-x}+1}$:

لدينا:

$$f(x)=\frac{e^x}{e^x+1}=\frac{e^x}{e^x\left(1+\frac{1}{e^x}\right)}=\frac{1}{1+e^{-x}}$$

ج/ حساب $\lim\limits_{x\to+\infty}[x]$:

$$\lim_{x\to+\infty}[x]=\lim_{x\to+\infty}\left[\frac{1}{1+e^{-x}}\right]=1$$

- التفسير الهندسي: (C_f) يقبل مستقيم مقارب أفقي بجوار $+\infty$ معادلته $y=1$.

① اثبات أن الدالة f متزايدة تماما:

- حساب $f'(x)$:

$$f'(x)=\frac{e^x(e^x+1)-e^xe^x}{(e^x+1)^2}=\frac{e^x}{(e^x+1)^2}$$

لدينا $g'(x)>0$ ومنه:

- جدول تغيرات الدالة f :

x	$-\infty$	$+\infty$
$f'(x)$	+	
	↗	1

❸ تبيين أن النقطة $A\left(0;\frac{1}{2}\right)$ مركز تناظر لـ (C_f):

- نبيّن أن $(2(0)-x)\in D_f$:

واضح أنّ $(-x)\in\mathbb{R}$

- نبيّن أن $f(2(0)-x)+f(x)=2\left(\frac{1}{2}\right)$:

$$f(2(0)-x)+f(x)=\frac{e^x}{e^x+1}+\frac{e^{-x}}{e^{-x}+1}=\frac{e^x(e^{-x}+1)+e^{-x}(e^x+1)}{(e^x+1)(e^{-x}+1)}=\frac{1+e^x+1+e^{-x}}{1+e^x+e^{-x}+1}=\frac{2}{2}=2\left(\frac{1}{2}\right)$$

❹ تعيين معادلة (T) عند النقطة A :

$$(T):y=f'(0)(x-0)+f(0)=\frac{e^0}{(e^0+1)^2}x+\frac{e^0}{e^0+1}=\frac{1}{4}x+\frac{1}{2}$$

❺

أ/ تحليل العبارة: $e^{2x}-2e^x+1$:

$$e^{2x}-2e^x+1=(e^x-1)^2$$

ب/ حساب $g'(x)$ و $g(0)$

$$\bullet\ g'(x)=\frac{1}{4}-f'(x)=\frac{1}{4}-\frac{e^x}{(e^x+1)^2}=\frac{(e^x+1)^2-4e^x}{4(e^x+1)^2}=\frac{e^{2x}+1+2e^x-4e^x}{4(e^x+1)^2}=\frac{e^{2x}+1-2e^x}{4(e^x+1)^2}=\frac{(e^x-1)^2}{4(e^x+1)^2}$$

ولدينا:

- $g(0)=0$

ها:

- $\lim\limits_{x\to-\infty}[g(x)] = \lim\limits_{x\to-\infty}\left[\frac{1}{4}x+\frac{1}{2}-f(x)\right]$
$= \lim\limits_{x\to-\infty}\left[\frac{1}{4}x+\frac{1}{2}\right] - \lim\limits_{x\to-\infty}[f(x)]$
$= -\infty$
- $\lim\limits_{x\to+\infty}[g(x)] = \lim\limits_{x\to+\infty}\left[\frac{1}{4}x+\frac{1}{2}-f(x)\right]$
$= \lim\limits_{x\to+\infty}\left[\frac{1}{4}x+\frac{1}{2}\right] - \lim\limits_{x\to+\infty}[f(x)]$
$= +\infty$

لدينا: $g'(x) \geq 0$

ولدينا:

$$(e^x-1)^2 = 0 \Rightarrow e^x - 1 = 0$$
$$\Rightarrow e^x = 1$$
$$\Rightarrow x = 0$$

ومنه:

- جدول تغيرات الدالة g:

x	$-\infty$		0		$+\infty$
$g'(x)$	$+$		0	$+$	
$g(x)$	$-\infty$	↗	0	↗	$+\infty$

ج/ استنتاج الوضع النسبي لـ (C_f) والمماس (T) :

لدينا:

$$g(x) = \frac{1}{4}x+\frac{1}{2}-f(x)$$
$$\Rightarrow f(x) - \left(\frac{1}{4}x+\frac{1}{2}\right) = -g(x)$$

ومنه الوضعية من إشارة $-g(x)$:

لدينا من جدول تغيرات الدالة g :

x	$-\infty$	0	$+\infty$
$g(x)$	$-$	0	$+$

- الوضعية:

- (C_f) تحت (T) لما $x \in]-\infty;0[$.
- (C_f) يقطع (T) في النقطة A .
- (C_f) فوق (T) لما $x \in]0;+\infty[$.

❻ التمثيل البياني:

خطوات التمثيل على معلم متعامد ومتجانس:

- نرسم المستقيمات المقاربة $y=0$ و $y=1$
- نعين A نقطة تقاطع (C_f) مع (T)
- نرسم المماس (T)

- ثم باستعمال جدول التغيرات نرسم (C_f)

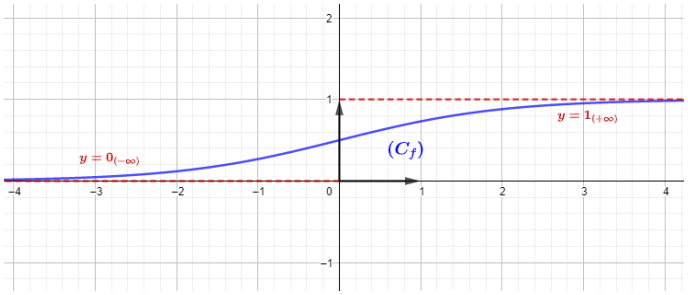

حل المسـألة رقم: 13

مشاهـــدة المسألة

(I

❶ دراسة تغيرات تغيرات الدالة g على $\mathbb{R}$:

- النهايات:
  - $\lim\limits_{x\to-\infty} g(x) = -\infty$
  - $\lim\limits_{x\to+\infty} g(x) = +\infty$
- دراسة $g'(x)$:

$$g'(x) = 2 + 2e^{x} = 2(1 + e^{x})$$

لدينا: $g'(x) > 0$ ومنه الدالة g متزايدة تماما على $\mathbb{R}$

❷ تبيين أنّ المعادلة $g(x) = 0$ تقبلا حلا وحيدا α:

لدينا: الدالة g مستمرة ورتيبة على المجال $[-0.8; -0.7]$

ولدينا: $g(-0.7) \times g(-0.8) < 0$

لأنّ $g(-0.7) \approx 0.09$ و $g(-0.8) \approx -0.2$

ومنه حسب مبرهنة القيم المتوسطة المعادلة $g(x) = 0$

تقبل حلا وحيدا في المجال $]-0.8; -0.7[$

❸ استنتاج حسب قيم x إشارة $g(x)$ على $\mathbb{R}$:

x	$-\infty$	α	$+\infty$
$g(x)$	$-$	0	$+$

(II

❶

أ/ حساب نهايات الدالة f عند أطراف مجموعة تعريفها:

- $\lim\limits_{x\to-\infty} f(x)$

$$= \lim_{x\to-\infty} \left(\underbrace{e^{-2x}}_{+\infty} \left(\underbrace{e^{2x}}_{0} - \underbrace{\frac{2x}{2} e^{2x}}_{0} + \underbrace{x+1}_{-\infty} \right) \right)$$

$$= -\infty$$

- $\lim\limits_{x\to+\infty} f(x)$

$$= \lim_{x\to+\infty} \left(1 - \underbrace{x}_{+\infty} - \frac{1}{2} \underbrace{(-2x)e^{-2x}}_{0} + \underbrace{e^{-2x}}_{0} \right)$$

$$= -\infty$$

ب/ استنتاج أنّ (C_f) يقبل مستقيم مقارب مائل (Δ) :

لدينا:

$$\lim_{x\to+\infty} [f(x) - (-x+1)] = \lim_{x\to+\infty} [(x+1)e^{-2x}]$$

$$= \lim_{x\to+\infty} \left[-\frac{1}{2} \underbrace{(-2x)e^{-2x}}_{0} + \underbrace{e^{-2x}}_{0} \right]$$

إذن (C_f) يقبل مستقيم مقارب مائل (Δ) بجوار $+\infty$ معادلته $y = -x + 1$

ج/ دراسة وضعية (C_f) بالنسبة إلى (Δ):

ندرس إشارة الفرق:

$$f(x) - y_{(\Delta)} = 0 \Rightarrow (x+1)e^{-2x} = 0$$
$$\Rightarrow x + 1 = 0$$
$$\Rightarrow x = -1$$

ومنه:

x	$-\infty$	-1	$+\infty$
$f(x) - y_{(\Delta)}$	$-$	0	$+$

- (C_f) تحت (Δ) لما $x \in\ ]-\infty; -1[$.
- (C_f) يقطع (Δ) لما $x = -1$.
- (C_f) فوق (Δ) لما $x \in\ ]-1; +\infty[$.

❷

أ/ تبيين أنه: $f'(x) = -g(x)e^{-2x}$

$$f'(x) = -1 + e^{-2x} - 2e^{-2x}(x+1)$$
$$= -1 - e^{-2x} - 2xe^{-2x}$$
$$= -(1 + e^{-2x} + 2xe^{-2x})$$
$$= -(e^{2x} + 1 + 2x)e^{-2x}$$
$$= -g(x)e^{-2x}$$

ب/ تشكيل جدول تغيرات الدالة f:

لدينا $e^{-2x} > 0$، إذن إشارة $f'(x)$ عكس إشارة $g(x)$

x	$-\infty$	α	$+\infty$
$f'(x)$	$+$	0	$-$
$f(x)$	$-\infty$ ↗	$f(\alpha)$	↘ $-\infty$

ج/ تبيين أنّ المعادلة $f(x) = 0$ تقبل حلين x_1 و x_2:

- لدينا: الدالة f مستمرة ومتزايدة تماما على المجال $[-1.2; -1.1]$

ولدينا: $f(-1.1) \times f(-1.2) < 0$

لأنّ: $f(-1.1) \approx 0.05$ و $f(-1.2) \approx -0.8$

ومنه حسب مبرهنة القيم المتوسطة المعادلة $f(x) = 0$

تقبل حلا وحيدا x_1 في المجال $]-1.2; -1.1[$

- لدينا: الدالة f مستمرة متناقصة تماما على المجال $[1.1; 1.2]$

f

ومنه حسب مبرهنة القيم المتوسطة المعادلة $f(x)=0$ تقبل حلا وحيدا x_2 في المجال $]1.1;1.2[$

❸ تبيين أنّ $f(\alpha)=-\frac{2\alpha^2}{2\alpha+1}$:

لدينا: $g(\alpha)=0$ أي: $e^{2\alpha}+1+2\alpha=0$

ومنه: $e^{2\alpha}=-1-2\alpha$

ولدينا:

$$\begin{aligned}f(\alpha)&=1-\alpha+(\alpha+1)e^{-2\alpha}\\&=1-\alpha+\frac{a+1}{e^{2a}}\\&=1-\alpha+\frac{a+1}{-1-2\alpha}\\&=\frac{-1-2\alpha+\alpha+2\alpha^2+\alpha+1}{-(1+2\alpha)}\\&=-\frac{2\alpha^2}{1+2\alpha}\end{aligned}$$

❹ التمثيل البياني:

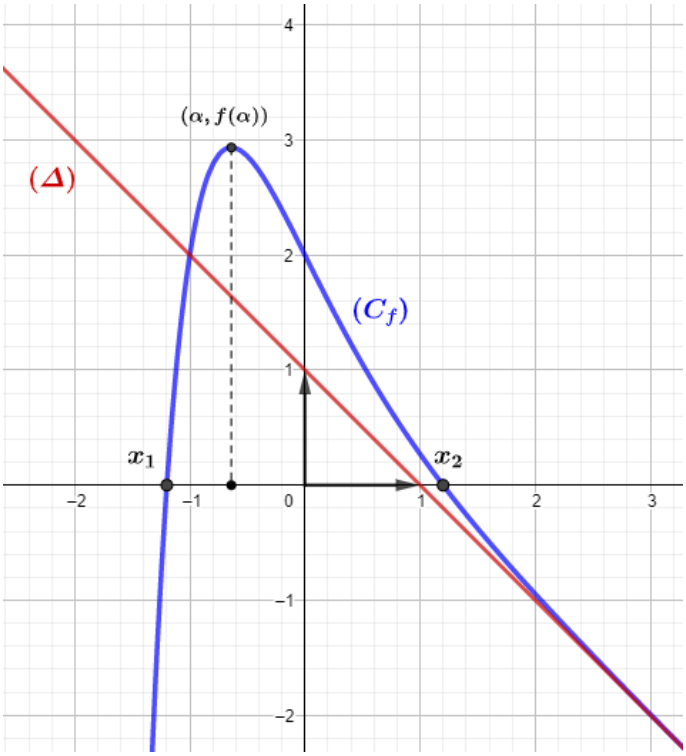

❺ المناقشة البيانية:

$$\begin{aligned}&(1-m-x)e^{2x}+x+1=0\\&\Rightarrow(1-m-x)e^{2x}=-(x+1)\\&=1-m-x=-(x+1)e^{-2x}\\&\Rightarrow -m\Rightarrow -1+x-(x+1)e^{-2x}\\&\Rightarrow m=1-x+(x+1)e^{-2x}\\&\Rightarrow m=f(x)\end{aligned}$$

ومنه حلول المعادلة هي فواصل تقاطع (C_f) مع المستقيمات ذات المعادلة $y_m=m$

وهي:

لما $m<2$ المعادلة تقبل حلين مختلفين في الإشارة

لما $m=2$ المعادلة تقبل حل معدوم وحل سالب

لما $2<m<f(\alpha)$ المعادلة تقبل حلين سالبين تماما

لما $m=f(\alpha)$ المعادلة تقبل حل مضاعف سالب تماما

لما $m>f(\alpha)$ المعادلة لا تقبل حلول

14 حل المسـألة رقم:

مشاهـــدة المسألة

I)

❶ حساب نهايات الدالة g عند $+\infty$ و $-\infty$:

- $\lim\limits_{x\to-\infty} g(x) = \lim\limits_{x\to-\infty}\left(\underbrace{3e^x}_{0} - \underbrace{2xe^x}_{0} + 2\right) = 2$
- $\lim\limits_{x\to+\infty} g(x) = -\infty$

❷ دراسة اتجاه تغير الدالة g:

$$g'(x) = -2e^x + (3-2x)e^x$$
$$= (1-2x)e^x$$

لدينا: $e^x > 0$

ومنه إشارة $g'(x)$ من إشارة $(1-2x)$:

$$1-2x = 0 \Rightarrow x = \frac{1}{2}$$

ومنه:

x	$-\infty$		$\frac{1}{2}$		$+\infty$
$g'(x)$		$+$	0	$-$	
$g(x)$	2	↗	$g\left(\frac{1}{2}\right)$	↘	$-\infty$

❸ تبيين أنّ المعادلة $g(x) = 0$ تقبل حلا وحيدا α في المجال $[1.6;\ 1.7]$:

لدينا: الدالة g مستمرة ورتيبة على المجال $[1.6;\ 1.7]$

ولدينا: $g(1.6) \times g(1.7) < 0$

لأنّ $g(1.7) \approx -0.19$ و $g(1.6) \approx 1.01$

ومنه حسب مبرهنة القيم المتوسطة المعادلة $g(x) = 0$ تقبل حلا وحيدا في المجال $]1.6;\ 1.7[$

❹ استنتاج حسب قيم x إشارة $g(x)$ على $\mathbb{R}$:

x	$-\infty$	α	$+\infty$
$g(x)$	$+$	0	$-$

II) نعتبر الدالة f المعرفة على $\mathbb{R}$ بـ

$$f(x) = \frac{e^x + 4x - 1}{e^x + 1}$$

و (C_f) تمثيلها البياني في مستوٍ منسوب إلى المعلم المتعامد المتجانس $(o;\vec{i},\vec{j})$.

❶

أ/ حساب $\lim f(x)$:

$$\lim_{x\to-\infty} f(x) = -\infty$$

ب/ تبيين أنّ $\lim\limits_{x\to+\infty} f(x) = 1$:

$$\lim_{x\to+\infty} f(x) = \lim_{x\to+\infty}\left(\frac{1+4e^{-x}-e^{-x}}{1+e^{-x}}\right) = \frac{1}{1} = 1$$

التفسير الهندسي:

(C_f) يقبل مستقيم مقارب أفقي بجوار $+\infty$ معادلته $y = 1$

❷ اثبات أنه: $f'(x) = \frac{2g(x)}{(e^x+1)^2}$:

$$f'(x) = \frac{(e^x+4)(e^x+1) - e^x(e^x+4x-1)}{(e^x+1)^2}$$
$$= \frac{e^{2x}+5e^x+4-e^{2x}-4xe^x+e^x}{(e^x+1)^2}$$
$$= \frac{6e^x+4-4xe^x}{(e^x+1)^2}$$
$$= \frac{2\left((3-2x)e^x+2\right)}{(e^x+1)^2}$$
$$= \frac{2g(x)}{(e^x+1)^2}$$

❸ دراسة اتجاه تغير الدالة f ثم تشكيل جدول تغيراتها:

لدينا $(e^x+1)^2 > 0$

ومنه إشارة $f'(x)$ من إشارة $g(x)$

x	$-\infty$	α	$+\infty$
$f'(x)$	$+$	0	$-$
$f(x)$	$-\infty$	↗ $f(\alpha)$	↘ 1

❹

أ/ تبيين أنّ (Δ) مقارب مائل لـ (C_f) بجوار $-\infty$:

لدينا:

$$\lim_{x\to-\infty}[f(x)-(4x-1)]$$
$$= \lim_{x\to-\infty}\left[\frac{e^x+4x-1-(4x-1)(e^x+1)}{e^x+1}\right]$$
$$= \lim_{x\to-\infty}\left[\frac{e^x+4x-1-4xe^x-4x+e^x+1}{e^x+1}\right]$$
$$= \lim_{x\to-\infty}\left[\frac{2e^x-4xe^x}{e^x+1}\right]$$
$$= 0$$

لأنّ $\lim\limits_{x\to-\infty}[-4xe^x]=0$

إذن المستقيم (Δ) مقارب مائل لـ (C_f) بجوار $-\infty$

ب/ دراسة الوضع النسبي بين (C_f) و (Δ):

$$f(x)-y_{(\Delta)}=0 \Rightarrow \frac{2e^x-4xe^x}{e^x+1}=0$$
$$\Rightarrow 2e^x(1-2x)=0$$
$$\Rightarrow 1-2x=0$$
$$\Rightarrow x=\frac{1}{2}$$

x	$-\infty$	$\frac{1}{2}$	$+\infty$
$f(x)-y_{(\Delta)}$	$+$	0	$-$

- (C_f) فوق (Δ) لما $x\in\left]-\infty;\frac{1}{2}\right[$
- (C_f) يقطع (Δ) لما $x=\frac{1}{2}$
- (C_f) تحت (Δ) لما $x\in\left]\frac{1}{2};+\infty\right[$

❺ كتابة معادلة (T) لـ (C_f) عند النقطة ذات الفاصلة 0:

$$y_{(T)}=f'(0)x+f(0)$$
$$=\frac{5}{2}x$$

❻ تبيين أنّ $f(\alpha)=4\alpha-5$

لدينا: $g(\alpha)=0$

ومنه: $(3-2\alpha)e^\alpha+2=0$

إذن: $e^\alpha=\frac{2}{2\alpha-3}$

ولدينا:

$$f(\alpha)=\frac{e^\alpha+4\alpha-1}{e^\alpha+1}$$
$$=\frac{\frac{2}{2\alpha-3}+4\alpha-1}{\frac{2}{2\alpha-3}+1}$$
$$=\frac{\frac{2+8\alpha^2-12\alpha-2\alpha+3}{2\alpha-3}}{\frac{2+2\alpha-3}{2\alpha-3}}$$
$$=\frac{8\alpha^2-14\alpha+5}{2\alpha-1}$$
$$=\frac{8\left(\alpha-\frac{1}{2}\right)\left(\alpha-\frac{5}{4}\right)}{2\alpha-1}$$
$$=\frac{(2\alpha-1)(4\alpha-5)}{2\alpha-1}$$
$$=4\alpha-5$$

- حصر العدد $f(\alpha)$:

لدينا: $1.6<\alpha<1.7$

ومنه: $6.4<4\alpha<6.8$

ومنه: $1.4<4\alpha-5<1.8$

إذن: $1.4<f(\alpha)<1.8$

❼ رسم كل من (T)، (Δ) و (C_f):

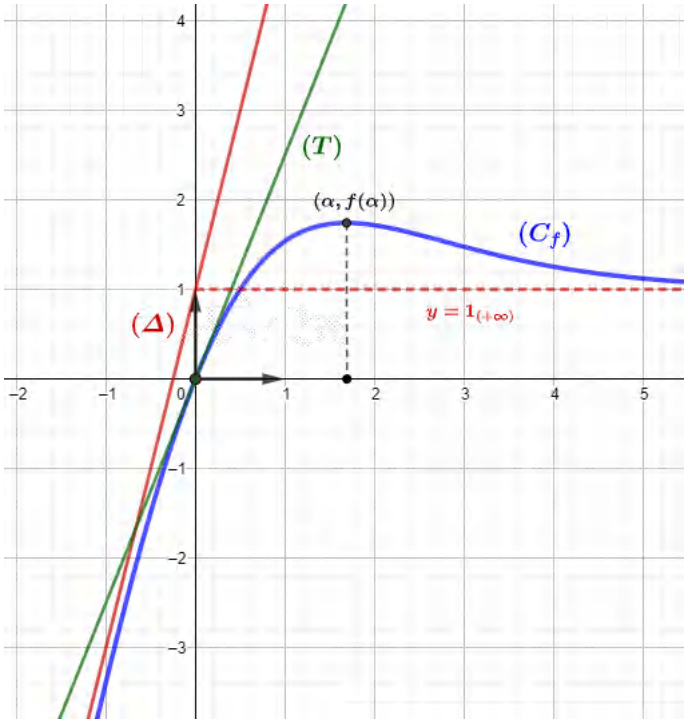

I) - حساب $g(1)$:

$$g(1) = 1^2e^1 - e = 0$$

- تعيين إشارة $g(x)$:

من البيان نجد:

x	$-\infty$	1	$+\infty$
$g(x)$	$-$	0	$+$

- استنتاج إشارة $g(-x)$:

x	$-\infty$	-1	$+\infty$
$g(-x)$	$+$	0	$-$

II)

❶ حساب النهايات:

- $\lim\limits_{x\to-\infty} f(x) = +\infty$
- $\lim\limits_{\substack{x\to 0\\ <}} f(x) = +\infty$
- $\lim\limits_{\substack{x\to 0\\ >}} f(x) = -\infty$
- $\lim\limits_{x\to+\infty} f(x) = -2$

بعد حساب النهايات نجد أن المنحني (C_f) يقبل:

- مستقيم مقارب عمودي بجوار $\pm\infty$ معادلته $x = 0$
- مستقيم مقارب أفقي بجوار $+\infty$ معادلته $y = -2$

❷ تبيين أن (γ) و (C_f) متقاربان بجوار $-\infty$:

$$\lim_{x\to-\infty}\left(f(x) - y_{(\gamma)}\right)$$
$$= \lim_{x\to-\infty}\left(e^{-x} - 2 - \frac{e}{x} - e^{-x} + 2\right)$$
$$= \lim_{x\to-\infty}\left(-\frac{e}{x}\right) = 0$$

- دراسة وضعية المنحنى (C_f) بالنسبة إلى (γ):

$$f(x) - y_{(\gamma)} = -\frac{e}{x}$$

إشارة الفرق عكس إشارة $(-x)$ ومنه:

x	$-\infty$	0	$+\infty$
$f(x) - y_{(\gamma)}$	$+$	‖	$-$

الوضعية:

- (C_f) فوق (γ) لما $x \in]-\infty; 0[$
- (C_f) تحت (γ) لما $x \in]0; +\infty[$

❸ تبين أنّ: $f'(x) = \frac{-g(-x)}{x^2}$:

$$f'(x) = -e^{-x} + \frac{e}{x^2}$$
$$= \frac{-x^2e^{-x} + e}{x^2}$$
$$= -\frac{(x^2e^{-x} - e)}{x^2}$$
$$= -\frac{g(-x)}{x^2}$$

❹ استنتاج تغيرات الدالة f

لدينا إشارة $f'(x)$ من إشارة $-g(-x)$ لأنّ $x^2 > 0$

ولدينا إشارة $\left(g(-x)\right)$ كالآتي:

x	$-\infty$	-1	$+\infty$
$g(-x)$	$+$	0	$-$

ومنه إشارة $\left(-g(-x)\right)$ كالآتي:

x	$-\infty$	-1	$+\infty$
$-g(-x)$	$-$	0	$+$

إذن

- جدول تغيرات الدالة f:

x	$-\infty$	-1	0	$+\infty$
$f'(x)$	$-$	0	$+$ ‖	$+$
$f(x)$	$+\infty$ ↘	$f(-1)$	↗ $+\infty$ ‖ $-\infty$	↗ -2

❺ تبيين كيف يمكن إنشاء (γ) :

نرسم منحنى الدالة $x \mapsto e^x$ ثم نناظره بالنسبة لمحور التراتيب، ثم نسحبه بالانسحاب الذي شعاعه $(2; -2)$

- التمثيل البياني:

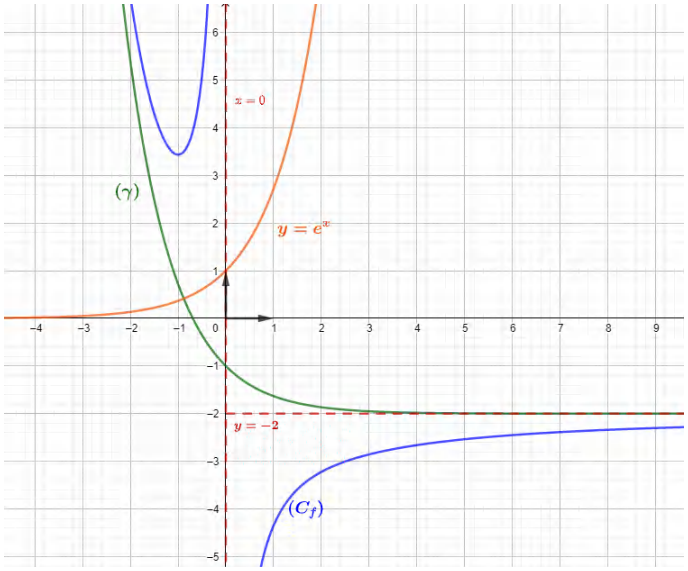

16 حل المسـألة رقم:

مشاهـــدة المسألة

(I

❶ دراسة تغيرات الدالة g،وتشكيل جدول تغيراتها:

- النهايات:

• $\lim\limits_{x\to-\infty} g(x) = -\infty$ • $\lim\limits_{x\to+\infty} g(x) = +\infty$

- دراسة $g'(x)$:

$$f'(x) = e^x + 1 > 0$$

لدينا: $f'(x) > 0$ إذن الدالة g متزايدة تماما على $\mathbb{R}$

- جدول التغيرات:

x	$-\infty$	$+\infty$
$g'(x)$	$+$	
$g(x)$	$-\infty$ ↗	$+\infty$

❷ تبيين أنّ المعادلة $g(x) = 0$ تقبل حلا وحيدا α

• لدينا الدالة g مستمرة ورتيبة على المجال $]-1.28; -1.27[$

• ولدينا: $g(-1.28) \times g(-1.27) < 0$ لأنّ

$g(-1.28) \approx -0.001$ و $g(-1.27) = 0.01$

ومنه حسب مبرهنة القيم المتوسطة المعادلة $g(x) = 0$

تقبل حل وحيدا α في المجال $]-1.28; -1.27[$

❸ استنتاج حسب قيم العدد الحقيقي x إشارة $g(x)$:

x	$-\infty$	α	$+\infty$
$g(x)$	$-$	0	$+$

(II

❶ حساب نهايات الدالة f عند $+\infty$ و $-\infty$:

• $\lim\limits_{x\to-\infty} f(x) = \lim\limits_{x\to-\infty} \left[\underbrace{(x+2)}_{-\infty}\underbrace{(1-e^{-x})}_{-\infty}\right] = +\infty$

• $\lim\limits_{x\to+\infty} f(x) = \lim\limits_{x\to+\infty} \left[\underbrace{(x+2)}_{+\infty}\underbrace{(1-e^{-x})}_{1}\right] = +\infty$

❷

أ/ تبيين أنه: $f'(x) = g(x)e^{-x}$:

$$\begin{aligned} f'(x) &= 1 - e^{-x} - (-e^{-x})(x+2) \\ &= 1 - e^{-x} + xe^{-x} + 2e^{-x} \\ &= 1 + e^{-x} + xe^{-x} \\ &= \left(\frac{1}{e^{-x}} + 1 + x\right)e^{-x} \\ &= (e^x + 1 + x)e^{-x} \\ &= (\quad)\ ^{-x} \end{aligned}$$

ب/ استنتا

لدينا: $e^{-x} > 0$ ومنه إشارة $f'(x)$ من إشارة $g(x)$

- جدول تغيرات الدالة f:

x	$-\infty$	α	$+\infty$
$f'(x)$	$-$	0	$+$
$f(x)$	$+\infty$ ↘	$f(\alpha)$	↗ $+\infty$

❸ تعيين دون حساب $\lim\limits_{x\to\alpha}\left(\frac{f(x)-f(\alpha)}{x-\alpha}\right)$:

$$\lim_{x\to\alpha}\left(\frac{f(x)-f(\alpha)}{x-\alpha}\right) = f'(\alpha) = g(\alpha)e^{-\alpha} = 0$$

التفسير الهندسي: (C_f) يقبل مماس أفقي عند النقطة ذات الفاصلة α معادلته $y = f(\alpha)$

❹

أ/ تبيين أن المستقيم (Δ) ذو المعادلة $y = x + 2$ مقارب مائل لـ (C_f) بجوار $+\infty$:

$$\begin{aligned} &\lim_{x\to+\infty}[f(x) - (x+2)] \\ &= \lim_{x\to+\infty}[(x+2)(1-e^{-x}) - (x+2)] \\ &= \lim_{x\to+\infty}[(x+2)(1-e^{-x}-1)] \\ &= \lim_{x\to+\infty}[-e^{-x}(x+2)] \\ &= \lim_{x\to+\infty}\left[\underbrace{-xe^{-x}}_{0} - 2e^{-x}\right] \end{aligned}$$

ب/ دراسة الوضع النسبي بين (C_f) و (Δ):

$$\begin{aligned} f(x) - y_{(\Delta)} = 0 &\Rightarrow -e^{-x}(x+2) = 0 \\ &\Rightarrow -(x+2) = 0 \\ &\Rightarrow x = -2 \end{aligned}$$

x	$-\infty$	-2	$+\infty$
$f(x) - y_{(\Delta)}$	$+$	0	$-$

- $x \in\ ]-\infty; -2[$ لما (Δ) فوق (C_f)
- $x = -2$ لما (Δ) يقطع (C_f)
- $x \in\ ]-2; +\infty[$ لما (Δ) تحت (C_f)

❺

أ/ اثبات أنه يوجد مماس (T) وحيد لـ (C_f) يوازي (Δ):

يوجد مماس وحيد يوزي (Δ) معناه يوجد عدد حقيقي وحيد a يحقق: $f'(a) = 1$

$f'($ $\quad -a \quad a$

$\Rightarrow a = -1$

ب/ التحقق أن معادلة (T) هي: $y_{(T)} = x + 2 - e$:

$$\begin{aligned} y_{(T)} &= f'(-1)\big(x-(-1)\big) + f(-1) \\ &= 1(x+1) + (1)(1-e) \\ &= x + 1 + 1 - e \\ &= x + 2 - e \end{aligned}$$

6

أ/ تبيين أنّ $f(\alpha) = \frac{(\alpha+2)^2}{\alpha+1}$:

لدينا: $g(\alpha) = 0$

ومنه: $e^{\alpha} + \alpha + 1 = 0$

إذن: $e^{\alpha} = -(\alpha+1)$

ولدينا:

$$\begin{aligned} f(\alpha) &= (\alpha+2)(1-e^{-\alpha}) \\ &= \frac{(\alpha+2)(1-e^{-\alpha})e^{\alpha}}{e^{\alpha}} \\ &= \frac{(\alpha+2)(e^{\alpha}-1)}{e^{\alpha}} \\ &= \frac{(\alpha+2)(-\alpha-1-1)}{-(\alpha+1)} \\ &= \frac{(\alpha+2)(\alpha+2)}{\alpha+1} \\ &= \boxed{\frac{(\alpha+2)^2}{\alpha+1}} \end{aligned}$$

- حصر $f(\alpha)$:

لدينا: $-1.28 < \alpha < -1.27$

إذن: $-1.97 < f(\alpha) < -1.85$

أ/ ايجاد نقط تقاطع (C_f) مع محوري الاحداثيات:

- مع حامل محور الفواصل:

$$\begin{aligned} f(x) = 0 &\Rightarrow (x+2)(1-e^{-x}) = 0 \\ &\Rightarrow \begin{cases} x+2=0 \\ \text{أو} \\ 1-e^{-x}=0 \end{cases} \\ &\Rightarrow \begin{cases} x=-2 \\ \text{أو} \\ e^{-x}=1 \end{cases} \\ &\Rightarrow \begin{cases} x=-2 \\ \text{أو} \\ x=0 \end{cases} \end{aligned}$$

إذن: $(C_f) \cap (xx') = \{-2; 0\}$

- مع حامل محور التراتيب:

$f(0) = 0$

إذن: $(C_f) \cap (yy') = \{0\}$

ب/ التمثيل البياني:

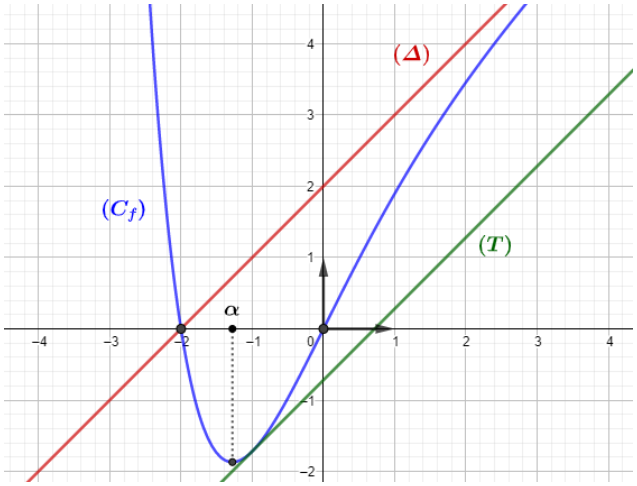

7 المناقشة البيانية:

لدينا:

$$\begin{aligned} \frac{m-2}{x+2} = -e^{-x} &\Rightarrow m-2 = -e^{-x}(x+2) \\ &\Rightarrow m = -e^{-x}(x+2) + 2 \\ &\Rightarrow m + x = -e^{-x}(x+2) + 2 + x \\ &\Rightarrow m + x = (x+2)(1-e^{-x}) \\ &\Rightarrow m + x = f(x) \end{aligned}$$

ومنه حلول المعادلة هي فواصل تقاطع (C_f) مع المستقيمات ذات المعادلة $y_m = x + m$

وهي:

لما	$m < 2 - e$	المعادلة لا تقبل حلول
لما	$m = 2 - e$	المعادلة تقبل حل وحيد
لما	$2 - e < m < 2$	المعادلة تقبل حلين متمايزين
لما	$m \geq 2$	المعادلة تقبل حل وحيد

(III

1 تبيين أنّ الدالة h زوجية:

$$h(-x) = f(|-x|) = f(|x|) = h(x)$$

إذن الدالة h زوجية

1 شرح كيف يمكن إنشاء (C_h) :

لدينا:

$$h(x) = f(|x|) = \begin{cases} f(x) & ; \ x > 0 \\ f(-x) & ; \ x < 0 \end{cases}$$

لما $x > 0$ (C_h) ينطبق على (C_f)، وبما أنّ الدالة h زوجية، فهي متناظرة بالنسبة لمحور التراتيب.

I)

❶

أ/ حساب $g'(x)$:

$$g'(x) = 2e^x - 2x - 1$$

- دراسة اتجاه تغير الدالة g' :

• النهايات:

• $\lim\limits_{x\to+\infty} g'(x) = \lim\limits_{x\to+\infty} (2e^x - 2x - 1)$

$$= \lim_{x\to+\infty} \left(2e^x\left(1 - \frac{x}{e^x} - \frac{1}{2e^x}\right)\right)$$

$$= +\infty$$

• $\lim\limits_{x\to-\infty} g'(x) = \lim\limits_{x\to-\infty} (2e^x - 2x - 1)$

$$= +\infty$$

• دراسة $g''(x)$:

$$g''(x) = 0 \Rightarrow 2e^x - 2 = 0$$
$$\Rightarrow e^x = 1$$
$$\Rightarrow x = 0$$

ومنه:

• جدول تغيرات الدالة g':

x	$-\infty$		0		$+\infty$
$g''(x)$		$-$	0	$+$	
$g'(x)$	$+\infty$	↘	1	↗	$+\infty$

ب/ تبيين أنه، من أجل كل $x \in \mathbb{R}$، $g'(x) > 0$:

من جدول التغيرات نلاحظ أن الدالة g' تبلغ قيمة حدية صغرى عند 0 و $g'(0) = 1$

ومنه فهي موجبة تماما أي $g'(x) > 0$

ج/ حساب نهايتي الدالة g عند كل من $-\infty$ و $+\infty$:

• $\lim\limits_{x\to+\infty} g(x) = \lim\limits_{x\to+\infty} (2e^x - x^2 - x)$

$$= \lim_{x\to+\infty} \left(e^x\left(2 - \frac{x^2}{e^x} - \frac{x}{e^x}\right)\right)$$

$$= +\infty$$

لأنّ: $\lim\limits_{x\to+\infty} \left(\frac{x^n}{e^x}\right) = 0$

• $\lim\limits_{x\to-\infty} g(x) = \lim\limits_{x\to-\infty} (2e^x - x^2 - x)$

$$= -\infty$$

- جدول تغيرات الدالة g:

x	$-\infty$		$+\infty$
$g'(x)$		$+$	
$g(x)$	$-\infty$	↗	$+\infty$

❷ تبيين أن المعادلة $g(x) = 0$ تقبل حلا وحيدا α :

لدينا الدالة g مستمرة ومتزايدة تماما على $\mathbb{R}$

ولدينا $g(-1.38) \times g(-1.37) < 0$

لأنّ: $g(-1.38) \approx -0.02$

وَ $g(-1.37) \approx 0.01$

ومنه حسب مبرهنة القيم المتوسطة المعادلة $g(x)$ تقبل حلا وحيدا α حيث $-1.38 < \alpha < -1.37$

❸ استنتاج إشارة $g(x)$:

x	$-\infty$		α		$+\infty$
$g(x)$		$-$	0	$+$	

II)

❶

أ/ حساب $\lim\limits_{x\to+\infty} f(x)$ و $\lim\limits_{x\to-\infty} f(x)$:

• $\lim\limits_{x\to-\infty} f(x) = \lim\limits_{x\to-\infty} \left(\frac{x^2e^x}{e^x - x}\right) = 0$

لأن: $\lim\limits_{x\to-\infty} (x^ne^x) = 0$

• $\lim\limits_{x\to+\infty} f(x) = \lim\limits_{x\to+\infty} \left(\frac{x^2e^x}{e^x - x}\right)$

$$= \lim_{x\to+\infty} \left(\frac{x^2}{1 - xe^{-x}}\right) = +\infty$$

ب/ تبيين أنه من أجل كل $x \in \mathbb{R}$: $f'(x) = \frac{xe^x g(x)}{(e^x - x)^2}$:

$$f'(x) = \frac{(2xe^x + x^2e^x)(e^x - x) - (e^x - 1)x^2e^x}{(e^x - x)^2}$$

$$= \frac{2xe^{2x} - 2x^2e^x + x^2e^{2x} - x^3e^x - x^2e^{2x} + x^2e^x}{(e^x - x)^2}$$

$$= \frac{xe^x(2e^x - x^2 - x)}{(e^x - x)^2}$$

$$= \frac{xe^x g(x)}{(e^x - x)^2}$$

ج/ دراسة اتجاه تغير الدالة f على $\mathbb{R}$ ، وتشكيل جدول تغيراتها:

$$f'(x)=0 \Rightarrow \frac{xe^x g(x)}{(e^x-x)^2}=0$$

لدينا: $\frac{e^x}{(e^x-x)^2}>0$

ومنه الإشارة من $xg(x)$ ،وعليه:

x	$-\infty$		α		0		$+\infty$
x	$-$		$-$		0	$+$	
$g(x)$	$-$	0	$+$		$+$		
$f'(x)$	$+$	0	$-$	0	$+$		
$f(x)$	$-\infty$	↗	$f(\alpha)$	↘	0	↗	$+\infty$

❷

أ/ تبيين أنّ $f(\alpha)=\alpha^2+2\alpha+2+\frac{2}{\alpha-1}$:

لدينا:

$$g(x)=0 \Rightarrow g(\alpha)=0$$
$$\Rightarrow 2e^\alpha-\alpha^2-\alpha=0$$
$$\Rightarrow e^\alpha=\frac{\alpha^2+\alpha}{2}$$

ومنه:

$$f(\alpha)=\frac{\alpha^2 e^\alpha}{e^\alpha-\alpha}$$
$$=\frac{\alpha^2\left(\frac{\alpha^2+\alpha}{2}\right)}{\left(\frac{\alpha^2+\alpha}{2}-\alpha\right)}$$
$$=\frac{\alpha^4+\alpha^3}{\alpha^2+\alpha-2\alpha}$$
$$=\frac{\alpha^3+\alpha^2}{\alpha-1}$$
$$=\frac{\alpha^3-\alpha^2+2\alpha^2}{\alpha-1}$$
$$=\frac{\alpha^3-\alpha^2+2\alpha^2}{\alpha-1}$$
$$=\frac{\alpha^3-\alpha^2+2\alpha^2-2\alpha+2\alpha-2+2}{\alpha-1}$$
$$=\frac{\alpha^3-\alpha^2}{\alpha-1}+\frac{2\alpha^2-2\alpha}{\alpha-1}+\frac{2\alpha-2}{\alpha-1}+\frac{2}{\alpha-1}$$
$$=\frac{\alpha^2(\alpha-1)}{\alpha-1}+\frac{2\alpha(\alpha-1)}{\alpha-1}+\frac{2(\alpha-1)}{\alpha-1}+\frac{2}{\alpha-1}$$
$$=\alpha^2+2\alpha+2+\frac{2}{\alpha-1}$$

- حصر العدد $f(\alpha)$:

لدينا:

$$-1.38<\alpha<-1.37 \Rightarrow 1.37<-\alpha<1.38$$
$$\Rightarrow 1.37^2<\alpha^2<1.37^2$$

ولدينا:

$$-1.38<\alpha<-1.37 \Rightarrow -2.76<2\alpha<-2.74$$
$$\Rightarrow -0.76<2\alpha+2<-0.74$$

ولدينا:

$$-1.38<\alpha<-1.37 \Rightarrow -2.38<\alpha-1<-2.37$$
$$\Rightarrow \frac{1}{-2.37}<\frac{1}{\alpha-1}<\frac{1}{-2.38}$$
$$\Rightarrow \frac{2}{-2.37}<\frac{2}{\alpha-1}<\frac{2}{-2.38}$$

ومنه:

$$1.37^2-0.76+\frac{2}{-2.37}<\alpha^2+2\alpha+2+\frac{2}{\alpha-1}$$
$$<1.37^2-0.74+\frac{2}{-2.38}$$

أي: $0.273<f(\alpha)<0.324$

ب/ حساب $\lim\limits_{x\to+\infty}[f(x)-x^2]$:

$$\lim_{x\to+\infty}[f(x)-x^2]=\lim_{x\to+\infty}\left[\frac{x^2e^x}{e^x-x}-x^2\right]$$
$$=\lim_{x\to+\infty}\left[\frac{x^3}{e^x-x}\right]$$
$$=\lim_{x\to+\infty}\left[\frac{x^3e^{-x}}{1-xe^{-x}}\right]$$
$$=\frac{0}{1}=0$$

لأن: $\lim\limits_{x\to+\infty}[x^ne^x]=0$

- تفسير النتيجة بيانيا:

منحنى الدالة f يقارب منحنى الدالة مربع $x\longmapsto x^2$ بجوار $+\infty$

ج/ انشاء المنحنى (C_f) :

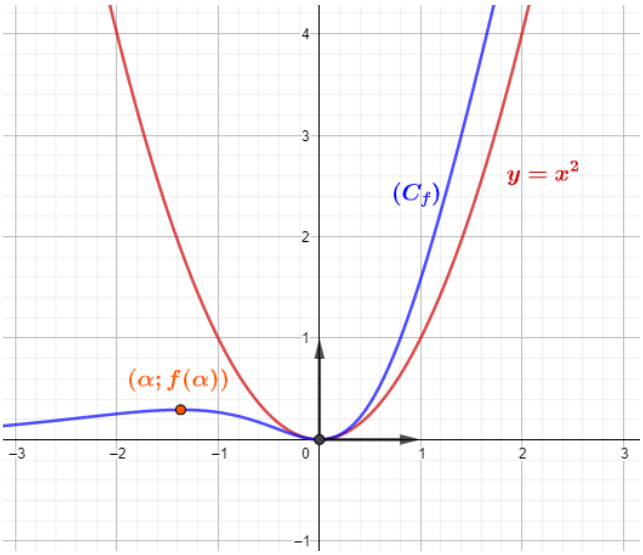

حل المسـألة رقم: 18

مشاهـــدة المسألة

I)

1

أ/ كتابة معادلة للمستقيم (d):

المستقيم (d) مستقيم تآلفي ميله (-1) لأنه موازي للمنصف الثاني، ويمر من الترتيبة 1

إذن: $y_{(d)} = -x + 1$

ب/ تعيين $g(-1)$ ، $g(0)$ و $g'(0)$

$$g(-1) = 0$$
$$g(0) = 1$$
$$g'(0) = -1$$

ج/ تبيين أنّ $g(x) = (1 - x^2)e^{-x}$:

لدينا: $g(0) = 1$

ومنه: $(a + b(0)^2)e^{-0} = 1$

إذن: $a = 1$

ولدينا: $g(-1) = 0$

ومنه: $(1 + b(-1)^2)e^{-(-1)} = 0$

ومنه: $1 + b = 0$

إذن: $b = -1$

وعليه: $g(x) = (1 - x^2)e^{-x}$

2 تعيين إشارة $g(x)$ حسب قيم x:

x	$-\infty$		-1		1		$+\infty$
$g(x)$		$-$	0	$+$	0	$-$	

3

أ/ حساب $\lim\limits_{x\to-\infty} f(x)$:

$$\lim_{x\to-\infty} f(x) = \lim_{x\to-\infty} \left[\underbrace{(1+x)^2}_{+\infty}\underbrace{e^{-x}}_{+\infty}\right] = +\infty$$

ب/ علما أنّ $\lim\limits_{x\to+\infty} x^n e^{-x} = 0$ ، تبيين أنّ $\lim\limits_{x\to+\infty} f(x) = 0$:

$$\lim_{x\to+\infty} f(x) = \lim_{x\to+\infty} [(1 + x + x^2)e^{-x}]$$
$$= \lim_{x\to+\infty} \left[\underbrace{e^{-x}}_{0} + \underbrace{xe^{-x}}_{0} + \underbrace{x^2e^{-x}}_{0}\right]$$
$$= 0$$

• التفسير الهندسي: (C_f) يقبل مستقيم حامل محور الفواصل كمقارب أفقي بجوار $+\infty$

4

$$f'(x) = 2(1 + x)e^{-x} - (1 + x)^2e^{-x}$$
$$= e^{-x}(1 + x)(2 - 1 - x)$$
$$= e^{-x}(1 + x)(1 - x)$$
$$= e^{-x}(1 - x^2)$$
$$= g(x)$$

ب/ استنتاج تغيرات الدالة f:

لدينا: $f'(x) = g(x)$ ومنه إشارة المشتقة من إشارة $g(x)$

x	$-\infty$		-1		1		$+\infty$
$f'(x)$		$-$	0	$+$	0	$-$	
$f(x)$	$+\infty$	↘	0	↗	$4e^{-1}$	↘	0

ج/ استنتاج أن الدالة f موجبة على $\mathbb{R}$:

من جدول التغيرات: أقصى قيمة حدية صغرى تبلغها الدالة f هي 0، ومنه فالدالة f موجبة على $\mathbb{R}$

5

أ/ تعيين دون حساب $\lim\limits_{x\to0}\left(\frac{f(x)-1}{x}\right)$:

$$\lim_{x\to0}\left(\frac{f(x)-1}{x}\right) = \lim_{x\to0}\left(\frac{f(x)-f(0)}{x-0}\right) = f'(0)$$
$$= g(0) = 1$$

• التفسير الهندسي: (C_f) يقبل مماس عند النقطة ذات الفاصلة 0 معامل توجيهه 1

ب/ كتابة معادلة المماس (T) عند النقطة ذات الفاصلة 0:

$$y_{(T)} = f'(0)(x - 0) + f(0)$$
$$= x + 1$$

6 التمثيل البياني:

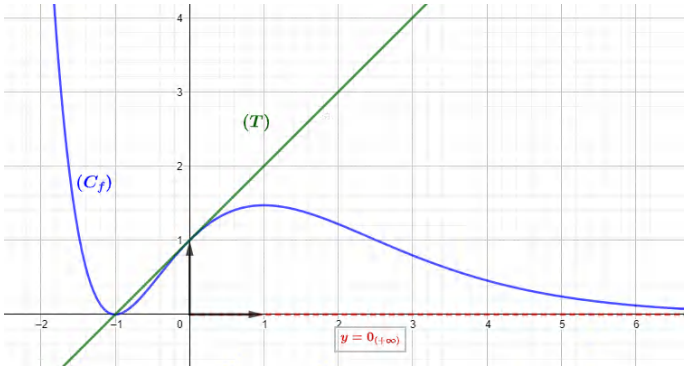

7 المناقشة البيانية:

$$(1 + x)^2 = me^x \Rightarrow (1 + x)^2e^{-x} = m$$

ومنه حلول المعادلة هي فواصل نقط تقاطع (C_f) مع المستقيمات ذات المعادلة $y_m = m$، وهي:

لما	$m < 0$	المعادلة لا تقبل حلول
لما	$m = 0$	المعادلة تقبل حل مضاعف سالب قيمته -1
لما	$0 < m < 1$	المعادلة تقبل حل موجب وحلين سالبين
لما	$m = 1$	المعادلة تقبل حل موجب وحل معدوم وحل سالب
لما	$1 < m < 4e^{-1}$	المعادلة تقبل حلين موجبين وحل سالب
لما	$m = 4e^{-1}$	المعادلة تقبل حل سالب وحل مضاعف موجب قيمته 1
لما	$m > 4e^{-1}$	المعادلة تقبل حل وحيد سالب

II)

❶ تبيين أنّ الدالة h زوجية

$$h(-x) = f(|-x|) = f(|x|) = h(x)$$

إذن الدالة h زوجية

❷ شرح كيف يمكن إنشاء (C_h) :

لدينا:

$$h(x) = f(|x|) = \begin{cases} f(x) \ ; \ x > 0 \\ f(-x) \ ; \ x < 0 \end{cases}$$

لما $x > 0$ (C_h) ينطبق على (C_f)، وبما أنّ الدالة h زوجية، فهي متناظرة بالنسبة لمحور التراتيب.

- إنشاء (C_h):

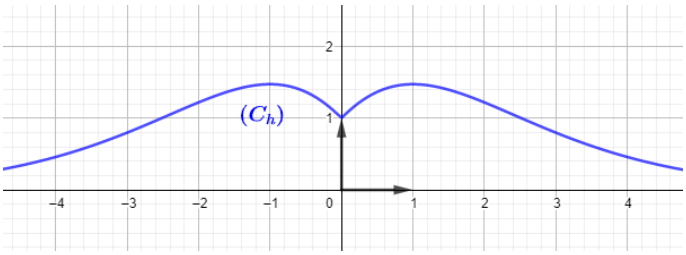

I)

1

أ/ حساب $\lim\limits_{x\to+\infty} g(x)$ و $\lim\limits_{x\to-\infty} g(x)$:

- $\lim\limits_{x\to+\infty} g(x) = \lim\limits_{x\to+\infty} (1+(x^2+x-1)e^{-x})$
$= \lim\limits_{x\to+\infty} (1+x^2e^{-x})$
$= 1$
- $\lim\limits_{x\to-\infty} g(x) = \lim\limits_{x\to-\infty} (1+(x^2+x-1)e^{-x})$
$= \lim\limits_{x\to-\infty} (1+x^2e^{-x})$
$= +\infty$

ب/ دراسة اتجاه تغير الدالة g، وتشكيل جدول تغيراتها:

$$g'(x) = (2x+1)e^{-x} - e^{-x}(x^2+x-1)$$
$$= 2xe^{-x} + e^{-x} - x^2e^{-x} - xe^{-x} + e^{-x}$$
$$= e^{-x}(-x^2+x+2)$$

لدينا:

$$g'(x) = 0 \Rightarrow e^{-x}(-x^2+x+2) = 0$$
$$\Rightarrow -x^2+x+2 = 0$$

لدينا $\Delta = 1-4(-1)(2) = 9$ ومنه:

$$g'(x) = 0 \Rightarrow \begin{cases} x = \dfrac{-1+3}{-2} = -1 \\ \text{أو} \\ x = \dfrac{-1-3}{-2} = 2 \end{cases}$$

ومنه:

x	$-\infty$		-1		2		$+\infty$
$g'(x)$		$-$	0	$+$	0	$-$	
$g(x)$	$+\infty$	↘	$g(-1)$	↗	$g(1)$	↘	1

2

أ/ تبيين أن المعادلة $g(x) = 0$ تقبل حلين في $\mathbb{R}$:

لدينا:

$$g(0) = 1+(0^2+0-1)e^{-0}$$
$$= 1-1$$
$$= 0$$

ومنه المعادلة $g(x) = 0$ تقبل حل معدوم لأنّ $g(0) = 0$

ولدينا : $g(-1.52) \times g(-1.51) < 0$

لأنّ: 0.04 و $g(-1.51) \approx -0.04$

ومنه حسب مبرهنة القيم المتوسطة المعادلة $g(x) = 0$

تقبل حل وحيد في المجال $]-1.52;-1.52[$.

إذن المعادلة $g(x) = 0$ تقبلين حلين أحدهما معدوم و الآخر α حيث : $-1.52 < \alpha < -1.51$

ب/ استنتاج إشارة $g(x)$ على $\mathbb{R}$:

x	$-\infty$		α		0		$+\infty$
$g(x)$		$+$	0	$-$	0	$+$	

II)

1

أ/ حساب $\lim\limits_{x\to+\infty} f(x)$ و $\lim\limits_{x\to-\infty} f(x)$:

- $\lim\limits_{x\to+\infty} f(x) = \lim\limits_{x\to+\infty} [-x+(x^2+3x+2)e^{-x}]$
$= \lim\limits_{x\to+\infty} [-x+(x^2)e^{-x}]$
$= -\infty$
- $\lim\limits_{x\to-\infty} f(x) = \lim\limits_{x\to-\infty} [-x+(x^2+3x+2)e^{-x}]$
$= \lim\limits_{x\to-\infty} [-x+(x^2)e^{-x}]$
$= +\infty$

ب/ تبيين أنه من أجل عدد حقيقي x، $f'(x) = -g(x)$:

$$f'(x) = -1+(2x+3)e^{-x} - e^{-x}(x^2+3x+2)$$
$$= -1+e^{-x}(-x^2-x+1)$$
$$= -[1+e^{-x}(x^2+x-1)]$$
$$= -g(x)$$

ج/ تشكيل جدول تغيرات الدالة f على $\mathbb{R}$:

إشارة $f'(x)$ من إشارة $-g(x)$

وعليه:

x	$-\infty$		α		0		$+\infty$
$f'(x)$		$-$	0	$+$	0	$-$	
$f(x)$	$+\infty$	↘	0.38	↗	$f(0)$	↘	$-\infty$

د/ تعيين دون حساب $\lim\limits_{h\to0} \frac{f(a+h)-f(\alpha)}{h}$:

$$\lim_{h\to0} \frac{f(a+h)-f(\alpha)}{h} = f'(0) = -g(0) = 0$$

- تفسير النتيجة هندسيا:

(C_f) يقبل مماس موازٍ لمحور الفواصل معادلته $y = f(\alpha)$.

أ/ تبيين أن (Δ) مستقيم مقارب مائل لـ(C_f) عند $+\infty$:

$$\lim_{x\to+\infty}[f(x)-y_{(\Delta)}]$$
$$=\lim_{x\to+\infty}[-x+(x^2+3x+2)e^{-x}-(-x)]$$
$$=\lim_{x\to+\infty}[(x^2+3x+2)e^{-x}]$$
$$=0$$

ومنه قيم (Δ) ذا المعادلة $y=-x$ مستقيم مقارب مائل للمنحنى (C_f) بجوار $+\infty$.

ب/ دراسة وضعية المنحنى (C_f) بالنسبة للمستقيم (Δ):

$$f(x)-y_{(\Delta)}=0\Rightarrow e^{-x}(x^2+3x+2)=0$$
$$\Rightarrow x^2+3x+2=0$$

لدينا: $\Delta=3^2-4(2)(1)=1$

ومنه:

$$f(x)-y_{(\Delta)}=0\Rightarrow\begin{cases}x=\dfrac{-3+1}{2}=-1\\ \text{أو}\\ x=\dfrac{-3-1}{2}=-2\end{cases}$$

وعليه:

x	$-\infty$	-2	-1	$+\infty$
$f(x)-y_{(\Delta)}$	$+$	0	$-$	0	$+$

- الوضعية:

- (C_f) فوق (Δ) لما $x\in]-\infty;-2[\cup]-1;+\infty[$
- (C_f) يقطع (Δ) لما $x\in\{-2;-1\}$ أي في النقطتين ذات الاحداثيات: $(-1;1)$ و $(-2;2)$.
- (C_f) تحت (Δ) لما $x\in]-2;-1[$

ج/ تبيين أن المنحنى (C_f) يقبل نقطتي انعطاف:

لدينا:

$$f''(x)=-g'(x)$$

ومنه جدول إشارة $f''(x)$:

x	$-\infty$	-1	2	$+\infty$
$f''(x)$	$+$	0	$-$	0	$+$

المشتقة الثانية انعدمت مرتين لما $x=\{-1;2\}$ وغيرت اشارتها

ومنه الدالة f تقبل نقطتي انعطاف هما: $(-1;1)$ و $(2;f(2))$ حيث: $f(2)\approx-0.38$

د/ رسم (Δ) و (C_f) على المجال $[-2;+\infty[$:

- نعين النقطة $(-1;1)$ و النقطة $(-2;2)$ نقطتي تقاطع (C_f) مع (Δ)
- نرسم المستقيم (Δ) المقارب المائل ذو المعادلة $y_{(\Delta)}=-x$
- نعين النقطة $(\alpha;f(\alpha))$ نقطة تماس المماس مع (C_f)
- نرسم المماس ذو المعادلة $y=f(\alpha)$
- باستعمال جدول تغيرات الدالة f نرسم المنحنى (C_f) مع الاستعانة بجدول الوضعية

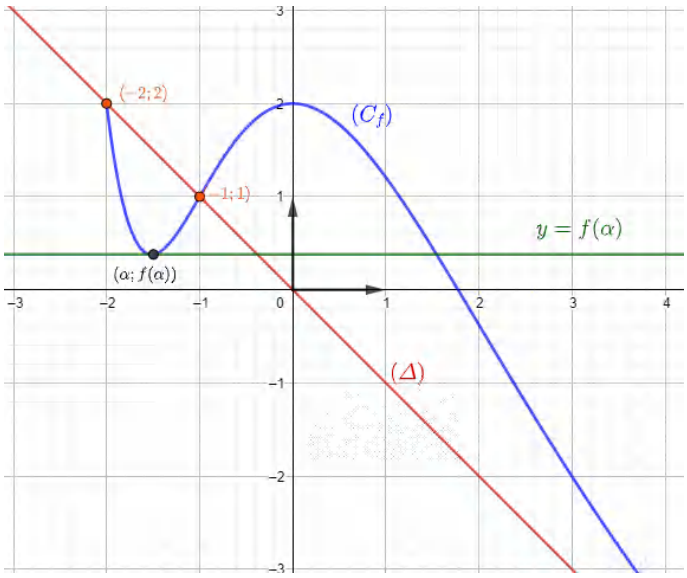

ه/ المناقشة البيانية:

$$(m-x)e^x+(x^2+3x+2)=0$$
$$\Rightarrow me^x-xe^x+(x^2+3x+2)=$$
$$\Rightarrow m-x+e^{-x}(x^2+3x+2)=0$$
$$\Rightarrow -x+e^{-x}(x^2+3x+2)=-m$$
$$\Rightarrow f(x)=-m$$

ومنه حلول المعادلة هي فواصل نقط تقاطع (C_f) مع المستقيمات ذات المعادلة $y_m=-m$ وهي:

لما $-m<f(\alpha)$ أي لما $m>-f(\alpha)$

المعادلة تقبل حل وحيد موجب

لما $-m=f(\alpha)$ أي لما $m=-f(\alpha)$

المعادلة تقبل حلين: حل مضاعف وحل موجب

لما $f(\alpha)<-m<2$ أي لما $-2<m<-f(\alpha)$

المعادلة تقبل حلين سالبين وحل موجب

لما $-m=2$ أي لما $m=-2$

المعادلة تقبل حل مضاعف والآخر سالب

لما $-m>2$ أي لما $m<-2$

المعادلة لا تقبل حلول

I)

1

أ/ حساب $\lim\limits_{x\to 0^>} f(x)$ و $\lim\limits_{x\to 0^<} f(x)$، وتفسير النتائج هندسيا :

- $\lim\limits_{x\to 0^>} f(x)$
- $\lim\limits_{x\to 0^>} f(x) = 1 - \frac{1}{0^+} = -\infty$

$$= 1 - \frac{1}{0^-} = +\infty$$

إذن (C_f) يقبل مستقيم مقارب عمودي بجوار $\pm\infty$ معادلته: $x = 0$

أ/ تبيين أنّ $\lim\limits_{x\to+\infty} f(x) = +\infty$:

$$\lim_{x\to+\infty} f(x) = \lim_{x\to+\infty}\left(x + 1 - \frac{e^x}{e^x - 1}\right)$$
$$= \lim_{x\to+\infty}\left(x + 1 - \frac{e^x}{e^x(1 - e^{-x})}\right)$$
$$= \lim_{x\to+\infty}\left(x + 1 - \frac{1}{1 - e^{-x}}\right)$$
$$= +\infty$$

ب/ حساب $\lim\limits_{x\to-\infty} f(x)$:

$$\lim_{x\to-\infty} f(x) = -\infty$$

لأنّ $\lim\limits_{x\to-\infty} e^x = 0$

- استنتاج أنّ المستقيم (Δ_1) ذو المعادلة $y = x + 1$ مقارب مائل لـ (C_f) بجوار $-\infty$:

لدينا:

$$\lim_{x\to-\infty}[f(x) - (x+1)]$$
$$= \lim_{x\to-\infty}\left[x + 1 - \frac{e^x}{e^x - 1} - x - 1\right]$$
$$= \lim_{x\to-\infty}\left[-\frac{e^x}{e^x - 1}\right] = 0$$

إذن: المستقيم (Δ_1) ذو المعادلة $y = x + 1$ مقارب مائل لـ (C_f) بجوار $-\infty$

2

أ/ تبيين أنه : $f(x) = x - \frac{1}{e^x - 1}$:

$$f(x) = x + 1 - \frac{e^x}{e^x - 1}$$
$$= x + \frac{e^x - 1 - e^x}{x}$$
$$= x - \frac{1}{e^x - 1}$$

ب/ استنتاج أن (C_f) يقبل مستقيم مقارب مائل (Δ_2) بجوار $+\infty$:

لدينا:

$$\lim_{x\to+\infty}[f(x) - x] = \lim_{x\to+\infty}\left(-\frac{1}{e^x - 1}\right) = 0$$

إذن: المستقيم (Δ_2) ذو المعادلة $y = x$ مقارب مائل لـ (C_f) بجوار $+\infty$

ج/ دراسة الوضع النسبي بين (C_f) و (Δ_1) و (Δ_2):

- الوضع النسبي بين (C_f) و (Δ_1):

$$f(x) - y_{(\Delta_1)} = \frac{-e^x}{e^x - 1} = \frac{e^x}{1 - e^x}$$

لدينا: $e^x > 0$،

إذن إشارة الفرق من إشارة المقام

لدينا $1 - e^x \neq 0$

معناه: $e^x \neq 1$

ومنه: $x \neq 0$

إذن

x	$-\infty$	0	$+\infty$
$1 - e^x$	$+$	$-$	
الوضعية	(Δ_1) فوق (C_f)	(Δ_1) تحت (C_f)	

- الوضع النسبي بين (C_f) و (Δ_2):

$$f(x) - y_{(\Delta_2)} = -\frac{1}{e^x - 1} = \frac{1}{1 - e^x}$$

لدينا $1 - e^x \neq 0$

معناه: $e^x \neq 1$

ومنه $x \neq 0$

إذن:

x	$-\infty$	0	$+\infty$
$1 - e^x$	$+$	$-$	
الوضعية	(Δ_2) فوق (C_f)	(Δ_2) تحت (C_f)	

3

أ/ دراسة تغيرات الدالة f ، وجدول تغيراتها:

لدينا:

$$f'(x) = \frac{1}{}$$

ومنه:

$$f'(x) = 1 - \frac{-e^x}{(e^x-1)^2} = 1 + \frac{e^x}{(e^x-1)^2}$$

لدينا: $f'(x) > 0$

ومنه:

x	$-\infty$	0	$+\infty$
$f'(x)$	$+$	$\|$	$+$
$f(x)$	$-\infty \nearrow +\infty$	$\|$	$-\infty \nearrow +\infty$

ب/ تبيين أنّ المعادلة $f(x) = 0$ تقبل حلين α و β حيث:

$0.8 < \alpha < 0.9$ وَ $-1.3 < \beta < -1.4$:

• لدينا الدالة f مستمرة ورتيبة على المجال $]0.8; 0.9[$

ولدينا $f(0.8) \times f(0.9) < 0$ لأنّ: $f(0.8) \approx -0.01$ و $f(0.9) \approx 0.21$

ومنه حسب مبرهنة القيم المتوسطة المعادلة $f(x) = 0$ تقبل حلا وحيدا α في المجال $]0.8; 0.9[$

• لدينا الدالة f مستمرة ورتيبة على المجال $]-1.3; -1.4[$

ولدينا $f(-1.4) \times f(-1.3) < 0$ لأنّ:

$f(-1.3) \approx 0.07$ و $f(-1.4) \approx -0.07$

ومنه حسب مبرهنة القيم المتوسطة المعادلة $f(x) = 0$ تقبل حلا وحيدا β في المجال $]-1.4; -1.3[$

❹ تبيين أنّ $f(-x) = 1 - f(x)$:

$$\begin{aligned} 1 - f(x) &= 1 - x + \frac{1}{e^x - 1} \\ &= -x + \frac{e^x - 1 + 1}{e^x - 1} \\ &= -x + \frac{e^{-x}e^x}{e^{-x}(e^x - 1)} \\ &= -x + \frac{1}{1 - e^{-x}} \\ &= -x - \frac{1}{e^{-x} - 1} \\ &= f(-x) \end{aligned}$$

- التفسير الهندسي:

لدينا: $f(-x) = 1 - f(x)$

ومنه: $f(x) + f(x) = 1$

ومنه: $f(2(0) - x) + f(x) = 2\left(\frac{1}{2}\right)$

ولدينا: $(-x) \in D_f$

ومنه (C_f) يقبل النقطة ذات الاحداثيات $\omega\left(0; \frac{1}{2}\right)$ كمركز تناظر له.

❺ التمثيل البياني لكل من (Δ_1) ، (Δ_2) و (C_f)

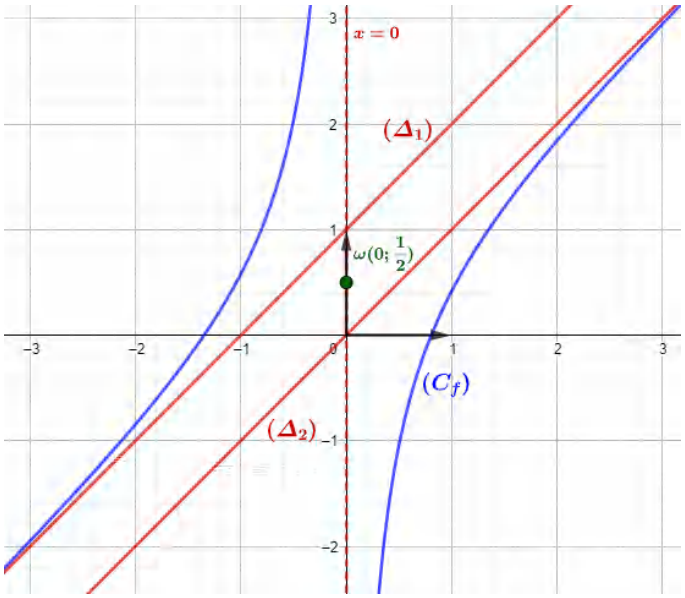

❻ المناقشة البيانية:

$$\begin{aligned} &(m-1)(e^x-1)e^{-x} + 1 = 0 \\ &\Rightarrow (m-1)(e^x-1)e^{-x} = -1 \\ &\Rightarrow (m-1)(e^x-1) = -e^x \\ &\Rightarrow m - 1 = -\frac{e^x}{e^x-1} \\ &\Rightarrow m = -\frac{e^x}{e^x-1} + 1 \\ &\Rightarrow m + x = -\frac{e^x}{e^x-1} + 1 + x \\ &\Rightarrow f(x) = x + m \end{aligned}$$

ومنه حلول المعادلة هي فواصل نقط تقاطع (C_f) مع حامل المستقيمات ذات المعادلة $y_m = x + m$، وهي:

لما $m < 0$ المعادلة تقبل حل موجب

لما $0 < m < 1$ المعادلة لا تقبل حلول

لما $m > 1$ المعادلة تقبل حل سالب

(II

❶ تبيين أنّ الدالة h زوجية:

$$h(-x) = f(|-x|) = f(|x|) = h(x)$$

إذن الدالة h زوجية

❷ شرح كيف يمكن إنشاء (C_h) :

لدينا:

$$h(x) = f(|x|) = \begin{cases} f(x) & ; \ x > 0 \\ f(-x) & ; \ x < 0 \end{cases}$$

لما $x > 0$ (C_h) ينطبق على (C_f)، وبما أنّ الدالة h زوجية، فهي متناظرة بالنسبة لمحور التراتيب.

21 حل المسـألة رقم:

مشاهـــدة المسألة

I)

❶ حساب $\lim\limits_{x\to+\infty} g(x)$ و $\lim\limits_{x\to-\infty} g(x)$:

- $\lim\limits_{x\to+\infty} g(x) = \lim\limits_{x\to+\infty} (1-xe^x)$
$= -\infty$
- $\lim\limits_{x\to-\infty} g(x) = \lim\limits_{x\to-\infty} (1-xe^x)$
$= 1$

لأنّ: $\lim\limits_{x\to-\infty} (xe^x) = 0$

❷ دراسة اتجاه تغير الدالة g:

$$g'(x) = -e^x - xe^x$$
$$= -(1+x)e^x$$

لدينا: $e^x > 0$ ومنه إشارة $g'(x)$ من إشارة $-(1+x)$:

$$-(1+x) = 0 \Rightarrow 1+x = 0$$
$$\Rightarrow x = -1$$

- جدول تغيرات الدالة g:

x	$-\infty$		-1		$+\infty$
$g'(x)$		$+$	0	$-$	
$g(x)$	1	↗	$1+e^{-1}$	↘	$-\infty$

❸ أ/ تبيين أنّ المعادلة $g(x) = 0$ تقبل حلا وحيدا α في المجال $]-1;+\infty[$:

لدينا: الدالة g مستمرة ومتناقصة تماما على $]-1;+\infty[$

ولدينا: $g(-1) \times \lim\limits_{x\to+\infty} g(x) < 0$

فإنه حسب مبرهنة القيم المتوسطة المعادلة $g(x) = 0$ تقبل حلا وحيدا α في المجال $]-1;+\infty[$

ب/ التحقق أنّ $0.5 < \alpha < 0.6$:

لدينا: $g(0.5) \times g(0.6) < 0$

لأنّ $g(0.5) \approx 0.18$

وَ $g(0.6) \approx -0.09$

فإنه حسب مبرهنة القيم المتوسطة المعادلة $g(x) = 0$ تقبل حلا وحيدا α حيث $0.5 < \alpha < 0.6$

- استنتاج إشارة $g(x)$ على $\mathbb{R}$:

x	$-\infty$		α		$+\infty$
		$-$			

II)

❶ حساب $\lim\limits_{x\to-\infty} f(x)$:

- $\lim\limits_{x\to-\infty} f(x) = \lim\limits_{x\to-\infty} \left((x-1)e^x - x - 1\right)$
$= \lim\limits_{x\to-\infty} (xe^x - e^x - x - 1)$
$= +\infty$

لأن: $\lim\limits_{x\to-\infty} (xe^x) = 0$

❷

أ/ تبيين أنه $f'(x) = -g(x)$:

$$f'(x) = e^x + e^x(x-1) - 1$$
$$= -1 + xe^x$$
$$= -(1-xe^x)$$
$$= -g(x)$$

ب/ استنتاج إشارة $f'(x)$ على المجال $]-\infty;2]$:

x	$-\infty$		α		2
$f'(x)$		$-$	0	$+$	

- جدول تغيرات الدالة f:

x	$-\infty$		α		2
$f'(x)$		$-$	0	$+$	
$f(x)$	$+\infty$	↘	$f(\alpha)$	↗	$f(2)$

❸ تبيين أنّ $f(\alpha) = -\left(\frac{\alpha^2+1}{\alpha}\right)$:

لدينا:

$$g(\alpha) = 0 \Rightarrow 1 - \alpha e^\alpha = 0$$
$$\Rightarrow e^\alpha = \frac{1}{\alpha}$$

ومنه:

$$f(\alpha) = (\alpha-1)e^\alpha - \alpha - 1$$
$$= \frac{\alpha-1}{\alpha} - \alpha - 1$$
$$= \frac{\alpha - 1 - \alpha^2 - \alpha}{\alpha}$$
$$= -\frac{\alpha^2+1}{\alpha}$$

- استنتاج حصرا للعدد $f(\alpha)$:

لدينا:

$$0.5 < \alpha < 0.6$$

$\Rightarrow$ (

$$\Rightarrow (0.5)^2+1<\alpha^2+1<(0.6)^2+1$$

ولدينا:

$$0.5<\alpha<0.6$$
$$\Rightarrow \frac{1}{0.6}<\frac{1}{\alpha}<\frac{1}{0.5}$$
$$\Rightarrow -\frac{1}{0.5}<-\frac{1}{\alpha}<-\frac{1}{0.6}$$

ومنه:

$$-\frac{(0.5)^2+1}{0.5}<-\frac{\alpha^2+1}{\alpha}<-\frac{(0.6)^2+1}{0.6}$$

أي:

$$-2.5<f(\alpha)<-2.26$$

4

أ/ تبيين أن المستقيم (Δ) ذا المعادلة $y=-x-1$ مستقيم مقارب مائل للمنحنى (C_f) بجوار $-\infty$:

$$\lim_{x\to-\infty}\left(f(x)-y_{(\Delta)}\right)=\lim_{x\to-\infty}\left((x-1)e^x\right)$$
$$=\lim_{x\to-\infty}(xe^x-e^x)$$
$$=0$$

إذن المستقيم (Δ) ذا المعادلة $y=-x-1$ مستقيم مقارب مائل للمنحنى (C_f) بجوار $-\infty$:

ب/ دراسة وضعية المنحنى (C_f) بالنسبة إلى (Δ):

$$f(x)-y_{(\Delta)}=(x-1)e^x$$

لدينا $e^x>0$

إذن إشارة الفرق من إشارة $(x-1)$:

$$x-1=0$$
$$\Rightarrow x=1$$

x	$-\infty$	1	2
$f'(x)$	$-$	0	$+$

- الوضعية:

- (C_f) تحت (Δ) لما $x\in\ ]-\infty;1[$
- (C_f) يقطع (Δ) لما $x=1$ أي في النقطة ذات الاحداثيات $(1;-2)$
- (C_f) تحت (Δ) لما $x\in\ ]1;2[$

5

أ/ تبيين أن المعادلة $f(x)=0$ تقبل حلين x_1 و x_2:

- لدينا الدالة f مستمرة ومتناقصة على المجال $[-1.6;-1.5]$

ولدينا: $f(-1.6)\times f(-1.5)<0$

لأنّ $f(-1.5)\approx -0.06$ و $f(-1.6)\approx 0.08$

فإنه حسب مبرهنة القيم المتوسطة المعادلة $f(x)=0$ تقبل حلا وحيدا x_1 في المجال $[-1.6;-1.5]$ حيث $-1.6<x_1<-1.5$

- لدينا الدالة f مستمرة ومتناقصة على المجال $[1.5;1.6]$

ولدينا: $f(1.6)\times f(1.5)<0$

لأنّ $f(1.5)\approx -0.26$

و $f(1.6)\approx 0.37$

فإنه حسب مبرهنة القيم المتوسطة المعادلة $f(x)=0$ تقبل حلا وحيدا x_2 في المجال $[1.5;1.6]$ حيث $1.5<x_2<1.6$

- إذن المعادلة $f(x)=0$ تقبل حلان x_1 و x_2

حيث: $-1.6<x_1<-1.5$

و $1.5<x_2<1.6$.

ب/ انشاء (Δ) و (C_f):

- نعين النقطة $(1;-2)$ نقطة تقاطع (C_f) مع (Δ).
- نرسم المستقيم المقارب المائل (Δ) ذو المعادلة $y_{(\Delta)}=-x-1$ باستعمال جدول القيم المساعدة.
- نعين النقطتين x_1 و x_2 نقطتي تقاطع (C_f) مع حامل محور الفواصل.
- نعين النقطة ذات الاحداثيات $(\alpha;f(\alpha))$.
- باستعمال جدول تغيرات الدالة f نرسم (C_f) مع الاستعانة بجدول الوضعية

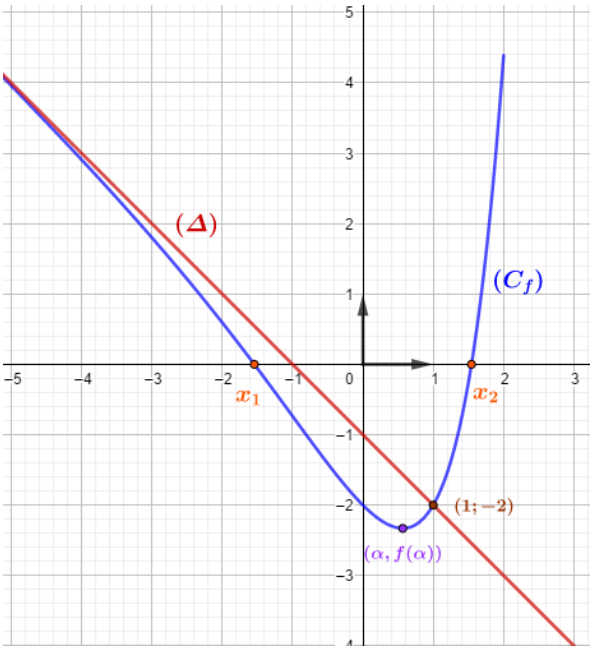

(I

❶ دراسة تغيرات الدالة g :

- **النهايات:**

• $\lim\limits_{x\to-\infty}[g(x)]=-\infty$

• $\lim\limits_{x\to+\infty}[g(x)]=\lim\limits_{x\to+\infty}\left[e^x\left(\frac{x}{e^x}+\frac{2}{e^x}-1\right)\right]=-\infty$

لأن: $\lim\limits_{x\to+\infty}\left[\frac{x}{e^x}\right]=0$ نهاية شهيرة

- **حساب $g'(x)$:**

$$g'(x)=1-e^x$$

لدينا:

$$\begin{aligned}g'(x)=0 &\Rightarrow 1-e^x=0\\ &\Rightarrow e^x=1\\ &\Rightarrow x=\ln 1\\ &\Rightarrow x=0\end{aligned}$$

- **جدول التغيرات:**

x	$-\infty$		0		$+\infty$
$g'(x)$		$+$	0	$-$	
$g(x)$	$-\infty$	↗	1	↘	$-\infty$

❷ تبيين أن المعادلة $g(x)=0$ تقبل حلان α و β :

لدينا الدالة g مستمرة ورتيبة على $\mathbb{R}$

ولدينا: $g(1.15)=-0.008$

و $g(1.14)=0.01$

ولدينا: $g(1.14)\times g(1.15)<0$

ومنه حسب مبرهنة القيم المتوسطة المعادلة $g(x)=0$

تقبل حل وحيد α في المجال $]1.14;1.15[$:

ولدينا: $g(-1.8)=0.03$

و $g(-1.9)=-0.04$

ولدينا: $g(-1.9)\times g(-1.8)<0$

ومنه حسب مبرهنة القيم المتوسطة المعادلة $g(x)=0$

تقبل حل وحيد β في المجال $]-1.9;-1.8[$:

❸ استنتاج

x	$-\infty$		β		α		$+\infty$
$g(x)$		$-$	0	$+$	0	$-$	

(II

❶ حساب $\lim\limits_{x\to+\infty}[f(x)]$ و $\lim\limits_{x\to-\infty}[f(x)]$:

• $\lim\limits_{x\to-\infty}[f(x)]=-1$

لأن: $\lim\limits_{x\to-\infty}[xe^x]=0$ (نهاية شهيرة)

• $\lim\limits_{x\to+\infty}[f(x)]=\lim\limits_{x\to+\infty}\left[\frac{1-e^{-x}}{x+e^{-x}}\right]=0$

- **التفسير الهندسي:**

• (C_f) يقبل مستقيم مقارب أفقي بجوار $-\infty$ معادلته: $y=-1$.

• (C_f) يقبل مستقيم مقارب أفقي بجوار $+\infty$ معادلته: $y=0$.

❷ تبيين أنه من أجل كل x من $\mathbb{R}$: $f'(x)=\frac{e^x g(x)}{(xe^x+1)^2}$:

$$\begin{aligned}f'(x)&=\frac{e^x(xe^x+1)-(e^x+xe^x)(e^x-1)}{(xe^x+1)^2}\\ &=\frac{xe^{2x}+e^x-e^{2x}+e^x-xe^{2x}+xe^x}{(xe^x+1)^2}\\ &=\frac{-e^{2x}+2e^x+xe^x}{(xe^x+1)^2}\\ &=\frac{e^x(x+2-e^x)}{(xe^x+1)^2}\\ &=\frac{e^x g(x)}{(xe^x+1)^2}\end{aligned}$$

❸ دراسة اتجاه تغير الدالة f :

لدينا $e^x>0$ و $(xe^x+1)^2>0$ و منه إشارة $f'(x)$ من إشارة $g(x)$

ولدينا : $f(0)=0$ ومنه جدول التغيرات كالآتي:

x	$-\infty$		β		0		α		$+\infty$
$f'(x)$		$-$	0	$+$	0	$+$	0	$+$	
$f(x)$	-1	↘	$f(\beta)$	↗	0	↗	$f(\alpha)$	↘	0

❹ تعيين دون حساب كل من : $\lim\limits_{x\to\alpha}\left[\frac{f(x)-f(\alpha)}{x-\alpha}\right]$ و $\lim\limits_{x\to\beta}\left[\frac{f(x)-f(\beta)}{x-\beta}\right]$:

- $\lim\limits_{x\to\alpha}\left[\dfrac{f(x)-f(\alpha)}{x-\alpha}\right]=f'(\alpha)=0$
- $\lim\limits_{x\to\beta}\left[\dfrac{f(x)-f(\beta)}{x-\beta}\right]=f'(\beta)=0$

- التفسير الهندسي:

(C_f) يقبل مماسين موازيين لحامل محور الفواصل في النقطتين ذات الفاصلتين α و β . معادلة كل منها $y=f(\alpha)$ و $y=f(\beta)$ على الترتيب

❺ تبيين أنّ: $f(\alpha)=\frac{1}{\alpha+1}$:

لدينا:

$$g(\alpha)=0\Rightarrow \alpha+2-e^{\alpha}$$
$$\Rightarrow e^{\alpha}=\alpha+2$$

ومنه:

$$f(\alpha)=\frac{e^{\alpha}-1}{\alpha e^{\alpha}+1}$$
$$=\frac{\alpha+2-1}{\alpha(\alpha+2)+1}$$
$$=\frac{\alpha+1}{\alpha^2+2a+1}$$
$$=\frac{\alpha+1}{(\alpha+1)^2}$$
$$=\frac{1}{\alpha+1}$$

- حصر $f(\alpha)$:

لدينا:

$$1.14<\alpha<1.15$$
$$1.14+1<\alpha+1<1.15+1$$
$$\frac{1}{2.15}<\frac{1}{\alpha+1}<\frac{1}{2.14}$$

ومنه:

$$0.46<f(\alpha)<0.46$$

❻ تبيين أنه من أجل كل x من $\mathbb{R}$: $h(x)\leq 0$:

لدينا $h(0)=0$

ولدينا:

- $\lim\limits_{x\to+\infty}[h(x)]=\lim\limits_{x\to+\infty}\left[e^{x}\left(1-x-\dfrac{1}{e^{x}}\right)\right]=-\infty$
- $\lim\limits_{x\to-\infty}[h(x)]=-\infty$

ولدينا:

جدول تغيرات الدالة h :

x	$-\infty$	0	$+\infty$
$h'(x)$	$+$	0	$-$
$h(x)$	$-\infty$ ↗	0	↘ $-\infty$

من جدول التغيرات نجد أعلى قيمة تأخذها الدالة h هي 0

ومنه $h(x)\leq 0$.

❼ التحقق من ان: $p(0)=0$:

$$p(0)=1-2+1=0$$

❽

أ/ تبيين أن المنحني (C_f) يقبل مماسا (T) عمودي على المستقيم ذو المعادلة $y=-x+5$:

◄ يتعامد مستقيمان إذا كان جداء ميليهما يساوي -1 ►

ومنه:

$$f'(a)\times -1=-1$$
$$\Rightarrow f'(a)=1$$
$$\Rightarrow \frac{e^{a}(a+2-e^{a})}{(ae^{a}+1)^2}=1$$
$$\Rightarrow e^{a}(a+2-e^{a})=(ae^{a}+1)^2$$
$$\Rightarrow (ae^{a}+1)^2-e^{a}(a+2-e^{a})=0$$
$$\Rightarrow a^2e^{2a}+1+2ae^{a}+e^{2a}-2e^{a}-ae^{a}=0$$
$$\Rightarrow (a^2+1)e^{2a}+(a-2)e^{a}+1=0$$
$$\Rightarrow p(a)=0$$
$$\Rightarrow a=0$$

المعادلة تقبل حل، ومنه (C_f) يقبل مماسا (T) عمودي على المستقيم ذو المعادلة $y=-x+5$

ب/ كتابة معادلة للمماس (T) :

$$(T):y=f'(0)(x-0)+f(0)$$
$$=x+f(0)$$
$$=x$$

ج/ دراسة وضعية المنحني (C_f) بالنسبة للمماس (T):

ندرس إشارة الفرق : $f(x)-y$

$$f(x)-y=\frac{e^{x}-1}{xe^{x}+1}-x$$
$$=\frac{e^{x}-1-x^2e^{x}-x}{xe^{x}+1}$$
$$=\frac{e^{x}(1-x^2)-(1+x)}{xe^{x}+1}$$
$$\underline{e^{x}(1-x)(1+x)-(1+x)}$$

$$= \frac{(1+x)(e^x - xe^x - 1)}{xe^x + 1}$$
$$= \frac{(1+x)h(x)}{xe^x + 1}$$

لدينا: $h(x) \leq 0$

ولدينا:

$$1 + x = 0 \Rightarrow x = -1$$

x	$-\infty$		-1		$+\infty$
$1+x$		$-$	0	$+$	

- ندرس إشارة $(xe^x + 1)$:

نضع $\varphi(x) = xe^x + 1$

$$\varphi'(x) = e^x + xe^x = e^x(1+x)$$

$e^x > 0$ ومنه إشارة $\varphi'(x)$ من إشارة $(1+x)$

$$1 + x = 0 \Rightarrow x = -1$$

- جدول تغيرات $\varphi(x)$:

x	$-\infty$		-1		$+\infty$
$\varphi'(x)$		$-$	0	$+$	
$\varphi(x)$	1	↘	0.6	↗	$+\infty$

من جدول تغيرات $\varphi(x)$ نلاحظ أنّ $\varphi(x) > 0$ ومنه:

اذن إشارة الفرق $f(x) - y$ كالآتي

x	$-\infty$		-1		$+\infty$
$h(x)$		$-$		$-$	
$1+x$		$-$	0	$+$	
$f(x) - y$		$+$	0	$-$	

- الوضعية:

- (C_f) فوق (T) لما $x \in]-\infty; -1[$
- (C_f) يقطع (T) في النقطة $A(-1; -1)$
- (C_f) تحت (T) لما $x \in]-1; +\infty[$

❾ التمثيل البياني:

خطوات التمثيل على معلم متعامد ومتجانس:

- نرسم المستقيمات المقاربة: $(y = -1)$ و $(y = 0)$
- نرسم المماس (T).
- ثم باستعمال جدول التغيرات نرسم (C_f)

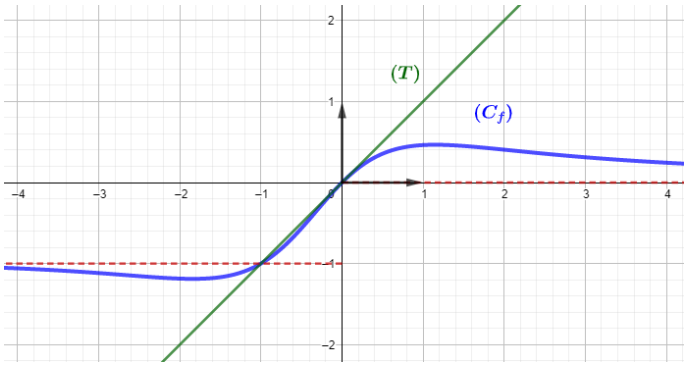

❿ المناقشة البيانية:

$$e^x(1 - mx^2) + mx - 1 = 0$$
$$\Rightarrow e^x - mx^2e^x + mx - 1 = 0$$
$$\Rightarrow mx(1 - xe^x) = 1 - e^x$$
$$\Rightarrow mx = \frac{1 - e^x}{1 - xe^x}$$
$$\Rightarrow \frac{e^x - 1}{xe^x - 1} = mx$$
$$\Rightarrow f(x) = mx$$

حلول المعادلة هي نقط تقاطع المنحني (C_f) مع المستقيمات ذات المعادلة : $f(x) = mx$ ، ومنه:

لما $m \leq 0$ المعادلة تقبل حل وحيدا معدوم

لما $0 < m < 1$ المعادلة تقبل حل موجب تماما وحل معدوم وحل سالب

لما $m = 1$ المعادلة تقبل حلا معدوما وحلا سالب تماما

لما $m > 1$ المعادلة تقبل حلا معدوما

حل المسـألة رقم: 23

مشاهـــدة المسألة

(I

❶ تعيين نهايات الدالة g عند $+\infty$ و $-\infty$:

- $\lim\limits_{x\to+\infty} g(x) = +\infty$
- $\lim\limits_{x\to-\infty} g(x) = \lim\limits_{x\to-\infty} \left(e^{-x}(1+xe^{x}-e^{-x})\right) = +\infty$

❷ دراسة اتجاه تغير الدالة g على $\mathbb{R}$:

$$g'(x) = -e^{-x}+1$$

لدينا:

$$\begin{aligned} g'(x) = 0 &\Rightarrow -e^{-x}+1 = 0 \\ &\Rightarrow e^{-x} = 1 \\ &\Rightarrow -x = 0 \\ &\Rightarrow x = 0 \end{aligned}$$

x	$-\infty$	0	$+\infty$
$g'(x)$	$-$	0	$+$
$g(x)$	$+\infty$ ↘	0	↗ $+\infty$

❸ تبيين أنه من أجل كل x من $\mathbb{R}$: $g(x) \geq 0$

من جدول التغيرات الدالة تبلغ قيمة حدية دنيا عند $(0;0)$

إذن $g(x) \geq 0$

- استنتاج أنّ $e^{-x}+x \geq 1$:

لدينا: $g(x) \geq 0$ أي: $e^{-x}+x-1 \geq 0$

إذن: $e^{-x}+x \geq 1$

(II

❶ تبيين أن مجموعة تعريف الدالة f هي $\mathbb{R}$:

لدينا: $e^{-x}+x \geq 1$ إذن: $e^{-x}+x > 0$

وعليه: $D_f = \mathbb{R}$

❷

أ/ التحقق أنه من أجل كل $x \in \mathbb{R}$: $f(x) = \frac{1}{1+\frac{1}{xe^{x}}}$:

$$\begin{aligned} f(x) &= \frac{x}{e^{-x}+x} \\ &= \frac{x}{x\left(\frac{e^{-x}}{x}+1\right)} \\ &= \frac{1}{\frac{e^{-x}}{x}+1} \\ &\quad 1 \end{aligned}$$

ب/ حساب $\lim\limits_{x\to-\infty} f(x)$ و $\lim\limits_{x\to+\infty} f(x)$:

- $\lim\limits_{x\to+\infty} f(x) = 1$
- $\lim\limits_{x\to-\infty} f(x) = 0$

لأنّ $\lim\limits_{x\to-\infty} (xe^{x}) = 0$

- التفسير الهندسي:

- (C_f) يقبل مستقيم مقارب أفقي بجوار $-\infty$ معادلته $y = 0$
- (C_f) يقبل مستقيم مقارب أفقي بجوار $+\infty$ معادلته $y = 1$

❸

أ/ تبيين أنه من أجل $x \in \mathbb{R}$: $f'(x) = \frac{(1+x)e^{-x}}{(e^{-x}+x)^2}$:

$$\begin{aligned} f'(x) &= \frac{e^{-x}+x-x(-e^{-x}+1)}{(e^{-x}+x)^2} \\ &= \frac{e^{-x}+x+xe^{-x}-x}{(e^{-x}+x)^2} \\ &= \frac{e^{-x}(1+x)}{(e^{-x}+x)^2} \end{aligned}$$

ب/ دراسة تغيرات الدالة f:

لدينا: $e^{-x} > 0$ و $(e^{-x}+x)^2 > 0$

إذن: إشارة $f'(x)$ من إشارة $x+1$

$$x+1 = 0 \Rightarrow x = -1$$

x	$-\infty$	-1	$+\infty$
$f'(x)$	$-$	0	$+$
$f(x)$	0 ↘	$\frac{1}{1-e}$	↗ 1

❹

أ/ كتابة معادلة المماس لـ (C_f) عند النقطة ذات الفاصلة 0

$$y = f'(0)(x-0)+f(0) = x$$

ب/ التحقق أنه من أجل كل $x \in \mathbb{R}$: $x - f(x) = \frac{xg(x)}{g(x)+1}$:

$$\begin{aligned} x-f(x) &= x-\frac{x}{e^{-x}+x} \\ &= \frac{x(e^{-x}+x)-x}{e^{-x}+x} \\ &= \frac{x(e^{-x}+x-1)}{e^{-x}+x-1+1} \\ &\quad xg(x) \end{aligned}$$

إشارة $x - f(x)$ من إشارة x

لأنّ: $g(x) > 0$

و: $g(x) + 1 > 0$

x	$-\infty$	0	$+\infty$
$x - f(x)$	$-$	0	$+$

ج/ استنتاج الوضع النسبي بين (C_f) والمستقيم (T) :

لدينا:

$$f(x) - y_{(T)} = -\frac{xg(x)}{g(x)+1}$$

وعليه:

x	$-\infty$	0	$+\infty$
$f(x) - y_{(T)}$	$+$	0	$-$

- (C_f) فوق (T) لما $x \in]-\infty; 0[$
- (C_f) يقطع (T) لما $x = 0$
- (C_f) تحت (T) لما $x \in]0; +\infty[$

❺ إنشاء (T) و (C_f):

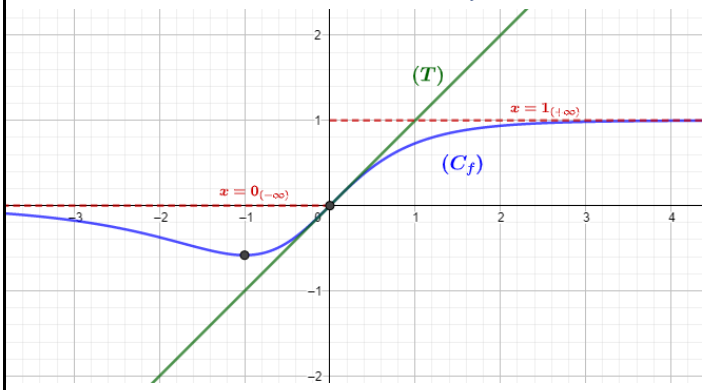

❻ المناقشة البيانية:

$$\frac{xe^x}{xe^x+1} - 1 = m \Rightarrow \frac{xe^x e^{-x}}{(xe^x+1)e^{-x}} = m+1$$
$$\Rightarrow \frac{x}{x+e^{-x}} = m+1$$
$$\Rightarrow f(x) = m+1$$

حلول المعادلة هي فواصل نقط تقاطع (C_f) مع المستقيمات ذات المعادلة $y_m = m+1$

- لما $y_m < \frac{1}{1-e}$ أي لما $m < \frac{1}{1-e} - 1$

أي لما $m < \frac{e}{1-e}$ المعادلة لا تقبل حلول

- لما $y_m = \frac{1}{1-e}$ أي لما $m = \frac{e}{1-e}$

المعادلة تقبل حل مضاعف سالب

- لما $\frac{1}{1-e} < y_m < 0$ أي لما $\frac{e}{1-e} < m < -1$

المعادلة تقبل حلين سالبين تماما

- لما $y_m = 0$ أي لما $m = -1$

المعادلة تقبل حل معدوم

- لما $0 < y_m < 1$ أي لما $-1 < m < 0$

المعادلة تقبل حل موجب تماما

- لما $y_m \geq 1$ أي لما $m \geq 0$

المعادلة لا تقبل حلول



بالتوفيق والنجاح في شهادة البكالوريا

لا تنسونا من صالح دعائكم



#الخليل_للرياضيات