العبقري في الرياضيات

المتتاليات العددية

الثالثة ثانوي

الشعب:
- آداب وفلسفة؛
- آداب ولغات أجنبية.

مجلة العبقري في الرياضيات (المتتاليات العددية)
الملخص // الشعبة: آداب وفلسفة؛ لغات أجنبية.

ملخص: حول المتتاليات العددية// التحضير الجيد بكالوريا// الشعبة: آ وف؛ لغ أ.

1 دراسة اتجاه تغّير متتالية (u_n):

ندرس إشارة الفرق $u_{n+1}-u_n$

- في حالة $u_{n+1}-u_n>0$، فإنّ: (u_n) **متزايدة تماما.**
- في حالة $u_{n+1}-u_n<0$، فإنّ: (u_n) **متناقصة تماما.**
- في حالة $u_{n+1}-u_n=0$، فإنّ: (u_n) **ثابتة.**

2 المتتالية الحسابية:

1) طريقة إثبات أنّ المتتالية (u_n) حسابية:

يكفي أن نُثبت أنّ: ① الفرق $u_{n+1}-u_n$ **عدد ثابت** أي: $\boxed{u_{n+1}-u_n=r}$.

② **أو** نكتب u_{n+1} بدلالة u_n نجد: $\boxed{u_{n+1}=u_n+r}$.

حيث: r **عدد حقيقي**، يسمى **أساس** المتتالية **الحسابية** (u_n).

2) عبارة الحد العام لمتتالية حسابية: (u_n بدلالة n)؛ u_n يسمى **الحد العام.**

① بصفة عامة $\boxed{u_n=u_p+(n-p)r}$، علاقة تربط بين **حدين مختلفين.**

② $\boxed{u_n=u_0+nr}$، في حالة u_0 هو **الحد الأوّل.**

③ $\boxed{u_n=u_1+(n-1)r}$، في حالة u_1 هو **الحد الأوّل.**

ملاحظة: ❶ هذه العلاقات يُمكن إستعمالها في حالات أخرى، وذلك بتعويض u_n بأي حد مُعطى في التمرين.

❷ تُستعمل العلاقة ①، إذا كانت (u_n) **حسابية ومعرّفة بحدين مختلفين** وبإستعمال العلاقة نقوم بحساب الأساس نجد: $\boxed{r=\frac{u_n-u_p}{n-p}}$.

3) مجموع حدود متتابعة من متتالية حسابية:

بصفة عامة: $\boxed{\text{المجموع}=(\text{عدد الحدود})\ \frac{\text{الحد الأخير}+\text{الحد الأوّل}}{2}}$.

حيث: 1 + دليل الحد الأوّل – دليل الحد الأخير = عدد الحدود.

4) خاصية الوسط الحسابي:

تكون الأعداد الحقيقية a، b وَ c بهذا الترتيب **حدوداً متتابعة** من **متتالية حسابية** إذا وفقط إذا كان $\boxed{a+c=2b}$

أو $\boxed{b=\frac{a+c}{2}}$.

3 المتتالية الهندسية:

1) طريقة إثبات أنّ المتتالية (u_n) هندسية:

يكفي أن نُثبت أنّ: ① الحاصل $\frac{u_{n+1}}{u_n}$ **عدد ثابت** أي: $\boxed{\frac{u_{n+1}}{u_n}=q}$.

② **أو** نكتب u_{n+1} بدلالة u_n نجد: $\boxed{u_{n+1}=qu_n}$.

حيث: q **عدد حقيقي**، يسمى **أساس** المتتالية **الهندسية** (u_n).

2) عبارة الحد العام لمتتالية حسابية: (u_n بدلالة n)؛ u_n يسمى **الحد العام**.

① بصفة عامة $\boxed{u_n=u_p\times q^{n-p}}$، علاقة تربط بين **حدين مختلفين**.

② $\boxed{u_n=u_0\times q^n}$، في حالة u_0 هو **الحد الأوّل**.

③ $\boxed{u_n=u_1\times q^{n-1}}$، في حالة u_1 هو **الحد الأوّل**.

ملاحظة: ❶ هذه العلاقات يُمكن إستعمالها في حالات أخرى، وذلك بتعويض u_n بأي حد مُعطى في التمرين.

❷ تُستعمل العلاقة ①، إذا كانت (u_n) **هندسية ومعرّفة بحدين مختلفين** وبإستعمال العلاقة نقوم بحساب الأساس نجد: $\boxed{q^{n-p}=\frac{u_n}{u_p}}$.

3) مجموع حدود متتابعة من متتالية هندسية:

بصفة عامة: $\boxed{\text{المجموع}=(\text{الحد الأوّل})\left(\frac{1-q^{\text{عدد الحدود}}}{1-q}\right)}$.

حيث: $1+$ دليل الحد الأوّل $-$ دليل الحد الأخير $=$ عدد الحدود.

4) خاصية الوسط الهندسي:

تكون الأعداد الحقيقية a، b وَ c بهذا الترتيب **حدوداً متتابعة** من **متتالية هندسية** إذا وفقط إذا كان $\boxed{a\times c=b^2}$.

المتتالية (u_n)

حسابية

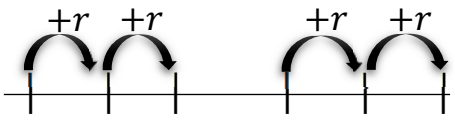

$u_{n+1} = u_n + r$ حيث r عدد حقيقي

r يسمى **أساس** المتتالية **الحسابية** (u_n).

الطريقة 01:

نُبين أنّ **الفرق** $u_{n+1} - u_n$ **عدد ثابت (الأساس)**

الطريقة 02:

نكتب u_{n+1} بدلالة u_n **نجد:**

$u_{n+1} = u_n + r$.

إذا أعطي u_0:

$u_n = u_0 + nr$.

إذا أعطي u_1:

$u_n = u_1 + (n-1)r$.

من أجل عددين طبيعيين n و p.

$u_n = u_p + (n-p)r$.

علاقة تربط بين حدين مختلفين في متتالية حسابية.

بصفة عامة:

$\left(\frac{\text{الحد الأخير+الحد الأول}}{2}\right)$ (عدد الحدود) = المجموع

هندسية

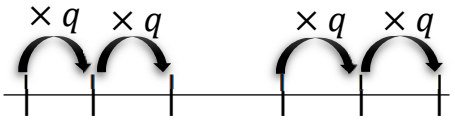

$u_{n+1} = qu_n$ حيث q عدد حقيقي

q يسمى **أساس** المتتالية **الهندسية** (u_n).

الطريقة 01:

نُبين أنّ **الحاصل** $\frac{u_{n+1}}{u_n}$ **عدد ثابت (الأساس)**

الطريقة 02:

نكتب u_{n+1} بدلالة u_n **نجد:**

$u_{n+1} = qu_n$.

إذا أعطي u_0:

$u_n = u_0 \times q^n$.

إذا أعطي u_1:

$u_n = u_1 \times q^{n-1}$.

من أجل عددين طبيعيين n و p.

$u_n = u_p \times q^{n-p}$.

علاقة تربط بين حدين مختلفين في متتالية هندسية.

بصفة عامة:

المجموع = الحد الأول $\left(\frac{1 - q^{\text{عدد الحدود}}}{1-q}\right)$

كيف نُبين أنّ

عبارة الحد العام للمتتالية (u_n)

كتابة u_n بدلالة n

هذه العلاقات يُمكن استعمالها وذلك بتعويض u_n **بأي** حد مُعطى

مجموع حدود متتابعة من متتالية

عدد الحدود = (دليل الحد الأخير − دليل الحد الأوّل) + 1

خاصية الوسط

الوسط الحسابي:

تكون a، b و c **ثلاث حدود متتابعة** من متتالية **حسابية** إذا وفقط إذا كان

$a + c = 2b$

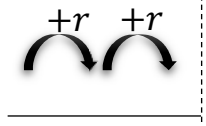

$a = b - r$

الوسط الهندسي:

تكون a، b و c **ثلاث حدود متتابعة** من متتالية **هندسية** إذا وفقط إذا كان

$a \times c = b^2$

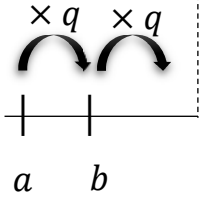

$a = \frac{b}{-}$

مجلة العبقري في الرياضيات (المتتاليات العددية -بكالوريات جزائرية)

التمارين// الشعبة: آداب وفلسفة؛ لغات أجنبية.

التمرين 01: (05 نقاط) بكالوريا 2008// الموضوع 01// الشعبة: آداب وفلسفة؛ لغات أ.

(u_n) متتالية معرّفة على $\mathbb{N}$ كما يلي: $u_n = 3n + 1$.

1/احسب u_0، u_1، u_2.

2/بيّن أنّ (u_n) حسابية يُطلب تعيين أساسها. عيّن اتجاه تغيّر (u_n).

3/تحقّق أنّ العدد 2008 حدّ من حدود المتتالية (u_n). ما رتبته؟

4/احسب المجموع: $S = u_0 + u_1 + u_2 + \cdots + u_{669}$.

التمرين 02: (06 نقاط) بكالوريا 2008// الموضوع 02// الشعبة: آداب وفلسفة؛ لغات أ.

(u_n) متتالية عددية معرّفة بحدّها الأول $u_1 = 7$ ومن أجل كل عدد طبيعي غير معدوم n: $u_{n+1} = 2u_n + 1$.

1)أحسب u_2، u_3، u_4.

2)من أجل كل عدد طبيعي غير معدوم n، نُعرف المتتالية (v_n) كما يأتي: $v_n = u_n + 1$.

أ-أثبت أنّ (v_n) متتالية هندسية يُطلب تعيين أساسها q وحدّها الأول v_1.

ب-اكتب عبارة الحد العام v_n بدلالة n ثمّ استنتج u_n بدلالة n.

ج-نضع: $S_n = v_1 + v_2 + \cdots + v_n$، احسب S_n بدلالة n.

د-عيّن n علماً أنّ $S_n = 1016$.

التمرين 03: (06 نقاط) بكالوريا 2009// الموضوع 01// الشعبة: آداب وفلسفة؛ لغات أ.

(u_n) متتالية حسابية معرّفة على $\mathbb{N}^*$ بحدّها الأول $u_1 = 2$ وبالعلاقة $u_2 - 2u_5 = 19$.

1)أ-أحسب الأساس r للمتتالية (u_n).

ب-أحسب الحد العاشر.

2)أكتب عبارة u_n بدلالة n.

3)بيّن أنّ العدد (-2008) هو حداً من حدود (u_n). محدّدا رتبته.

4)أحسب المجموع: $S = u_1 + u_2 + \cdots + u_{671}$.

التمرين 04: (07 نقاط) بكالوريا 2009// الموضوع 02// الشعبة: آداب وفلسفة؛ لغات أ.

(u_n) متتالية هندسية معرّفة على $\mathbb{N}$ وأساسها **موجب**.

1-عيّن أساس هذه المتتالية وحدّها الأول u_0 **إذا علمت** أنّ: $u_3 = 144$ و $u_5 = 576$.

2-تحقّق أنّه من أجل كل عدد طبيعي n: $u_n = 18 \times 2^n$.

3-أحسب بدلالة n المجموع: $S_n = u_0 + u_1 + \cdots + u_n$، ثمّ استنتج قيمة العدد الطبيعي n حيث: $S_n = 1134$.

التمرين 05: (05 نقاط) بكالوريا 2010// الموضوع 01// الشعبة: آداب وفلسفة؛ لغات أ.

(I) (u_n) متتالية حسابية معرفة على $\mathbb{N}$ بالحدين: $u = 31$ و $u = 46$.

3-بيّن أنّ 6028 حدّ من حدود المتتالية (u_n).

4-أحسب المجموع S: $S = u_0 + u_1 + \cdots + u_{2009}$.

II)نعتبر المتتالية (v_n) المعرّفة على $\mathbb{N}$ بـ: $v_n = 2 \times 8^n$.

1-بيّن أنّ (v_n) متتالية هندسية يُطلب تعيين أساسها وحدّها الأول v_0.

2-أحسب بدلالة n المجموع S': $S' = v_0 + v_1 + \cdots + v_n$.

التمرين 06: (07 نقاط) بكالوريا 2010// الموضوع 02// الشعبة: آداب وفلسفة؛ لغات أ.

(u_n) متتالية هندسية معرّفة على مجموعة الأعداد الطبيعية $\mathbb{N}$، أساسها q وحدّها الأوّل u_0 حيث:

$u_1 = 6$ و $u_4 = 48$.

1.أ-أحسب الأساس والحدّ الأوّل للمتتالية (u_n).

ب-استنتج أنّ عبارة الحدّ العام للمتتالية (u_n) هي: $u_n = 3 \times 2^n$.

2.أ-علماً أنّ $2^8 = 256$؛ بيّن أنّ العدد 768 هو حدّ من حدود المتتالية (u_n).

ب-أحسب المجموع S حيث: $S = u_0 + u_1 + \cdots + u_7$.

3.(v_n) متتالية عددية معرّفة بـ: $v_0 = 4$ ومن أجل كل عدد طبيعي n: $v_{n+1} = 2v_n - 1$.

أ-أحسب: v_1، v_2، v_3.

ب-برهن بالتراجع أنّه من أجل كل عدد طبيعي n: $v_n = 3 \times 2^n + 1$.

جـ-أحسب المجموع S' حيث: $S' = v_0 + v_1 + \cdots + v_7$.

التمرين 07: (06 نقاط) بكالوريا 2011// الموضوع 01// الشعبة: آداب وفلسفة؛ لغات أ.

أ)(u_n) متتالية هندسية أساسها 3 وحدّها الأول u_0 بحيث: $u_0 + u_3 = 28$.

1.احسب u_0، ثمّ اكتب الحد العام u_n بدلالة n.

2.احسب المجموع: $S_1 = u_0 + u_1 + \cdots + u_9$.

ب)(v_n) متتالية عددية معرّفة على $\mathbb{N}$ بحدّها العام: $v_n = 1 - 5n$.

1.بيّن أنّ(v_n) متتالية حسابية يُطلب تعيين أساسها ثمّ استنتج اتجاه تغيّرها.

2.احسب المجموع: $S_2 = v_0 + v_1 + \cdots + v_9$.

ج) نعتبر المتتالية (k_n) المعرّفة على $\mathbb{N}$ بحدّها العام: $k_n = 1 + 3^n - 5n$.

-تحقّق أنّ: $k_n = u_n + v_n$ ثمّ احسب المجموع: $S = k_0 + k_1 + \cdots + k_9$.

التمرين 08: (06 نقاط) بكالوريا 2011// الموضوع 02// الشعبة: آداب وفلسفة؛ لغات أ.

(u_n) و(v_n) المتتاليتان العدديتان المعرّفتان على $\mathbb{N}$ بحدّيهما العام: $u_n = -2n$ و $v_n = 3^{-2n}$.

عيّن في كلّ حالة من الحالات الخمس في الجدول أدناه الاقتراح الصحيح من بين الاقتراحات الثلاث مع التعليل.

		اقتراح 1	اقتراح 2	اقتراح 3
1	(u_n)هي متتالية	هندسية	حسابية	لا حسابية ولا هندسية
2	الحد الخامس والأربعون للمتتالية (u_n) يساوي	-90	-92	-88
3	المجموع $u_0 + u_1 + \cdots + u_n$ يساوي	$n^2 + 1$	$-n^2 - n$	$-n^2 - 1$
4	(v_n) متتالية هندسية أساسها	$\frac{1}{9}$	9	-9
5	المتتالية			رتيبة

التمرين 09: (06 نقاط) بكالوريا 2012// الموضوع 01// الشعبة: آداب وفلسفة؛ لغات أ.

a، b، c ثلاثة حدود متتابعة لمتتالية حسابية متزايدة أساسها r حيث: $a+b+c=9$.

1.أ) احسب b ثم اكتب a و c بدلالة r.

ب) علماً أنّ: $a\times c=-16$

-عيّن الأساس r ثم استنتج a و c.

2.(u_n) متتالية حسابية حدها الأول $u_0=-2$ وأساسها 5.

أ) عبّر عن الحدّ العام u_n بدلالة n.

ب) احسب u_{15} ثم استنتج المجموع: $S=u_0+u_1+\cdots+u_{15}$.

3.(v_n) متتالية عددية معرفة على $\mathbb{N}$ بالعلاقة: $8v_n-u_n=0$

-احسب المجموع: $S'=v_0+v_1+\cdots+v_{15}$.

التمرين 10: (06 نقاط) بكالوريا 2012// الموضوع 02// الشعبة: آداب وفلسفة؛ لغات أ.

(u_n) متتالية حسابية متزايدة، أساسها r، حدّها الأول u_1 و $u_3=7$.

1.أ) احسب بدلالة r الجدائين: $T_1=u_1\times u_5$ و $T_2=u_2\times u_4$.

ب) عيّن الأساس r بحيث: $T_2-T_1=27$.

2.نضع $r=3$.

أ) اكتب عبارة الحدّ العام u_n بدلالة n.

ب) نضع من أجل كل عدد طبيعي n غير معدوم: $S_n=u_1+u_2+\cdots+u_n$.

بيّن أنّ: $S_n=\frac{3n^2-n}{2}$.

ج) جِد العدد الطبيعي n بحيث: $S_n=145$.

3.أ) اكتب الحدّ u_{n+5} بدلالة n.

ب) تحقّق أنّه من أجل كل عدد طبيعي n غير معدوم: $\frac{u_{n+5}}{n}=3+\frac{13}{n}$.

ج) استنتج الأعداد الطبيعية n التي يكون من أجلها العدد $\frac{u_{n+5}}{n}$ طبيعيا.

التمرين 11: (06 نقاط) بكالوريا 2013// الموضوع 01// الشعبة: آداب وفلسفة؛ لغات أ.

(v_n) متتالية هندسية حدّها الأول $v_0=2$ وأساسها 3.

1-أ) عبّر عن v_n بدلالة n.

ب) احسب بدلالة n الفرق $v_{n+1}-v_n$، ثمّ استنتج اتجاه تغيّر المتتالية (v_n).

2-نضع، من أجل كل عدد طبيعي غير معدوم n: $S_n=v_0+v_1+\cdots+v_{n-1}$.

أ) احسب بدلالة n المجموع S_n.

ب) عيّن قيمة العدد الطبيعي n بحيث: $S_n=80$.

ج) أثبت بالتراجع أنّه، من أجل كل عدد طبيعي n، العدد 3^n-1 يقبل القسمة على 2.

التمرين 12: (06 نقاط) بكالوريا 2013// الموضوع 02// الشعبة: آداب وفلسفة؛ لغات أ.

(u_n) متتالية حسابية حدّها الأول u_0 وأساسها 5 بحيث: $u_0+u_1+u_2+u_3=34$.

1- احسب u

3- عيّن العدد الطبيعي n بحيث: $u_{n+1} + u_n - 8n = 4033$.
4- أحسب المجموع: $S = u_0 + u_1 + u_2 + \cdots + u_{2013}$.
5- المتتالية العددية (v_n) معرّفة على $\mathbb{N}$ بالعبارة: $v_n = 2u_n + 1$.
أ) ادرس اتجاه تغيّر المتتالية (v_n).
ب) أحسب المجموع: $S' = v_0 + v_1 + v_2 + \cdots + v_{2013}$.

التمرين 13: (06 نقاط) بكالوريا 2014// الموضوع 01// الشعبة: آداب وفلسفة؛ لغات أ.

عيّن الاقتراح الصّحيح الوحيد من بين الاقتراحات الثلاثة، في كلّ حالة من الحالات الأربعة الآتية، مع التّعليل:
1) (u_n) متتالية حسابية أساسها 3 وحدّها $u_2 = 1$.
الحد العام للمتتالية (u_n) هو:
أ) $u_n = 1 + 3n$ ب) $u_n = 7 + 3n$ جـ) $u_n = -5 + 3n$.
2) n عدد طبيعي. المجموع $1 + 2 + 3 + \cdots + n$ يساوي:
أ) $\frac{n^2+n}{2}$ ب) $\frac{n(n-1)}{2}$ جـ) $\frac{n^2+1}{2}$.
3) x عدد حقيقي. تكون الأعداد $x-2$، x، $x+1$ بهذا الترتيب حدودا متعاقبة لمتتالية هندسية إذا كان:
أ) $x = 3$ ب) $x = 5$ جـ) $x = -2$.
4) (v_n) متتالية هندسية معرّفة على $\mathbb{N}$، حدّها العام $v_n = 2 \times 3^{n+1}$. أساس المتتالية (v_n) هو:
أ) 2 ب) 3 جـ) 6.

التمرين 14: (06 نقاط) بكالوريا 2014// الموضوع 02// الشعبة: آداب وفلسفة؛ لغات أ.

(v_n) المتتالية العددية المعرّفة بما يلي: $v_0 = 1$ ومن أجل كل عدد طبيعي n؛ $v_{n+1} = 5v_n + 4$.
1) احسب: v_1، v_2 و v_3.
2) نضع من أجل كل عدد طبيعي n؛ $u_n = v_n + 1$
أ- بيّن أنّ (u_n) متتالية هندسية أساسها $q = 5$ وحدّها الأول $u_0 = 2$.
ب- اكتب u_n بدلالة n واستنتج v_n بدلالة n.
جـ- حلّل العدد 1250 إلى جداء عوامل أوليّة واستنتج أنّه حد من حدود المتتالية (u_n).
3) أ- احسب بدلالة n المجموع S_n حيث: $S_n = u_0 + u_1 + \cdots + u_{n-1}$.
ب- احسب بدلالة n المجموع S_n' حيث: $S_n' = v_0 + v_1 + \cdots + v_{n-1}$.

التمرين 15: (07 نقاط) بكالوريا 2015// الموضوع 01// الشعبة: آداب وفلسفة؛ لغات أ.

(u_n) المتتالية الهندسية التي حدّها الأوّل u_0 وأساسها q حيث: $u_0 = 2$ و $q = 3$.
1) احسب u_1 و u_2.
2) اكتب u_n بدلالة n؛ ثمّ استنتج u_5.
3) عيّن اتجاه تغيّر المتتالية (u_n).
4) أ) احسب بدلالة n المجموع S_n حيث: $S_n = u_0 + u_1 + u_2 + \cdots + u_{n-1}$.
ب) استنتج قيمة المجموع: $2 + 6 + 18 + \cdots + 486$.
5) أ) عيّن باقي القسمة الإقليدية على 5 لكل عدد من الأعداد 3، 3^2، 3^3 و 3^4.
ب) استنتج أ

التمرين 16: (06 نقاط) بكالوريا 2015// الموضوع 02// الشعبة: آداب وفلسفة؛ لغات أ.

(u_n) متتالية حسابية حدّها الأوّل u_1 وأساسها r حيث: $u_2 = \frac{1}{2}$ و $u_1 - u_3 = 5$.

1)أ) بيّن أنّ: $u_1 + u_3 = 1$.

ب) عيّن الحدّ الأوّل u_1؛ ثمّ استنتج أنّ $r = -\frac{5}{2}$.

2)اكتب u_n بدلالة n.

3)أ) احسب بدلالة n المجموع S_n حيث: $S_n = u_1 + u_2 + \cdots + u_n$.

ب) عيّن قيمة العدد الطبيعي n التي يكون من أجلها $S_n = -\frac{657}{2}$.

4) n عدد طبيعي غير معدوم، نضع: $T_n = u_1 + 2u_2 + 3u_3 + \cdots + nu_n$.

أ) تحقّق أنه لكل n من $\mathbb{N}^*$: $(n+2)(9-5n) = -5n^2 - n + 18$.

ب) باستعمال الاستدلال بالتراجع، أثبت أنّه لكل n من $\mathbb{N}^*$: $T_n = \frac{1}{6}n(n+1)(14-5n)$.

التمرين 17: (07 نقاط) بكالوريا 2016// الموضوع 01// الشعبة: آداب وفلسفة؛ لغات أ.

لتكن (u_n) متتالية عددية معرّفة من أجلّ عدد طبيعي n بـ: $u_n = 3n - 2$.

1)احسب u_0، u_1، u_2 و u_3.

2)بيّن أنّ المتتالية (u_n) حسابية وعيّن أساسها.

3)ادرس اتجاه تغيّر المتتالية (u_n).

4)بيّن أنّ العدد 1954 حدّ من حدود المتتالية (u_n) وعيّن رتبته.

5)أ) احسب بدلالة n المجموع: $S_n = u_0 + u_1 + u_2 + \cdots + u_n$.

ب) عيّن العدد n بحيث يكون: $S_n = 328$.

التمرين 18: (06 نقاط) بكالوريا 2016// الموضوع 02// الشعبة: آداب وفلسفة؛ لغات أ.

نعتبر المتتالية الحسابية (u_n) التي أساسها 3 وحدّها الأول u_0 وتُحقّق: $u_0 + u_1 + u_2 + u_3 = 10$.

1)احسب الحد الأوّل u_0.

2)اكتب الحد العام u_n بدلالة n.

3)عيّن العدد الطبيعي n بحيث: $u_n = 145$.

4)احسب المجموع S بحيث: $S = u_0 + u_1 + \cdots + u_{49}$.

5)نعتبر المتتالية (v_n) المعرّفة على $\mathbb{N}$ بالعبارة: $v_n = 2u_n + 3$.

احسب المجموع S' بحيث: $S' = v_0 + v_1 + \cdots + v_{49}$.

التمرين 19: (06 نقاط) بكالوريا 2017_د01// الموضوع 01// الشعبة: آداب وفلسفة؛ لغ

(u_n) المتتالية هندسية حدودها موجبة تماما، معرّفة على $\mathbb{N}$ حيث $u_1 = 20$ و $u_3 = 320$.

1)بيّن أنّ أساس المتتالية (u_n) هو 4 وحدّها الأول هو 5.

2)اكتب عبارة الحد العام للمتتالية (u_n) بدلالة n ثمّ استنتج قيمة حدّها السابع.

3)أ) احسب بدلالة العدد الطبيعي n المجموع S حيث $S = u_0 + u_1 + \cdots + u_n$.

ب) استنتج ق

التمرين 20: (06 نقاط) بكالوريا 2017_د01// الموضوع 02// الشعبة: آداب وفلسفة؛ لغ

(u_n) متتالية حسابية معرّفة على المجموعة $\mathbb{N}$ بحدّها الأوّل $u_0 = -5$ و $u_3 + u_7 = 50$.

1)عيّن الأساس r للمتتالية (u_n).

2)بيّن أنّ: من أجل كل عدد طبيعي n، $u_n = 6n - 5$.

3)اثبت أنّ العدد 2017 حد من حدود المتتالية (u_n)، ما هي رتبته؟

4)احسب بدلالة العدد الطبيعي n المجموع S حيث $S = u_0 + u_1 + \cdots + u_n$.

التمرين 21: (06 نقاط) بكالوريا 2017_د02// الموضوع 01// الشعبة: آداب وفلسفة؛ لغ

نعتبر المتتالية الحسابية (u_n) المعرّفة على $\mathbb{N}$ بحدها الأول u_0 وأساسها r.

1)احسب الحد u_4 علما أنّ: $u_3 + u_5 = 20$.

2)احسب الحد u_5 علما أنّ: $2u_4 - u_5 = 7$.

3)استنتج قيمة r واحسب u_0.

4)تحقّق أنّ: من أجل كل عدد طبيعي n، $u_n = 3n - 2$.

5)احسب بدلالة العدد الطبيعي n المجموع S_n: $S_n = u_0 + u_1 + \cdots + u_n$.

6)جِد العدد الطبيعي n حيث: $S_n = 33$.

التمرين 22: (06 نقاط) بكالوريا 2017_د02// الموضوع 02// الشعبة: آداب وفلسفة؛ لغ

في كل حالة من الحالات الأربع الآتية أُقتُرحت ثلاث إجابات، واحدة فقط منها صحيحة، يُطلب تحديدها مع التعليل.

1)الحد السّادس لمتتالية حسابية أساسها -3 وحدّها الأول 1 هو:

أ) -17 ب) -14 جـ) -11.

2)مجموع 100 حدٍ الأولى لمتتالية هندسية حدّها الأول هو 1 وأساسها 3 هو:

أ) $\frac{3^{101}-1}{2}$ ب) $\frac{1-3^{100}}{2}$ جـ) $\frac{3^{100}-1}{2}$.

3)نضع من أجل كل عدد حقيقي x: $a = 2x + 2$، $b = 6x - 3$، $c = 4x$.

الأعداد الحقيقية a، b، c بهذا الترتيب تُشكل حدودا متتابعة لمتتالية حسابية عندما يكون:

أ) $x = \frac{4}{3}$ ب) $x = 0$ جـ) $x = \frac{3}{4}$.

4)المتتالية العددية (u_n) المعرّفة بـ: $u_0 = 1$ ومن أجل كل عدد طبيعي n، $u_{n+1} = \frac{1}{2}u_n + 1$ هي متتالية:

أ) حسابية أساسها 1 ب) هندسية أساسها $\frac{1}{2}$ جـ) لا حسابية ولا هندسية.

التمرين 23: (06 نقاط) بكالوريا 2018// الموضوع 01// الشعبة: آداب وفلسفة؛ لغات أ.

عيّن الاقتراح الصحيح الوحيد من بين الاقتراحات الثلاثة في كل حالة من الحالات التالية، مع التبرير:

1)(u_n) متتالية عددية معرفة على $\mathbb{N}$ بـ: $u_n = n^2 - 1$

المتتالية (u_n): أ) متزايدة تماما ب) متناقصة تماما ج) ليست رتيبة.

2)(v_n) متتالية هندسية حدّها الأوّل $v_1 = 3$ وأساسها $q = 2$

عبارة الحد العام للمتتالية (v_n) هي:

$v_n = 2 \times {}^{n}$ $^{n-1}$ ^{n}

$6^2(3^n -$

3) الإحتمالات.

التمرين 24: (06 نقاط) بكالوريا 2018// الموضوع 02// الشعبة: آداب وفلسفة؛ لغات أ.

(u_n) متتالية هندسية حدودها موجبة تماما، حدّها الأول u_0 وأساسها q حيث:
$u_0 \times u_2 = 576$ و $u_0 + u_1 = 30$.

1) بيّن أنّ $u_1 = 24$، ثمّ استنتج قيمة u_0.
2) بيّن أنّ $q = 4$، ثمّ اكتب عبارة الحد العام u_n بدلالة n.
3) أثبت أنّه من أجل كل عدد طبيعي n: $u_{n+1} - u_n = 18 \times 4^n$، ثمّ استنتج اتجاه تغيّر المتتالية (u_n).
4) احسب 4^4، ثم تحقّق أنّ العدد 1536 حد من حدود المتتالية (u_n) وعيّن رتبته.
5) احسب بدلالة n المجموع: $S_n = u_1 + u_2 + \cdots + u_n$.

التمرين 25: (06 نقاط) بكالوريا 2019// الموضوع 01// الشعبة: آداب وفلسفة؛ لغات أ.

(u_n) متتالية عددية معرّفة على $\mathbb{N}^*$ بـ: $u_n = \frac{2}{5}n - 1$.

1) بيّن أنّ المتتالية (u_n) حسابية أساسها $\frac{2}{5}$ يُطلب حساب حدّها الأول u_1.
2) عيّن رتبة الحد الذي قيمته 575.
3) احسب قيمة المجموع S حيث: $S = u_1 + u_2 + \cdots + u_{1440}$.
4) (v_n) المتتالية المعرّفة على $\mathbb{N}^*$ كما يلي: $v_n = 4^{5u_n+6}$.
أ) بيّن أنّ المتتالية (v_n) هندسية يُطلب تعيين أساسها وحدّها الأول v_1.
ب) احسب بدلالة n المجموع: $S_n = v_1 + v_2 + \cdots + v_n$.

التمرين 06: (04 نقاط) بكالوريا 2019// الموضوع 02// الشعبة: آداب وفلسفة؛ لغات أ.

(u_n) المتتالية الحسابية التي حدّها الأول u_0 وأساسها r.

1) علماً أنّ: $u_0 + u_1 + u_2 = 6$، عيّن u_1.
2) علماً أنّ: $2u_0 - 3u_1 = -10$، عيّن الحد الأول u_0، ثم استنتج قيمة r أساس المتتالية (u_n).
3) اكتب عبارة الحد العام u_n بدلالة n.
4) أ) عيّن قيمة n حتى يكون $u_n = 2018$.
ب) أحسب الحد الخامس عشر للمتتالية (u_n).
5) أحسب بدلالة n المجموع S_n حيث: $S_n = u_0 + u_1 + u_2 + \cdots + u_n$.
6) عيّن العدد الطبيعي n حتى يكون: $S_n = 96$.

مجلة العبقري في الرياضيات (المتتاليات العددية -بكالوريات جزائرية)

الحلول// الشعبة: آداب وفلسفة؛ لغات أجنبية.

حل التمرين 01: (05 نقاط) بكالوريا 2008// الموضوع 01// الشعبة: آ وف؛ لغ أ.

لدينا: (u_n) متتالية معرّفة على $\mathbb{N}$ كما يلي: $u_n = 3n + 1$.

1/حساب u_0، u_1، u_2:

- $u_0 = 3(0) + 1 = 0 + 1 = 1$؛
- $u_1 = 3(1) + 1 = 3 + 1 = 4$؛
- $u_2 = 3(2) + 1 = 6 + 1 = 7$.

2/تبيان أنّ (u_n) حسابية يُطلب تعيين أساسها: (نُبين أن الفرق $u_{n+1} - u_n$ عدد ثابت)

لدينا: $u_n = 3n + 1$ ومنه: $u_{n+1} = 3(n + 1) + 1 = 3n + 3 + 1 = 3n + 4$

وعليه الفرق يكون كالتالي: $u_{n+1} - u_n = (3n + 4) - (3n + 1) = 3n + 4 - 3n - 1 = 3$

إذن: (u_n) **حسابية أساسها 3.**

تعيين اتجاه تغيّر (u_n):

بمأنّ: (u_n) **حسابية أساسها موجب تماما** $(3 > 0)$، فإنّها: **متزايدة تماما** على $\mathbb{N}$.

3/التحقّق أنّ العدد 2008 حدّ من حدود المتتالية (u_n):

نضع: $\boxed{u_n = 2008}$ نجد: $3n + 1 = 2008$

ومنه: $3n = 2008 - 1$ أي: $n = \frac{2007}{3} = 669 \in \mathbb{N}$ $(u_{669} = 2008)$

إذن: 2008 حد من حدود المتتالية (u_n)، **رتبته:** $669 + 1 = 670$ لأنّ الحد الأوّل هو u_0.

4/حساب المجموع $S = u_0 + u_1 + u_2 + \cdots + u_{669}$:

لدينا: $S = u_0 + u_1 + \cdots + u_{669} = (669 - 0 + 1)\left(\frac{u_0 + u_{669}}{2}\right) = 670\left(\frac{1+2008}{2}\right)$

ومنه: $S = 670\left(\frac{2009}{2}\right) = 670(1004{,}5) = 673015$.

حل التمرين 02: (06 نقاط) بكالوريا 2008// الموضوع 02// الشعبة: آ وف؛ لغ أ.

لدينا: (u_n) متتالية معرّفة بـ: $\begin{cases} u_1 = 7 \\ u_{n+1} = 2u_n + 1 \end{cases}$.

1)حساب u_2، u_3 و u_4:

- $u_2 = 2u_1 + 1 = 2(7) + 1 = 15$.
- $u_3 = 2u_2 + 1 = 2(15) + 1 = 31$.
- $u_4 = 2u_3 + 1 = 2(31) + 1 = 63$.

2)(v_n) متتالية معرّفة كما يأتي: $v_n = u_n + 1$.

أ-اثبات أنّ (v_n) متتالية هندسية يُطلب تعيين أساسها q وحدها الأول v_1:

ط01) نُبين أنّ الحاصل $\frac{v_{n+1}}{v_n}$ عدد ثابت.

v_{n+}

وعليه: $\boxed{\frac{v_{n+1}}{v_n}=\frac{2(u_n+1)}{u_n+1}=2}$.

إذن: (v_n) متتالية هندسية أساسها $q=2$ وحدّها الأول $v_1=u_1+1=7+1=8$.

ب-كتابة عبارة الحد العام v_n بدلالة n:

بمأنّ: (v_n) متتالية هندسية أساسها 2 وحدّها الأول $v_1=8$، فإنّ: $v_n=v_1\times q^{n-1}$

بالتعويض نجد: $\boxed{v_n=8\times 2^{n-1}}$.

استنتاج u_n بدلالة n:

لدينا: $v_n=u_n+1$ ومنه: $\boxed{u_n=v_n-1=8\times 2^{n-1}-1}$.

ج-$S_n=v_1+v_2+\cdots+v_n$، حساب S_n بدلالة n:

لدينا: $S_n=v_1+v_2+\cdots+v_n=v_1\left(\frac{1-q^{n-1+1}}{1-q}\right)=8\left(\frac{1-2^n}{1-2}\right)=\frac{8}{-1}(1-2^n)$

إذن: $\boxed{S_n=8(2^n-1)}$.

د-تعيين n علماً أنّ $S_n=1016$:

$S_n=1016$ معناه: $8(2^n-1)=1016$

ومنه: $2^n-1=\frac{1016}{8}$

أي: $2^n-1=127$

وعليه: $2^n=128=2^7$ (**لأنّ** $128=2^7$)

إذن: $\boxed{n=7}$ $(S_7=1016)$.

حل التمرين 03: (06 نقاط) بكالوريا 2009// الموضوع 01// الشعبة: آ وف؛ لغ أ.

لدينا: (u_n) متتالية **حسابية** معرّفة على $\mathbb{N}^*$ **بحدّها الأول** $u_1=2$ **وبالعلاقة** $u_2-2u_5=19$.

1)أ-حساب الأساس r للمتتالية (u_n): (نكتب كل من u_2 وu_5 بدلالة الحد الأول u_1 المُعطى)

حسب العلاقة $\boxed{u_n=u_1+(n-1)r}$، نجد: $\begin{cases}u_2=u_1+(2-1)r=2+r\\u_5=u_1+(5-1)r=2+4r\end{cases}$

العلاقة $u_2-2u_5=19$ تُصبح: $(2+r)-2(2+4r)=19$

ومنه: $2+r-4-8r=19$

وعليه: $-7r=21$ إذن: $\boxed{r=\frac{21}{-7}=-3}$.

ب-حساب الحد العاشر:

بمأنّ الحد الأوّل هو u_1، إذن الحد **العاشر** هو

$$u_{10}=u_1+(10-1)r=u_1+9r=2+9(-3)=2-27=-25$$

2)كتابة عبارة u_n بدلالة n:

لدينا: $\boxed{u_n=u_1+(n-1)r}$ ومنه: $u_n=2+(n-1)(-3)$ إذن: $\boxed{u_n=-3n+5}$.

3)تبيان أنّ العدد (-2008) هو حداً من حدود (u_n):

نضع: $\boxed{u_n=-2008}$ نجد: $-3n+5=-2008$

إذن: (-2008) حد من حدود المتتالية (u_n)، **رتبته:** 671 لأنّ الحد الأوّل هو u_1.

4)حساب المجموع، $S = u_1 + u_2 + \cdots + u_{671}$:

لدينا: $S = u_1 + u_2 + \cdots + u_{671} = (671 - 1 + 1)\left(\frac{u_1+u_{671}}{2}\right) = 671\left(\frac{2+(-2008)}{2}\right)$

ومنه: $S = 671\left(\frac{-2006}{2}\right) = 671(-1003) = -673013$.

حل التمرين 04: (07 نقاط) بكالوريا 2009// الموضوع 02// الشعبة: آ وف؛ لغ أ.

لدينا: (u_n) متتالية **هندسية** معرفة على $\mathbb{N}$ و**أساسها موجب** $(q > 0)$

1-تعيين أساس المتتالية (u_n) وحدّها الأول u_0 علماً أنّ، $u_3 = 144$ و$u_5 = 576$:

لدينا: $u_n = u_p \times q^{n-p}$ ومنه: $u_5 = u_3 \times q^{5-3}$

وعليه: $576 = 144 \times q^2$

ومنه: $q^2 = \frac{576}{144} = 4$

أي: $q = \sqrt{4} = 2 > 0$ **(مقبول)** أو $q = -\sqrt{4} = -2$ **(مرفوض)**

إذن: $\boxed{q = 2}$.

تعيين الحد الأول u_0:

لدينا: $u_n = u_0 \times q^n$ ومنه: $u_3 = u_0 \times q^3$ إذن: $\boxed{u_0 = \frac{u_3}{q^3} = \frac{144}{2^3} = \frac{144}{8} = 18}$.

أو: $u_5 = u_0 \times q^5$ نجد: $\boxed{u_0 = \frac{u_5}{q^5} = \frac{576}{2^5} = \frac{576}{32} = 18}$.

2-التحقق أنّه من أجل كل عدد طبيعي n، $u_n = 18 \times 2^n$:

لدينا: $u_n = u_0 \times q^n$ ومنه: $\boxed{u_n = 18 \times 2^n}$.

3-حساب بدلالة n المجموع، $S_n = u_0 + u_1 + \cdots + u_n$:

لدينا: $S_n = u_0 + u_1 + \cdots + u_n = u_0\left(\frac{1-q^{n-0+1}}{1-q}\right) = 18\left(\frac{1-2^{n+1}}{1-2}\right) = \frac{18}{-1}(1 - 2^{n+1})$

ومنه: $S_n = -18(1 - 2^{n+1}) = 18(2^{n+1} - 1)$.

استنتاج قيمة العدد الطبيعي n حيث، $S_n = 1134$:

$S_n = 1134$ معناه: $18(2^{n+1} - 1) = 1134$

ومنه: $2^{n+1} - 1 = \frac{1134}{18}$

أي: $2^{n+1} - 1 = 63$

ومنه: $2^{n+1} = 64 = 2^6$

وعليه: $n + 1 = 6$، إذن: $\boxed{n = 5}$ ($S_5 = 1134$).

حل التمرين 05: (05 نقاط) بكالوريا 2010// الموضوع 01// الشعبة: آ وف؛ لغ أ.

I)لدينا: (u_n) متتالية **حسابية** معرّفة على $\mathbb{N}$ بالحدين: $u_{10} = 31$ وَ $u_{15} = 46$.

1-تعيين أساس المتتالية (u_n):

لدينا: ( )

$\boxed{r = \frac{1}{5}}$

الطريقة 02: $r = \frac{u_n - u_p}{n-p} = \frac{u_{15}-u_{10}}{15-10} = \frac{46-31}{5} = \frac{15}{5} = 3$.

تعيين الحدّ الأول u_0:

لدينا: $\boxed{u_n = u_0 + nr}$ ومنه: $u_{10} = u_0 + 10r$

وعليه: $u_0 = u_{10} - 10r = 31 - 10(3) = 31 - 30 = 1$

أو $\boxed{u_n = u_0 + nr}$ ومنه: $u_{15} = u_0 + 15r$

وعليه: $u_0 = u_{15} - 15r = 46 - 15(3) = 46 - 45 = 1$

2-كتابة u_n بدلالة n: (عبارة الحد العام)

لدينا: $u_n = u_0 + nr$، إذن: $\boxed{u_n = 1 + 3n}$.

3-تبيان أنّ 6028 حدّ من حدود المتتالية (u_n):

نضع: $u_n = 6028$ نجد: $6028 = 1 + 3n$

ومنه: $6027 = 3n$ وبالتالي: $n = \frac{6027}{3} = 2009 \in \mathbb{N}$ $(u_{2009} = 6028)$

إذن: العدد 6028 حد من حدود المتتالية (u_n).

4-حساب المجموع S، $S = u_0 + u_1 + \cdots + u_{2009}$:

لدينا: $S = u_0 + u_1 + \cdots + u_{2009} = (2009 - 0 + 1)\left(\frac{u_0 + u_{2009}}{2}\right) = (2010)\left(\frac{1+6028}{2}\right)$

ومنه: $S = (2010)\left(\frac{6029}{2}\right) = (2010)(3014{,}5) = 6059145$.

II) لدينا: (v_n) متتالية معرّفة على $\mathbb{N}$ بـ: $v_n = 2 \times 8^n$.

1-تبيان أنّ (v_n) متتالية هندسية يُطلب تعيين أساسها وحدّها الأول v_0:

نُبين أنّ حاصل القسمة $\frac{v_{n+1}}{v_n}$ عدد ثابت:

لدينا: $v_n = 2 \times 8^n$ ومنه: $v_{n+1} = 2 \times 8^{n+1}$ وبالتالي: $\frac{v_{n+1}}{v_n} = \frac{2\times 8^{n+1}}{2\times 8^n} = \frac{8^{n+1}}{8^n} = \frac{8^n \times 8^1}{8^n} = 8$

إذن: (v_n) هندسية، أساسها $\boxed{q = 8}$ وحدّها الأوّل $v_0 = 2 \times 8^0 = 2 \times 1 = 2$.

2-حساب بدلالة n المجموع S'، $S' = v_0 + v_1 + \cdots + v_n$:

لدينا: $S' = v_0 + v_1 + \cdots + v_n = v_0\left(\frac{1-q^{n-0+1}}{1-q}\right) = 2\left(\frac{1-8^{n+1}}{1-8}\right) = \frac{2}{-7}(1 - 8^{n+1})$

ومنه: $S' = \frac{2}{7}(8^{n+1} - 1)$.

حل التمرين 06: (07 نقاط) بكالوريا 2010// الموضوع 02// الشعبة: آ وف؛ لغ أ.

لدينا: (u_n) متتالية **هندسية** معرفة على مجموعة الأعداد الطبيعية $\mathbb{N}$، **أساسها q وحدّها الأول u_0** حيث:

$u_1 = 6$ و $u_4 = 48$.

1.أ-حساب الأساس والحدّ الأوّل للمتتالية (u_n):

نعلم أنّ $u_n = u_p \times q^{n-p}$ ومنه: $u_4 = u_1 \times q^{4-1}$

ويكون: $48 = 6 \times q^3$

وعليه: $8 = q^3 = \frac{48}{6}$ (وبمأنّ $8 = 2^3$ فإنّ $q^3 = 2^3$) إذن: $\boxed{q = 2}$.

حساب الحد ا

أو: $u_n = u_0 \times q^n$ ومنه: $u_4 = u_0 \times q^4$ ويكون: $\boxed{u_0 = \frac{u_4}{q^4} = \frac{48}{16} = 3}$.

ب-استنتاج أنّ عبارة الحدّ العام لـ (u_n) هي، $u_n = 3 \times 2^n$:

لدينا: $u_n = u_0 \times q^n$، إذن: $\boxed{u_n = 3 \times 2^n}$.

2.أ-علماً أنّ $2^8 = 256$؛ تبيّن أنّ العدد 768 هو حدّ من حدود المتتالية (u_n):

نضع: $u_n = 768$ نجد: $3 \times 2^n = 768$

ومنه: $2^n = \frac{768}{3} = 256$

وعليه: $2^n = 2^8$ (لأنّ $2^8 = 256$)

وبالتالي: $\boxed{n = 8 \in \mathbb{N}}$ ($u_8 = 768$)، إذن: 768 حدّ من حدود المتتالية (u_n).

ب-حساب المجموع S حيث، $S = u_0 + u_1 + \cdots + u_7$:

لدينا: $S = u_0 + u_1 + \cdots + u_7 = u_0\left(\frac{1-q^{7-0+1}}{1-q}\right) = 3\left(\frac{1-2^8}{1-2}\right) = \frac{3}{-1}(1-256)$

ومنه: $S = -3(-255) = 765$.

3.لدينا: (v_n) متتالية معرفة بـ: $\begin{cases} v_0 = 4 \\ v_{n+1} = 2v_n - 1 \end{cases}$.

أ-حساب v_1، v_2 وv_3:

- $v_1 = 2v_0 - 1 = 2(4) - 1 = 7$.
- $v_2 = 2v_1 - 1 = 2(7) - 1 = 13$.
- $v_3 = 2v_2 - 1 = 2(13) - 1 = 25$.

ب-البرهان بالتراجع أنّه من أجل كل عدد طبيعي n، $v_n = 3 \times 2^n + 1$:

نسمي هذه الخاصية بـ $P(n)$.

المرحلة 01: (من أجل $n = 0$)، لدينا: $v_0 = 3 \times 2^0 + 1 = 3(1) + 1 = 4$ إذن: $P(0)$ صحيحة.

المرحلة 02:

- **نفرض** صحة الخاصية $P(n)$ أي: $\boxed{v_n = 3 \times 2^n + 1}$ **(فرضية التراجع)**
- **ونبرهن** صحة الخاصية $P(n+1)$ أي: $\boxed{v_{n+1} = 3 \times 2^{n+1} + 1}$

البرهان: لدينا:

$$v_{n+1} = 2v_n - 1 = 2(3 \times 2^n + 1) - 1 = 2^1 \times 3 \times 2^n + 2 - 1 = 3 \times 2^{n+1} + 1$$

إذن: $P(n+1)$ صحيحة.

الخلاصة: حسب **مبدأ الاستدلال بالتراجع** من أجل كل عدد طبيعي n، $\boxed{v_n = 3 \times 2^n + 1}$.

جـ-حساب المجموع S' حيث، $S' = v_0 + v_1 + \cdots + v_7$:

نلاحظ أنّ $\boxed{v_n = 3 \times 2^n + 1 = u_n + 1}$

ومنه: $S' = v_0 + v_1 + \cdots + v_7 = (u_0 + 1) + (u_1 + 1) + \cdots + (u_7 + 1)$

وعليه: $S' = (u_0 + u_1 + \cdots + u_7) + 8 = S + 8 = 765 + 8 = 773$.

حل التمرين 07: (06 نقاط) بكالوريا 2011// الموضوع 01// الشعبة: آ وف؛ لغ أ.

أ) لدينا:

لدينا: $u_n = u_0 \times q^n$ ومنه: $u_3 = u_0 \times q^3 = u_0 \times 3^3 = 27u_0$

العلاقة $u_0 + u_3 = 28$ تُصبح $u_0 + 27u_0 = 28$ ومنه: $28u_0 = 28$ إذن: $\boxed{u_0 = 1}$.

كتابة الحد العام u_n بدلالة n:

لدينا: $u_n = u_0 \times q^n$، إذن: $\boxed{u_n = 3^n}$.

2.حساب المجموع، $S_1 = u_0 + u_1 + \cdots + u_9$:

لدينا: $S_1 = u_0 + u_1 + \cdots + u_9 = u_0\left(\frac{1-q^{9-0+1}}{1-q}\right) = 1\left(\frac{1-3^{10}}{1-3}\right) = 1\left(\frac{1-3^{10}}{-2}\right)$

ومنه: $S_1 = \frac{1}{-2}(1-3^{10}) = \frac{1}{2}(3^{10}-1) = \frac{1}{2}(59048) = 29524$.

ب) لدينا: (v_n) متتالية عددية معرفة على $\mathbb{N}$ بحدّها العام، $v_n = 1 - 5n$.

1.تبيّان أنّ (v_n) متتالية حسابية يُطلب تعيين أساسها: (نُبين أنّ الفرق $v_{n+1} - v_n$ عدد ثابت)

لدينا: $v_n = 1 - 5n$ ومنه: $v_{n+1} = 1 - 5(n+1) = 1 - 5n - 5 = -4 - 5n$

وعليه: $v_{n+1} - v_n = (-4 - 5n) - (1 - 5n) = -4 - 5n - 1 + 5n = -5$

أي: $\boxed{v_{n+1} = v_n - 5}$

إذن: (v_n) متتالية **حسابية** أساسها $\boxed{r = -5}$.

استنتاج اتجاه تغيّرها:

بمأنّ (v_n) **حسابية** أساسها $(r = -5 < 0)$ **سالب تماما** فإنّها **متناقصة تماما** على $\mathbb{N}$.

2.حساب المجموع، $S_2 = v_0 + v_1 + \cdots + v_9$:

لدينا: $S_2 = v_0 + v_1 + \cdots + v_9 = (9 - 0 + 1)\left(\frac{v_0 + v_9}{2}\right) = 10\left(\frac{1-44}{2}\right) = \frac{10}{2}(1 - 44)$

ومنه: $S_2 = 5(-43) = -215$.

(ملاحظة: $v_9 = 1 - 5(9) = 1 - 45 = -44$)

ج) لدينا: المتتالية (k_n) المعرّفة على $\mathbb{N}$ بحدّها العام، $k_n = 1 + 3^n - 5n$.

-التحقّق أنّ، $k_n = u_n + v_n$:

لدينا: $\begin{cases} u_n = 3^n \\ v_n = 1 - 5n \end{cases}$، ومنه: $k_n = 1 + 3^n - 5n = 3^n + (1 - 5n) = u_n + v_n$

حساب المجموع، $S = k_0 + k_1 + \cdots + k_9$:

لدينا: $k_n = u_n + v_n$

ومنه: $S = k_0 + k_1 + \cdots + k_9 = (u_0 + v_0) + (u_1 + v_1) + \cdots + (u_9 + v_9)$

وعليه: $S = (u_0 + u_1 + \cdots + u_9) + (v_0 + v_1 + \cdots + v_9) = S_1 + S_2$

إذن: $S = 29524 - 215 = 29309$.

حل التمرين 08: (06 نقاط) بكالوريا 2011// الموضوع 02// الشعبة: آ وف؛ لغ أ.

لدينا: (u_n) و(v_n) متتاليتان عدديتان معرّفتان على $\mathbb{N}$ بحدّيهما العام، $u_n = -2n$ وَ $v_n = 3^{-2n}$.

(نلاحظ أنّ $v_n = 3^{u_n}$)

تعيين الاقتراح الصحيح مع التعليل:

1)لدينا: $-2n$ ومنه:

وعليه:

2) بمأنّ (u_n) معرّفة على $\mathbb{N}$، فحدّها **الأول** هو u_0، وبالتالي: حدها الخامس والأربعون هو:

$$\boxed{u_{44} = -2(44) = -88}.$$

3) حسب السؤال 1) لدينا: (u_n) متتالية **حسابية**،

إذن: $u_0 + u_1 + \cdots + u_n = (n - 0 + 1)\left(\frac{u_0+u_n}{2}\right) = (n+1)\left(\frac{0+(-2n)}{2}\right)$

ومنه: $u_0 + u_1 + \cdots + u_n = (n+1)\left(\frac{-2n}{2}\right) = (n+1)(-n) = -n^2 - n$

4) (v_n) متتالية **هندسية** أساسها: $\boxed{q = \frac{v_{n+1}}{v_n}}$،

لدينا: $v_n = 3^{-2n}$ ومنه: $v_{n+1} = 3^{-2(n+1)} = 3^{-2n-2} = 3^{-2n+(-2)} = 3^{-2n} \times 3^{-2}$

بالتعويض نجد: $q = \frac{v_{n+1}}{v_n} = \frac{3^{-2n}\times 3^{-2}}{3^{-2n}} = 3^{-2} = \frac{1}{3^2} = \frac{1}{9}$.

5) المتتالية (v_n) **متزايدة تماما، لأنّ:**

$$v_{n+1} - v_n = (3^{-2n} \times 3^{-2}) - (3^{-2n}) = 3^{-2n}(3^{-2} - 1) = 3^{-2n}\left(\frac{1}{9} - 1\right) = \frac{-8}{9} \times 3^{-2n} < 0$$

حل التمرين 09: (06 نقاط) بكالوريا 2012// الموضوع 01// الشعبة: آ وف؛ لغ أ.

لدينا: a، b، c **ثلاثة حدود متتابعة** لمتتالية **حسابية متزايدة** أساسها r حيث: $a + b + c = 9$.

1.أ) حساب b:

حسب خاصية **الوسط الحسابي** لدينا: $a + c = 2b$.

$a + b + c = 9$ تُصبح $2b + b = 9$ ومنه: $3b = 9$ إذن: $\boxed{b = 3}$.

توضيح $a \xrightarrow{+r} b \xrightarrow{+r} c$

كتابة a و c بدلالة r:

لدينا: $\begin{cases} b = a + r \\ c = b + r \end{cases}$ وبالتالي: $\begin{cases} a = b - r \\ c = b + r \end{cases}$، إذن: $\boxed{\begin{cases} a = 3 - r \\ c = 3 + r \end{cases}}$.

ب) علماً أنّ: $a \times c = -16$ **-تعيّين الأساس r:**

لدينا مما سبق: $a = 3 - r$ وَ $c = 3 + r$.

$a \times c = -16$ تُكافئ: $(3 - r) \times (3 + r) = -16$

ومنه: $3^2 - r^2 = -16$

وعليه: $-r^2 = -25$

ويكون: $r^2 = 25$

وبالتالي: $r = \sqrt{25} = 5$ أو $r = -\sqrt{25} = -5$ (مرفوض)

إذن: $\boxed{r = 5}$ (لأنّ المتتالية **حسابية متزايدة**)

استنتاج a و c:

لدينا: $\begin{cases} a = 3 - r \\ c = 3 + r \end{cases}$ و $r = 5$ إذن: $\boxed{\begin{cases} a = -2 \\ c = 8 \end{cases}}$.

2. (u_n) متتالية حسابية حدها الأول $u_0 = -2$ وأساسها 5.

نلاحظ أنّ $\begin{cases} u_0 = -2 = a \\ \end{cases}$ إذن: $\begin{cases} u_1 = b = 3 \\ \end{cases}$

أ) التعبّير عن

ب) حساب u_{15}:

لدينا: $u_{15} = -2 + 5(15) = -2 + 75 = 73$.

استنتاج المجموع، $S = u_0 + u_1 + \cdots + u_{15}$:

لدينا: $S = u_0 + u_1 + \cdots + u_{15} = (15 - 0 + 1)\left(\frac{u_0 + u_{15}}{2}\right) = 16\left(\frac{-2+73}{2}\right)$

ومنه: $S = 16(35{,}5) = 568$.

3.لدينا: (v_n) متتالية عددية معرفة على $\mathbb{N}$ بالعلاقة: $8v_n - u_n = 0$.

حساب المجموع، $S' = v_0 + v_1 + \cdots + v_{15}$:

لدينا: $8v_n - u_n = 0$ ومنه: $v_n = \frac{1}{8}u_n$

وبالتالي: $S' = v_0 + v_1 + \cdots + v_{15} = \frac{1}{8}u_0 + \frac{1}{8}u_1 + \cdots + \frac{1}{8}u_{15}$

ومنه: $S' = \frac{1}{8}(u_0 + u_1 + \cdots + u_{15}) = \frac{1}{8}S = \frac{1}{8}(568) = 71$.

حل التمرين 10: (06 نقاط) بكالوريا 2012// الموضوع 02// الشعبة: آ وف؛ لغ أ.

لدينا: (u_n) متتالية **حسابية متزايدة**، أساسها r، **حدّها الأول** u_1 و $u_3 = 7$.

1.أ) حساب بدلالة r الجدائين $T_1 = u_1 \times u_5$ و $T_2 = u_2 \times u_4$:

لدينا: $u_n = u_p + (n-p)r$

ومنه: $u_n = u_3 + (n-3)r$ وعليه:
$$\begin{cases} u_1 = u_3 + (1-3)r = 7 - 2r \\ u_2 = u_3 + (2-3)r = 7 - r \\ u_4 = u_3 + (4-3)r = 7 + r \\ u_5 = u_3 + (5-3)r = 7 + 2r \end{cases}$$

وبالتالي: $T_1 = u_1 \times u_5 = (7-2r)(7+2r) = 7^2 - (2r)^2 = 49 - 4r^2$

وَ $T_2 = u_2 \times u_4 = (7-r)(7+r) = 7^2 - (r)^2 = 49 - r^2$

ب) تعيّين الأساس r بحيث، $T_2 - T_1 = 27$:

لدينا: $T_2 - T_1 = 27$ تُكافئ: $(49 - r^2) - (49 - 4r^2) = 27$

ومنه: $49 - r^2 - 49 + 4r^2 = 27$

وعليه: $r^2 = \frac{27}{3}$

أي: $r^2 = 9$

وبالتالي: $r = \sqrt{9} = 3$ **أو** $r = -\sqrt{9} = -3$

وبمأنّ (u_n) **حسابية متزايدة (أساسها موجب)**، فإنّ: $\boxed{r = 3}$.

2.بوضع $r = 3$.

أ) كتابة عبارة الحدّ العام u_n بدلالة n:

لدينا: (u_n) متتالية **حسابية**، أساسها $r = 3$، **حدّها الأول** $u_1 = 7 - 2(3) = 1$

فإنّ: $u_n = u_1 + (n-1)r$، بالتعويض نجد: $u_n = 1 + (n-1)(3)$ إذن: $\boxed{u_n = 3n - 2}$.

ب) $S_n = u_1 + u_2 + \cdots + u_n$ **(n عدد طبيعي غير معدوم)**

تبيّان أنّ، $\frac{n^2 - n}{2}$ **:**

S

ومنه: $S_n = \frac{n(3n-1)}{2} = \frac{3n^2-n}{2}$.

ج) ايجاد العدد الطبيعي n بحيث، $S_n = 145$:

$S_n = 145$ معناه: $\frac{3n^2-n}{2} = 145$

ومنه: $3n^2 - n - 290 = 0$

مميزها: $\Delta = (-1)^2 - 4(3)(-290) = 1 + 3480 = 3481 > 0$

للمعادلة حلين متمايزين هما:

$$n' = \frac{-b+\sqrt{\Delta}}{2a} = \frac{-(-1)+\sqrt{3481}}{2(3)} = \frac{1+59}{6} = \frac{60}{6} = 10 \in \mathbb{N}$$

$$n'' = \frac{-b-\sqrt{\Delta}}{2a} = \frac{-(-1)-\sqrt{3481}}{2(3)} = \frac{1-59}{6} = \frac{-29}{3} \notin \mathbb{N}$$ و

إذن: $\boxed{n = 10}$ ($S_{10} = 145$).

3.أ) كتابة الحدّ u_{n+5} بدلالة n:

لدينا: $u_n = 3n - 2$

ومنه: $u_{n+5} = 3(n+5) - 2 = 3n + 15 - 2 = 3n + 13$، إذن: $\boxed{u_{n+5} = 3n + 13}$.

ب) التحقّق أنّه من أجل كل عدد طبيعي n غير معدوم، $\frac{u_{n+5}}{n} = 3 + \frac{13}{n}$:

لدينا: $\frac{u_{n+1}}{n} = \frac{3n+13}{n} = \frac{3n}{n} + \frac{13}{n} = 3 + \frac{13}{n}$

ج) استنتاج الأعداد الطبيعية n التي يكون من أجلها العدد $\frac{u_{n+5}}{n}$ طبيعيا:

$\frac{u_{n+1}}{n} \in \mathbb{N}$ معناه: $3 + \frac{13}{n} \in \mathbb{N}$

ومنه: $\frac{13}{n} \in \mathbb{N}$

وعليه: $n \in D_{13}$ أي: $n \in \{1; 13\}$ (قيم n هي قواسم العدد 13)

إذن: $\boxed{n = 1}$ **أو** $\boxed{n = 13}$.

حل التمرين 11: (06 نقاط) بكالوريا 2013// الموضوع 01// الشعبة: آ وف؛ لغ أ.

لدينا: (v_n) متتالية **هندسية** حدّها الأول $v_0 = 2$ وأساسها 3.

1-أ) التعبير عن v_n بدلالة n:

لدينا: $v_n = v_0 \times q^n$، إذن: $\boxed{v_n = 2 \times 3^n}$.

ب) حساب بدلالة n الفرق $v_{n+1} - v_n$:

لدينا: $v_n = 2 \times 3^n$ ومنه: $v_{n+1} = 2 \times 3^{n+1} = 2 \times 3^n \times 3^1$

وعليه: $v_{n+1} - v_n = (6 \times 3^n) - (2 \times 3^n) = 4 \times 3^n$

إذن: $\boxed{v_{n+1} - v_n = 4 \times 3^n}$.

استنتاج اتجاه تغيّر المتتالية (v_n):

بمأنّ: $v_{n+1} - v_n = 4 \times 3^n > 0$، فإنّ: (v_n) **متزايدة تماماً** على $\mathbb{N}$.

2- $v_{n-1} +$ ، عدد طبيعي غير معدوم.

أ) حساب بدلا

ومنه: $S_n = -(1-3^n) = 3^n - 1$

ب) تعيّين قيمة العدد الطبيعي n بحيث، $S_n = 80$:

$S_n = 80$ معناه: $3^n - 1 = 80$

ومنه: $3^n = 81$ (لدينا: $81 = 3^4$)

أي: $3^n = 3^4$، إذن: $\boxed{n = 4}$ ($S_4 = 80$)

ج) اثبات بالتراجع أنّه، من أجل كل عدد طبيعي n، العدد $3^n - 1$ يقبل القسمة على 2:

نسمي هذه الخاصية بـ$P(n)$.

المرحلة 01: من أجل $n = 0$، لدينا: $3^0 - 1 = 1 - 1 = 0$ و0 يقبل القسمة على 2، إذن: $P(0)$ صحيحة.

المرحلة 02:

- **نفرض** صحة الخاصية $P(n)$ أي: $3^n - 1$ يقبل القسمة على 2 $(3^n - 1 = 2k)$ **(فرضية التراجع)**
- **ونبرهن** صحة الخاصية $P(n+1)$ أي: $3^{n+1} - 1$ يقبل القسمة على 2 $(3^{n+1} - 1 = 2k')$.

البرهان:

لدينا: $3^{n+1} - 1 = 3^n \times 3^1 - 1 = (2k+1) \times 3 - 1 = 6k + 3 - 1 = 6k + 2$

ومنه: $3^{n+1} - 1 = 2(3k+1) = 2k'$ **(حيث** $k' = 3k + 1$)

بالتالي: $P(n+1)$ صحيحة.

إذن: **حسب مبدأ الاستدلال بالتراجع** من أجل كل عدد طبيعي n، العدد $3^n - 1$ يقبل القسمة على 2.

حل التمرين 12: (06 نقاط) بكالوريا 2013// الموضوع 02// الشعبة: آ وف؛ لغ أ.

لدينا: (u_n) متتالية **حسابية** حدّها الأول u_0 وأساسها 5 بحيث، $u_0 + u_1 + u_2 + u_3 = 34$.

1-حساب u_0:

نكتب الحدود u_1، u_2 وu_3 بدلالة الحد الأول u_0

لدينا: $u_n = u_0 + nr$ ومنه: $\begin{cases} u_1 = u_0 + r = u_0 + 5 \\ u_2 = u_0 + 2r = u_0 + 10 \\ u_3 = u_0 + 3r = u_0 + 15 \end{cases}$

تُصبح: $u_0 + u_1 + u_2 + u_3 = 34$ $u_0 + (u_0 + 5) + (u_0 + 10) + (u_0 + 15) = 34$

ومنه: $4u_0 = 34 - 30$

ويكون: $4u_0 = 4$

إذن: $\boxed{u_0 = 1}$.

2-تبيّان أنّه، من أجل كل عدد طبيعي n، $u_n = 5n + 1$:

لدينا: $u_n = u_0 + nr$، إذن: $\boxed{u_n = 1 + 5n}$.

3-تعيّين العدد الطبيعي n بحيث، $u_{n+1} + u_n - 8n = 4033$:

- لدينا: $u_n = 5n + 1$ ومنه: $u_{n+1} = 5(n+1) + 1 = 5n + 6$
- لدينا: $u_{n+1} + u_n - 8n = 4033$ معناه: $(5n + 6) + (5n + 1) - 8n = 4033$

ومنه: $7 + 2n = 4033$

وعليه: $2n = 4026$ إذن: $\boxed{n = 2013}$.

4-حساب المجموع،

لدينا:

$S =$ **:**

وعليه: $S = 1007(10067) = 10137469$.

5-لدينا: المتتالية العددية (v_n) معرّفة على $\mathbb{N}$ بالعبارة، $v_n = 2u_n + 1$.

أ) دراسة اتجاه تغيّر المتتالية(v_n): (ندرس إشارة الفرق $v_{n+1} - v_n$)

لدينا: $v_n = 2u_n + 1$، ولدينا: $u_{n+1} = u_n + 5$ لأنّ (u_n) حسابية أساسها 5.

نجد: $v_{n+1} = 2u_{n+1} + 1 = 2(u_n + 5) + 1 = 2u_n + 11$

ومنه: $v_{n+1} - v_n = (2u_n + 11) - (2u_n + 1) = 10 > 0$

إذن: (v_n) **متزايدة تماما**.

ب) حساب المجموع، $S' = v_0 + v_1 + v_2 + \cdots + v_{2013}$:

لدينا: $S' = v_0 + v_1 + \cdots + v_{2013} = (2u_0 + 1) + (2u_1 + 1) + \cdots + (2u_{2013} + 1)$

ومنه: $S' = 2(u_0 + u_1 + \cdots + u_{2013}) + 1(2013 - 0 + 1) = 2S + 2014$

إذن: $\boxed{S' = 20276951}$.

حل التمرين 13: (06 نقاط) بكالوريا 2014// الموضوع 01// الشعبة: آ وف؛ لغ أ.

تعيين الاقتراح الصّحيح، مع التّعليل:

1) (u_n) متتالية **حسابية** أساسها 3 وحدّها $u_2 = 1$.

الحد العام للمتتالية (u_n) هو:

الطريقة 01: $u_n = u_2 + (n-2)r = 1 + (n-2)(3) = 1 + 3n - 6 = -5 + 3n$

إذن: الاقتراح الصحيح هو الاقتراح جـ) $u_n = -5 + 3n$.

الطريقة 02:

- في حالة: $u_n = 1 + 3n$، نجد: $u_2 = 1 + 3(2) = 7 \neq 1$.
- في حالة: $u_n = 7 + 3n$، نجد: $u_2 = 7 + 3(2) = 13 \neq 1$.
- في حالة: $u_n = -5 + 3n$، نجد: $u_2 = -5 + 3(2) = 1$.

إذن: الاقتراح الصحيح هو الاقتراح جـ) $u_n = -5 + 3n$.

2) n عدد طبيعي،

المجموع $1 + 2 + 3 + \cdots + n$ هو عبارة عن مجموع n حد من متتالية حسابية حدّها الأول يساوي 1 وأساسها 1 لتكن هذه المتتالية (u_n) نضع: $u_1 = 1$ نجد: $u_n = n$

ومنه: $1 + 2 + 3 + \cdots + n = u_1 + u_2 + u_3 + \cdots + u_n = (n - 1 + 1)\left(\frac{u_1 + u_n}{2}\right)$

وعليه: $1 + 2 + 3 + \cdots + n = n\left(\frac{1+n}{2}\right) = \frac{n(n+1)}{2} = \frac{n^2+n}{2}$

إذن: الاقتراح الصحيح هو الاقتراح أ) $\frac{n^2+n}{2}$.

3) x عدد حقيقي.

الأعداد $x - 2$، x، $x + 1$ بهذا الترتيب **حدودا متعاقبة** لمتتالية **هندسية**، معناه: $(x - 2) \times (x + 1) = x^2$

ومنه: $x^2 + x - 2x - 2 = x^2$

وعليه: $-x - 2 = 0$

وبالتالي: $\boxed{x = -2}$

إذن: الاقتراح

الطريقة 01: $q=\frac{v_{n+1}}{v_n}=\frac{2\times3^{(n+1)+1}}{2\times3^{n+1}}=\frac{2\times3^{n+1}\times3^1}{2\times3^{n+1}}=3$

إذن: الاقتراح الصحيح هو الاقتراح ب) 3.

الطريقة 02: لدينا: $v_n=2\times3^{n+1}$، ومنه: $v_{n+1}=2\times3^{(n+1)+1}=2\times3^{(n+1)}\times3^1=v_n\times3$

أي: $\boxed{v_{n+1}=3v_n}$

إذن: الاقتراح الصحيح هو الاقتراح ب) 3.

حل التمرين 14: (06 نقاط) بكالوريا 2014// الموضوع 02// الشعبة: آ وف؛ لغ أ.

لدينا: (v_n) المتتالية العددية المعرّفة بما يلي، $\begin{cases}v_0=1\\v_{n+1}=5v_n+4\end{cases}$.

1)حساب v_1، v_2 وv_3:

- $v_1=5v_0+4=5(1)+4=5+4=9$.
- $v_2=5v_1+4=5(9)+4=45+4=49$.
- $v_3=5v_2+4=5(49)+4=245+4=249$.

2)لدينا: $u_n=v_n+1$.

أ-تبيّان أنّ (u_n) متتالية هندسية أساسها $q=5$ وحدّها الأول $u_0=2$:

ط01) نُبين أنّ الحاصل $\frac{u_{n+1}}{u_n}$ عدد ثابت.

لدينا: $u_n=v_n+1$ ومنه: $u_{n+1}=v_{n+1}+1=(5v_n+4)+1=5v_n+5=5(v_n+1)$

وعليه: $\boxed{\frac{u_{n+1}}{u_n}=\frac{5(v_n+1)}{v_n+1}=5}$.

إذن: (v_n) متتالية هندسية أساسها $q=5$ وحدّها الأول $u_0=v_0+1=1+1=2$.

ب-كتابة u_n بدلالة n:

(u_n) **هندسية** أساسها 5 وحدّها الأول $u_0=2$، **عبارة الحد العام** هي: $u_n=u_0\times q^n$،

بالتعويض نجد: $\boxed{u_n=2\times5^n}$.

استنتاج v_n بدلالة n:

لدينا: $u_n=v_n+1$ **و** $u_n=2\times5^n$ إذن: $\boxed{v_n=u_n-1=2\times5^n-1}$.

جـ-تحلّيل العدد 1250 إلى جداء عوامل أوليّة:

1250	2
625	5
125	5
25	5
5	5
1	

إذن: $\boxed{1250=2\times5^4}$.

استنتاج أنّ 1250 حد من حدود المتتالية (u_n):

نضع: $u_n=1250$ نجد: $2\times5^n=2\times5^4$

أي: $\boxed{n=4\in\mathbb{N}}$ $(u_4=1250)$

إذن: 1250 حـ

لدينا: $S_n = u_0 + u_1 + \cdots + u_{n-1} = u_0\left(\frac{1-q^{(n-1)-0+1}}{1-q}\right) = 2\left(\frac{1-5^n}{1-5}\right) = \frac{2}{-4}(1-5^n)$

إذن: $\boxed{S_n = \frac{1}{2}(5^n - 1)}$.

ب-حساب بدلالة n المجموع S_n'، $S_n' = v_0 + v_1 + \cdots + v_{n-1}$:

لدينا: $u_n = v_n + 1$ ومنه: $v_n = u_n - 1$

وعليه: $S_n' = v_0 + v_1 + \cdots + v_{n-1} = (u_0 - 1) + (u_1 - 1) + \cdots + (u_{n-1} - 1)$

ويكون: $S_n' = (u_0 + u_1 + \cdots + u_{n-1}) - 1[(n-1) - 0 + 1] = S_n - n$

إذن: $\boxed{S_n' = \frac{1}{2}(5^n - 1) - n = \frac{1}{2}(5^n - 1) - n}$.

حل التمرين 15: (07 نقاط) بكالوريا 2015// الموضوع 01// الشعبة: آ وف؛ لغ أ.

لدينا: (u_n) متتالية **هندسية** حدّها الأوّل u_0 وأساسها q حيث، $u_0 = 2$ وَ $q = 3$.

1)حساب u_1 وu_2:

بمأنّ (u_n) متتالية **هندسية** فإنّ: $\boxed{u_{n+1} = u_n \times q}$

وبالتالي: $u_1 = u_0 \times q = 2 \times 3 = 6$ وَ $u_2 = u_1 \times q = 6 \times 3 = 18$.

2)كتابة u_n بدلالة n:

لدينا: $u_n = u_0 \times q^n$ ومنه: $\boxed{u_n = 2 \times 3^n}$.

استنتاج u_5: $u_5 = 2 \times 3^5 = 2 \times 243 = 486$.

3)تعيين اتجاه تغيّر المتتالية (u_n): (ندرس إشارة الفرق $u_{n+1} - u_n$)

لدينا: $u_n = 2 \times 3^n$ ومنه: $u_{n+1} = 2 \times 3^{n+1} = 2 \times 3^n \times 3^1$

وعليه: $u_{n+1} - u_n = (6 \times 3^n) - (2 \times 3^n) = 4 \times 3^n > 0$

إذن: (u_n) **متزايدة تماما**.

4)أ) حسب بدلالة n المجموع S_n حيث، $S_n = u_0 + u_1 + u_2 + \cdots + u_{n-1}$:

لدينا: $S_n = u_0 + u_1 + u_2 + \cdots + u_{n-1} = u_0\left(\frac{1-q^{(n-1)-0+1}}{1-q}\right) = 2\left(\frac{1-3^n}{1-3}\right)$

ومنه: $S_n = \frac{2}{-2}(1-3^n) = -(1-3^n) = 3^n - 1$.

ب) استنتج قيمة المجموع، $2 + 6 + 18 + \cdots + 486$:

لدينا: $2 + 6 + 18 + \cdots + 486 = u_0 + u_1 + u_2 + \cdots + u_5 = 3^6 - 1 = 728$

5)أ) تعيين باقي القسمة الإقليدية على 5 لكل عدد من الأعداد 3، 3^2، 3^3 و3^4:

لدينا: $\boxed{3 \equiv 3[5]}$، إذن: باقي قسمة 3 على 5 هـو 3.

$\boxed{3^2 \equiv 4[5]}$، إذن: باقي قسمة 3^2 على 5 هو 4.

$\boxed{3^3 \equiv 2[5]}$، إذن: باقي قسمة 3^3 على 5 هو 2.

$\boxed{3^4 \equiv 1[5]}$، إذن: باقي قسمة 3^4 على 5 هو 1.

ب) استنتاج أنّه لكل k من $\mathbb{N}$؛ $3^{4k} \equiv 1[5]$:

لدينا:

$3^n - 1$ **قابلا للقسمة على** 5 معناه: $3^n - 1 \equiv 0[5]$

ومنه: $3^n \equiv 1[5]$

وَحسب نتيجة السؤال 5)ب)، فإنّ: $\boxed{n = 4k}$ (حيث $k \in \mathbb{N}$).

حل التمرين 16: (06 نقاط) بكالوريا 2015// الموضوع 02// الشعبة: آ وف؛ لغ أ.

لدينا: (u_n) متتالية **حسابية** حدّها **الأوّل** u_1 **وأساسها** r حيث، $u_2 = \frac{1}{2}$ **و** $u_1 - u_3 = 5$.

1)أ) تبيان أنّ، $u_1 + u_3 = 1$:

حسب خاصية الوسط الحسابي، $u_1 + u_3 = 2u_2 = 2\left(\frac{1}{2}\right) = 1$.

ب) تعيين الحدّ الأوّل u_1؛ ثمّ استنتاج أنّ $r = -\frac{5}{2}$:

لدينا: $\begin{cases} u_1 - u_3 = 5 \\ u_1 + u_3 = 1 \end{cases}$، بالجمع طرفاً لطرف نجد: $(u_1 - u_3) + (u_1 + u_3) = 5 + 1$

ومنه: $2u_1 = 6$ وعليه: $\boxed{u_1 = \frac{6}{2} = 3}$

استنتاج أنّ $r = -\frac{5}{2}$: لدينا: $r = u_2 - u_1 = \frac{1}{2} - 3 = \frac{1-6}{2} = -\frac{5}{2}$.

2)كتابة u_n بدلالة n:

لدينا: $u_n = u_p + (n-p)r$ ومنه: $u_n = u_1 + (n-1)r$

بالتعويض نجد: $u_n = 3 + (n-1)\left(-\frac{5}{2}\right)$

وبالتالي: $u_n = -\frac{5}{2}n + 3 + \frac{5}{2}$ إذن: $\boxed{u_n = -\frac{5}{2}n + \frac{11}{2}}$.

3)أ) حساب بدلالة n المجموع S_n حيث، $S_n = u_1 + u_2 + \cdots + u_n$:

لدينا: $S_n = u_1 + u_2 + \cdots + u_n = (n - 1 + 1)\left(\frac{u_1 + u_n}{2}\right) = (n)\left(\frac{3 + \left(-\frac{5}{2}n + \frac{11}{2}\right)}{2}\right)$

ومنه: $S_n = \frac{n}{2}\left(3 - \frac{5}{2}n + \frac{11}{2}\right) = \frac{n}{2}\left(-\frac{5}{2}n + \frac{17}{2}\right) = \frac{-5n^2 + 17n}{4}$.

ب) عيّن قيمة العدد الطبيعي n التي يكون من أجلها $S_n = -\frac{657}{2}$:

$S_n = -\frac{657}{2}$ معناه: $\frac{-5n^2 + 17n}{4} = -\frac{657}{2}$

ومنه: $2(-5n^2 + 17n) = 4(-657)$

وعليه: $-10n^2 + 34n + 2628 = 0$

مميزها: $\Delta = (34)^2 - 4(-10)(2628) = 1156 + 105120 = 106276 > 0$

للمعادلة حلين متمايزين هما:

$n' = \frac{-b + \sqrt{\Delta}}{2a} = \frac{-34 + \sqrt{106276}}{2(-10)} = \frac{-34 + 326}{-20} = \frac{292}{-20} = \frac{-146}{10} \notin \mathbb{N}$

$n'' = \frac{-b - \sqrt{\Delta}}{2a} = \frac{-34 - \sqrt{106276}}{2(-10)} = \frac{-34 - 326}{-20} = \frac{-360}{-20} = 18 \in \mathbb{N}$ وَ

إذن: $\boxed{= 18}$ ($\frac{657}{}$).

لدينا: $(n+2)(9-5n) = 9n - 5n^2 + 18 - 10n = -5n^2 - n + 18$

ب) باستعمال الاستدلال بالتراجع، إثبات أنّه لكل n من $\mathbb{N}^*$، $T_n = \frac{1}{6}n(n+1)(14-5n)$:

نسمي هذه الخاصية بـ$P(n)$.

المرحلة 01: من أجل $n = 1$،

الطرف الأول: $T_1 = 1u_1 = u_1 = 3$

الطرف الثاني: $\frac{1}{6}(1)((1)+1)(14-5(1)) = \frac{2(9)}{6} = 3$، إذن: $P(1)$ **صحيحة**.

المرحلة 02:

- **نفرض** صحة الخاصية $P(n)$ أي: $T_n = \frac{1}{6}n(n+1)(14-5n)$ (**فرضية التراجع**)
- **ونبرهن** صحة الخاصية $P(n+1)$ أي: $T_{n+1} = \frac{1}{6}(n+1)(n+2)(9-5n)$

البرهان: لدينا:

$$\begin{aligned} T_{n+1} &= u_1 + 2u_2 + 3u_3 + \cdots + (n+1)u_{n+1} \\ &= \underbrace{u_1 + 2u_2 + 3u_3 + \cdots + nu_n}_{T_n} + (n+1)u_{n+1} \\ &= T_n + (n+1)u_{n+1} \\ &= \frac{1}{6}n(n+1)(14-5n) + (n+1)u_{n+1} \\ &= \frac{1}{6}n(n+1)(14-5n) + (n+1)\left(-\frac{5}{2}n+3\right) \\ &= \frac{1}{6}(n+1)[n(14-5n) + (-15n+18] \\ &= \frac{1}{6}(n+1)(-5n^2 - n + 18) \end{aligned}$$

حسب السؤال أ) نجد: $T_{n+1} = \frac{1}{6}(n+1)(n+2)(9-5n)$

إذن: $P(n+1)$ صحيحة.

الخلاصة: **حسب مبدأ الاستدلال بالتراجع** لكل n من $\mathbb{N}^*$، $T_n = \frac{1}{6}n(n+1)(14-5n)$.

حل التمرين 17: (07 نقاط) بكالوريا 2016// الموضوع 01// الشعبة: آ وف؛ لغ أ.

لدينا: (u_n) متتالية عددية معرّفة من أجلّ عدد طبيعي n بـ: $u_n = 3n - 2$.

1)حساب u_0، u_1، u_2 وu_3:

- $u_0 = 3(0) - 2 = 0 - 2 = -2$
- $u_1 = 3(1) - 2 = 3 - 2 = 1$
- $u_2 = 3(2) - 2 = 6 - 2 = 4$
- $u_3 = 3(3) - 2 = 9 - 2 = 7$

2)تبيان أنّ المتتالية (u_n) حسابية وتعيين أساسها: (نُبين أنّ الفرق $u_{n+1} - u_n$ عدد ثابت)

لدينا: $u_n = 3n - 2$ ومنه: $u_{n+1} = 3(n+1) - 2 = 3n + 3 - 2 = 3n + 1$

وعليه: $u_{n+1} - u_n = (3n+1) - (3n-2) = 3n + 1 - 3n + 2 = 3$

إذن: (u_n) **حسابية، أساسها** $r = 3$.

3)دراسة اتجا

نضع: $u_n = 1954$ نجد: $3n - 2 = 1954$

ومنه: $3n = 1956$

وعليه: $n = \frac{1956}{3} = 652 \in \mathbb{N}$ $(u_{652} = 1954)$

إذن: 1954 حدّ من حدود المتتالية (u_n)، **رتبته:** 653 (**لأنّ** الحد الأوّل هو u_0)

5)أ) حساب بدلالة n المجموع، $S_n = u_0 + u_1 + u_2 + \cdots + u_n$:

لدينا: $S_n = u_0 + u_1 + u_2 + \cdots + u_n = (n - 0 + 1)\left(\frac{u_0 + u_n}{2}\right) = (n + 1)\left(\frac{-2 + (3n-2)}{2}\right)$

ومنه: $S_n = (n + 1)\left(\frac{3n-4}{2}\right) = \frac{(n+1)(3n-4)}{2} = \frac{3n^2 - n - 4}{2}$.

ب) تعيين العدد n بحيث يكون، $S_n = 328$:

$S_n = 328$ معناه: $\frac{3n^2 - n - 4}{2} = 328$

ومنه: $3n^2 - n - 4 = 2(328)$

وعليه: $3n^2 - n - 660 = 0$

مميزها: $\Delta = (-1)^2 - 4(3)(-660) = 1 + 7920 = 7921 > 0$

للمعادلة حلين متمايزين هما:

$$n' = \frac{-b + \sqrt{\Delta}}{2a} = \frac{-(-1) + \sqrt{7921}}{2(3)} = \frac{1 + 89}{6} = \frac{90}{6} = 15 \in \mathbb{N}$$

$$n'' = \frac{-b - \sqrt{\Delta}}{2a} = \frac{-(-1) - \sqrt{7921}}{2(3)} = \frac{1 - 89}{6} = \frac{-88}{6} = \frac{-44}{3} \notin \mathbb{N}$$ **و**

إذن: $\boxed{n = 15}$ ($S_{15} = 328$).

حل التمرين 18: (06 نقاط) بكالوريا 2016// الموضوع 02// الشعبة: آ وف؛ لغ أ.

لدينا: (u_n) متتالية **حسابية، أساسها** 3 وحدّها **الأول** u_0 وتُحقّق: $u_0 + u_1 + u_2 + u_3 = 10$.

1)حساب الحد الأوّل u_0:

نكتب u_1؛ u_2 وu_3 بدلالة u_0

لـدينا: $u_n = u_0 + nr$ ومنه: $\begin{cases} u_1 = u_0 + (1)r = u_0 + 3 \\ u_2 = u_0 + (2)r = u_0 + 6 \\ u_3 = u_0 + (3)r = u_0 + 9 \end{cases}$

العلاقة $u_0 + u_1 + u_2 + u_3 = 10$، تُصبح: $u_0 + (u_0 + 3) + (u_0 + 6) + (u_0 + 9) = 10$

ومنـه: $4u_0 + 18 = 10$

وعليه: $4u_0 = -8$ إذن: $\boxed{u_0 = \frac{-8}{4} = -2}$.

2)كتابة الحد العام u_n بدلالة n:

لدينا: $u_n = u_0 + nr$ ومنه: $\boxed{u_n = -2 + 3n}$.

3)تعيين العدد الطبيعي n بحيث، $u_n = 145$:

$u_n = 145$ تُكافئ: $-2 + 3n = 145$

ومنه: وعليه: $\boxed{147}$ ( )

لدينا: $S = u_0 + u_1 + \cdots + u_{49} = (49 - 0 + 1)\left(\frac{u_0+u_{49}}{2}\right) = (50)\left(\frac{-2+145}{2}\right)$

ومنه: $S = (50)\left(\frac{143}{2}\right) = (50)(71{,}5) = 3575$.

5)لدينا: (v_n) متتالية معرّفة على $\mathbb{N}$ بالعبارة: $v_n = 2u_n + 3$.

حساب المجموع S' بحيث، $S' = v_0 + v_1 + \cdots + v_{49}$:

لدينا: $v_n = 2u_n + 3$،

ومنه: $S' = (2u_0 + 3) + (2u_1 + 3) + \cdots + (2u_{49} + 3)$

وعليه: $S' = 2(u_0 + u_1 + \cdots + u_{49}) + 3(94 - 0 + 1)$

وبالتالي: $S' = 2S + 3(50) = 2(3575) + 150 = 7300$.

حل التمرين 19: (06 نقاط) بكالوريا 2017_د01// الموضوع 01// الشعبة: آ وف؛ لغ أ

لدينا: (u_n) متتالية **هندسية حدودها موجبة تماما**، معرّفة على $\mathbb{N}$ حيث $u_1 = 20$ و $u_3 = 320$.

1)تبيان أنّ أساس المتتالية (u_n) هو 4 وحدّها الأول هو 5:

لدينا: $u_n = u_p \times q^{n-p}$ ومنه: $u_3 = u_1 \times q^{3-1}$

وعليه: $320 = 20 \times q^2$

ويكون: $q^2 = \frac{320}{20} = 16$

وبالتالي: $\boxed{q = \sqrt{16} = 4}$ أو $\boxed{q = -\sqrt{16} = -4}$ **(مرفوض)**

إذن: $\boxed{q = 4}$ لأنّها حدود (u_n) **موجبة تماما**.

2)كتابة عبارة الحد العام للمتتالية (u_n) بدلالة n:

بمـأنّ (u_n) **هندسية** معرفة على $\mathbb{N}$ فـإنّ حدّها الأوّل هو: $u_0 = \frac{u_1}{q} = \frac{20}{4} = 5$.

وبالتالي: $u_n = u_0 \times q^n$ إذن: $\boxed{u_n = 5 \times 4^n}$.

استنتاج قيمة حدّها السابع:

الحد السابع هو: $u_6 = 5 \times 4^6 = 5(4096) = 20480$.

3)أ) حساب بدلالة العدد الطبيعي n المجموع S حيث، $S = u_0 + u_1 + \cdots + u_n$:

لدينا: $S = u_0 + u_1 + \cdots + u_n = u_0\left(\frac{1-q^{n-0+1}}{1-q}\right) = 5\left(\frac{1-4^{n+1}}{1-4}\right) = \frac{5}{-3}(1 - 4^{n+1})$

ومنه: $S = \frac{5}{3}(4^{n+1} - 1)$.

ب) استنتاج قيمة المجموع S' حيث، $S' = u_0 + u_1 + \cdots + u_6$:

حسب السؤال السابق أ) نجد: $S' = u_0 + u_1 + \cdots + u_6 = \frac{5}{3}(4^{6+1} - 1) = \frac{5}{3}(4^7 - 1)$

ومنه: $S' = \frac{5}{3}(16384 - 1) = \frac{5}{3}(16383) = 27305$.

حل التمرين 20: (06 نقاط) بكالوريا 2017_د01// الموضوع 02// الشعبة: آ وف؛ لغ أ

لدينا: (u_n) متتالية **حسابية** معرّفة على المجموعة $\mathbb{N}$ بحدّها **الأوّل** $u_0 = -5$ و $u_3 + u_7 = 50$.

1)تعيين الأساس للمتتالية :

نكتب و

لدينا: $u_n = u_0 + nr$ ومنه: $\begin{cases} u_3 = u_0 + (3)r = -5 + 3r \\ u_7 = u_0 + (7)r = -5 + 7r \end{cases}$

بالتعويض في العلاقة $u_3 + u_7 = 50$ نجد: $(-5 + 3r) + (-5 + 7r) = 50$

ومنه: $10r - 10 = 50$

وعليه: $10r = 60$ إذن: $\boxed{r = \frac{60}{10} = 6}$.

2)تبيان أنّ: من أجل كل عدد طبيعي n، $u_n = 6n - 5$:

لدينا: $u_n = u_0 + nr$ ومنه: $\boxed{u_n = -5 + 6n}$.

3)اثبات أنّ العدد 2017 حد من حدود المتتالية (u_n)، مع تعيين رتبته:

نضع: $u_n = 2017$ نجد: $-5 + 6n = 2017$

ومنه: $6n = 2022$

وبالتالي: $\boxed{n = \frac{2022}{6} = 337 \in \mathbb{N}}$ $(u_{337} = 2017)$

إذن: العدد 2017 حد من حدود المتتالية (u_n)، **رتبته:** 338 لأنّ الحد الأوّل هو u_0.

4)حساب بدلالة العدد الطبيعي n المجموع S حيث $S = u_0 + u_1 + \cdots + u_n$:

لدينا: $S = u_0 + u_1 + \cdots + u_n = (n - 0 + 1)\left(\frac{u_0 + u_n}{2}\right) = (n + 1)\left(\frac{-5 + (-5 + 6n)}{2}\right)$

ومنه: $S = (n + 1)\left(\frac{-10 + 6n}{2}\right) = (n + 1)(-5 + 3n)$.

حل التمرين 21: (06 نقاط) بكالوريا 2017_د02// الموضوع 01// الشعبة: آ وف؛ لغ أ

لدينا: (u_n) متتالية **حسابية** معرّفة على $\mathbb{N}$ بحدها **الأول** u_0 و**أساسها** r.

1)حساب الحد u_4 علما أنّ، $u_3 + u_5 = 20$:

حسب **خاصية الوسط الحسابي**، لدينا: $\boxed{u_3 + u_5 = 2u_4}$

العلاقة $u_3 + u_5 = 20$ تُصبح: $2u_4 = 20$ إذن: $\boxed{u_4 = \frac{20}{2} = 10}$.

2)حساب الحد u_5 علما أنّ، $2u_4 - u_5 = 7$:

$2u_4 - u_5 = 7$ تُكافئ: $2(10) - u_5 = 7$

ومنه: $-u_5 = 7 - 20$ وعليه: $-u_5 = -13$ إذن: $\boxed{u_5 = 13}$.

3)استنتاج قيمة r وحساب u_0:

بمـأنّ (u_n) متتالية **حسابية**، ولدينا: $u_4 = 10$؛ $u_5 = 13$ **إذن:** $\boxed{r = u_5 - u_4 = 13 - 10 = 3}$.

حساب u_0:

لدينا: $u_n = u_0 + nr$ ومنه: $u_4 = u_0 + 4r$، وعليه: $10 = u_0 + 4(3)$ إذن: $\boxed{u_0 = 10 - 12 = -2}$.

4)التحقّق أنّ: من أجل كل عدد طبيعي n، $u_n = 3n - 2$:

لدينا: $u_n = u_0 + nr$ ومنه: $\boxed{u_n = -2 + 3n}$.

5)حساب بدلالة العدد الطبيعي n المجموع S_n، $S_n = u_0 + u_1 + \cdots + u_n$:

لدينا: $\frac{3n-2)}{2}$ ـــــ S_n

6)إيجاد العدد الطبيعي n حيث، $S_n = 33$:

$S_n = 33$ معناه: $\frac{3n^2-n-4}{2} = 33$

ومنه: $3n^2 - n - 4 = 2(33)$

وعليه: $3n^2 - n - 70 = 0$

مميزها: $\Delta = (-1)^2 - 4(3)(-70) = 1 + 840 = 841 > 0$

للمعادلة حلين متمايزين هما:

$$n' = \frac{-b+\sqrt{\Delta}}{2a} = \frac{-(-1)+\sqrt{841}}{2(3)} = \frac{1+29}{6} = \frac{30}{6} = 5 \in \mathbb{N}$$

$$n'' = \frac{-b-\sqrt{\Delta}}{2a} = \frac{-(-1)-\sqrt{841}}{2(3)} = \frac{1-29}{6} = \frac{-28}{6} = \frac{-14}{3} \notin \mathbb{N}$$ و

إذن: $\boxed{n = 5}$ ($S_5 = 33$).

حل التمرين 22: (06 نقاط) بكالوريا 2017_د02// الموضوع 02// الشعبة: آ وف؛ لغ أ

تعيين الاقتراح الصحيح مع التعليل:

1)الحد السّادس لمتتالية حسابية أساسها -3 وحدّها الأول 1 هو: -14 . **ب)**

التبرير:

- **الطريقة 01:** إذا كان: $\boxed{u_0 = 1}$ هو **الحد الأوّل** للمتتالية **الحسابية** التي أساسها $\boxed{r = -3}$

فإنّ: حدّها **السادس** هو u_5 وبالتالي: $\boxed{u_5 = u_0 + 5r = 1 + 5(-3) = -14}$.

- **الطريقة 02:** إذا كان: $\boxed{u_1 = 1}$ هو **الحد الأوّل** للمتتالية **الحسابية** التي أساسها $\boxed{r = -3}$

فإنّ: حدّها **السادس** هو u_6 وبالتالي: $\boxed{u_6 = u_1 + (6-1)r = 1 + 5(-3) = -14}$.

2)مجموع 100 حدٍ الأولى لمتتالية هندسية حدّها الأول هو 1 وأساسها 3 هو: $\frac{3^{100}-1}{2}$. **جـ)**

لأنّ: $\text{المجموع} = \text{الحد الأول}\left(\frac{1-q^{\text{عدد الحدود}}}{1-q}\right) = 1\left(\frac{1-3^{100}}{1-3}\right) = \left(\frac{1-3^{100}}{-2}\right) = \frac{3^{100}-1}{2}$

3)لدينا: $a = 2x + 2$، $b = 6x - 3$، $c = 4x$.

الأعداد الحقيقية a، b، c بهذا الترتيب تُشكل حدودا متتابعة لمتتالية **حسابية** عندما يكون: $x = \frac{4}{3}$ **أ)**

التبرير:

بمأنّ: الأعداد الحقيقية a، b، c بهذا الترتيب تُشكل حدودا متتابعة لمتتالية **حسابية**

فإنّ: **حسب خاصية الوسط الحسابي** $\boxed{a + c = 2b}$ ومنه: $(2x + 2) + (4x) = 2(6x - 3)$

وعليه: $6x + 2 = 12x - 6$،

وبالتالي: $-6x = -8$ إذن: $\boxed{x = \frac{-8}{-6} = \frac{4}{3}}$.

4)المتتالية العددية (u_n) المعرّفة بـ: $u_0 = 1$ ومن أجل كل عدد طبيعي n، $u_{n+1} = \frac{1}{2}u_n + 1$ هي متتالية: **جـ)**

لا حسابية ولا هندسية.

لأنّ: **العلاقة** $u_{n+1} = \frac{1}{2}u_n + 1$، **ليست من الشكل** $\boxed{u_{n+1} = u_n + r}$ **وليست من الشكل** $\boxed{u_{n+1} = qu_n}$.

حل التمرين 23: (06 نقاط) بكالوريا 2018// الموضوع 01// الشعبة: آ وف؛ لغ أ.

تعيين الاقتراح الصحيح، مع التبرير:

1) (u_n) متتالية عددية معرفة على $\mathbb{N}$ بـ: $u_n = n^2 - 1$

المتتالية (u_n): أ) متزايدة تماما، **لمعرفة اتجاه تغيّر متتالية ندرس إشارة الفرق $u_{n+1} - u_n$**

لدينا: $u_n = n^2 - 1$، ومنه: $u_{n+1} = (n+1)^2 - 1 = n^2 + 1^2 + 2(n)(1) - 1 = n^2 + 2n$

وعليه: $u_{n+1} - u_n = (n^2 + 2n) - (n^2 - 1) = 2n + 1 > 0$،

إذن: المتتالية (u_n) **متزايدة تماما**.

2) (v_n) متتالية هندسية حدّها الأوّل $v_1 = 3$ وأساسها $q = 2$،

عبارة الحد العام للمتتالية (v_n) هي: **ب)** $v_n = 3 \times 2^{n-1}$، لأنّ: $v_n = v_1 \times q^{n-1} = 3 \times 2^{n-1}$.

المجموع $S_n = v_1 + v_2 + \cdots + v_n$ يُساوي: أ) $3(2^n - 1)$،

لأنّ: $S_n = v_1 + v_2 + \cdots + v_n = v_1\left(\frac{1-q^{n-1+1}}{1-q}\right) = 3\left(\frac{1-2^n}{1-2}\right) = 3\left(\frac{1-2^n}{-1}\right) = 3(2^n - 1)$.

3) **الإحتمالات**.

حل التمرين 24: (06 نقاط) بكالوريا 2018// الموضوع 02// الشعبة: آ وف؛ لغ أ.

(u_n) متتالية **هندسية حدودها موجبة تماما**، حدّها الأول u_0 وأساسها q حيث:

$u_0 \times u_2 = 576$ و $u_0 + u_1 = 30$.

1) تبيان أنّ $u_1 = 24$:

حسب **خاصية الوسط الهندسي**، لدينا: ${u_1}^2 = u_0 \times u_2$

ومنه: $u_0 \times u_2 = 576$

تُصبح: ${u_1}^2 = 576$

وعليه: $\boxed{u_1 = \sqrt{576} = 24}$ أو $\boxed{u_1 = -\sqrt{576} = -24}$ **(مرفوض)**

إذن: $\boxed{u_1 = 24}$ لأنّ حدود (u_n) **موجبة تماما**.

استنتاج قيمة u_0: لدينا: $u_0 + u_1 = 30$ ومنه: $u_0 = 30 - u_1 = 30 - 24 = 6$.

2) تبيان أنّ $q = 4$: لدينا: $q = \frac{u_1}{u_0} = \frac{24}{6} = 4$.

كتابة عبارة الحد العام u_n بدلالة n:

لدينا: $u_n = u_0 \times q^n$ ومنه: $\boxed{u_n = 6 \times 4^n}$.

3) اثبات أنّه من أجل كل عدد طبيعي n، $u_{n+1} - u_n = 18 \times 4^n$:

لدينا: $u_n = 6 \times 4^n$ ومنه: $u_{n+1} = 6 \times 4^{n+1} = 6 \times 4^n \times 4^1$

وعليه: $u_{n+1} - u_n = (24 \times 4^n) - (6 \times 4^n) = 18 \times 4^n$

استنتاج اتجاه تغيّر المتتالية (u_n):

بما أنّ $u_{n+1} - u_n = 18 \times 4^n > 0$، فإنّ (u_n) **متزايدة تماما**.

4) حساب 4^4: $4^4 = 4 \times 4 \times 4 \times 4 = 256$.

التحقّق أنّ العدد 1536 حد من حدود المتتالية (u_n) وتعيين رتبته:

نضع:

أي: $4^n = 256$

وعليه: $4^n = 4^4$ (لأنّ $4^4 = 256$)

إذن: $\boxed{n = 4}$ ($u_4 = 1536$)، **رتبته:** 5 لأنّ الحد الأوّل هو u_0.

5)حساب بدلالة n المجموع، $S_n = u_1 + u_2 + \cdots + u_n$:

لدينا: $S_n = u_1 + u_2 + \cdots + u_n = u_1\left(\frac{1-q^{n-1+1}}{1-q}\right) = 24\left(\frac{1-4^n}{1-4}\right) = \frac{24}{-3}(1-4^n)$

ومنه: $S_n = -8(1-4^n) = 8(4^n+1)$.

حل التمرين 25: (06 نقاط) بكالوريا 2019// الموضوع 01// الشعبة: آ وف؛ لغ أ.

لدينا: (u_n) متتالية عددية معرّفة على $\mathbb{N}^*$ بـ: $u_n = \frac{2}{5}n - 1$

1)تبيان أنّ المتتالية (u_n) حسابية أساسها $\frac{2}{5}$ يُطلب حساب حدّها الأول u_1:

نُبين أنّ الفرق $u_{n+1} - u_n$ عدد ثابت $\frac{2}{5}$

لدينا: $u_n = \frac{2}{5}n - 1$، ومنه: $u_{n+1} = \frac{2}{5}(n+1) - 1 = \frac{2}{5}n + \frac{2}{5} - 1 = \frac{2}{5}n + \frac{2-5}{5} = \frac{2}{5}n - \frac{3}{5}$

وعليه: $u_{n+1} - u_n = \left(\frac{2}{5}n - \frac{3}{5}\right) - \left(\frac{2}{5}n - 1\right) = \frac{2}{5}n - \frac{3}{5} - \frac{2}{5}n + 1 = -\frac{3}{5} + 1 = \frac{-3+5}{5}$

وبالتالي: $\boxed{u_{n+1} - u_n = \frac{2}{5}}$،

إذن: المتتالية (u_n) **حسابية** أساسها $\frac{2}{5}$، وحدّها الأول $u_1 = \frac{2}{5}(1) - 1 = \frac{2}{5} - 1 = \frac{2-5}{5} = \frac{-3}{5}$.

2)تعيين رتبة الحد الذي قيمته 575:

نضع: $u_n = 575$ نجد: $\frac{2}{5}n - 1 = 575$

ومنه: $\frac{2}{5}n = 576$

وعليه: $2n = 5(576)$

أي: $2n = 2880$ وبالتالي: $n = \frac{2880}{2} = 1440 \in \mathbb{N}$ $(u_{1440} = 575)$

إذن: رتبة الحد الذي قيمته 575 هي 1440 لأنّ الحد الاوّل هو u_1.

3)حساب قيمة المجموع S حيث، $S = u_1 + u_2 + \cdots + u_{1440}$:

لدينا: $S = u_1 + u_2 + \cdots + u_{1440} = (1440-1+1)\left(\frac{u_1+u_{1440}}{2}\right) = (1440)\left(\frac{\frac{-3}{5}+575}{2}\right)$

ومنه: $S = \frac{1440}{2}\left(\frac{-3}{5} + 575\right) = 720\left(\frac{-3+5(575)}{5}\right) = 720\left(\frac{-3+2875}{5}\right) = 720\left(\frac{2872}{5}\right)$

وعليه: $S = 720(574{,}4) = 413568$.

4)(v_n) المتتالية المعرّفة على $\mathbb{N}^*$ كما يلي: $v_n = 4^{5u_n+6}$.

أ) تبيان أنّ المتتالية (v_n) هندسية يُطلب تعيين أساسها وحدّها الأول v_1:

(نُبين أنّ حاصل القسمة $\frac{v_{n+1}}{v_n}$ عدد ثابت)

لدينا: $5u_n+6$ n ومنه: $5u_{n+1}+6$ $n+1$

وبمأنّ

وعليه: $v_{n+1} = 4^{5u_{n+1}+6} = 4^{5\left(u_n+\frac{2}{5}\right)+6} = 4^{5u_n+2+6} = 4^{(5u_n+6)+2} = 4^{5u_n+6} \times 4^2$

وبالتالي: $\frac{v_{n+1}}{v_n} = \frac{4^{5u_n+6}\times 4^2}{4^{5u_n+6}} = 4^2 = 16$

إذن: (v_n) متتالية **هندسية** أساسها $\boxed{q = 16}$، وحدّها الأول

$v_1 = 4^{5u_1+6} = 4^{5\left(\frac{-3}{5}\right)+6} = 4^{-3+6} = 4^3 = 64$ **لأنّها** معرّفة على $\mathbb{N}^*$.

ب) حساب بدلالة n المجموع، $S_n = v_1 + v_2 + \cdots + v_n$:

لدينا: $S_n = v_1 + v_2 + \cdots + v_n = v_1\left(\frac{1-q^{n-1+1}}{1-q}\right) = 64\left(\frac{1-16^n}{1-16}\right) = \frac{64}{-15}(1-16^n)$

إذن: $\boxed{S_n = \frac{64}{15}(16^n - 1)}$.

حل التمرين 26: (04 نقاط) بكالوريا 2019// الموضوع 02// الشعبة: آ وف؛ لغ أ.

لدينا: (u_n) المتتالية **الحسابية** التي حدّها الأول u_0 وأساسها r.

1)علماً أنّ: $u_0 + u_1 + u_2 = 6$، تعيين u_1:

حسب **خاصية الوسط الحسابي** لدينا: $\boxed{u_0 + u_2 = 2u_1}$،

العلاقة $u_0 + u_1 + u_2 = 6$ تُصبح: $u_1 + 2u_1 = 6$ ومنه: $3u_1 = 6$ إذن: $\boxed{u_1 = \frac{6}{3} = 2}$.

2)علماً أنّ: $2u_0 - 3u_1 = -10$، تعيين الحد الأول u_0، ثم استنتاج قيمة r أساس المتتالية (u_n):

$2u_0 - 3u_1 = -10$ تُكافئ: $2u_0 - 3(2) = -10$

ومنه: $2u_0 = -10 + 6$ أي: $2u_0 = -4$ إذن: $\boxed{u_0 = \frac{-4}{2} = -2}$.

استنتاج قيمة r أساس المتتالية (u_n):

بمـأنّ (u_n) **حسابية**؛ ولدينا: $u_1 = 2$، $u_0 = -2$ فـإنّ $\boxed{r = u_1 - u_0 = 2 - (-2) = 4}$.

3)كتابة عبارة الحد العام u_n بدلالة n:

لدينا: $u_n = u_0 + nr$ ومنه: $\boxed{u_n = -2 + 4n}$.

4)أ) تعيين قيمة n حتى يكون $u_n = 2018$:

نضع: $u_n = 2018$ نجد: $-2 + 4n = 2018$

ومنه: $4n = 2020$ وبالتالي: $\boxed{n = \frac{2020}{4} = 505 \in \mathbb{N}}$ $(u_{505} = 2018)$

ب) حساب الحد الخامس عشر للمتتالية (u_n):

بمـأنّ **الحد الأوّل** هو u_0 فـإنّ **الحد الخامس عشر** هو: $\boxed{u_{14} = -2 + 4(14) = 54}$.

5)حساب بدلالة n المجموع S_n حيث، $S_n = u_0 + u_1 + u_2 + \cdots + u_n$:

لدينا: $S_n = u_0 + u_1 + u_2 + \cdots + u_n = (n - 0 + 1)\left(\frac{u_0+u_n}{2}\right)$

ومنه: $S_n = (n+1)\left(\frac{-2+(-2+4n)}{2}\right) = (n+1)\left(\frac{-4+4n}{2}\right) = (n+1)(2n-2)$.

6)تعيين العدد الطبيعي n حتى يكون، :

مع

وعليه: $2n^2 = 98$

أي: $n^2 = 49$

وبالتالي: $n = \sqrt{49} = 7$ أو $n = -\sqrt{49} = -7$ (مرفوض)

إذن: $\boxed{n = 7}$ ($S_7 = 96$).