سلاسل المنجد - دروس و تمارين

2AS

الشعب العلمية و الرياضية

علوم فيزيائية

السلسلة 2-03-2

العمل و الطاقة الحركية الدورانية

عرض نظري و تمارين محلولة

يمكن تحميل السلسلة بصيغة pdf من موقع المنجد :

www.sites.google.com/site/faresfergani

للمزيد (عرض نظري مفصل – تمارين – فيديوهات .....)
يرجى زيارتنا على صفحة الوحدة في نفس الموقع الإلكتروني .

لكي يصلك جديد موقع المنجد تابع صفحة الفايسبوك التالية :

facebook.com/elmoundjidff

الأستاذ فرقاني فارس
ثانوية مولود قاسم نايت بلقاسم - الخروب - قسنطينة
fares_fergani@yahoo.fr
0771998109


العلوم الفيزيائية

سلاسل المنجد في العلوم الفيزيائية – ثانية ثانوي – الوحدة 03

العمل و الطاقة الحركية الدورانية

إعداد الأستاذ فرقاني فارس
ثانوية مولود قاسم نايت بلقاسم - الخروب - قسنطينة
www.sites.google.com/site/faresfergani

****

السلسلة 2-03 – 01

عرض نظري و تمارين

1- الفاصلة الزاوية و السرعة الزاوية

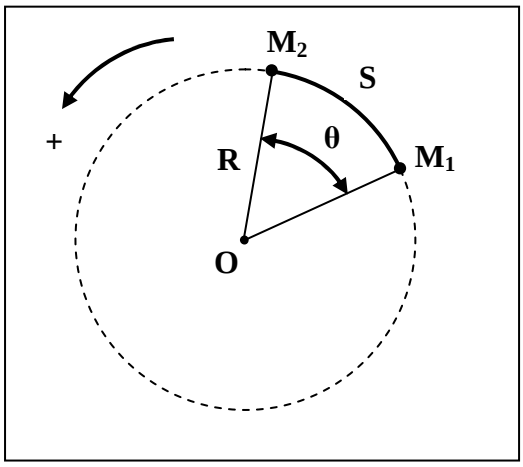

• السرعة الخطية و السرعة الزاوية :

- نعتبر جسم نقطي ينتقل على مسار دائري نصف قطره R و مركزه O من موضع M_1 عند اللحظة t_1 إلى الموضع M_2 عند اللحظة t_2 ، اثناء ذلك يقطع مسافة خطية S على المحيط و في نفس الوقت يمسح زاوية θ (الشكل) .

- يعبر عن المسافة الخطية S بدلالة الزواية الممسوحة θ وفق العلاقة التالية :

$$S = R\,\theta$$

حيث : R نصف قطر المسار الدائري و الذي يقدر بالمتر (m) .

- السرعة الخطية المتوسطة التي نرمز لها بـ v_m و وحدتها المتر/الثانية (m/s) بين لحظتين t_1 ، t_2 هي حاصل قسمة المسافة الخطية المقطوعة بين هاتين اللحظتين على المدة الزمنية Δt الموافقة أي :

$$v_m = \frac{S}{\Delta t}$$

- السرعة الزاوية المتوسطة التي نرمز لها بـ ω_m و وحدتها الراديان/الثانية (rad/s) بين لحظتين t_1 ، t_2 هي حاصل قسمة الزاوية الممسوحة بين هاتين اللحظتين على المدة الزمنية Δt الموافقة أي :

$$\omega_m = \frac{\theta}{\Delta t}$$

- السرعة الخطية اللحظية التي يرمز لها بـ v و وحدتها المتر/الثانية (m/s) هي سرعة المتحرك الخطية عند لحظة ما .

- السرعة الزاوية اللحظية التي يرمز لها بـ ω و وحدتها الراديان/الثانية (rad/s) هي السرعة الزاوية للمتحرك عند لحظة ما .

- يعبر عن السرعة الزاوية اللحظية ω بدلالة السرعة الخطية اللحظية v بالعلاقة :

$$\omega = \frac{v}{R} \leftrightarrow v = R\,\omega$$

أمثلة : (حساب بعض السرعات الزاوية)

▪ دوران عقرب الثواني في ساعة حائطية كلاسيكية :

عقرب الثواني في الساعة الحائطية ينجز دورة (أي $\Delta\theta = 2\pi$ rad) خلال 1 دقيقة أي ($\Delta t = 60$ s) لذا يكون :

$$\omega = \frac{\Delta\theta}{\Delta t} = \frac{2\pi}{60} = 0.10 \text{ rad/s}$$

▪ دوران عقرب الدقائق في ساعة حائطية كلاسيكية :

عقرب الدقائق في الساعة الحائطية ينجز دورة (أي $\Delta\theta = 2\pi$ rad) خلال 1 ساعة أي ($\Delta t = 3600$ s) لذا يكون :

$$\omega = \frac{\Delta\theta}{\Delta t} = \frac{2\pi}{3600} = 1.74.10^{-3} \text{ rad/s}$$

▪ دوران الأرض حول نفسها :

الأرض تدور حول نفسها خلال 24 ساعة فهي تمسح زاوية ($\Delta\theta = 2\pi$ rad) خلال 24 ساعة أي خلال مدة زمنية قدرها : $\Delta t = 24 \,.\, 3600 = 86400$ s

لذا يكون :

$$\omega = \frac{\Delta\theta}{\Delta t} = \frac{2\pi}{86400} = 7.27.10^{-5} \text{ rad/s}$$

▪ دوران الأرض حول الشمس باعتبار السنة تقدر بـ 365.25 يوم :

الأرض تدور حول الشمس خلال سنة فهي تمسح زاوية ($\Delta\theta = 2\pi$ rad) خلال سنة أي خلال مدة زمنية قدرها :

$$\Delta t = 365.25 \,.\, 24 \,.\, 3600 = 3.15 \,.\, 10^7 \text{ s}$$

لذا يكون :

$$\omega = \frac{\Delta\theta}{\Delta t} = \frac{2\pi}{3.16.10^7} = 2.10^{-7} \text{ rad/s}$$

2- عزم القوة و عزم المزدوجة

• عزم قوة بالنسبة لمحور دوران Δ :

- عزم القوة $\vec{F}$ بالنسبة لمحور دوران Δ و الذي يرمز له بـ $M_{/\Delta}(\vec{F})$ و وحدته النيوتن في المتر $(N.m)$ هو مقدار جبري يعبر عن شدة الفعل الدوراني لجسم ، حيث كلما كان مقدار العزم أكبر كان أثر الفعل الدوراني أكبر .

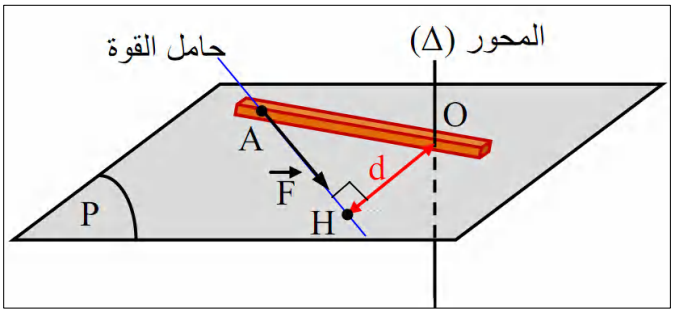

- يحسب عزم قوة $\vec{F}$ بالنسبة لمحور دوران Δ ، بجداء شدة هذه القوة في الذراع d الذي يمثل البعد العمودي بين حامل هذه القوة و محور الدوران Δ (الشكل) .

عزم القوة موجبا إذا كانت القوة $\vec{F}$ تدير الجسم في الاتجاه الموجب و نكتب في هذه الحالة :

$$M_{/\Delta}(\vec{F}) = + F.d$$

و يكون سالبا إذا كانت القوة $\vec{F}$ تدير الجسم في الاتجاه السالب و نكتب في هذه الحالة :

$$M_{/\Delta}(\vec{F}) = - F.d$$

حالة خاصة :

إذا كانت القوة مماسية للمسار يكون الذراع d مساوي لنصف القطر R (d = R) (الشكل) .

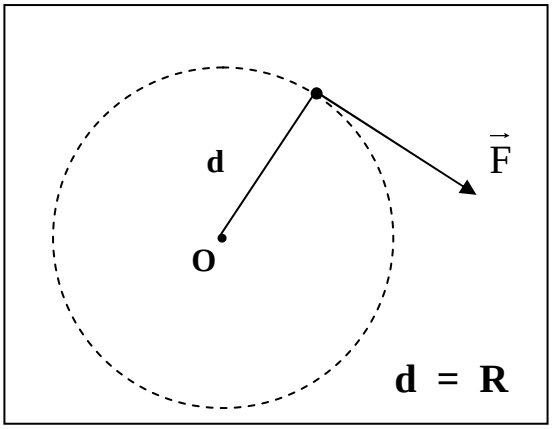

ملاحظة :

عندما يخضع جسم قابل للدوران حول محور ثابت إلى قوتين متعاكستين (وفق جهة الدوران) فإن الجسم لا يتحرك في جهة الشدة الأكبر و إنما يتحرك في جهة القوة ذات العزم الأكبر ، و بالمثل إذا كان الجسم يخضع إلى عدة قوى (منها في الجهة الموجبة و الآخر في الجهة السالبة) فالجسم يتحرك في الجهة التي يكون فيها مجموع العزوم أكبر .

التمرين (1) : (التمرين : 002 في بنك التمارين على الموقع) (*)

نعتبر جسم نقطي (S) كتلته $m = 100\ g$ معلق بخيط طوله $\ell = 40\ cm$.
أحسب عزم الثقل $\vec{P}$ في الحالات (1) ، (2) ، (3) المبينة في الشكل التالي :
يعطى : $g = 10\ N/kg$ ، $\alpha = 30°$.

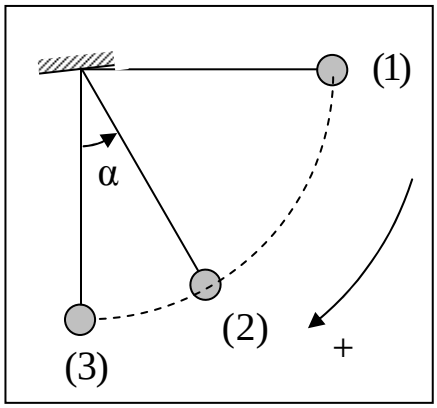

الأجوبة :

عزم الثقل :

الحالة (1) :

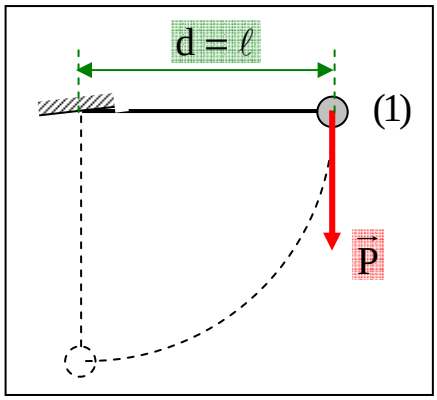

$$M_{/\Delta}(\vec{P}) = P.d = m.g.d$$

من الشكل : $d = \ell$ و منه :

$$M_{/\Delta}(\vec{P}) = m\,g\,\ell$$

$$M_{/\Delta}(\vec{P}) = 0.1.10.0.4 = 0.4\ N.m$$

الحالة (2) :

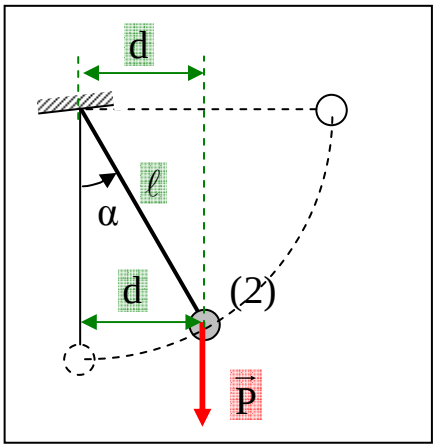

$$M_{/\Delta}(\vec{P}) = P.d = m.g.d$$

من الشكل :

$$\sin\alpha = \frac{d}{\ell} \rightarrow \ell = d\sin\alpha$$

ومنه يصبح :

$$M_{/\Delta}(\vec{P}) = P.\ell\sin\alpha = m\,g\,\ell\sin\alpha$$

$$M_{/\Delta}(\vec{P}) = 0.1.10.0.4.\sin 30° = 0.2\ N.m$$

الحالة (3) :

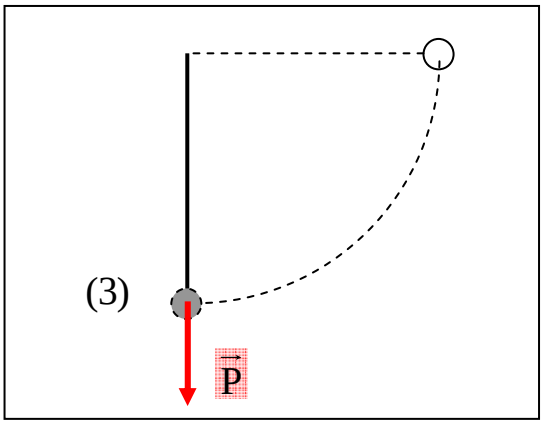

$$M_{/\Delta}(\vec{P}) = P.d = 0$$

لأن $\vec{P}$ مارة من مركز الدوران .

● عزم المزدوجة :

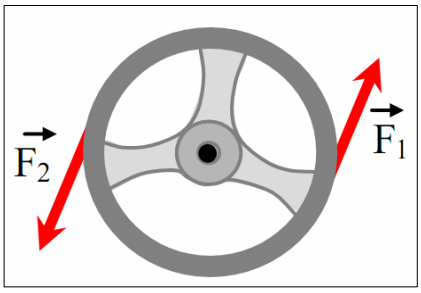

- تدعى جملة قوتين $(\vec{F_1},\vec{F_2})$ محصلتهما معدومة و ليس لهما نفس الحامل **بالمزدوجة** ، كمثال على ذلك نذكر المزدوجة التي تؤثر بها يدي السائق على مقود السيارة (الشكل) :

- يرجع حساب عزم مزدوجة قوتين $(\vec{F_1}\ ،\ \vec{F_2})$ تؤثر على جسم صلب يدور حول محور Δ إلى حساب المجموع الجبري لـعزمي القوتين أي إذا رمزنا لعزم المزدوجة بـ M نكتب :

$$M = M_{/\Delta}(\vec{F_1}) + M_{/\Delta}(\vec{F_2}) \quad \rightarrow \quad M = F_1 . R + F_2 . R$$

و حيث أن القوتين المشكلتين للمزدوجة متساويتين في الشدة أي $F_1 = F_2$ يصبح :

$$M = F . R + F . R = 2 R F$$

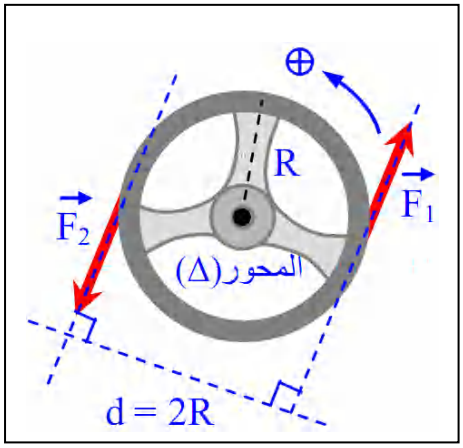

يسمى المقدار 2R **ذراع المزدوجة** ، يرمز له بـ d و نكتب :

$$M = \pm Fd$$

- من خلال عبارة عزم المزدوجة المتحصل عليها نلاحظ أن عزم المزدوجة لا يتعلق بمحور الدوران ، و إنما يتعلقبالبعد بين حاملي القوتين المشكلتين للمزدوجة ، و بالتالي عندما نتكلم عن عزم المزدوجة لا داعي لذكر محور الدوران خلافا لعزم القوة التي يجب دائما ذكر المحور الذي يحسب بالنسبة إليه العزم .

3- عزم عطالة جسم بالنسبة لمحور دوران Δ

● عزم عطالة جسم بالنسبة لمحور Δ :

- تقاس العطالة الدورانية لجسم صلب يتحرك بالنسبة لمحور Δ ثابت بمقدار فيزيائي يدعى عزم عطالة الجسم بالنسبة لمحور الدوران Δ .

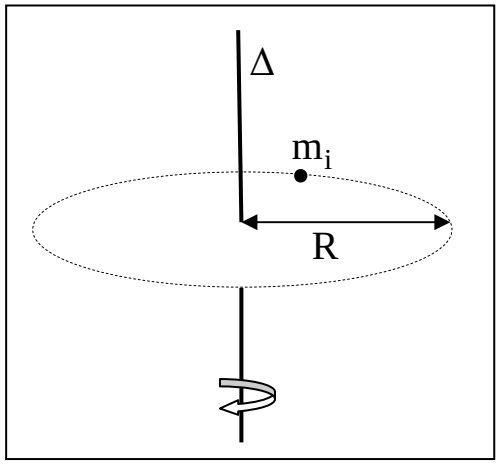

- يعرف عزم العطالة $J_{/\Delta}$ بالنسبة لمحور Δ لجسم نقطي m و يبعد مسافة d عن هذا المحور بالعبارة التالية :

$$J_{/\Delta} = m\, d^2$$

- وحدة عزم العطالة في النظام الدولي هي $kg\, m^2$.
- يحسب عزم عطالة جملة نقاط مادية كتلة كل نقطة m_1 ، m_2 ، m_3 ..... تبعد كل منها عن محور الدوران على التوالي مسافة d_1 ، d_2 ، d_3 ..... (الشكل) بجمع عزوم عطالة كل نقطة بالنسبة لنفس المحور :

$$J_{/\Delta} = \Sigma\, m_1\, d_1^{\,2}$$

مثال :
لحساب عزم عطالة حلقة نصف قطرها R و كتلتها M (الشكل) نتبع الخطوات التالية :

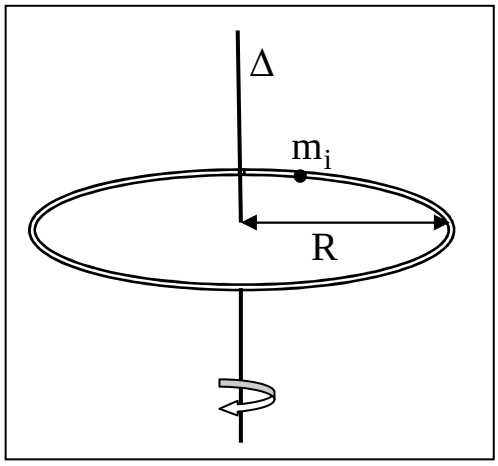

- نقسم الحلقة إلى عناصر صغيرة كتلها m_i يمكن اعتبارها نقاطا مادية تبعد كلها بنفس المسافة R عن المحور Δ .
- تعتبر الحلقة جملة نقاط مادية و يحسب عزم عطالتها بالعبارة التالية :

$J_{/\Delta} = m_1 R^2 + m_2 R^2 + m_3 R^2 + \ldots\ldots$
$J_{/\Delta} = \Sigma\, m_i R^2 = (\Sigma\, m_i)\, R^2 = MR^2$

$$J_{/\Delta} = MR^2$$

حيث : $\Sigma\, m_i = M$ هي كتلة الحلقة و المساوية لمجموع كتل النقاط المادية المشكلة لها .

● عزوم عطالة بعض الأجسام الصلبة المتجانسة :

الجسم	عبارة عزم العطالة	الشكل
عزم عطالة حلقة كتلتها M و نصف قطرها R بالنسبة لمحورها Δ_0 المار من مركزها	$j_{/\Delta_0} = M R^2$	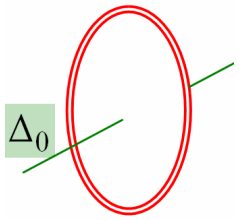
عزم عطالة قرص كتلته M و نصف قطره R بالنسبة لمحوره Δ_0 المار من مركزه	$j_{/\Delta_0} = \frac{1}{2} M R^2$	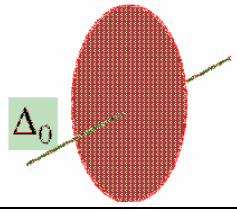
عزم عطالة اسطوانة مجوفة كتلتها M و نصف قطرها R بالنسبة لمحورها Δ_0 المار من مركزها	$j_{/\Delta_0} = M R^2$	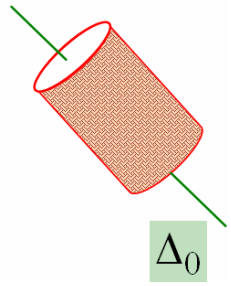
عزم عطالة اسطوانة مملوءة كتلتها M و نصف قطرها R بالنسبة لمحورها Δ_0 المار من مركزها و الموازي لها	$j_{/\Delta_0} = \frac{1}{2} M R^2$	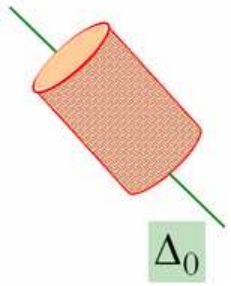
عزم عطالة كرة مملوءة كتلتها M و نصف قطرها R بالنسبة لمحورها Δ_0 المار من مركزها	$j_{/\Delta_0} = \frac{2}{5} M R^2$	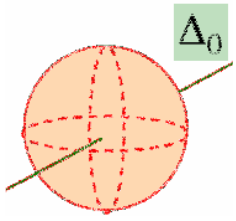
عزم عطالة ساق كتلتها M و طولها L بالنسبة لمحورها Δ_0 المار من منصفها و عمودي عليها	$j_{/\Delta_0} = \frac{1}{12} M L^2$	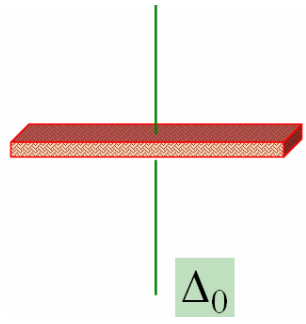

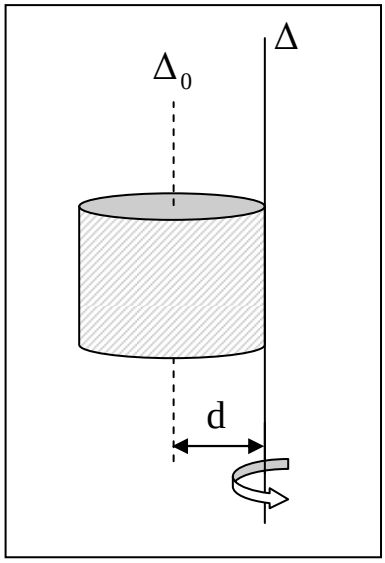

• نظرية هويغنز :

- لحساب عزم عطالة جسم صلب كتلته m يدور حول محور Δ غير منطبق على محوره Δ_0 (الشكل) ، نطبق بنظرية هويجنز .

- تنص نظرية هيوغنز على ما يلي :

" عزم عطالة جسم صلب بالنسبة للمحور Δ غير منطبق على محور الجسم Δ_0 مساوي لعزم عطالة هذا الجسم بالنسبة لمحوره Δ_0 مضاف إليه جداء كتلة هذا الجسم في مربع البعد بين محور الجسم Δ_0 و محور الدوران Δ " أي :

$$J_{/\Delta} = J_{/\Delta 0} + m\, d^2$$

ملاحظة :

- عزم عطالة جملة ميكانيكية تتكون من عدة أجسام صلبة بالنسبة لمحور (Δ) مساوي لمجموع عزوم عطالة هذه الأجسام بالنسبة لنفس المحور Δ .

التمرين (2) : (التمرين : 003 في بنك التمارين على الموقع) (*)

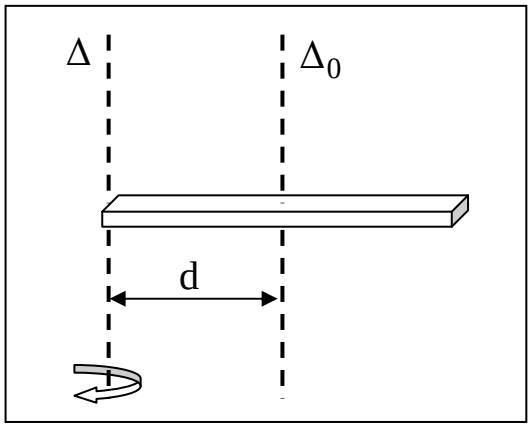

1- قضيب طوله L = 40 cm و كتلته m = 120 g قابل للدور حول محور Δ مار من طرفه (الشكل-1) :

- أكتب عبارة عزم عطالة القضيب بالنسبة للمحور Δ بدلالة m ، L ثم احسب قيمته .

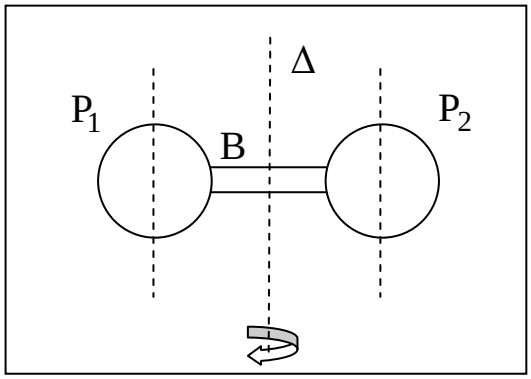

2- جملة ثلاث أجسام ، قضيب (B) كتلته m_1 = 120 g و طوله L = 40 cm و كرتين (P_1) ، (P_2) متماثلتين كتلة كل منهما $m_2 = m_3 = m$ = 100 g و نصف قطر كل منهما $R_2 = R_3 = R$ = 20 cm ملتحمتين بالقضيب B (الشكل-2) .

- أكتب عبارة عزم عطالة كل جسم بالنسبة لمحور الدوران Δ ، و احسب قيمتها .

ب- أحسب عزم عطالة الجملة المتكون من الأجسام الثلاث بالنسبة لمحور Δ .

الأجوبة :

1- عزم عطالة القضيب :

بتطبيق نظرية هويجنز :

$$J_{/\Delta} = J_{/\Delta_0} + m\, d^2$$

$$J_{/\Delta} = \frac{1}{12} \quad ^2 \quad \underline{L}\ ^2 \quad \underline{1}\ \ ^2\ \underline{1}\ \ ^2$$

$$J_{/\Delta} = \frac{mL^2 + 3mL^2}{12} = \frac{4mL^2}{12} \rightarrow J_{/\Delta} = \frac{1}{3} m L^2$$

$$J_{/\Delta} = \frac{1}{3}.0,12\,(0,4)^2 = 6,4.10^{-2}\ kg.m^2$$

2- أ- عزم عطالة (P_1) ، (P_2) ، (B) بالنسبة للمحور Δ :

▪ عزم عطالة القضيب (B) :

المحور Δ منطبق على محور القضيب العمودي عليه و مار من مركزه ، و عليه :

$$J_{/\Delta}(B) = \frac{1}{12} m_1 L^2 = \frac{1}{12} 0.12\,(0.4)^2 = 1,6.10^{-3}\ kg.m^2$$

▪ عزم عطالة الكرة (P_1) :

المحور Δ لا يمر من مركز الكرة (P_1) ، و بالتالي نطبق نظرية هويجنز :

$$J_{/\Delta}(P_1) = \frac{2}{5} m\ R^2 + m\,d^2$$

من الشكل :

$$d = R + \frac{L}{2} = 0,1 + \frac{0,4}{2} = 0,3\,m$$

و منه :

$$J_{/\Delta}(P_1) = \frac{2}{5}.0,1.(0,2)^2 + 0,1(0,3)^2 = 4,6.10^{-3}\ kg.m^2$$

▪ عزم عطالة الكرة (P_2) :

بنفس الطريقة المتبعة في حساب عزم عطالة الكرة (P_1) يكون :

$$J_{/\Delta}(P_2) = \frac{2}{5} m\ R^2 + m\,d^2$$

من الشكل :

$$d = R + \frac{L}{2} = 0,1 + \frac{0,4}{2} = 0,3\,m$$

و منه :

$$J_{/\Delta}(P_2) = \frac{2}{5}.0,1.(0,2)^2 + 0,1(0,3)^2 = 4,6.10^{-3}\ kg.m^2$$

ب- عزم عطالة الجملة المتكونة من القضيب (B) و الكرتين (P_1) ، (P_2) :

عزم عطالة الجملة المتكونة من الأجسام المذكورة بالنسبة للمحور Δ هي مجموع عزوم عطالة هذه الأجسام بالنسبة للمحور Δ و عليه :

$$J_\Delta = J_\Delta(B) + J_\Delta(P_1) + J_\Delta(P_2)$$

$$J_\Delta = 1,6.10^{-3} + 4,6.10^{-3} + 4,6.10^{-3} = 1,08.10^{-2}\ kg.m^2$$

و منه :

$$J_{/\Delta}(P_1) = \frac{2}{5}.0,1.(0,2)^2 + 0,1(0,3)^2 = 4,6.10^{-3}\ kg.m^2$$

4- توازن جسم صلب خاضع إلى قوى

• شرط توازن جسم صلب قابل للدوران حول محور ثابت :

يتوازن جسم صلب قابل للدوران حول محور Δ ثابت و خاضع إلى تأثير قوى خارجية عندما يكون المجموع الجبري لعزوم هذه القوى معدوم أي :

$$\sum M_{/\Delta}(\vec{F}_{ext}) = 0$$

• شرط توازن جسم صلب خاضع إلى قوى متلاقية :

- يتوازن جسم صلب خاضع إلى قوى خارجية متلاقية إذا تحقق :

$$\sum \vec{F}_{ext} = \vec{0}$$

التمرين (3) : (التمرين : 018 في بنك التمارين على الموقع) (*)

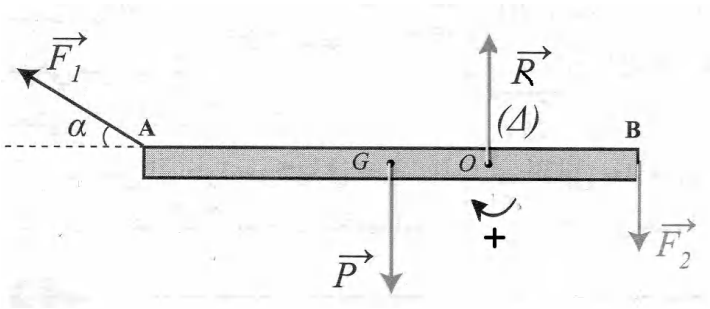

1- قضيب متجانس AB ثقله P = 10 N يمكنه الدوران حول محور أفقي (Δ) . تطبق عند طرفيه A و B قوتان $\vec{F}_1$ و $\vec{F}_2$ شدتهما : $F_1 = 2$ N ، $F_2 = 1{,}5$ N ، و واقعتين في المستوي الشاقولي العمودي على المحور (Δ) .

يعطى : OA = 70 cm ، OB = 30 cm ، OG = 20 cm ، α = 60° .

أ- أحسب مجموع عزوم القوى المطبقة على القضيب .

ب- في أي اتجاه يدور القضيب ؟

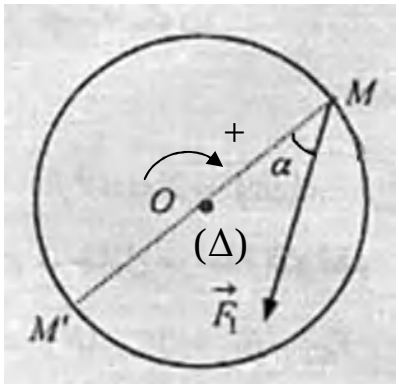

2- قرص دائري نصف قطره R = 30 cm ، يستطيع الدوران بدون احتكاك حول محور (Δ) المار من مركزه في الاتجاه المبين في الشكل .

أ- تؤثر في النقطة (M) من محيط القرص قوة $\vec{F}_1$ شدتها 2N بحيث يصنع حاملها زاوية α = 30° (الشكل) . أحسب عزم هذه القوة بالنسبة لمحور الدوران (Δ) .

ب- حدد جهة القوة $\vec{F}_2$ المماسية لمحيط القرص و التي ينبغي أن تؤثر في النقطة M' نظيرة النقطة M بالنسبة للنقطة (o) حتى يكون القرص في حالة توازن (لا يدور) . ثم أحسب شدتها .

الأجوبة :

1- حساب مجموع عزوم القوى المطبقة:

القوى المطبقة: $\vec{F}_1$ ، $\vec{F}_2$ ، $\vec{P}$ ، $\vec{R}$

$$\sum \mathcal{M}_{/\Delta}(\vec{F}) = \mathcal{M}_{/\Delta}(\vec{F}_1) + \mathcal{M}_{/\Delta}(\vec{F}_2) + \mathcal{M}_{/\Delta}(\vec{P}) + \mathcal{M}_{/\Delta}(\vec{R})$$

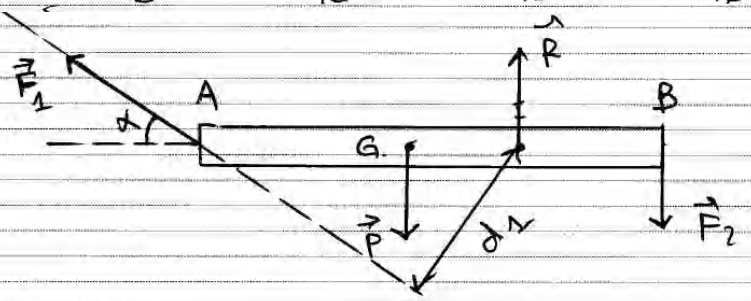

- $\mathcal{M}_{/\Delta}(\vec{F}_1) = F_1 d_1$

من الشكل:

$\sin\alpha = \frac{d_1}{OA} \rightarrow d_1 = OA.\sin\alpha$

ومنه:

$\mathcal{M}_{/\Delta}(\vec{F}_1) = F_1.OA.\sin\alpha = 2 \times 0,70.\sin 60^\circ = +1,21\ N.m$

- $\mathcal{M}_{/\Delta}(\vec{F}_2) = F_2\, OB = 1,5 \times 0,3 = 0,45\ N.m$

- $\mathcal{M}_{/\Delta}(\vec{P}) = -P.OG = -10 \times 0,2 = -2\ N.m$

إذن:

$\sum \mathcal{M}_{/\Delta}(\vec{F}) = 1,21 + 0,45 - 2 = -0,34\ N.m$

2-أ جهة دوران القضيب:

لأن: $\sum \mathcal{M}(\vec{F}) < 0$ ، إذن القضيب يدور في الاتجاه السالب (عكس عقارب الساعة).

ب- عزم القوة $\vec{F}_1$ بالنسبة لمحور الدوران:

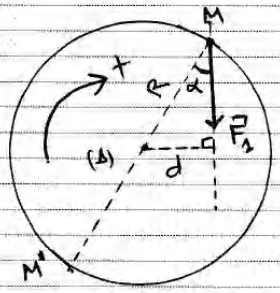

$\mathcal{M}_{/\Delta}(\vec{F_1}) = F_1 d$

من الشكل :

$\sin\alpha = \frac{d}{R} \rightarrow d = R\sin\alpha$

ومنه :

$\mathcal{M}_{/\Delta}(\vec{F_1}) = F_1 . R . \sin\alpha$

$\mathcal{M}_{/\Delta}(\vec{F_1}) = 2 \times 0,3 \cdot \sin 30° = 0,3\ N.m$

2- جهة و شدة القوة $\vec{F_2}$ اللازم تطبيقها في M' حتى يكون القرص في حالة توازن :

- جهة القوة $\vec{F_2}$ تكون في الاتجاه السالب (عكس عقارب الساعة)

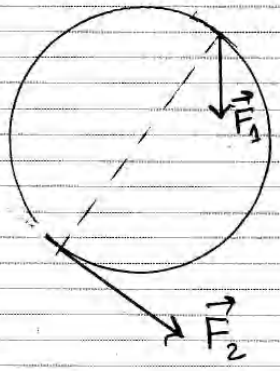

- الشدة :

شرط توازن الجملة :

$\sum \mathcal{M}_{/\Delta} = 0$

$\mathcal{M}_{/\Delta}(\vec{F_1}) + \mathcal{M}_{/\Delta}(\vec{F_2}) = 0$

$\mathcal{M}_{/\Delta}(\vec{F_1}) - F_2 R = 0$

$\mathcal{M}(\vec{F_1}) = F_2 R \rightarrow F_2 = \frac{\mathcal{M}(\vec{F_1})}{R}$

$F_2 = \frac{0,3}{0,3} = 1\ N$

5- عمل عزم ثابت في مسار دائري

• عبارة عزم ثابت في مسار دائري :

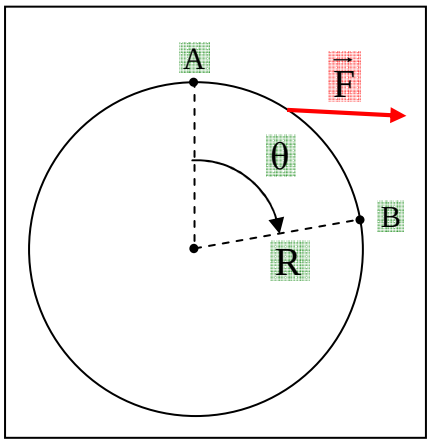

عمل قوة $\vec{F}$ ثابتة أثناء الانتقال على مسار دائري نصف قطره R من موضع A إلى موضع B يعبر عنه بالعلاقة :

$$W_{AB}(\vec{F}) = M_{/\Delta}(\vec{F}).\theta$$

حيث : $M_{/\Delta}$ عزم القوة $\vec{F}$ مقدر بالنيوتن في المتر (N.m) ، θ الزاوية الممسوحة أثناء الانتقال من الموضع A إلى الموضع B و التي تقدر بالراديان (rad) .

ملاحظة :

يمكن أيضا تطبيق نفس عبارة العمل السابقة في حالة المزدوجة حيث يعبر عن عمل هذه الأخيرة بالعبارة التالية :

$$W = M\,\theta$$

حيث : W عمل المزدوجة تقدر بالجول (J) ، M عزم المزدوجة تقدر بالنيوتن في المتر (N.m) ، θ الزاوية الممسوحة تقدر بالراديان .

6- الطاقة الحركية الدورانية

• عبارة الطاقة الحركية لجسم صلب في حركة دورانية :

الطاقة الحركية الدورانية لجسم صلب يدور حول محور ثابت Δ هو جداء عزم عطالة هذا الجسم بالنسبة لنفس المحور في مربع السرعة الزاوية (السرعة الدروانية) لهذا الجسم :

$$E_C = \frac{1}{2} J_\Delta \omega^2$$

• عبارة الطاقة الحركية لجسم صلب في حركة دورانية انسحابية :

إذا كان للجسم الصلب (S) حركة انسحابية و دورانية في آن واحد ، كتدحرج كرة مثلا على مستوي مائل ، تساوي الطاقة الحركية لهذا الجسم ، مجموع طاقتيه الحركية الانسحابية و الدورانية أي :

$$E_C = \frac{1}{2} m\, v^2 + \frac{1}{2} J_\Delta \omega^2$$

التمرين (4) : (التمرين : 006 في بنك التمارين على الموقع) (*)

قرص (D) كتلته m = 2 kg و نصف قطره R = 20 cm يدور بمعدل 180 دورة في الدقيقة حول محور Δ مار من مركزه (o) .

1- أوجد السرعة الزاوية للقرص و كذا السرعة الخطية لنقطة من محيطه .

2- نطبق قوة $\vec{F}$ مماسية للقرص و معاكسة لجهة حركته فيتوقف القرص بعد انجازه دورة واحدة .

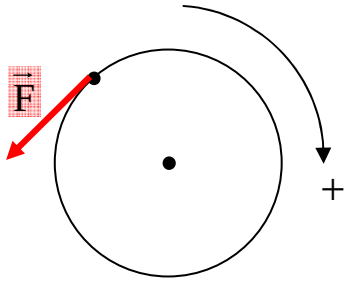

بإهمال احتكاك القرص مع محور الدوران . أوجد شدة القوة $\vec{F}$.

الأجوبة :

1- السرعة الزاوية و الخطية :

- $\omega = \frac{\theta}{2\pi} = \frac{180 \,.\, 2\pi}{60} = 6\pi \text{ rad/s}$
- $v = R\omega = 0.2 \,.\, 6\pi = 3.77 \text{ m/s}$

2- شدة القوة $\vec{F}$:

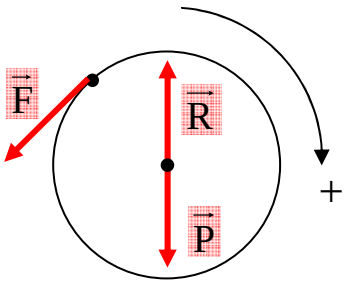

- الجملة المدروسة : (قرص) .
- مرجع الدراسة : سطحي أرضي نعتبره غاليلي .
- القوى الخارجية المؤثرة : ثقل القرص $\vec{P}$ ، قوة رد فعل محور الدوران $\vec{R}$ ، القوة المعاكسة للحركة $\vec{F}$.

حيث : $W_{A\text{-}B}(\vec{P}) = 0$ ، $W_{A\text{-}B}(\vec{R}) = 0$.

- بتطبيق مبدأ انحفاظ الطاقة بين الموضع (A) الذي طبقت فيه القوة $\vec{F}$ على القرص و الموضع (B) الذي توقف فيه القرص عن الدوران .

$$E_A + E_{\text{مكتسبة}} - E_{\text{مقدمة}} = E_B$$

$$E_{CA} - \left| W_{A\text{-}B}(\vec{F}) \right| = E_{CB}$$

$$\frac{1}{2} J_\Delta . \omega_A^{\,2} - \left| - M_\Delta(\vec{F}) . \theta \right| = 0$$

$$\frac{1}{2} J_\Delta . \omega_A^{\,2} - \left| - F.R.\theta \right| = 0$$

$$\frac{1}{2} J_{/\Delta} \omega_A^{\,2} - F.R.\theta = 0 \quad \rightarrow \frac{1}{2}\left(\frac{1}{2} mR^2\right)\omega_A^{\,2} = F.R.\theta \quad \rightarrow \frac{1}{4} mR^2 \omega_A^{\,2} = F.R.\theta$$

$$\frac{1}{4} mR\omega_A^{\,2} = F.\theta \quad \rightarrow \quad F = \frac{m \,.\, R \,.\, \omega_A^{\,2}}{4\theta} \quad \rightarrow \quad F = \frac{2.0.2\,(6\pi)^2}{4.2\pi} = 5.65 \text{ N}$$

التمرين (5) : (التمرين : 010 في بنك التمارين على الموقع) (**)

نؤثر على قرص (D) ، نصف قطره R = 20 cm و كتلته m = 314 g بمزدوجة قوى $(\vec{F}, \vec{F'})$ فنجعله يدور حول محور (Δ) يمر من مركزه ابتداء من السكون من موضع نعتبره A إلى موضع نعتبره B ، يمسح عندها القرص 20 دورة .

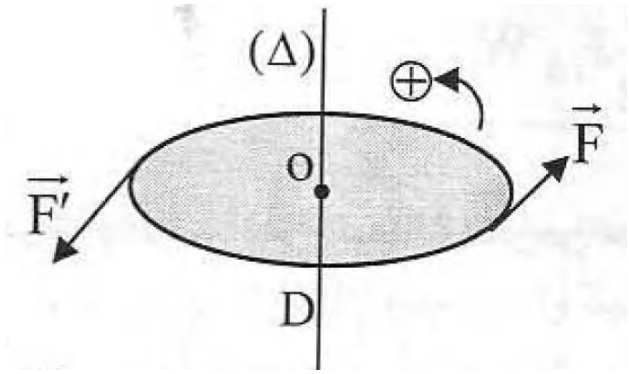

1- أوجد ما يلي :

أ- عزم مزدوجة القوى $(\vec{F}, \vec{F})$ بالنسبة للمحور Δ علما أن : F = F' = 10 N .

ب- عمل هذه المزدوجة أثناء الانتقال من الموضع A إلى الموضع B ماسحا الزاوية θ المذكورة .

2- مثل مخطط الحصيلة الطاقوية للجملة (قرص) بين A و B .

3- بتطبيق مبدأ انحفاظ الطاقة على الجملة (قرص) بين A و B . أوجد السرعة الزاوية للقرص عند الموضع B .

الأجوبة :

1- أ- عزم مزدوجة القوى $(\vec{F}, \vec{F'})$:

$$M(\vec{F}, \vec{F'}) = F.d = F(2R) = 2\,F.R$$
$$M(\vec{F}, \vec{F'}) = 2 \cdot 10 \cdot 0{,}2 = 4\ N.m$$

- عمل المزدوجة :

$$W_{AB}(\vec{F}, \vec{F'}) = M_{/\Delta}(\vec{F}, \vec{F'})$$
$$W_{AB}(\vec{F}, \vec{F'}) = 4 \cdot 20 \cdot 2\pi = 502{,}4\ J$$

2- الحصيلة الطاقوية للجملة (قرص) بين A و B :

- الجملة المدروسة : قرص
- مرجع الدراسة : سطحي أرضي نعتبره غاليلي .
- القوى الخارجية : الثقل $\vec{P}$ ، قوة رد الفعل $\vec{R}$ ، مزدوجة القوى $(\vec{F}, \vec{F'})$.

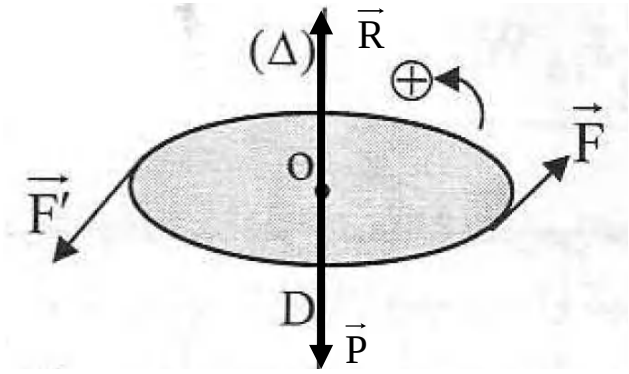

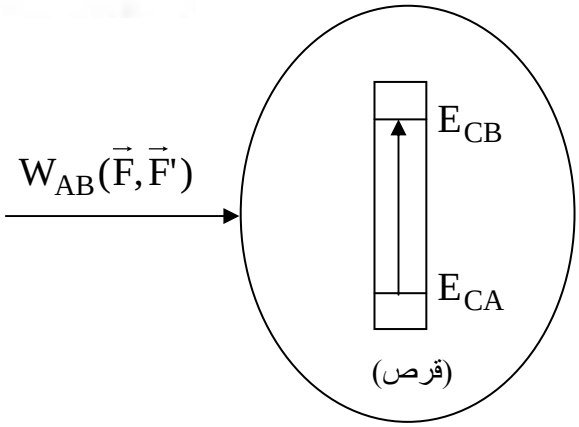

3- السرعة الزاوية عند B :

- بتطبيق مبدأ انحفاظ الطاقة على الجملة (قرص) بين A و B :

$$E_A + E_{مكتسبة} - E_{مقدمة} = E_B$$

بالاعتماد على الحصيلة الطاقوية السابقة :

$$E_{CA} + W_{AB}(\vec{F},\vec{F}') = E_{CB}$$

$$0 + W_{AB}(\vec{F},\vec{F}') = \frac{1}{2}J\omega_B{}^2$$

$$W_{AB}(\vec{F},\vec{F}') = \frac{1}{2}J\omega_B{}^2 \quad \rightarrow \quad W_{AB}(\vec{F},\vec{F}') = \frac{1}{2}(\frac{1}{2}mR^2)\omega_B{}^2$$

$$W_{AB}(\vec{F},\vec{F}') = \frac{1}{4}mR^2\omega_B{}^2 \quad \rightarrow \quad \omega_B = \sqrt{\frac{4\,W_{AB}(\vec{F},\vec{F}')}{m.R^2}}$$

$$\omega_B = \sqrt{\frac{4.502,4}{0,314.(0,2)^2}} = 400\ rad/s$$

التمرين (6) : (التمرين : 007 في بنك التمارين على الموقع) (*)

من نقطة A أعلى مستوي مائل طوله AB = 3 m و يميل على الأفق بزاوية $\alpha = 30°$ ، نترك بدون سرعة ابتدائية كرة كتلتها m = 400 g و نصف قطرها R = 20 cm تتدحرج باتجاه نقطة B أسفل المستوي المائل ، أثناء ذلك تخضع الكرة إلى قوة احتكاك نعتبر شدتها ثابتة و تساوي 1 N .

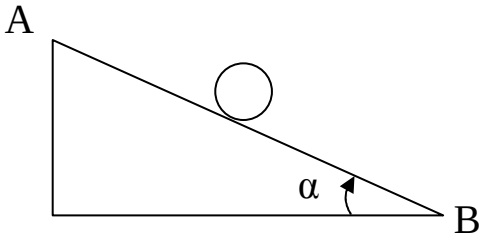

1- أحسب عزم عطالة الكرة بالنسبة لمحور دورانها .

2- أكتب بدلالة v ، m ، عبارة الطاقة الحركية للكرة .

3- بتطبيق مبدأ انحفاظ الطاقة ، أوجد سرعة مركز الكرة عن الموضع B .

يعطى : $g = 10\ m/s^2$.

الأجوبة :

1- عزم عطالة الكرة بالنسبة لمحور دورانها :

$$J_{/\Delta} = \frac{2}{5}mR^2$$

$$J_{/\Delta} = \frac{2}{5}.0,4(0,2)^2 = 6,4.10^{-3}\ kg.m^2$$

2- عبارة الطاقة الحركية للكرة بدلالة v ، m :

تدحرج الكرة هو حركة انسحابية دورانية لذا يكون :

$$E_C = \frac{1}{2} m v^2 + \frac{1}{2} J_{/\Delta} \omega^2$$

$$E_C = \frac{1}{2} m v^2 + \frac{1}{2} (\frac{2}{5} m R^2)(\frac{v}{R})^2 \quad \rightarrow E_C = \frac{1}{2} m v^2 + \frac{1}{5} (m R^2) \frac{v^2}{R^2}$$

$$E_C = \frac{1}{2} m v^2 + \frac{1}{5} m v^2 \quad \rightarrow E_C = \frac{5 m v^2 + 2 m v^2}{10} \rightarrow E_C = \frac{7}{10} m v^2$$

3- سرعة مركز الكرة عن الموضع B :

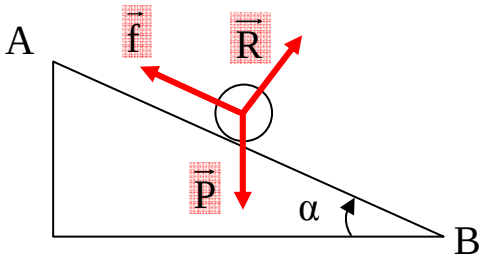

- الجملة المدروسة : (كرة) .
- مرجع الدراسة : سطحي أرضي نعتبره غاليلي .
- القوى الخارجية المؤثرة : الثقل $\vec{P}$ ، قوة الاحتكاك $\vec{f}$ قوة رد الفعل $\vec{R}$.
- بتطبيق مبدأ انحفاظ الطاقة بين الموضعين A و B .

$$E_A + E_{مكتسبة} - E_{مقدمة} = E_B$$

$$E_{CA} + W_{A-B}(\vec{P}) - \left| W_{A-B}(\vec{f}) \right| = E_{CB}$$

$$0 + mgh - |-f.AB| = \frac{7}{10} m.v_B^2 \quad \rightarrow \quad mgh - f.AB = \frac{7}{10} m.v_B^2$$

من الشكل :

$$\sin\alpha = \frac{h}{AB} \rightarrow h = AB \sin\alpha$$

و منه يصبح :

$$mg.AB.\sin\alpha - f.AB = \frac{7}{10} m.v_B^2$$

$$AB(mg.\sin\alpha - f) = \frac{7}{10} m.v_B^2 \rightarrow v_B = \sqrt{\frac{10.AB(mg.\sin\alpha - f)}{7m}}$$

$$v_B = \sqrt{\frac{10.3(0,4.10.\sin 30 - 1)}{7.0,4}} = 3,27 \text{ m/s}$$

5- تمارين متنوعة

التمرين (7) : (التمرين : 014 في بنك التمارين على الموقع) (**)

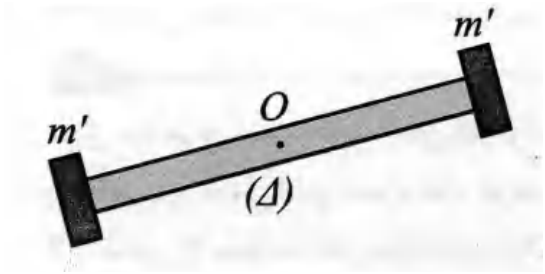

تتشكل الجملة المبينة في الشكل المقابل من قضيب (B) ، كتلته m = 200 g ، طوله L = 50 cm و قابل للدوران حول محور أفقي (Δ) يمر من مركزه . يثبت بطرفي القضيب جسمان نقطيان متماثلان (S_1) ، (S_2) كتلة كل منهما m' = 150 g .

1- ندير الجملة حول المحور (Δ) بسرعة زاوية ω = 10,47 rad/s .

جد :

أ- قيمة الزاوية الممسوحة θ أثناء هذه الحركة و كذا عدد الدورات المنجزة n خلال دقيقتينمن الدوران .

ب- عزم عطالة الجملة $J_{/\Delta}$ بالنسبة لمحور الدوران (Δ) .

جـ- الطاقة الحركية للجملة E_{C0} .

2- بعد مدة 2 min من حركة الجملة ، نتركها لحالها فتتباطأ نتيجة قوى احتكاك تعيق حركتها ، فتتوقف خلال مدة 10 min ، نرمز لعمل قوة الاحتكاك بـ W_f .

أ- مثل مخطط الحصيلة الطاقوية للجملة أثناء تباطئها حتى توقفها .

ب- بتطبيق مبدأ انحفاظ الطاقة على الجملة (B + S_1 + S_2) بين لحظة بداية تباطأ حركة الجملة حتى لحظة توقفها ، أحسب عمل الاحتكاك أثناء هذا الانتقال الذي نعتبره ثابتا .

جـ- أحسب الاستطاعة المحولة من الجملة إلى الوسط الخارجي بفعل الاحتكاك .

3- يتوقف القضيب بعد أن يكون قد أنجز 500 دورة ، أحسب عزم قوى الاحتكاك M_f باعتباره ثابتا .

الأجوبة :

1- أ- الزاوية الممسوحة θ

$\omega_0 = \frac{\theta}{\Delta t} \rightarrow \theta = \omega_0 \Delta t$

$\theta = 10,47 \times 2 \times 60 = 1256,4$ rad

عدد الدورات المنجزة n

$n = \frac{\theta}{2\pi} = \frac{1256,4}{2\pi} \approx 200$ tr

1- ب- عزم عطالة الجملة :

الجملة تتكون من القضيب (B) والجسمان النقطيان المتماثلان (S_1) ، (S_2) لذا يكون :

$$J_{/\Delta} = J_{/\Delta}(B) + J_{/\Delta}(S_1) + J_{/\Delta}(S_2)$$

- القضيب يدور حول محوره ومنه :

$$J_{/\Delta}(B) = \frac{1}{12} mL^2$$

- الجسمان النقطيان يبعدان عن محور الدوران بمقدار $\frac{L}{2}$ ومنه :

$$J_{/\Delta}(S_1) = J_{/\Delta}(S_2) = m'\left(\frac{L}{2}\right)^2$$

إذن :

$$J_{/\Delta} = \frac{1}{12} mL^2 + m'\left(\frac{L}{2}\right)^2 + m'\left(\frac{L}{2}\right)^2$$

$$J_{/\Delta} = \frac{1}{12} mL^2 + m'\frac{L^2}{4} + m'\frac{L^2}{4}$$

$$J_{/\Delta} = \frac{1}{12} mL^2 + \frac{1}{4} m'L^2 + \frac{1}{4} m' L^2$$

$$J_{/\Delta} = \frac{1}{12} mL^2 + \frac{2}{4} mL^2$$

$$J_{/\Delta} = \frac{1}{12}.0,2\,(5)^2 + \frac{1}{2}(0,15)(0,5)^2 = 2,29.10^{-2}\ Kg.m^2$$

ب- الطاقة الحركية للجملة :

$$E_c = \frac{1}{2} J_{/\Delta}\,\omega_0^2$$

$$E_{c0} = \frac{1}{2}.2,29.10^{-2}(10,47)^2 = 1,26J$$

ج- 2- مخطط الحصيلة الطاقوية :

تتناقص حركة الجملة (S_2+S_1+B) نتيجة وجود الاحتكاك لذلك يكون :

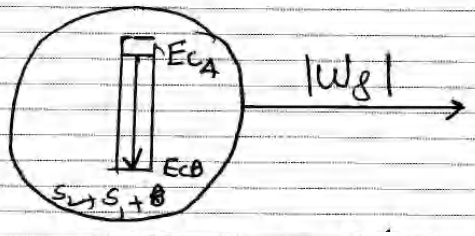

ب- عمل قوى الاحتكاك :

- بتطبيق مبدأ انحفاظ الطاقة على الجملة (S_2+S_1+B) بين لحظة بداية التناقص (الوضع A) و لحظة التوقف (الوضع B)

$$E_A + E_{\text{مقاومة}} - E_{\text{محركة}} = E_B$$

$E_{cA} - |W_f| = 5E_{c0} \rightarrow |W_f| = E_{c0} = 1,26\ J$

وكون أن الاحتكاك معيق للحركة يكون $W_f < 0$ ومنه

$W_f = -1,26\ J$

ج- الاستطاعة المحولة بفعل الاحتكاك:

$P = \frac{|W_f|}{\Delta t} = \frac{|-1,26|}{10 \times 60} = 2,1 \cdot 10^{-3}\ W$

3- عزم قوة الاحتكاك:

$W_f = \mathcal{M}_{\Delta F}\, \theta \rightarrow \mathcal{M}_{\Delta F} = \frac{W_f}{\theta}$

$\mathcal{M}_{\Delta F} = \frac{-1,26}{500 \times 2\pi} \approx -4 \cdot 10^{-4}\ N.m$

التمرين (8) : (التمرين : 021 في بنك التمارين على الموقع) (**)

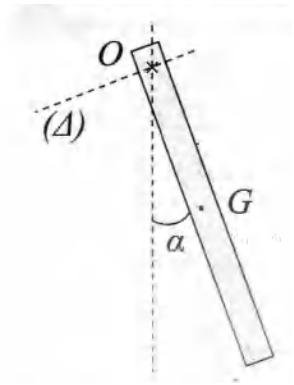

مسطرة مسطحة متجانسة يمكنها الدوران بدون إحتكاك في مستوي شاقولي حول محور أفقي (Δ) يمر من الطرف (o) للمسطرة . طول المسطرة L = 50 cm و كتلتها m .

1- أوجد عبارة عزم عطالة المسطرة بالنسبة للمحور (Δ) بدلالة m ، L .

2- تزاح المسطرة عن وضع توازنها بزاوية $\alpha = 30°$ ثم تترك لحالها بدون سرعة ابتدائية .

أ- مثل مخطط الحصيلة الطاقوية للجملة مسطرة بين لحظة تركها (الوضع A) و لحظة مرورها بوضع التوازن (الوضع B) .

ب- أحسب سرعتها الزاوية عند مرورها بوضع التوازن .

يعطى : $g = 9,8\ s/m^2$.

3- تواصل المسطرة حركتها في نصف المستوي المقابل بعد مرورها بوضع التوازن . جِد أكبر زاوية β تشكلها المسطرة مع الشاقول في هذه الحالة ؟

يعطى : $g = 10\ m/s^2$.

الأجوبة :

1- عبارة عزم عطالة المسطرة بالنسبة للمحور (Δ):

بتطبيق نظرية هويجنز:

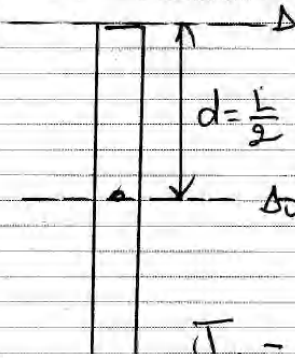

$J_\Delta = J_{\Delta_0} + md^2$

d هو بعد محور المسطرة Δ_0 الذي يمر من منتصفها و محور الدوران (Δ) وبالتالي يكون: $d = \frac{L}{2}$

إذن:

$J = \frac{1}{12}mL^2 + m\left(\frac{L}{2}\right)^2$

$$J_{/\Delta} = \frac{1}{12} mL^2 + m\frac{L^2}{4}$$

$$J_{/\Delta} = \frac{mL^2 + 3mL^2}{12}$$

$$J_{/\Delta} = \frac{4mL^2}{12} \rightarrow \boxed{J_{/\Delta} = \frac{1}{3} mL^2}$$

ج- مخطط الحصيلة الطاقوية :

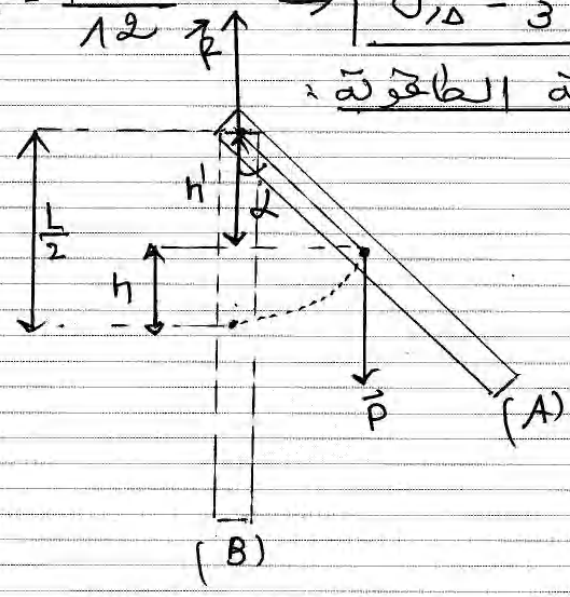

- الجملة المدروسة : مسطرة
- مرجع الدراسة : سطحي أرضي نعتبره غاليلي
- القوى الخارجية المؤثرة : $\vec{P}$ ، $\vec{R}$

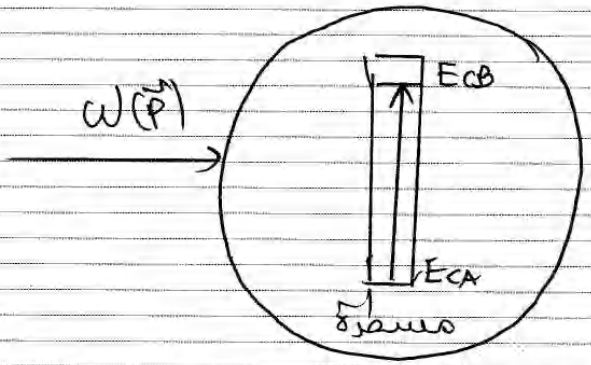

ب- السرعة الزاوية للمسطرة عند مرورها بوضع التوازن :

- بتطبيق مبدأ انحفاظ الطاقة على الجملة مسطرة بين الوضعين (A) و (B) :

$$E_A + \underbrace{E}_{\text{مكتسبة}} - \underbrace{E}_{\text{مقدمة}} = E_B$$

$$\cancel{E_{CA}^{=0}} + W_{A\to B}(\vec{P}) = E_{CB}$$

$$mgh = \frac{1}{2} J_{/\Delta} \omega_B^2$$

$$mgh = \frac{1}{2}\left(\frac{1}{3}mL^2\right)\omega_B^2$$

$$gh = \frac{1}{6}L^2\omega_B^2$$

$$6gh = L^2\omega_B^2$$

من الشكل:

$$\begin{cases} h = \frac{L}{2} - h' \\ \cos\alpha = \frac{h'}{\frac{L}{2}} \rightarrow h' = \frac{L}{2}\cos\alpha \end{cases}$$

ومنه:

$$h = \frac{L}{2} - \frac{L}{2}\cos\alpha = \frac{L}{2}(1-\cos\alpha)$$

يصبح لدينا:

$$6g\cdot\frac{L}{2}(1-\cos\alpha) = L^2\omega_B^2$$

$$3g(1-\cos\alpha) = L\omega_B^2 \rightarrow \omega_B = \sqrt{\frac{3g(1-\cos 30^\circ)}{0,5}}$$

$$\omega_B = \sqrt{\frac{3\times g_B(1-\cos 30^\circ)}{0,5}} = 2,81 \text{ rad/s}$$

3- أكبر زاوية B تشكلها المسطرة:

تشكل المسطرة أكبر زاوية لها عند انعدام سرعتها الزاوية في وضع نغتبره (c) في المستوي المقابل بعد مرورها بوضع التوازن:

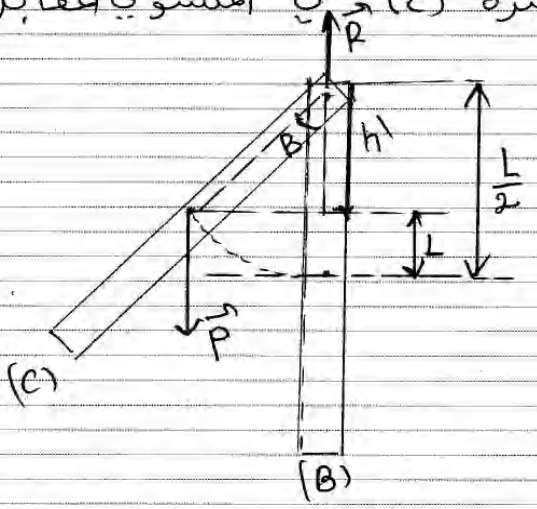

- الجملة المدروسة: مسطرة
- مرجع الدراسة: سطحي أرضي نغتبره غاليلي.
- القوى الخارجية: $\vec{P}$ ، $\vec{R}$
- بتطبيق مبدأ انحفاظ الطاقة بين الوضعين B و C:

$$E_B + E_{\text{مكتسبة}} - E_{\text{مقدمة}} = E_C$$

$$E_{cB} - |W(\vec{P})| = E_{cC}^{\nearrow 0}$$

$$\frac{1}{2} J_{/\Delta} \omega_B^2 - |-mgh| = 0$$

$$\frac{1}{2} J_{/\Delta} \omega_B^2 - mgh = 0$$

$$\frac{1}{2} J_{/\Delta} \omega_B^2 = mgh$$

من الشكل:

$$h = \frac{L}{2} - h'$$

$$\cos B = \frac{L'}{\frac{L}{2}} \rightarrow h' = \frac{L}{2}\cos B$$

ومنه:

$$h = \frac{L}{2} - \frac{L}{2}\cos B$$

يصبح:

$$\frac{1}{2}\left(\frac{1}{3}mL^2\right)\omega_B^2 = mg\left(\frac{L}{2} - \frac{L}{2}\cos B\right)$$

$$\frac{1}{6}mL^2\omega_B^2 = mg\left(\frac{L}{2} - \frac{L}{2}\cos B\right)$$

$$\frac{1}{6}L^2\omega_B^2 = g\frac{L}{2} - g\frac{L}{2}\cos B$$

$$\frac{2}{6}L^2\omega_B^2 = gL - gL\cos B$$

$$\frac{1}{3}L\omega_B^2 = g - g\cos B$$

$$gL\cos B = g - \frac{1}{3}L\omega_B^2$$

$$\cos B = \sqrt{\frac{g - \frac{1}{3}L\omega_B^2}{g}}$$

$$\cos B = \sqrt{\frac{9{,}8 - \frac{1}{3}\times 0{,}15\,(2{,}81)^2}{9{,}8}}$$

$$\cos B = \mathbf{0{,}93} \longrightarrow \boldsymbol{\alpha = 21.5°}$$

التمرين (9) : (التمرين : 016 في بنك التمارين على الموقع) (**)

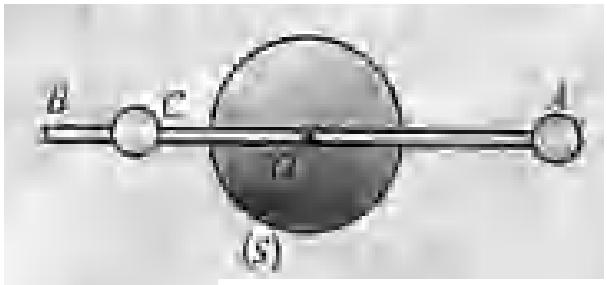

قرص متجانس (S) كتلته m = 100 g و نصف قطره r = 10 cm ، يمكنه الدوران في مستوي شاقولي حول محور أفقي مار من منصفه (o) ، يثبت على امتداد أحد أقطاره ساق AB مهملة الكتلة طولها AB = L = 40 cm بحيث ينطبق مركزها على مركز القرص و هي تحمل بنهايتها (A) كتلة نقطية $m_1 = 40$ g و تثبت كتلة أخرى m_2 قيمتها $m_2 = 80$ g بنقطة أخرى (C)

1- أوجد موضع الكتلة m_2 من الساق .
2- نفصل الكتلة m_2 عن الساق و هي في وضع أفقي و من دون سرعة ابتدائية .
أ- ماذا يحدث للجملة المتبقية ؟
ب- أحسب عمل قوة ثقل الكتلة m_1 أثناء الانتقال من الوضع الأفقي للساق إلى الوضع الشاقولي .
جـ- أحسب الطاقة الحركية للجملة (قرص S + كتلة m_1) عند المرور بوضع التوازن و كذلك السرعة الزاوية .
يعطى : $g = 10\ m/s^2$.

الأجوبة :

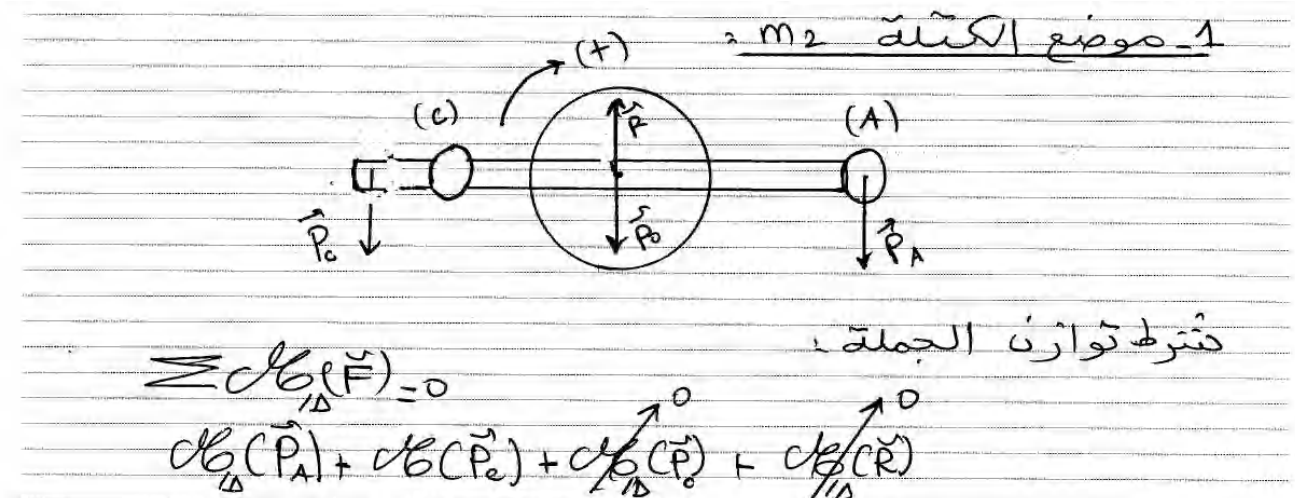

$P_A.OA - P_C.OC = 0$
$m_1.g.OA - m_2.g.OC = 0$
$m_1.OA - m_2OC = 0$

من الشكل : $OA = \dfrac{L}{2}$ و منه :

$$m_1\frac{L}{2} - m_2OC = 0$$

$$m_1\frac{L}{2} = m_2OC \rightarrow OC = \frac{m_1.L}{2m_2}$$

$$OC = \frac{0{,}04\,.\,0{,}4}{2\,.\,0{,}08} = 0{,}1\,m = 10\,cm$$

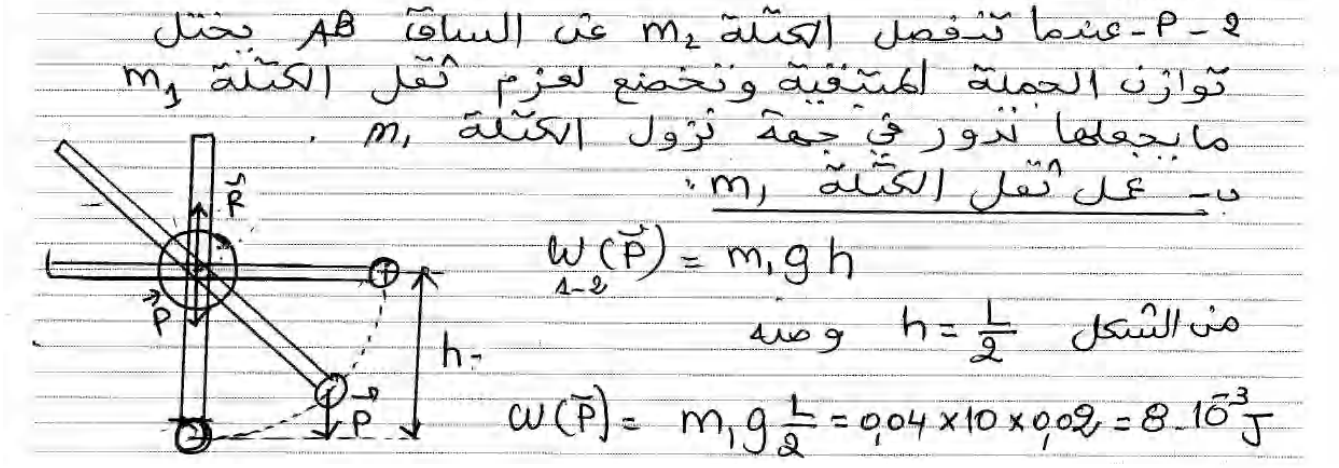

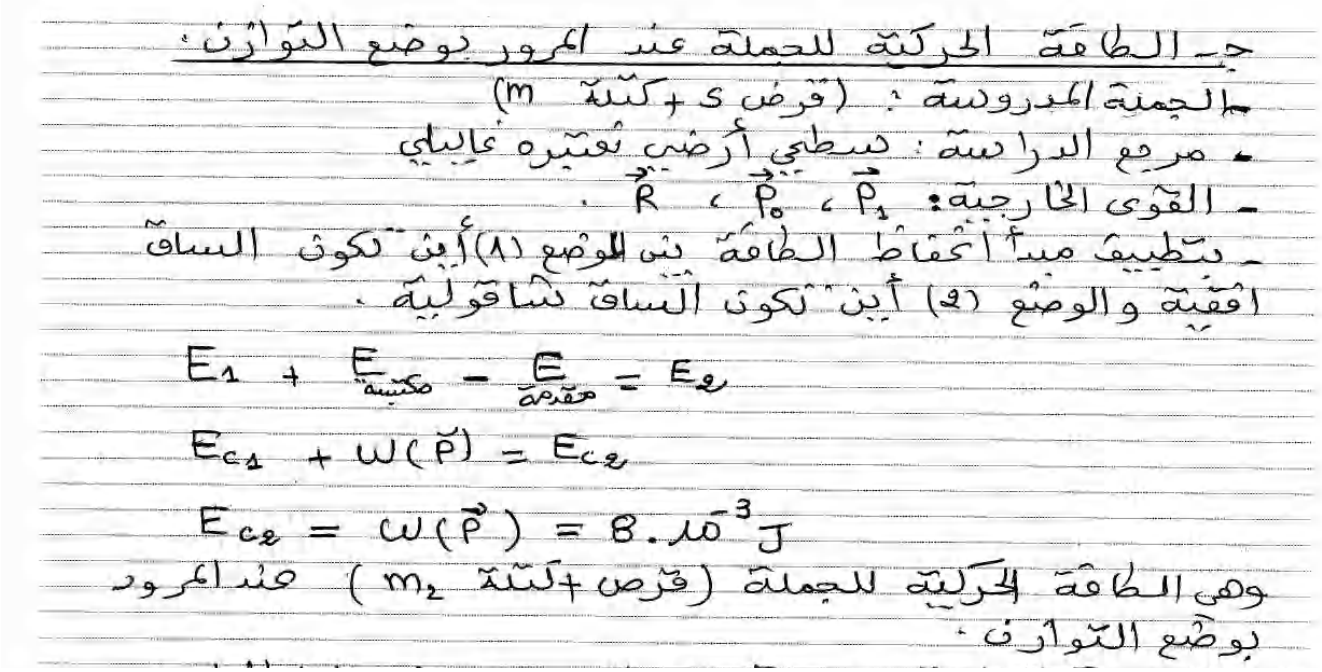
جـ- الطاقة الحركية للجملة عند المرور بوضع التوازن:
- الجملة المدروسة: (قرص S + كتلة m)
- مرجع الدراسة: سطحي أرضي نعتبره غاليلي
- القوى الخارجية: $\vec{P_1}$ ، $\vec{P_0}$ ، $\vec{R}$.
- بتطبيق مبدأ انحفاظ الطاقة بين الوضع (1) أين تكون الساق أفقية والوضع (2) أين تكون الساق شاقولية.

$$E_1 + E_{c\,\text{مكتسبة}} - E_{\text{مقدمة}} = E_2$$

$$E_{c1} + W(\vec{P}) = E_{c2}$$

$$E_{c2} = W(\vec{P}) = 8.10^{-3}\,J$$

وهي الطاقة الحركية للجملة (قرص + كتلة m_2) عند المرور بوضع التوازن.

ب- السرعة الزاوية للجملة عند المرور بوضع التوازن :

$$E_{C2} = \frac{1}{2} J_{/\Delta} \omega^2$$

حيث $J_{/\Delta}$ هو عزم عطالة الجملة بالنسبة لمحور الدوران و يكون :

$$J_{/\Delta} = J_{(S)/\Delta} + J_{(m_1)/\Delta}$$

$$J_{/\Delta} = \frac{1}{2} m_S r^2 + m_1 (\frac{L}{2})^2 \quad \rightarrow J_{/\Delta} = \frac{1}{2} m_S r^2 + \frac{1}{4} m_1 L^2$$

و منه يصبح :

$$E_{C2} = \frac{1}{2} (\frac{1}{2} m_S r^2 + \frac{1}{4} m_1 L^2) \omega^2$$

$$E_{C2} = (\frac{1}{4} m_S r^2 + \frac{1}{8} m_1 L^2) \omega^2 \quad \rightarrow \omega = \sqrt{\frac{E_{C_2}}{\frac{1}{4} m_S r^2 + \frac{1}{8} m L^2}}$$

$$\omega = \sqrt{\frac{8.10^{-3}}{\frac{1}{4}.0{,}1.(0{,}1)^2 \; + \; 0{,}125.0{,}04\,(0{,}4)^2}} = 2{,}76\,\text{rad/s}$$

التمرين (10) : (التمرين : 020 في بنك التمارين على الموقع) (**)

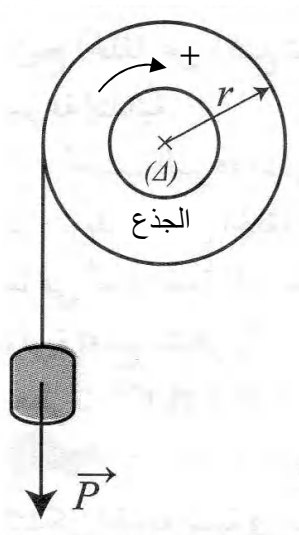

يدار ملفاف بواسطة جذع محرك يطبق على المحور (Δ) مزدوجة عزمها M_Δ و عملها W_d يلتف حول الأسطوانة حبل يستعمل في رفع جسم (S) ثقله 2000 N بسرعة ثابتة ، نصف قطر اسطوانة الملفاف R = 30 cm .

1- مثل مخطط الحصيلة الطاقوية للجملة (ملفاف + جذع) أثناء رفع الحمولة .
2- أحسب عزم المزدوجة المحركة .
3- أحسب عمل المزدوجة المحركة عندما يدور الملفاف 2,5 دورة .
4- ما هو الارتفاع الذي يصعده الجسم (S) من أجل 2,5 دورة . أحسب عمل ثقل الجسم (S) أثناء هذا الانتقال .
5- ما هي استطاعة المحرك إذا كانت السرعة الزاوية لدوران إذا كان الملفاف يدور بمعدل 1 دورة في الدقيقة .

الأجوبة :

1- مخطط الحصيلة الطاقوية :

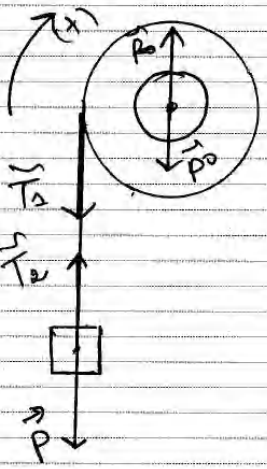

- الجملة المدروسة : (ملفاف + جذع)
- مرجع الدراسة : سطحي أرضي نعتبره غاليلي .
- القوى الخارجية المؤثرة : $\vec{P_0}$ ، $\vec{R}$ ، $\vec{T_1}$



2- حزم المزدوجة المحركة:

حركة الجملة دورانية منتظمة لذا يكون:

$$\sum \mathcal{M}_{/\Delta} = 0$$

$$\mathcal{M}_{/\Delta} + \mathcal{M}(\vec{T}_1) = 0$$

$$\mathcal{M}_{/\Delta} - T_1 r = 0 \quad \text{---} \quad (1)$$

حركة الجسم (S) مستقيم منتظمة لذا يكون:

$$T_2 = P$$

وكون أن $T_2 = T_1$ نكتب:

$$T_1 = P \quad \text{----} \quad (2)$$

- بتعويض (2) في (1):

$$\mathcal{M}_{/\Delta} - Pr = 0 \rightarrow \mathcal{M}_{/\Delta} = P.r$$

$$\mathcal{M}_{/\Delta} = 2000 \times 0,3 = 600\ N.m$$

3- عمل المزدوجة:

بتطبيق مبدأ انحفاظ الطاقة على الجملة (مطاف+جزع) بين لحظتين t_1 و t_2 وبالاعتماد على محفظ الحصيلة الطاقوية:

$$W_d - |W(\vec{T}_1) = 0$$

$$W_d - |\mathcal{M}(T_1).\theta)| = 0$$

$$W_d - |-T_1.d.\theta| = 0$$

$$W_d - T_1.d.\theta = 0$$

$$W_d = T_1.d.\theta$$

لدينا سابقا: $T_2 = P$ ومنه

$$W_d = P.d.\theta$$

$$W_d = 2000 \times 0,3 \times 2,5 \times 2\pi = 9,42.10^3\ J$$

4 - الارتفاع الذي يصعده الجسم ؟

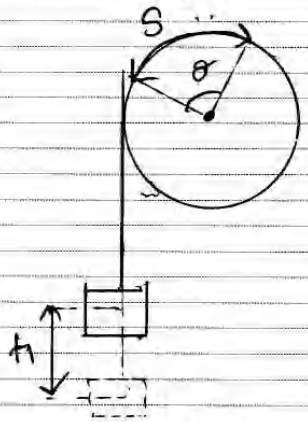

عندما يدور الملفاف زاوية θ تنقطع نقطة من محيط الاسطوانة مسافة خطية قدرها $S = R\theta$ وهي نفس الارتفاع الذي يصعده الجسم اي :

$$h = S = R\theta$$

$$h = 93 \times 2{,}5\pi = 4{,}71 \text{ m}.$$

- عمل ثقل الحمولة ؟

$$W(\vec{P}) = -Ph = -2000 \times 4{,}71 = -9{,}42 \cdot 10^3 \text{ J}$$

5- استطاعة المحرك ؟

$$P = \frac{\text{عمل مزدوجة المحرك}}{\Delta t}$$

$$P = \frac{M_{/\Delta} \times \theta}{\Delta t} = M_{/\Delta} \cdot \frac{\theta}{\Delta t} \rightarrow P = M_{/\Delta}\,\omega$$

$$P = 600 \times \frac{2\pi}{1} = 3769 \text{ W}$$

التمرين (11) : (التمرين : 022 في بنك التمارين على الموقع) (**)

تتشكل الجملة المبينة في الشكل المقابل من أسطوانة (C) متجانسة كتلتها M = 50 kg و نصف قطرها R = 20 cm و هي قابلة للدوران حول محور أفقي (Δ) يمر من مركزها (o) تلتحم مع الأسطوانة ساق OA كتلتها مهملة و طولها L = 60 cm و قد ثبت عند طرفها A جسم (S) نعتبره نقطي كتلته m = 5 kg .

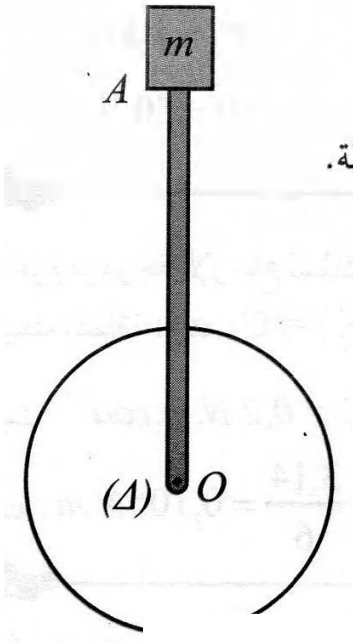

توجد الساق في وضع شاقولي و من فوق محور الدوران (Δ) ، تترك الجملة (الساق + الأسطوانة) لحالها بدون سرعة ابتدائية .

1- بإهمال الاحتكاكات ، أحسب السرعة الخطية الأعظمية التي تبلغها الحمولة .

2- في الحقيقة ، السرعة الأعظمية للحمولة هي 3 m/s .

أ- أحسب عمل قوى الاحتكاك .

ب- إذا افترضنا أن عزم القوى ثابت ، أحسب قيمته .

يعطى :

عزم عطالة الأسطوانة بالنسبة لمحورها : $J_{/\Delta} = \frac{1}{2}MR^2$ ، . $g = 10 \text{ m/s}^2$.

الأجوبة :

1- السرعة الخطية الاعظمية التي يبلغها الجسم :

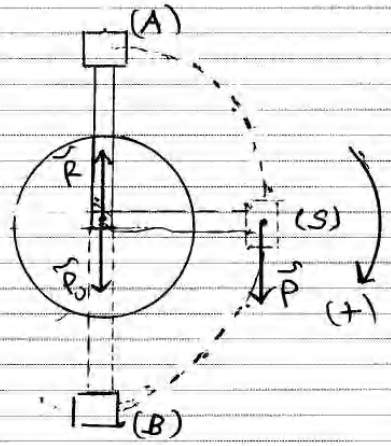

يبلغ الجسم الصلب (S) سرعته الاعظمية عند مروره بوضع التوازن أين تكون الساق بشاقولية (الشكل)

- الجملة المدروسة : (اسطوانة + جسم)
- مرجع الدراسة : سطحي أرضي نعتبره غاليلي .
- القوى الخارجية المؤثرة : $\vec{P}$ ، $\vec{P_0}$ ، $\vec{R}$.
- تطبيق مبدأ انحفاظ الطاقة بين الوضعين (A) و (B) .

$$E_A + E_{\text{مكتسبة}} - E_{\text{مقدمة}} = E_B$$

$$\cancel{E_{cA}}^{=0} + W(\vec{P}) = E_{cB}$$

$$mgh = \frac{1}{2} J_{/\Delta} \omega^2$$

$$2mgh = J_{/\Delta} \omega^2$$

من الشكل : $h = 2L$ ومنه

$$2mg(2L) = J_{/\Delta} \omega^2$$

$$4mgL = J_{/\Delta} \omega^2$$

- الجسم الثقطي (S) والاسطوانة لهما نفس السرعة الزاوية لذا نعبر عن سرعة الجسم الثقطي الخطية كما يلي :

$$v = L\omega^2 \rightarrow \omega = \frac{v}{L}$$

لدينا أيضا :

$$J_{/\Delta} = J_{/\Delta}(C) + J_{/\Delta}(S)$$

$$J_{/\Delta} = \frac{1}{2} MR^2 + mL^2$$

يصبح لدينا :

$$4mgL = \left(\frac{1}{2}MR^2 + mL^2\right)\frac{v^2}{L^2}$$

$$v = \sqrt{\frac{4mgL^3}{\frac{1}{2}MR^2 + mL^2}}$$

$$v = \sqrt{\frac{4\times 5\times 10(0,6)^3}{\frac{1}{2}\cdot 50(0,2)^2 + 5(0,6)^2}} = 3,93\ m/s$$

2 - 2- عمل قوى الاحتكاك :

- بتطبيق مبدأ انحفاظ الطاقة على الجملة (اسطوانة + جسم S) بين الوضعين (A) و (B) وبإتباع الطريقة السابقة مع أخذ قوى الاحتكاك بعين الاعتبار،

$$E_A + E_{\text{مكتسبة}} - E_{\text{مقدمة}} = E_B$$

$$\cancel{E_{CA}^{\nearrow 0}} + W(\vec{P}) - |W_{A-B}(\vec{f})| = E_{cB}$$

$$mgh - |W_{A-B}(\vec{f})| = \frac{1}{2}J\omega^2$$

$$mg(2L) - |W_{A-B}(\vec{f})| = \frac{1}{2}\left(\frac{1}{2}MR^2 + mL^2\right)\frac{v^2}{L^2}$$

$$|W_{A-B}(\vec{f})| = 2mgL - \frac{1}{2}\left(\frac{1}{2}MR^2 + mL^2\right)\frac{v^2}{L^2}$$

$$|W_{A-B}(\vec{f})| = 2\times 5\times 10(0,6) - \frac{1}{2}\left(\frac{1}{2}\cdot 50(0,2)^2 + 5(0,6)^2\right)\frac{3^2}{(0,6)^2}$$

$$|W_{A-B}(\vec{f})| = 25\ J$$

وكون أن قوى الاحتكاك معيقة يكون : $W_{A-B}(\vec{f}) < 0$ ومنه

$$W_{A-B}(\vec{f}) = -25\ J$$

ب- عزم قوى الاحتكاك :

$$W_{A-B}(\vec{f}) = \mathcal{M}_{/\Delta}(\vec{F})\,\theta \rightarrow \mathcal{M}_{/\Delta}(\vec{F}) = \frac{W(\vec{f})}{\theta}$$

أثناء انتقال الجملة (قرص + جسم S) من الوضع A إلى الوضع B تكون قد مسحت زاوية قدرها $\theta = \pi$.

إذن :

$$\mathcal{M}_{/\Delta}(\vec{f}) = \frac{-25}{\pi} = 7,96\ N.m$$

التمرين (12) : (التمرين : 017 في بنك التمارين على الموقع) (**)

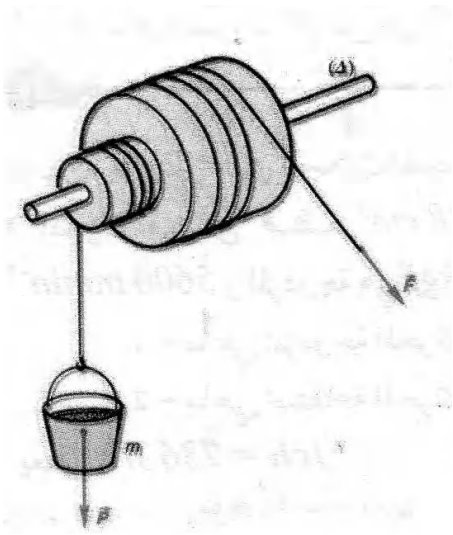

يتشكل ملفاف من أسطوانتين (C_1) ، (C_2) لهما نفس محور الدوران (Δ) ، نصفي قطريهما على التوالي :

$R_2 = 10\ cm$ ، $R_1 = 20\ cm$

يلتف حول الأسطوانتين خيطان كما مبين في الشكل التالي :

يستعمل هذا الملفاف في رفع حمولة كتلتها $m = 40\ kg$ ، نفترض أن رفع الحمولة يتم بسرعة ثابتة .

1- أحسب شدة القوة $\vec{F}$ التي يجب تطبيقها على طرف الخيط لرفع الحمولة .

2- حدد زاوية دوران الملفاف عندما ترتفع الحمولة ارتفاعا قدره $10\ m$ ثم أحسب عمل القوة $\vec{F}$ عندئذ .

يعطى : $g = 10\ m/s^2$

الأجوبة :

1- شدة القوة $\vec{F}$ التي يجب تطبيقها على طرف الخيط

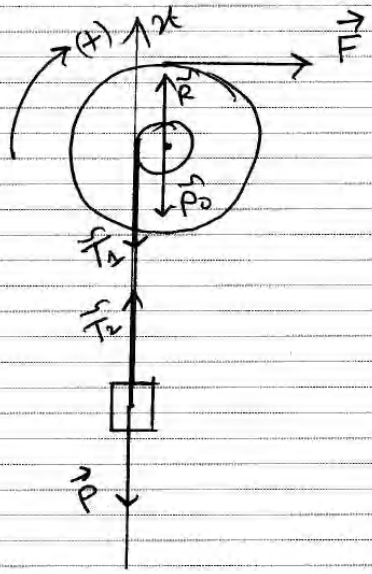

رفع الحمولة تم بسرعة ثابتة لذا يكون :

$$\sum \mathcal{M}_{/\Delta}(\vec{F}) = 0$$

$$\mathcal{M}_{/\Delta}(\vec{F}) + \mathcal{M}(\vec{T_2}) = 0$$

$$F R_1 - T_2 R_2 = 0 \quad ----(1)$$

و بالنسبة للحمولة يكون :

$$\sum \vec{F}_{ext} = \vec{0}$$

$$\vec{P} + \vec{T}_2 = \vec{0}$$

بالاسقاط على المحور ox الموجه نحو الأعلى (في جهة الدوران)

$-P + T_2 = 0$

$-mg + T_2 = 0$ ..... (2)

من (2) : $T_2 = mg$ وحيث أن $T_2 = T$ يكون:

$T_1 = mg$

بالتعويض في (1):

$FR_1 - mgR_2 = 0$

$FR_1 = mgR_2 \longrightarrow F = \dfrac{mgR_2}{R_1}$

$F = \dfrac{40 \times 10 \times 0,1}{0,2} = 200N$

ج- زاوية دوران الخفاف:

عندما ترفع الحمولة ارتفاع قدره 10m تكون نقطة من محيط الاسطوانة (C_2) قطعت نفس المسافة الخطية (S_2) أي:

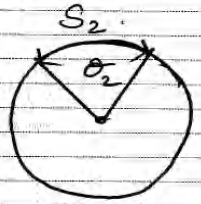

ولدينا:

$S_2 = 10m$

$S_2 = R_2\theta \rightarrow \theta = \dfrac{S_2}{R_2}$

$\theta = \dfrac{10}{0,1} = 100\,rad$

وهي نفسها زاوية دوران الخفاف .

● عمل القوة $\vec{F}$:

$W(\vec{F}) = M(\vec{F}).\theta = F.R_1.\theta = 200 \cdot 0,2 \cdot 100 = 400\ J$

التمرين (13): (التمرين : 019 في بنك التمارين على الموقع) (**)

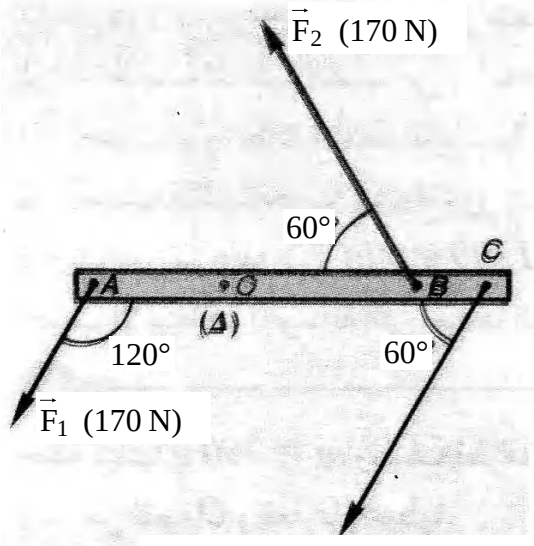

مسطرة مهملة الكتلة و قابلة للدوران حول محور أفقي (Δ) يمر من النقطة (o) .

نجعل هذه المسطرة في حالة توازن تحت تأثير ثلاث قوى واقعة في المستوي العمودي على المحور (Δ) .

يعطى : OA = 20 cm ، OB = 30 cm ، OC = 40 cm .

1- أحسب عزم القوة $\vec{F}_3$.

2- عين مميزات قوة رد الفعل $\vec{R}$ للمحور (Δ) على المسطرة .

الأجوبة :

1- عزم القوة $\vec{F_3}$:

نشترط توازن الحملة :

$$\sum \mathcal{M}_{/\Delta} = 0$$

$$\mathcal{M}_{/\Delta}(\vec{F_1}) + \mathcal{M}_{/\Delta}(\vec{F_2}) + \mathcal{M}_{/\Delta}(\vec{F_3}) = 0$$

نختار اتجاه عقارب الساعة اتجاهًا موجبا للحركة الدورانية .

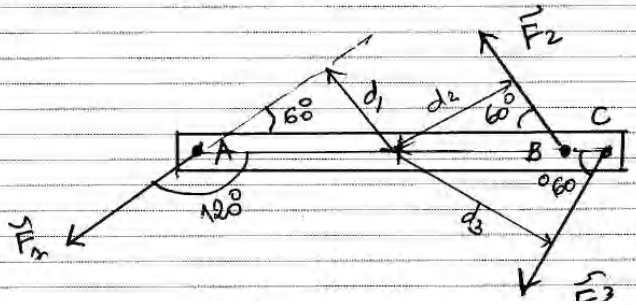

$$-F_1.d_1 - F_2.d_2 + M(\vec{F_3}) = 0$$

اعتمادًا على الشكل :

$$-F_1.OA\sin 60^\circ - F_2.OB.\sin 60^\circ + \mathcal{M}_{/\Delta}(F_3) = 0$$

$$\mathcal{M}_{/\Delta}(\vec{F_3}) = F_1.OA.\sin 60^\circ + F_2.OB.\sin 60^\circ$$

$$\mathcal{M}_{/\Delta}(\vec{F_3}) = (170.0,2.\sin 60) + (300.0,3.\sin 60^\circ) = 107,39\ N.m$$

شدة القوة $\vec{F_3}$:

$$\mathcal{M}(\vec{F_3}) = F_3.d_3 = F_3.OC.\sin\alpha \rightarrow F_3 = \frac{\mathcal{M}(\vec{F_3})}{OC.\sin 60^\circ}$$

$$\vec{F_3} = \frac{107,39}{0,4.\sin 60^\circ} \approx 310\ N$$

2- مميزات قوة رد الفعل :

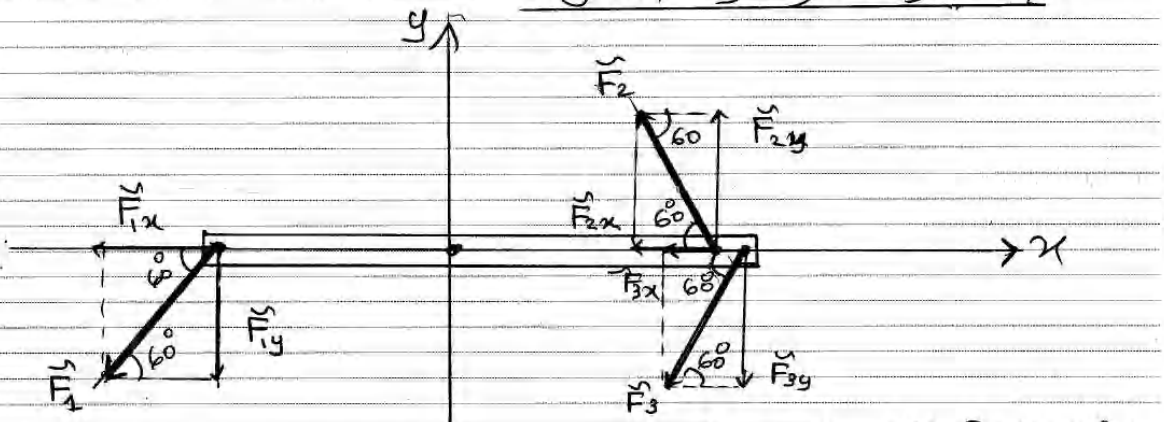

تشترط توازن الجملة :

$$\sum \vec{F} = \vec{0}$$

$$\vec{F_1} + \vec{F_2} + \vec{F_3} + \vec{R} = \vec{0}$$

بالاسقاط على المحورين ox ، oy :

$$\begin{cases} -F_1 \cos 60^\circ - F_2 \cos 60^\circ - F_3 \cos 60^\circ + R_x = 0 \\ -F_1 \sin 60^\circ + F_2 \sin 60^\circ - F_3 \sin 60^\circ + R_y = 0 \end{cases}$$

$$\begin{cases} R_x = +F_1 \cos 60^\circ + F_2 \cos 60^\circ + F_3 \cos 60^\circ \\ R_y = F_1 \sin 60^\circ - F_2 \sin 60^\circ + F_3 \sin 60^\circ \end{cases}$$

$$\begin{cases} R_x = (+F_1 + F_2 + F_3) \cos 60^\circ \\ R_y = (+F_1 - F_2 + F_3) \sin 60^\circ \end{cases}$$

$$\begin{cases} R_x = (+170 + 300 + 310) \cos 60 = 390\ N \\ R_y = (+170 - 300 + 310) \sin 60 = 150{,}88\ N \end{cases}$$

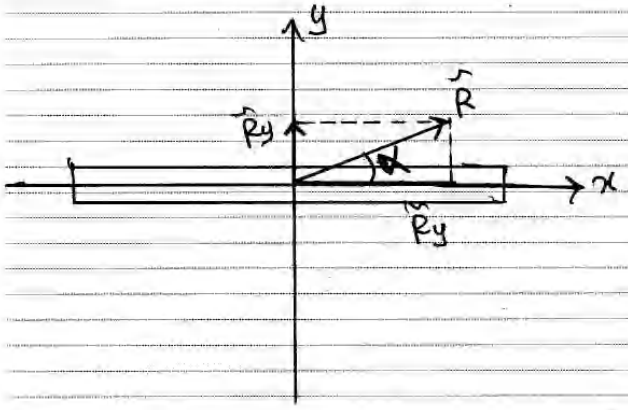

اذن مميزات قوة رد الفعل هي :

- نقطة التأثير : مركز الدوران
- المنحنى : يصنع الزاوية α مع المحور ox جيب :

$$\tan\alpha = \frac{R_y}{R_x} = \frac{150{,}88}{390} = 0{,}39 \rightarrow \alpha = 21^\circ$$

- الشدة :

$$R = \sqrt{R_x^2 + R_y^2}$$

$$R = \sqrt{(390)^2 + (150{,}88)^2} = 418{,}16\ N$$

** الأستاذ : فرقاني فارس **
ثانوية مولود قاسم نايت بلقاسم
الخروب - قسنطينة
Fares_Fergani@yahoo.Fr

نرجو إبلاغنا عن طريق البريد الإلكتروني بأي خلل في الدروس أو التمارين و حلولها .
وشكرا مسبقا

لتحميل نسخة من هذا الملف و للمزيد . أدخل موقع الأستاذ :

www.sites.google.com/site/faresfergani