لمراجعة الشاملة في الرياضيات الفصل 2

السنة الثانية

ميدان الأعداد و الحساب

التمرين1: أنجز العمليات التالية عموديا

$205 + 95 =$	$245 + 117$	$950 + 210$	$655 + 260$
$67 - 30 =$	$188 - 65$	$155 - 141$	$215 - 13$

التمرين 2:قَارِنْ بَيْنَ الأَعْدَادِ بِاسْتِعْمَالِ الرَّمْزِ> أو <

125 ... 1 52	50 ... 52	166 ... 14	145 ... 260
330 ... 339	221 ... 212	95 ... 1 85	200 ... 164

خمس مئات و عشرة.....500 | 30 + 600.....ستمائة و عشرة | 260 ... 250 وحدة

362 ... 300 + 20 + 6 | 405 ... 400 + 50

التمرين3: أكتب الأعداد التالية بالحروف أو بالأرقام

155	.....	مائة و سِتُّونِ	.....
670	.....	مئتين وخَمْسَةٌ و ثَمَانُونَ	.....
300	.....	مائة وسَبعَةَ عَشَر	.....
990	.....	ثلاث مائة و خمسة	.....
250	.....	تسعمائة و خمسون	.....
495	.....	مائة و عشرة	.....

www.dzexams.com

التمرين 4 :رتب الأعداد التالية تصاعديا و باستعمال الرمز المناسب 505/350/365/500/250

⟶ ....

***رتب الأعداد التالية تنازليا و باستعمال الرمز المناسب 200/305/355/240/540**

⟶ ....

التمرين 5:أكمل الجدول التالي متبعا المثال

	رقم الوحدات	عدد الوحدات	رقم العشرات	عدد العشرات	رقم المئات	المفكوك الجمعي
345	5	345	4	34	3	300+40+5
608						
450						
268						
185						

التمرين6:لون الأعداد المحصورة بين 700 و 800



التمرين7: احصر العدد بين العشرتين المتتاليتين

520	526	530
	335	
	658	
	456	
	268	
	185	

***احصر العدد بين المئتين المتتالية**

500	526	600
	335	
	658	
	456	
	268	
	185	

www.dzexams.com

التمرين 8: أكتب العدد في جدول المراتب

ثلاثمائة و خمسة و سبعون		
و	ع	م

سبعمائة و خمسون		
و	ع	م

مائة و تسعة		
و	ع	م

أربعمائة و تسعة عشر		
و	ع	م

الهندسة و الفضاء

التمرين 1:لاحظ الأشكال ثم أكمل الجدول



عدد المربعات	عدد المستطيل	المثلث القائم	المثلث

التمرين 2: عين الزاوية القائمة في الأشكال المقابلة



التمرين3: أكمل الجدول التالي

الشكل	عدد الرؤوس	عدد الأضلاع	عدد الزوايا القائمة
المربع			
المستطيل			
المثلث			
المثلث القائم			

www.dzexams.com

التمرين4: أكمل رسم الأشكال التالية

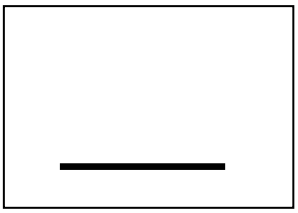			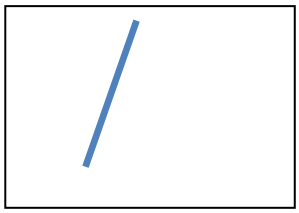
مربع	مستطيل	مثلث قائم	مثلث

التمرين 5:من أنا

*طل أضلاعي متقايسة و عندي أربع زوايا قائمة.....

*عندي أربع زوايا قائمة و أربع أضلاع متقايسة مثى مثى.....

*لي 3 أضلاع وليس عندي زوايا قائمة .....

*لي ثلاثة أضلاع و زاوية قائمة واحدة.....

المقادير و القياس

التمرين 1:أصل كل بطاقة بما يناسبها

السابعة صباحا	16:00	00:00	منتصف النهار
الثالثة بعد الظهر	19:00	12:00	الثالثة صباحا
السابعة مساء	07:00	03:00	العاشرة صباحا
السادسة مساء	15:00	10:00	منتصف الليل

التمرين2: أكمل الجدول

	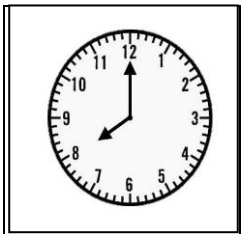		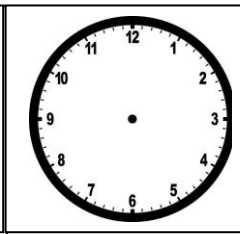		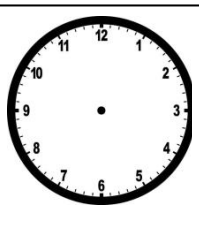
صباحا					11:30
مساء			18:00		

www.dzexams.com

التمرين 3: أكمل ما يلي

*يوجد في اليوم .....ساعة *1 ساعة =.....دقيقة

*نصف ساعة= دقيقة ساعة و نصف=.....دقيقة

*يدور عقرب الساعات دورتين في .....

*يدور عقرب الدقائق دورة في .....

التمرين 4 :استعمل المسطرة لقياس القطع التالية

1/ .....سنتيمتر

2/..... سنتيمتر

3/..... سنتيمتر

التمرين 5 : ارسم قطعة مستقيمة طولها 6 سنتمتر

التمرين 6: أكمل ب (المتر) أو (السنتيمتر)






.....	.....	.....	.....

التمرين 7: هذا مسار النملة للوصول الى قطعة السكر

*لون الزوايا القائمة في الشكل المقابل

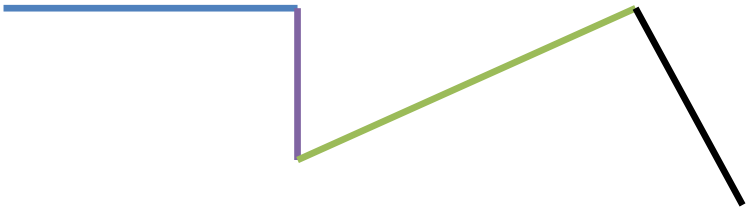

*القطعة الخضراء طولها ..... سنتيمتر * القطعة الزرقاء طولها .....سنتيمتر

*القطعة البرتقالية طولها .....سنتيمتر * القطعة السوداء طولها ..... سنتيمتر

طول المسار هو.....سنتيمتر

.....+.....+.....+.....=.....

www.dzexams.com

تنظيم معطيات

التمرين1: لاحظ الرزنامة ثم أجب

مَارِس 2019						
السّبت	الأحد	الإثنين	الثّلاثاء	الأربعاء	الخميس	الجمعة
						01
02	03	04	05	06	07	08
09	10	11	12	13	14	15
16	17	18	19	20	21	22
23	24	25	26	27	28	29
30	31					

*هذه الرزنامة هي لشهر ..... سنة.....

* في هذا الشهر .....يوم

* الشهر الذي قبله هو .....

*الشهر الذي يليه هو .....

* أول يوم في هذا الشهر هو .....

* آخر يوم في هذا الشهر هو.....

التمرين 2:ذهب الأب إلى السوق و اشترى القائمة التي في الجدول (أجب على مايلي معتمدا على معطيات الجدول)

الخضر	الوزن	الثمن
طماطم	2 kg	DA150
جزر	3 kg	210DA
موز	1 kg	300DA
برتقال	1kg	270DA
بطاطا	3 kg	200DA

***ما هو ثمن الطماطم؟.....**

***ما هو ورن البطاطا؟.....**

***ما هو وزن كل المشتريات؟.....**

***ما هو الغرض الأغلى سعرا؟.....**

***ما هو الأقل ثمنا؟.....**

***ذهب محمد إلى حديقة الحيوانات و راى الحيوانات التي سجلها في القائمة التالية**

الحيوانات	عددها
اسد	2
لبؤة	4
النسور	8
قرد	7
نعامة	3
جمل	5

- ما هو عدد كل الحيوانات؟.....
- ما هو عدد القردة؟.....
- ما هو الحيوان الأكثر عددا في الحديقة؟.....
- ما هو عدد الطيور في الحديقة؟.....
- ما هو عدد الحيوانات المفترسة؟.....

www.dzexams.com

وضعية 1:

فِي مَزرَعة7 الجَدّ 28 خَرُوفًا و 10 بَقرَاتٍ و عدَدٌ مِنَ الدَّجَا

1/. مَا هُو مجموع الخراف و البقرات معا؟

2/ما هو عدد الدجاجات إذا كانت كل الحيوانات 59 ؟

الوضعية 2:

عند ليلى 560دينار و زادتها أمها 350 دينار

1/ كم أصبح عند ليلى؟

*أرادت شراء قاموس ب610 دينارا

2/كم دينارا يبقى عندها؟

الوضعية 3:

اشترت الأم قالب زبدة وزنه550 غرام

استعملت منه 320 غرام

1/ كم غراما من الزبدة بقي؟

الوضعية 4:

عند إيمان 220 دينار و عند ياسمين

ضعف ما تملك إيمان

1/ما هو المبلغ الذي عند ياسمين؟

2/ كم يملكان معا؟

*اشترنا هدية لأمهما ب 550 دينارا

3/كم بقي عندهما؟

www.dzexams.com